Career Aglasem

Constable (GD) in CAPFs, NIA, SSF and Rifleman (GD) in Assam Rifles Examination, 2018

Roll No. :	[redacted]
Registration No.	
Name :	
Exam Venue :	
Exam Time :	12:30 PM - 2:00 PM
Exam Date :	03/03/2019

Section : **General Section**

Q.1 उस विकल्प का चयन करें जो तीसरे पद से उसी तरह संबंधित है जिस प्रकार पहला पद दूसरे पद से संबंधित है।

$\frac{1}{14} : \frac{1}{196} :: \frac{1}{16} : ?$

Ans

✗ 1. $\frac{1}{225}$

✗ 2. $\frac{1}{144}$

✗ 3. $\frac{1}{289}$

✓ 4. $\frac{1}{256}$

Question ID : **9895808329**
Chosen Option : **1**

Q.2 उस विकल्प का चयन करें जो दर्पण के दाएँ ओर रखे जाने पर दी गई आकृति की दर्पण छवि से सर्वाधिक मेल खाता है।

प्रश्न आकृति:



Ans

✗ 1. 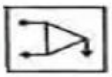

✓ 2. 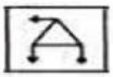

✗ 3. 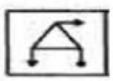

✗ 4. 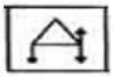

Question ID : **9895808336**
Chosen Option : **2**

Q.3 A, B तथा C शिक्षित हैं। A, C तथा D परिश्रमी हैं। C, D और E नौकरी शुदा हैं। A, B, D तथा E विनम्र हैं। उसका पता लगाइए जो शिक्षित, परिश्रमी तथा विनम्र है, परन्तु बेरोजगार है।

Career Aglasem

Ans
1. E
2. C
3. B
4. A

Question ID : **9895808324**
Chosen Option : **4**

Q.4 उस विकल्प का चयन करें जो सही रूप में रिक्त स्थान की पूर्ति करते हुए श्रृंखला को पूरा करें।

2, 4, 8, 14, 22, _____

Ans
1. 31
2. 35
3. 33
4. 32

Question ID : **9895808328**
Chosen Option : **2**

Q.5 उस विकल्प का चयन करें जो सही रूप में रिक्त स्थान की पूर्ति करते हुए श्रृंखला को पूरा करें।

BDF, CFI, DHL, ?

Ans
1. FJO
2. EOJ
3. EJO
4. FNO

Question ID : **9895808314**
Chosen Option : **3**

Q.6 उस विकल्प का चयन करें जो तीसरे पद से उसी तरह संबंधित है जिस प्रकार पहला पद दूसरे पद से संबंधित है।

FGHM : GHIN : : FKDS : ?

Ans
1. KGSV
2. GHET
3. EFGL
4. GLET

Question ID : **9895808319**
Chosen Option : **4**

Q.7

नीचे दिए गए कथनों के बाद दो निष्कर्ष I और II दिए गए हैं। यह मानते हुए कि कथनों में दी गई जानकारी सत्य है, भले ही वह सर्वज्ञात तथ्यों से भिन्न प्रतीत होती हो और यह निर्णय करें कि कौन सा/से निष्कर्ष तार्किक और निश्चित रूप से कथन में दी गई जानकारी का अनुसरण करता है/करते हैं।

कथन:

सभी फल, संतरे हैं।
कुछ फल, अंगूर हैं।
सभी अंगूर, चेरी हैं।

निष्कर्ष:

I. सभी अंगूर, संतरे हैं।
II. सभी चेरी, फल हैं।

Ans
✔ 1. न ही निष्कर्ष I न II सत्य है।
✘ 2. केवल निष्कर्ष I सत्य है।
✘ 3. केवल निष्कर्ष II सत्य है।
✘ 4. या निष्कर्ष I या II सत्य है।

Question ID : **9895808325**
Chosen Option : **2**

Q.8 चार विकल्प दिए गए हैं, जिनमें से तीन किसी तरह से समान हैं, जबकि एक अलग है। असंगत का चयन करें।

Ans
✘ 1. 88-186
✘ 2. 24-122
✘ 3. 72-170
✔ 4. 36-128

Question ID : **9895808330**
Chosen Option : **2**

Q.9 यदि L को 14 लिखते है, तो GOA को कैसे लिखा जाएगा?

Ans
✔ 1. 29
✘ 2. 26
✘ 3. 21
✘ 4. 22

Question ID : **9895808321**
Chosen Option : **1**

Q.10 चार अक्षर समूह दिए गए हैं, जिनमें से तीन किसी तरह से समान हैं, जबकि एक अलग है। असंगत अक्षर समूह का चयन करें।

Ans
✘ 1. BCFG
✘ 2. WXAB
✔ 3. EGFC
✘ 4. NORS

Question ID : **9895808315**

Chosen Option : **2**

Q.11 एक निश्चित कूट भाषा में, SYSTEM को METSYS के रूप में कूटबद्ध किया जाता है। उस कूट में NORMS को कैसे कूटबद्ध किया जाता है?

Ans
✗ 1. SMNOR
✗ 2. SRMON
✗ 3. SSRMO
✓ 4. SMRON

Question ID : **9895808320**
Chosen Option : **4**

Q.12 उस विकल्प आकृति का चयन करें, जिसमें प्रश्न आकृति छिपी हुई/ अंतर्निहित है।

प्रश्न आकृति:



Ans
✗ 1. 
✗ 2. 
✓ 3. 
✗ 4. 

Question ID : **9895808335**
Chosen Option : **1**

Q.13 उस विकल्प का चयन करें जो सही रूप में रिक्त स्थान की पूर्ति करते हुए श्रृंखला को पूरा करें।

225, 269, 324, 390, _____

Ans
✗ 1. 480
✓ 2. 467
✗ 3. 466
✗ 4. 567

Question ID : **9895808327**
Chosen Option : **3**

Q.14 यदि + का अर्थ '–' है, '–' का अर्थ '÷' है, × का अर्थ '+' है, और '÷' का अर्थ '×' है, तो:

256 – 4 ÷ 2 × 128 =

Ans
✓ 1. 256

✗ 2. 262
✗ 3. 264
✗ 4. 242

Question ID : **9895808332**
Chosen Option : **2**

Q.15 नीचे दिए गए कथनों के बाद दो निष्कर्ष I और II दिए गए हैं । यह मानते हुए कि कथनों में दी गई जानकारी सत्य है, भले ही वह सर्वज्ञात तथ्यों से भिन्न प्रतीत होती हो और यह निर्णय करें कि कौन सा/से निष्कर्ष तार्किक और निश्चित रूप से कथन में दी गई जानकारी का अनुसरण करता है/करते हैं।

कथन:

सभी झींगुर, पक्षी हैं।
कोई पक्षी, तितली नहीं हैं।

निष्कर्ष:

I. सभी तितलियां, झींगुर हैं।
II. कुछ झींगुर, तितलियां हैं।

Ans
✗ 1. या तो निष्कर्ष I या II अनुसरण करता है।
✓ 2. न तो निष्कर्ष I और न ही II अनुसरण करता है।
✗ 3. केवल निष्कर्ष I अनुसरण करता है।
✗ 4. केवल निष्कर्ष II अनुसरण करता है।

Question ID : **9895808326**
Chosen Option : **4**

Q.16 पाँच बन्दर A, B, C, D, और E, पेड़ की एक शाखा पर बैठे हैं।
C, D से अगला बैठा है। D, E के साथ नहीं बैठा है। E, शाखा के बाएं छोर पर बैठा है। C दाएं से दूसरे स्थान पर है। A, B के ठीक दाएँ ओर है और B, E के दाएँ ओर है। A और C साथ में बैठे हैं।

A किस स्थान पर बैठा है?

Ans
✓ 1. B और C के बीच
✗ 2. D और C के बीच
✗ 3. E और D के बीच
✗ 4. C और F के बीच

Question ID : **9895808322**
Chosen Option : **2**

Q.17 X, Y, Z, P, Q और R एक पंक्ति में उत्तर की ओर मुख करके बैठे हैं। X,Y और P का पड़ोसी है। Q, Z और R का पड़ोसी है। P, X के दाएँ ओर है और P और Z एक दूसरे के निकटतम पड़ोसी हैं।

X और Q के मध्य कितने सदस्य हैं?

Ans
✗ 1. तीन
✗ 2. चार
✗ 3. एक

Career Aglasem

✔ 4. दो

Question ID : **9895808323**
Chosen Option : **3**

Q.18 निम्नलिखित में से कौन सी उत्तर आकृति दी गई आकृति को पूरा करेगी?

प्रश्न आकृति:



Ans

✘ 1. 

✘ 2. 

✔ 3. 

✘ 4. 

Question ID : **9895808334**
Chosen Option : **1**

Q.19 एक पैटर्न के साथ एक वर्ग पारदर्शी शीट दी गई है। चार विकल्पों में से यह पता करें कि जब डॉटेड लाइन पर पारदर्शी शीट मुड़ी होती है तो पैटर्न कैसे दिखाई देगा।

प्रश्न आकृति:



Ans

✔ 1. 

✘ 2. 

✘ 3. 

✘ 4. 

Question ID : **9895808337**
Chosen Option : **2**

Q.20

Career Aglasem

वह विकल्प चुनें जो दी गई आकृति श्रृंखला को पूरा करता है।

प्रश्न आकृति:



Ans

✗ 1. 

✗ 2. 

✗ 3. 

✓ 4. 

Question ID : **9895808333**
Chosen Option : **2**

Q.21 दिए गए विकल्पों में से लुप्त संख्या ज्ञात करें।

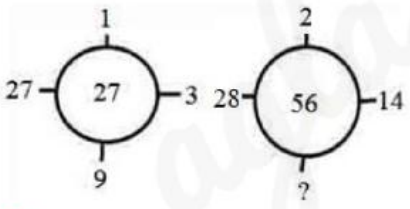

Ans

✗ 1. 6

✗ 2. 3

✓ 3. 4

✗ 4. 5

Question ID : **9895808331**
Chosen Option : **2**

Q.22 चार शब्द दिए गए हैं, जिनमें से तीन किसी तरह से समान हैं, जबकि एक अलग है। असंगत शब्द का चयन करें।

Ans

✗ 1. डेबिट कार्ड

✗ 2. बैंक कार्ड

✓ 3. मेमोरी कार्ड

✗ 4. क्रेडिट कार्ड

Question ID : **9895808316**
Chosen Option : **2**

Q.23 दिए गए विकल्पों में से संबंधित शब्द युगल का चयन करें।

शीतकाल : : कोहरा : : _____ : _____

Ans
1. वर्षा : वृक्ष
2. ग्रीष्मकाल : आर्द्रता
3. बाढ़ : रेगिस्तान
4. मौसम : ठंडा

Question ID : **9895808317**
Chosen Option : **4**

Q.24 बेन आरेख का चयन करें जो दिए गए तीन वर्गों के बीच के संबंध को सर्वोत्तम दर्शाता है।

पांच का वर्ग, तीन का घन, विषम संख्या

Ans
1. 
2. 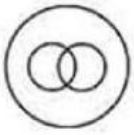
3. 
4. 

Question ID : **9895808338**
Chosen Option : **1**

Q.25 उस विकल्प का चयन करें जो तीसरे पद से उसी तरह संबंधित है जिस प्रकार पहला पद दूसरे पद से संबंधित है।

भोजन : रसोइया : : किताब : ?

Ans
1. रचयिता
2. निर्देशक
3. लेखक
4. वैज्ञानिक

Question ID : **9895808318**
Chosen Option : **3**

Q.26 किन ग्रहों की कक्षाओं के मध्य क्षुद्रग्रहों की बेल्ट है?

Ans
1. मंगल और बृहस्पति

✗ 2. बृहस्पति और शनि

✗ 3. शनि और यूरेनस

✗ 4. यूरेनस और नेप्च्यून

Question ID : **9895807399**
Chosen Option : **2**

Q.27 326 BC में सिकंदर और राजा पोरस के बीच युद्ध किस नदी के किनारे पर लड़ा गया था?

Ans ✔ 1. झेलम

✗ 2. चंबल

✗ 3. सतलज

✗ 4. यमुना

Question ID : **9895807402**
Chosen Option : **2**

Q.28 2018 प्रीमियर लीग फाइनल किस टीम ने जीता?

Ans ✔ 1. चेन्नई सुपर किंग्स

✗ 2. किंग्स XI पंजाब

✗ 3. कोलकाता नाइट राइडर्स

✗ 4. राजस्थान रॉयल्स

Question ID : **9895807381**
Chosen Option : **1**

Q.29 दक्षिण भारतीय वंश, विजयनगर साम्राज्य किस राजा द्वारा स्थापित किया गया था?

Ans ✔ 1. हरिहर I

✗ 2. नंदीवर्धन

✗ 3. बिंदुसार

✗ 4. दंतिदुर्ग

Question ID : **9895807400**
Chosen Option : **4**

Q.30 21 दिसंबर, 2018 को भारत का विदेशी मुद्रा भंडार कितना था?

Ans ✗ 1. US$ 677.85 बिलियन

✗ 2. US$ 524.17 बिलियन

✗ 3. US$ 491.72 बिलियन

✔ 4. US$ 393.29 बिलियन

Question ID : **9895807386**
Chosen Option : **1**

Career Aglasem

Q.31 2018-19 के लिए मडुवा का न्यूनतम समर्थन मूल्य कितना है?

Ans
✔ 1. ₹2,897 प्रति क्विंटल
✘ 2. ₹5,150 प्रति क्विंटल
✘ 3. ₹1,950 प्रति क्विंटल
✘ 4. ₹2,430 प्रति क्विंटल

Question ID : **9895807388**
Chosen Option : **2**

Q.32 केंद्रीय बजट 2018 में स्वयं-सहायता समूहों को दिए जाने वाले ऋण की राशि कितनी बढ़ाई गई है?

Ans
✔ 1. ₹75,000 करोड़
✘ 2. ₹55,000 करोड़
✘ 3. ₹15,000 करोड़
✘ 4. ₹35,000 करोड़

Question ID : **9895807387**
Chosen Option : **2**

Q.33 निम्नलिखित में से कौन सा एक संवैधानिकनिकाय है?

Ans
✘ 1. राज्य सूचना आयोग
✘ 2. लोकपाल और लोकायुक्त
✘ 3. केन्द्रीय सतर्कता आयोग
✔ 4. नियंत्रक एवं महा लेखापरीक्षक

Question ID : **9895807390**
Chosen Option : **3**

Q.34 लोक कला, नृत्य, संगीत और नाटक की वह शैली कौन सी है जो केरल में ओणम त्यौहार के दौरान बाघ के शिकार की कहानी प्रस्तुत करती है?

Ans
✘ 1. मिंजर
✔ 2. पुली काली
✘ 3. करमा
✘ 4. मड़ई

Question ID : **9895807379**
Chosen Option : **2**

Q.35 कौन सी मांसपेशी कनपटी की हड्डी को जबड़े से जोड़ती है?

Ans
✘ 1. सोलियस
✘ 2. डेल्टॉयड
✔ 3. मेसेटर

✗ 4. पेक्टोरेलिस मेजर

Question ID : **9895807396**
Chosen Option : **2**

Q.36 आवर्त सारणी के 6ठे आवर्त और समूह IVA में कौन सा तत्व रखा गया है?

Ans
✗ 1. टेलेरियम (क्रमांक 52 पर)
✓ 2. लीड (क्रमांक 82 पर)
✗ 3. बेरियम (क्रमांक 56 पर)
✗ 4. स्ट्रोंटियम (क्रमांक 38 पर)

Question ID : **9895807394**
Chosen Option : **1**

Q.37 1942 के भारत छोड़ो आंदोलन के वक्त गोवालिया टैंक मैदान में भारत का राष्ट्रीय ध्वज फहराने वाला व्यक्ति कौन था?

Ans
✗ 1. शंभू दत्त शर्मा
✗ 2. अल्लूरी सीताराम राजू
✓ 3. अरुणा आसफ अली
✗ 4. मातंगिनी हाजरा

Question ID : **9895807401**
Chosen Option : **2**

Q.38 कौन सी पर्वत श्रेणी में दुनिया की दूसरी सबसे ऊंची चोटी K2 स्थित है?

Ans
✗ 1. पीर पंजाल पर्वतमाला
✗ 2. जंस्कार पर्वतमाला
✗ 3. धौलाधार पर्वतमाला
✓ 4. ईस्ट काराकोरम पर्वतमाला

Question ID : **9895807398**
Chosen Option : **4**

Q.39 गराड़ी नृत्य की शैली किस राज्य में लोकप्रिय है?

Ans
✗ 1. मध्य प्रदेश
✓ 2. पुडुचेरी
✗ 3. महाराष्ट्र
✗ 4. पंजाब

Question ID : **9895807380**
Chosen Option : **1**

Q.40 ब्लाइंड वर्ल्ड कप, 2018 का फाइनल जीतने के लिए भारत ने किस देश की क्रिकेट टीम को हराया?

Ans

Career Aglasem

✗ 1. न्यूजीलैंड

✗ 2. इंग्लैंड

✗ 3. दक्षिण अफ्रीका

✓ 4. पाकिस्तान

Question ID : **9895807382**
Chosen Option : **1**

Q.41 किस अधिनियम ने ईस्ट इंडिया कंपनी के सिविल सेवक की भर्ती के लिए आधार के रूप में खुली प्रतियोगिता की व्यवस्था लागू की, जिसका अर्थ था कि भारतीय सिविल सेवा सबके लिए खुल गई?

Ans

✗ 1. पिट्स इंडिया एक्ट

✗ 2. 1858 का भारत सरकार अधिनियम

✗ 3. रेगुलेटिंग एक्ट 1773

✓ 4. 1853 का चार्टर एक्ट

Question ID : **9895807391**
Chosen Option : **1**

Q.42 भारतीय संविधान में अवशिष्ट शक्तियों का विचार किस देश के संविधान से प्रेरित है?

Ans

✗ 1. यूनाइटेड किंगडम

✗ 2. ऑस्ट्रेलिया

✓ 3. कनाडा

✗ 4. आयरलैंड

Question ID : **9895807389**
Chosen Option : **1**

Q.43 दादासाहेब फाल्के पुरस्कार पाने वाले प्रथम व्यक्ति का नाम बताइए।

Ans

✗ 1. बोमीरेड्डी नरसिम्हा रेड्डी

✗ 2. पंकज मलिक

✓ 3. देविका रानी

✗ 4. पृथ्वीराज कपूर

Question ID : **9895807383**
Chosen Option : **4**

Q.44 निम्न में से कौन सी नदी गंगा की एक सहायक नदी नहीं है?

Ans

✗ 1. गोमती

✗ 2. चंबल

✗ 3. बेतवा

✓ 4. भीम

Question ID : **9895807397**

Career Aglasem

Chosen Option : **1**

Q.45 उपसर्ग '_____' 10^{18} के अपवर्तक के बराबर है।

Ans
1. exa ✔
2. atto ✘
3. femto ✘
4. peta ✘

Question ID : **9895807393**
Chosen Option : **4**

Q.46 कौन सी लिपि कन्नड़ और तेलुगू की लिपि के तौर पर विकसित हुई?

Ans
1. कदंब ✔
2. ग्रंथ ✘
3. ब्राह्मी ✘
4. शारदा ✘

Question ID : **9895807378**
Chosen Option : **1**

Q.47 मिस वर्ल्ड का खिताब जीतने वाली पहली भारतीय और पहली एशियाई महिला का नाम बताइए।

Ans
1. रीता फारिया ✔
2. डायना हेडन ✘
3. जीनत अमान ✘
4. तारा एनी फौंसेका ✘

Question ID : **9895807385**
Chosen Option : **2**

Q.48 लोन फॉक्स डांसिंगः माय ऑटोबायोग्राफी किसकी आत्मकथा है?

Ans
1. डेविड दविदर ✘
2. खुशवंत सिंह ✘
3. शरदिंदु बंदोपाध्याय ✘
4. रस्किन बांड ✔

Question ID : **9895807384**
Chosen Option : **4**

Q.49 M' द्रव्यमान और 'R' त्रिज्या वाले एक ठोस गोले का इसके केंद्र से गुजरने वाले अक्ष पर जड़त्वाघूर्ण कितना होगा?

Ans
1. 5MR/2 ✘
2. $5MR^2/2$ ✘
3. 2MR/5 ✘
4. $2MR^2/5$ ✔

Career Aglasem

Question ID : **9895807392**
Chosen Option : **2**

Q.50 कौन सी मिश्रधातु में लीड और टिन होते हैं?

Ans
✗ 1. जर्मन सिल्वर
✗ 2. बेल मेटल
✓ 3. सोल्डर
✗ 4. गन मेटन

Question ID : **9895807395**
Chosen Option : **1**

Q.51 एक आदमी 5 घंटे में 13 km धारा-प्रतिकूल (अपस्ट्रीम) और 5 घंटे में 28 km धारा-अनुकूल (डाउनस्ट्रीम) नौका विहार करता है, तो धारा की गति ज्ञात कीजिए।

Ans
✗ 1. 1.4 km/hr
✗ 2. 1.7 km/hr
✓ 3. 1.5 km/hr
✗ 4. 1.6 km/hr

Question ID : **9895807721**
Chosen Option : **2**

Q.52 ₹544 को A, B, C के बीच 3: 5: 8 के अनुपात में विभाजित किया जाना है। तो C को B से कितना अधिक मिलेगा?

Ans
✗ 1. ₹170
✗ 2. ₹92
✓ 3. ₹102
✗ 4. ₹272

Question ID : **9895807713**
Chosen Option : **2**

Q.53 दो संख्याओं का योग उनके बीच अंतर का 4 गुना है। यदि छोटी संख्या 45 है, तो बड़ी संख्या ज्ञात कीजिए।

Ans
✓ 1. 75
✗ 2. 65
✗ 3. 80
✗ 4. 85

Question ID : **9895807715**
Chosen Option : **2**

Q.54 80 वस्तुओं का माध्य 45 पाया गया। यदि गणना के समय, दो मदों को गलती से 26 और 14 के बजाय 62 और 58 लिया गया, तो सही माध्य होगा:

Ans
✗ 1. 45
✓ 2. 44
✗ 3. 42
✗ 4. 43

Question ID : **9895807709**

Chosen Option : **2**

Q.55 22 परिक्रमण पर 49 cm त्रिज्या के पहिया द्वारा तय की गई समान दूरी को तय करने के लिए 98 cm त्रिज्या वाले पहिये द्वारा कितने परिक्रमण लगाने की आवश्यकता है?

Ans
✗ 1. 14
✗ 2. 13
✗ 3. 12
✓ 4. 11

Question ID : **9895807724**
Chosen Option : **2**

Q.56 44cm × 28cm आकार के कागज की एक आयताकार शीट,को 44 cm लंबाई में घुमाया जाता है और एक बेलन (सिलेंडर) बनता है। बने हुए बेलन का आयतन ज्ञात कीजिए।

Ans
✓ 1. 4312 cm^3
✗ 2. 4123 cm^3
✗ 3. 4131 cm^3
✗ 4. 4132 cm^3

Question ID : **9895807722**
Chosen Option : **2**

Q.57 A अकेला किसी कार्य को 6 दिनों में, B और C 4 दिनों में, A और C 3 दिनों में करते हैं। तो B को कार्य पूरा करने में कितने दिन लगेंगे?

Ans
✗ 1. 10 दिन
✗ 2. 8 दिन
✗ 3. 14 दिन
✓ 4. 12 दिन

Question ID : **9895807718**
Chosen Option : **3**

Q.58 ब्लैकबेरी ने शर्ट पर 20% की छूट की घोषणा की। कुमार दुकान पर गया। वह छूट में ₹ 400 बचाना चाहता था। ऐसा करने के लिए उसे कितने शर्ट खरीदने चाहिए, यदि प्रत्येक शर्ट की कीमत ₹500 है?

Ans
✗ 1. 5
✗ 2. 3
✗ 3. 6
✓ 4. 4

Question ID : **9895807708**
Chosen Option : **1**

Q.59 सरलीकृत करें: $15.9 \div 0.3 + 3.2 \times (7.6 - 3.4) - 50$

Ans
✓ 1. 16.44
✗ 2. 15.44
✗ 3. 15.42
✗ 4. 16.24

Career Aglasem

Question ID : **9895807705**
Chosen Option : **3**

Q.60 दो पाइप A और B क्रमशः 12 घंटे और 15 घंटे में एक टैंक भर सकते हैं, जबकि एक तीसरा पाइप C 10 घंटे में टैंक खाली कर सकता है। यदि सभी तीन पाइप एक साथ खोले जाते हैं, तो टैंक को भरने में कितना समय लगेगा।

Ans
✗ 1. 15 घंटे
✓ 2. 20 घंटे
✗ 3. 18 घंटे
✗ 4. 25 घंटे

Question ID : **9895807719**
Chosen Option : **3**

Q.61 एक बेंडर ने एक रुपये में 10 टॉफी की दर से टॉफियां खरीदी। उसे 25% लाभ हासिल करने के लिए एक रुपये में कितनी टॉफियां बेचनी चाहिए?

Ans
✗ 1. 5
✓ 2. 8
✗ 3. 7
✗ 4. 6

Question ID : **9895807711**
Chosen Option : **2**

Q.62 एक व्यक्ति अपनी आय का 35% भोजन पर और 55% कपड़ों पर खर्च करता है। यदि उसके पास अभी भी ₹400 शेष है, तो उसकी कुल आय क्या है?

Ans
✗ 1. ₹3000
✗ 2. ₹5000
✓ 3. ₹4000
✗ 4. ₹4500

Question ID : **9895807710**
Chosen Option : **2**

Q.63 सरलीकृत करें: $\frac{18+\frac{3}{2}\ of\ 12-4}{28-\frac{3}{2}\ of\ (12-4)}$

Ans
✗ 1. 3
✓ 2. 2
✗ 3. 5
✗ 4. 4

Question ID : **9895807704**
Chosen Option : **1**

Q.64 सबसे छोटी संख्या कौन सी है जिसे 12, 15 और 18 से विभाजित करने पर प्रत्येक मामले में शेषफल 7 आता है?

Ans
✗ 1. 194
✓ 2. 187
✗ 3. 173

✗ 4. 182

Question ID : **9895807703**
Chosen Option : **2**

Q.65 निम्न तालिका का अध्ययन करें और प्रश्न का उत्तर दें।

विभिन्न राज्यों में निम्न वर्षों में एक प्रतियोगी परीक्षा में उपस्थित और अर्हताप्राप्त उम्मीदवारों की संख्या

राज्य	वर्ष									
	1997		1998		1999		2000		2001	
	App.	Qual.	App.	Qual.	App.	Qual.	App.	Qual.	App.	Qual.
M	5200	720	8500	980	7400	850	6800	775	9500	1125
N	7500	840	9200	1050	8450	920	9200	980	8800	1020
P	6400	780	8800	1020	7800	890	8750	1010	9750	1250
Q	8100	950	9500	1240	8700	980	9700	1200	8950	995
R	7800	870	7600	940	9800	1350	7600	945	7990	885

1998 में सभी पाँच राज्यों के बीच उपस्थित उम्मीदवारों की कुल संख्या, अर्हताप्राप्त उम्मीदवारों की कुल संख्या का कितने प्रतिशत है?

Ans
✓ 1. 11.99%
✗ 2. 10.99%
✗ 3. 9.99%
✗ 4. 12.99%

Question ID : **9895807727**
Chosen Option : **1**

Q.66 एक आदमी 10 km/hr की गति से अपने ऑफिस जाता है और 15 km/hr की गति से लौटता है। यदि वह कुल 6 घंटे का समय लेता है, तो निवास और ऑफिस के बीच की दूरी है:

Ans
✓ 1. 36 km
✗ 2. 30 km
✗ 3. 26 km
✗ 4. 40 km

Question ID : **9895807720**
Chosen Option : **2**

Q.67 3 वर्ष पहले, बैंगलोर की जनसंख्या 3 लाख थी। यदि यह संख्या क्रमिक 3 वर्षों के दौरान क्रमशः 2%, 5% और 4% की दर से बढ़ती है, तो वर्तमान जनसंख्या है:

Ans
✗ 1. 3,35,214
✗ 2. 3,53,412
✓ 3. 3,34,152
✗ 4. 3,43,152

Question ID : **9895807717**
Chosen Option : **2**

Q.68

Career Aglasem

निम्न तालिका का अध्ययन करें और प्रश्न का उत्तर दें।

विभिन्न राज्यों में निम्न वर्षों में एक प्रतियोगी परीक्षा में उपस्थित और अर्हताप्राप्त उम्मीदवारों की संख्या

राज्य	वर्ष									
	1997		1998		1999		2000		2001	
	App.	Qual.	App.	Qual.	App.	Qual.	App.	Qual.	App.	Qual.
M	5200	720	8500	980	7400	850	6800	775	9500	1125
N	7500	840	9200	1050	8450	920	9200	980	8800	1020
P	6400	780	8800	1020	7800	890	8750	1010	9750	1250
Q	8100	950	9500	1240	8700	980	9700	1200	8950	995
R	7800	870	7600	940	9800	1350	7600	945	7990	885

2000 में एक साथ सभी राज्यों से अर्हताप्राप्त उम्मीदवारों की कुल संख्या 2001 में सभी राज्यों से अर्हताप्राप्त उम्मीदवारों की कुल संख्या का लगभग कितना प्रतिशत है?

Ans
✗ 1. 94%
✓ 2. 93%
✗ 3. 91%
✗ 4. 92%

Question ID : **9895807725**
Chosen Option : **1**

Q.69 एक तार एक वर्ग के आकार में मोड़ा जाता है जिसका 121 cm^2 क्षेत्रफल है। यदि तार को एक वृत्त के रूप में मोड़ा जाए तो वृत्त की त्रिज्या है:

Ans
✓ 1. 7 cm
✗ 2. 8 cm
✗ 3. 6 cm
✗ 4. 5 cm

Question ID : **9895807723**
Chosen Option : **1**

Q.70 3 के पहले 6 विषम गुणकों का औसत है

Ans
✗ 1. 28
✓ 2. 18
✗ 3. 30
✗ 4. 15

Question ID : **9895807706**
Chosen Option : **2**

Q.71 ₹720 में 18 गेंदे बेचने पर, 6 गेंदों के क्रय मूल्य के बराबर हानि होती है। एक गेंद का क्रय मूल्य है:

Ans
✓ 1. ₹60
✗ 2. ₹50
✗ 3. ₹70
✗ 4. ₹80

Question ID : **9895807712**
Chosen Option : **3**

Career Aglasem

Q.72 A अपने वेतन का 80% और B अपने वेतन का 75% खर्च करता है। लेकिन दोनों की बचत बराबर है। यदि उनकी आय का योग ₹72,000 है तो B की आय ज्ञात करें।

Ans
1. ₹38,000 ✗
2. ₹32,000 ✓
3. ₹36,000 ✗
4. ₹40,000 ✗

Question ID : **9895807714**
Chosen Option : **2**

Q.73 निम्न तालिका का अध्ययन करें और प्रश्न का उत्तर दें।

विभिन्न राज्यों में निम्न वर्षों में एक प्रतियोगी परीक्षा में उपस्थित और अर्हताप्राप्त उम्मीदवारों की संख्या

राज्य	वर्ष									
	1997		1998		1999		2000		2001	
	App.	Qual.	App.	Qual.	App.	Qual.	App.	Qual.	App.	Qual.
M	5200	720	8500	980	7400	850	6800	775	9500	1125
N	7500	840	9200	1050	8450	920	9200	980	8800	1020
P	6400	780	8800	1020	7800	890	8750	1010	9750	1250
Q	8100	950	9500	1240	8700	980	9700	1200	8950	995
R	7800	870	7600	940	9800	1350	7600	945	7990	885

दिए गए किस वर्ष में, राज्य N से उपस्थित उम्मीदवारों की संख्या में अर्हताप्राप्त उम्मीदवार का अधिकतम प्रतिशत है?

Ans
1. 1999 ✗
2. 1997 ✗
3. 2001 ✓
4. 1998 ✗

Question ID : **9895807726**
Chosen Option : **3**

Q.74 तीन संख्याओं में से, पहली संख्या दूसरी संख्या की दोगुनी और तीसरी संख्या की तीन गुनी है। यदि तीनों संख्याओं का औसत 660 है, तो सबसे छोटी संख्या क्या है?

Ans
1. 260 ✗
2. 300 ✗
3. 320 ✗
4. 360 ✓

Question ID : **9895807707**
Chosen Option : **1**

Q.75 एक व्यक्ति ने SBI से 10% प्रति वर्ष की साधारण ब्याज दर पर ऋण लिया। 5 वर्ष बाद, उसने ब्याज के रूप में ₹5,000 का भुगतान किया। तो उसके द्वारा उधर ली गई मूल राशि है:

Ans
1. ₹9,000 ✗
2. ₹8,000 ✗
3. ₹12,000 ✗
4. ₹10,000 ✓

Question ID : **9895807716**

Chosen Option : **3**

Section : **English Language**

Q.1 Select the option that means the same as the given idiom.

To have a blast.

Ans
1. To have too many friends ✗
2. To have a good time ✗
3. To burst a balloon ✓
4. To fire a cracker ✗

Question ID : **9895808054**
Chosen Option : **--**

Q.2 Select the synonym of the given word.

GALLANT

Ans
1. Restless ✗
2. Infirm ✗
3. Courageous ✓
4. Anxious ✗

Question ID : **9895808049**
Chosen Option : **--**

Q.3 Select the correctly spelt word.

Ans
1. Hetarogeneous ✓
2. Heterogeneous ✗
3. Heteroganeous ✗
4. Heterogenaous ✗

Question ID : **9895808058**
Chosen Option : **--**

Q.4 Select the most appropriate option to substitute the underlined segment in the given sentence. If there is no need to substitute it, select No improvement.

Karishma sent a word to me that she would be coming over.

Ans
1. sent words ✗
2. had sent word ✓
3. sent a word ✗
4. No improvement ✗

Question ID : **9895808038**
Chosen Option : **--**

Q.5 From the given options, identify the segment in the sentence which contains the grammatical error.

Technology have not only revolutionized the learning process but also has spread knowledge liberally across the world.

Ans
1. Technology have not only ✓

Career Aglasem

2. the learning process
3. across the world
4. has spread knowledge

Question ID : **9895808037**
Chosen Option : --

Q.6 Select the option that means the same as the given idiom.

To hit the road.

Ans
1. Begin one's journey
2. To meet with an accident
3. To complete a journey
4. To cross the road

Question ID : **9895808053**
Chosen Option : --

Q.7 Select the synonym of the given word.

ERADICATE

Ans
1. Decorate
2. Abolish
3. Dedicate
4. Create

Question ID : **9895808050**
Chosen Option : --

Q.8 Select the most appropriate word to fill in the blank.

Every good work is the result of cooperation and best wishes of _____ people.

Ans
1. limited
2. few
3. rare
4. several

Question ID : **9895808060**
Chosen Option : --

Q.9 Select the antonym of the given word.

LIBERAL

Ans
1. Aloof
2. Quiet
3. Reserved
4. Stingy

Question ID : **9895808051**
Chosen Option : --

Q.10 Select the most appropriate option to substitute the underlined segment in the given sentence. If there is no need to substitute it, select No improvement.

An award winning by a player in any game is testimony of his/her hard work and dedication.

Ans
1. No improvement ✗
2. An award won for a player ✗
3. A award won by a player ✗
4. An award win by a player ✓

Question ID : **9895808040**
Chosen Option : --

Q.11 Select the word which means the same as the group of words given.

Anything that cannot be avoided.

Ans
1. Indelible ✗
2. Infallible ✓
3. Invincible ✗
4. Inevitable ✗

Question ID : **9895808055**
Chosen Option : --

Q.12 Select the word which means the same as the group of words given.

An imaginary ideal society free of poverty and suffering.

Ans
1. Egalitarian ✗
2. Utopian ✗
3. Urban ✗
4. Cosmopolitan ✓

Question ID : **9895808056**
Chosen Option : --

Q.13 Select the antonym of the given word.

MUNDANE

Ans
1. Common ✗
2. Regular ✗
3. Extraordinary ✓
4. Simple ✗

Question ID : **9895808052**
Chosen Option : --

Q.14 Select the most appropriate word to fill in the blank.

Friends who empathise with one another _____ greater satisfaction with their friendship.

Ans
1. appreciate ✗

2. experience

3. relish

4. believe

Question ID : **9895808059**
Chosen Option : --

Q.15 Select the most appropriate option to substitute the underlined segment in the given sentence. If there is no need to substitute it, select No improvement.

There is a paradigm shift with digital media now becoming the primary source of information.

Ans
1. There was paradigm shift
2. There is paradigm shifts
3. There are paradigm shift
4. No improvement

Question ID : **9895808039**
Chosen Option : --

Q.16 Select the correctly spelt word.

Ans
1. Receipt
2. Riceipt
3. Reciept
4. Recepit

Question ID : **9895808057**
Chosen Option : --

Comprehension:

In the following passage some words have been deleted. Fill in the blanks with the help of the alternatives given.

We are the leaders of the day and we have (1) _____ to fight against corruption. We have taken an oath that we will (2) _____ pay bribes nor will accept them in our life. If we can develop a committed young generation with this commitment and (3) _____, we can make a big change. We have several examples of how a committed leadership can make a big positive (4) _____ on social life. Another solution is to go for complete digitization and making the process more (5) _____. So let's be optimistic and dream about a corruption free society.

SubQuestion No : 17

Q.17 Select the most appropriate option that will fill in the blank number 1.

Ans
1. resolved
2. taken
3. directed
4. reserved

Question ID : **9895808044**
Chosen Option : --

Comprehension:

In the following passage some words have been deleted. Fill in the blanks with the help of the alternatives given.

We are the leaders of the day and we have (1) _____ to fight against corruption. We have taken an oath that we will (2) _____ pay bribes nor will accept them in our life. If we can develop a committed young generation with this commitment and (3) _____, we can make a big change. We have several examples of how a committed leadership can make a big positive (4) _____ on social life. Another solution is to go for complete digitization and making the process more (5) _____. So let's be optimistic and dream about a corruption free society.

SubQuestion No : 18

Q.18 Select the most appropriate option that will fill in the blank number 2.

Ans
1. soon ✗
2. later ✗
3. ever ✓
4. never ✗

Question ID : **9895808045**
Chosen Option : --

Comprehension:

In the following passage some words have been deleted. Fill in the blanks with the help of the alternatives given.

We are the leaders of the day and we have (1) _____ to fight against corruption. We have taken an oath that we will (2) _____ pay bribes nor will accept them in our life. If we can develop a committed young generation with this commitment and (3) _____, we can make a big change. We have several examples of how a committed leadership can make a big positive (4) _____ on social life. Another solution is to go for complete digitization and making the process more (5) _____. So let's be optimistic and dream about a corruption free society.

SubQuestion No : 19

Q.19 Select the most appropriate option that will fill in the blank number 3.

Ans
1. support ✓
2. reliance ✗
3. belief ✗
4. promise ✗

Question ID : **9895808046**
Chosen Option : --

Comprehension:

In the following passage some words have been deleted. Fill in the blanks with the help of the alternatives given.

We are the leaders of the day and we have (1) _____ to fight against corruption. We have taken an oath that we will (2) _____ pay bribes nor will accept them in our life. If we can develop a committed young generation with this commitment and (3) _____, we can make a big change. We have several examples of how a committed leadership can make a big positive (4) _____ on social life. Another solution is to go for complete digitization and making the process more (5) _____. So let's be optimistic and dream about a corruption free society.

SubQuestion No : 20

Q.20 Select the most appropriate option that will fill in the blank number 4.

Ans
✗ 1. liability
✓ 2. blame
✗ 3. impact
✗ 4. guilt

Question ID : **9895808047**
Chosen Option : --

Comprehension:

In the following passage some words have been deleted. Fill in the blanks with the help of the alternatives given.

We are the leaders of the day and we have (1) _____ to fight against corruption. We have taken an oath that we will (2) _____ pay bribes nor will accept them in our life. If we can develop a committed young generation with this commitment and (3) _____, we can make a big change. We have several examples of how a committed leadership can make a big positive (4) _____ on social life. Another solution is to go for complete digitization and making the process more (5) _____. So let's be optimistic and dream about a corruption free society.

SubQuestion No : 21

Q.21 Select the most appropriate option that will fill in the blank number 5.

Ans
✗ 1. hidden
✓ 2. secret
✗ 3. transparent
✗ 4. opaque

Question ID : **9895808048**
Chosen Option : --

Q.22 From the given options, identify the segment in the sentence which contains the grammatical error.

Fitness does not mean to be only physically fit, it also meant healthy mental state of a person.

Ans
✓ 1. Fitness does not mean
✗ 2. it also meant healthy
✗ 3. only physically fit

✗ 4. mental state of a person

Question ID : **9895808035**
Chosen Option : **--**

Q.23 Select the most appropriate option to fill in the blank.

Artificial intelligence (AI) _____ defined as a system that employs machine learning.

Ans
✗ 1. are
✓ 2. was
✗ 3. is
✗ 4. were

Question ID : **9895808041**
Chosen Option : **--**

Q.24 Select the most appropriate option to fill in the blank.

Honesty _____ to being trustworthy and gaining personal recognition.

Ans
✗ 1. referring
✗ 2. refers
✗ 3. referred
✓ 4. refer

Question ID : **9895808042**
Chosen Option : **--**

Q.25 From the given options, identify the segment in the sentence which contains the grammatical error.

Poverty and lack of schools are primary reasons for prevalence of child labour for any developing country.

Ans
✗ 1. for any developing country
✗ 2. of child labour
✗ 3. primary reasons
✓ 4. lack of schools

Question ID : **9895808036**
Chosen Option : **--**

Section : **Hindi Language**

Q.1 दिए गए शब्द का विलोम चुनें।

रोगी

Ans
✗ 1. योगी
✗ 2. भोगी
✗ 3. बलवान
✓ 4. निरोग

Question ID : **9895806830**
Chosen Option : **4**

Q.2

Career Aglasem

दिए गए शब्द का विलोम चुनें।

सजीव

Ans
✔ 1. निर्जीव
✗ 2. जीवित
✗ 3. राजीव
✗ 4. जीव

Question ID : **9895806829**
Chosen Option : **1**

Q.3 रिक्त स्थान को भरने के लिए उपयुक्त शब्द का चयन करें।

पेट्रोल के _____ बढ़ गए हैं।

Ans
✗ 1. नाम
✔ 2. दाम
✗ 3. शाम
✗ 4. कीमत

Question ID : **9895806821**
Chosen Option : **4**

Q.4 दिये गये वाक्यांश के लिए एक शब्द दीजिये।

हाथ से लिखा हुआ

Ans
✗ 1. अधोलिखित
✗ 2. निम्नलिखित
✗ 3. उल्लिखित
✔ 4. हस्तलिखित

Question ID : **9895806836**
Chosen Option : **4**

Q.5 दिए गए वाक्य का वह भाग ज्ञात करें जिसमें कोई त्रुटि है।

तुलसीदास जी ने रामचरित मानस की रचना अवधी भाषा में किए हैं।

Ans
✗ 1. तुलसीदास जी ने
✗ 2. रामचरित मानस की रचना
✔ 3. किए हैं।
✗ 4. अवधी भाषा में

Question ID : **9895806814**
Chosen Option : **3**

Career Aglasem

Q.6 निम्नलिखित में से उस विकल्प का चयन करें जो 'नाक में नकेल डालना' मुहावरे का अर्थ व्यक्त करता है।

Ans
✗ 1. परेशान करना
✗ 2. अनियंत्रित करना
✗ 3. नाक में नथ पहनाना
✓ 4. नियत्रंण में करना

Question ID : **9895806834**
Chosen Option : **4**

Q.7 दिये गये वाक्यांश के लिए एक शब्द दीजिये।

शरण में आया हुआ

Ans
✗ 1. आगत
✗ 2. गोपनीय
✓ 3. शरणागत
✗ 4. शरणीय

Question ID : **9895806835**
Chosen Option : **2**

Q.8 सही वर्तनी वाले शब्द का चयन करें।

Ans
✗ 1. हंसवहिनि
✗ 2. हनसवहिनी
✓ 3. हंसवाहिनी
✗ 4. हंसवाहीनी

Question ID : **9895806837**
Chosen Option : **4**

Comprehension:

निम्नलिखित गद्यांश के रिक्त स्थानों की पूर्ति गद्यांश के नीचे दिए गए प्रश्नों के अनुसार कीजिए-

आज के समय में लड़का लड़की एक _____ (1) हैं। आज अगर कोई ये मानता है कि लड़की कुछ नहीं कर सकती और लड़का सब कुछ कर सकता है तो वह इंसान _____ (2) है। आज का समय पहले की तरह नहीं जहाँ लड़कियों को सिर्फ घर का काम और बच्चों को संभालने की _____ (3) दी जाती थी और ये माना जाता था कि इसके इलावा लड़कियाँ और कुछ नहीं कर सकतीं। अब लड़कियाँ लड़कों के कंधे से कन्धा _____ (4) काम करती हैं। अब सरकार और समाज ने दोनों को _____ (5) का दर्जा दिया है।

SubQuestion No : 9

Q.9 गद्यांश में संकेतित रिक्त स्थान (1) के लिए उपयुक्त शब्द होगा।

Ans
✗ 1. सामान
✗ 2. अभिन्न
✗ 3. भिन्न
✓ 4. समान

Question ID : **9895806824**
Chosen Option : **1**

Comprehension:

निम्नलिखित गद्यांश के रिक्त स्थानों की पूर्ति गद्यांश के नीचे दिए गए प्रश्नों के अनुसार कीजिए-

आज के समय में लड़का लड़की एक _____ (1) हैं। आज अगर कोई ये मानता है कि लड़की कुछ नहीं कर सकती और लड़का सब कुछ कर सकता है तो वह इंसान _____ (2) है। आज का समय पहले की तरह नहीं जहाँ लड़कियों को सिर्फ घर का काम और बच्चों को संभालने की _____ (3) दी जाती थी और ये माना जाता था कि इसके इलावा लड़कियाँ और कुछ नहीं कर सकतीं। अब लड़कियाँ लड़कों के कंधे से कन्धा _____ (4) काम करती हैं। अब सरकार और समाज ने दोनों को _____ (5) का दर्जा दिया है।

SubQuestion No : 10

Q.10 गद्यांश में संकेतित रिक्त स्थान (2) के लिए उपयुक्त शब्द होगा।

Ans
✓ 1. गलत
✗ 2. आदर्श
✗ 3. सही
✗ 4. उचित

Question ID : **9895806825**
Chosen Option : **1**

Comprehension:

Career Aglasem

निम्नलिखित गद्यांश के रिक्त स्थानों की पूर्ति गद्यांश के नीचे दिए गए प्रश्नों के अनुसार कीजिए-

आज के समय में लड़का लड़की एक _____ (1) हैं। आज अगर कोई ये मानता है कि लड़की कुछ नहीं कर सकती और लड़का सब कुछ कर सकता है तो वह इंसान _____ (2) है। आज का समय पहले की तरह नहीं जहाँ लड़कियों को सिर्फ घर का काम और बच्चों को संभालने की _____ (3) दी जाती थी और ये माना जाता था कि इसके इलावा लड़कियाँ और कुछ नहीं कर सकतीं। अब लड़कियाँ लड़कों के कंधे से कन्धा _____ (4) काम करती हैं। अब सरकार और समाज ने दोनों को _____ (5) का दर्जा दिया है।

SubQuestion No : 11

Q.1 1 गद्यांश में संकेतित रिक्त स्थान (3) के लिए उपयुक्त शब्द होगा।

Ans
✗ 1. ईमानदारी
✗ 2. नौकरी
✗ 3. हिस्सेदारी
✓ 4. जिम्मेदारी

Question ID : **9895806826**
Chosen Option : **4**

Comprehension:

निम्नलिखित गद्यांश के रिक्त स्थानों की पूर्ति गद्यांश के नीचे दिए गए प्रश्नों के अनुसार कीजिए-

आज के समय में लड़का लड़की एक _____ (1) हैं। आज अगर कोई ये मानता है कि लड़की कुछ नहीं कर सकती और लड़का सब कुछ कर सकता है तो वह इंसान _____ (2) है। आज का समय पहले की तरह नहीं जहाँ लड़कियों को सिर्फ घर का काम और बच्चों को संभालने की _____ (3) दी जाती थी और ये माना जाता था कि इसके इलावा लड़कियाँ और कुछ नहीं कर सकतीं। अब लड़कियाँ लड़कों के कंधे से कन्धा _____ (4) काम करती हैं। अब सरकार और समाज ने दोनों को _____ (5) का दर्जा दिया है।

SubQuestion No : 12

Q.1 2 गद्यांश में संकेतित रिक्त स्थान (4) के लिए उपयुक्त शब्द होगा।

Ans
✗ 1. हटाकर
✗ 2. टकराकर
✓ 3. मिलाकर

Career Aglasem

✗ 4. लगाकर

Question ID : **9895806827**
Chosen Option : **3**

Comprehension:

निम्नलिखित गद्यांश के रिक्त स्थानों की पूर्ति गद्यांश के नीचे दिए गए प्रश्नों के अनुसार कीजिए-

आज के समय में लड़का लड़की एक _____ (1) हैं। आज अगर कोई ये मानता है कि लड़की कुछ नहीं कर सकती और लड़का सब कुछ कर सकता है तो वह इंसान _____ (2) है। आज का समय पहले की तरह नहीं जहाँ लड़कियों को सिर्फ घर का काम और बच्चों को संभालने की _____ (3) दी जाती थी और ये माना जाता था कि इसके इलावा लड़कियाँ और कुछ नहीं कर सकतीं। अब लड़कियाँ लड़कों के कंधे से कन्धा _____ (4) काम करती हैं। अब सरकार और समाज ने दोनों को _____ (5) का दर्जा दिया है।

SubQuestion No : 13

Q.13 गद्यांश में संकेतित रिक्त स्थान (5) के लिए उपयुक्त शब्द होगा।

Ans
✔ 1. बराबरी
✗ 2. समीपता
✗ 3. असमानता
✗ 4. विशिष्टता

Question ID : **9895806828**
Chosen Option : **1**

Q.14 दिए गए वाक्य में रेखांकित खंड को प्रतिस्थापित करने के लिए उपयुक्त विकल्प का चयन करें।

<u>पिक</u> का स्वर बहुत मधुर होता है।

Ans
✗ 1. तरु
✔ 2. कोयल
✗ 3. वायु
✗ 4. गरुड़

Question ID : **9895806817**
Chosen Option : **1**

Q.15 दिए गए वाक्य का वह भाग ज्ञात करें जिसमें कोई त्रुटि है।

श्रम की साधना से ही राष्ट्र महान होती है।

Ans
✔ 1. होती है।
✗ 2. साधना से ही

Career Aglasem

✗ 3. राष्ट्र महान

✗ 4. श्रम की

Question ID : **9895806813**
Chosen Option : **4**

Q.16 रिक्त स्थान को भरने के लिए उपयुक्त शब्द का चयन करें।

मोहन स्कूल जाता है _____ मन लगाकर पढ़ता है।

Ans
✗ 1. यदि

✔ 2. और

✗ 3. किंतु

✗ 4. परंतु

Question ID : **9895806819**
Chosen Option : **4**

Q.17 दिए गए वाक्य में रेखांकित खंड को प्रतिस्थापित करने के लिए उपयुक्त विकल्प का चयन करें।

उसका <u>भर्ता</u> अच्छा शिक्षक है।

Ans
✗ 1. भाई

✔ 2. पति

✗ 3. पुत्री

✗ 4. पुत्र

Question ID : **9895806818**
Chosen Option : **1**

Q.18 निम्नलिखित में से उस विकल्प का चयन करें जो 'हाथ पाँव फूल जाना' मुहावरे का अर्थ व्यक्त करता है।

Ans
✗ 1. सूजन आ जाना

✔ 2. घबरा जाना

✗ 3. हाथ-पैर में चोट लगना

✗ 4. दुखी हो जाना

Question ID : **9895806833**
Chosen Option : **1**

Q.19 दिए गए वाक्य का वह भाग ज्ञात करें जिसमें कोई त्रुटि है।

कहने की आवश्यकता नहीं कि पुरुष किन्तु नारी एक दूसरे के पूरक हैं।

Ans
✗ 1. एक दूसरे के

✔ 2. पुरुष किन्तु नारी

✗ 3. कहने की आवश्यकता नहीं कि

✗ 4. पूरक हैं।

Question ID : **9895806815**
Chosen Option : **2**

Q.20 रिक्त स्थान को भरने के लिए उपयुक्त शब्द का चयन करें।

वह दिल्ली से _____ आया है।

Ans
✗ 1. चल

✓ 2. आज

✗ 3. ज्यादा

✗ 4. थोड़ा

Question ID : **9895806820**
Chosen Option : **2**

Q.21 दिए गए शब्द के पर्यायवाची शब्द का चयन करें।

समता

Ans
✗ 1. असमता

✗ 2. संकट

✗ 3. केतु

✓ 4. बराबरी

Question ID : **9895806831**
Chosen Option : **2**

Q.22 दिए गए शब्द के पर्यायवाची शब्द का चयन करें।

प्रयत्न

Ans
✗ 1. पयोद

✗ 2. अनायास

✗ 3. श्रेष्ठ

✓ 4. प्रयास

Question ID : **9895806832**
Chosen Option : **4**

Q.23 रिक्त स्थान को भरने के लिए उपयुक्त शब्द का चयन करें।

मुझे नैना पर चोरी का _____ है।

Ans
✓ 1. संदेह

Career Aglasem

2. मान
3. अपमान
4. गर्व

Question ID : **9895806822**
Chosen Option : **1**

Q.24 दिए गए वाक्य में रेखांकित खंड को प्रतिस्थापित करने के लिए उपयुक्त विकल्प का चयन करें।

मेरा मित्र <u>जरूरी</u> काम में व्यस्त है।

Ans
1. आवश्यक
2. सामान्य
3. कठोर
4. साधारण

Question ID : **9895806816**
Chosen Option : **2**

Q.25 सही वर्तनी वाले शब्द का चयन करें।

Ans
1. परधानमंत्री
2. पर्धानमंत्री
3. प्रधानमंत्री
4. प्रधानमनत्री

Question ID : **9895806838**
Chosen Option : **3**

aglasem.com