Career Aglasem

Constable (GD) in CAPFs, NIA, SSF and Rifleman (GD) in Assam Rifles Examination, 2018

Roll No. :	[redacted]
Registration No.	
Name :	
Exam Venue :	
Exam Time :	4:00 PM - 5:30 PM
Exam Date :	03/03/2019

Section : **General Section**

Q.1 45 विद्यार्थियों की कक्षा में एक लड़के का स्थान 20वाँ है। जब दो और लड़के जुड़ते हैं तो उसका स्थान एक से कम हो जाता है। तो अंतिम स्थान से उसका नया स्थान क्या है?

Ans

✗ 1. 26वाँ

✗ 2. 25वाँ

✗ 3. 28वाँ

✓ 4. 27वाँ

Question ID : **9895808349**
Chosen Option : **4**

Q.2 नीचे दिए गए कथनों के बाद दो निष्कर्ष I और II दिए गए हैं। यह मानते हुए कि कथनों में दी गई जानकारी सत्य है, भले ही वह सर्वज्ञात तथ्यों से भिन्न प्रतीत होती हो, तय करें कि कौन सा/से निष्कर्ष तार्किक और निश्चित रूप से कथन में दी गई जानकारी का अनुसरण करता है/करते हैं।

कथन:

सभी बच्चे, वयस्क हैं।
कुछ वयस्क, बुजुर्ग हैं।

निष्कर्ष:

I. सभी बुजुर्ग, बच्चे हैं।
II. कुछ बच्चे, बुजुर्ग हैं।

Ans

✓ 1. न तो निष्कर्ष I और न ही II अनुसरण करता है।

✗ 2. केवल निष्कर्ष I अनुसरण करता है।

✗ 3. केवल निष्कर्ष II अनुसरण करता है।

✗ 4. या तो निष्कर्ष I या II अनुसरण करता है।

Question ID : **9895808350**
Chosen Option : **1**

Q.3

Career Aglasem

नीचे दिए गए कथनों के बाद दो निष्कर्ष I और II दिए गए हैं। यह मानते हुए कि कथनों में दी गई जानकारी सत्य है, भले ही वह सर्वज्ञात तथ्यों से भिन्न प्रतीत होती हो, तय करें कि कौन सा/से निष्कर्ष तार्किक और निश्चित रूप से कथन में दी गई जानकारी का अनुसरण करता है/करते हैं।

कथन:

कुछ स्कूटर, प्लेन हैं।
कुछ प्लेन, कुत्ते हैं।
कुछ कुत्ते, पौधे हैं।

निष्कर्ष:

I. कुछ पौधे स्कूटर हैं।
II. कोई प्लेन स्कूटर नहीं है।

Ans
✗ 1. केवल निष्कर्ष I अनुसरण करता है।
✗ 2. केवल निष्कर्ष II अनुसरण करता है।
✓ 3. न तो निष्कर्ष I और न ही II अनुसरण करता है।
✗ 4. या तो निष्कर्ष I या II अनुसरण करता है।

Question ID : **9895808351**
Chosen Option : **3**

Q.4 निम्नलिखित वेन आरेख का अध्ययन करें और दिए गए प्रश्न का उत्तर दें.

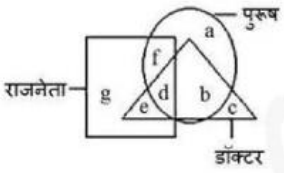

कौन-सा अक्षर एक पुरुष राजनेता का प्रतिनिधित्व करता है?

Ans
✗ 1. e
✓ 2. f
✗ 3. d
✗ 4. b

Question ID : **9895808363**
Chosen Option : **2**

Q.5 उस विकल्प का चयन करें जो तीसरे पद से उसी तरह संबंधित है जिस प्रकार पहला पद दूसरे पद से संबंधित है।

35 : 15 : : 72 : ?

Ans
✗ 1. 27
✓ 2. 14
✗ 3. 54
✗ 4. 15

Question ID : **9895808354**
Chosen Option : **2**

Q.6

उस विकल्प का चयन करें जो तीसरे पद से उसी तरह संबंधित है जिस प्रकार पहला पद दूसरे पद से संबंधित है।

AFK : EJO : : PUZ : ?

Ans
1. TXE
2. USC
3. TYD
4. UOM

Question ID : **9895808344**
Chosen Option : **3**

Q.7 कागज का एक टुकड़ा प्रश्न आकृतियो में दिखाया गया है इस तरह मोड़ा और काटा जाता है। दिए गए चित्रों से, बताइए कि जब खोला जाएगा तब वह कैसा दिखाई देगा?

प्रश्न आकृति:



Ans
1. 
2. 
3. 
4. 

Question ID : **9895808362**
Chosen Option : **3**

Q.8 एक निश्चित कूट भाषा में, ANIMAL को INALAM के रूप में लिखा जाता है। उसी कूट भाषा में SAMPLE कैसे लिखा जाता है?

Ans
1. MALESP
2. MASELP
3. ASMALE
4. MSALEP

Question ID : **9895808345**
Chosen Option : **2**

Q.9 यदि SENSIBLE को 10 के रूप में लिखते है और SAMUELS को 9 के रूप से, तो NADAL को किस रुप में लिखा जाएगा?

Ans
1. 11
2. 9
3. 4
4. 7

Question ID : **9895808346**
Chosen Option : **4**

Q.10 चार शब्द दिए गए हैं, जिनमें से तीन किसी तरह से समान हैं, जबकि एक अलग है। असंगत शब्द का चयन करें।

Ans

✗ 1. कुचिपुड़ी

✓ 2. हेमिस

✗ 3. कथकली

✗ 4. सत्रीया

Question ID : **9895808341**
Chosen Option : **2**

Q.11 उस सही विकल्प का चयन करें जो रिक्त स्थान को भरे और श्रृंखला को पूरा करें।

WVU, RQP, MLK, ?

Ans
✗ 1. IGF

✓ 2. HGF

✗ 3. JHI

✗ 4. HGI

Question ID : **9895808339**
Chosen Option : **2**

Q.12 उस विकल्प का चयन करें जो सही रूप में रिक्त स्थान को भरे और श्रृंखला को पूरा करें।

2, 8, 32, 128, 512, ?

Ans
✗ 1. 2536

✗ 2. 2507

✗ 3. 2067

✓ 4. 2048

Question ID : **9895808353**
Chosen Option : **4**

Q.13 चार विकल्प दिए गए हैं, जिनमें से तीन किसी तरह से समान हैं, जबकि एक अलग है। असंगत का चयन करें।

Ans
✗ 1. 473

✗ 2. 693

✗ 3. 385

✓ 4. 287

Question ID : **9895808355**
Chosen Option : **4**

Q.14 उन गणितीय चिन्हों के सही संयोजन का चयन करे जो '•' चिन्हों का स्थान लें और दिए गए समीकरण को संतुलित करें:

78 • 3 • 4 • 36 • 140

Ans
✗ 1. ÷ × − =

✗ 2. − + × =

✗ 3. + + ÷ =

✓ 4. ÷ × + =

Career Aglasem

Question ID : **9895808357**
Chosen Option : **4**

Q.15 पाँच बन्दर A, B, C, D, और E, पेड़ की एक शाखा पर बैठे हैं।
C, D के बगल में बैठा है। D, E के साथ नहीं बैठा है। E, शाखा के बाएं छोर पर बैठा है। C, दाएं से दूसरे स्थान पर है। A, B के तुरंत दायीं ओर है और B, E के दायीं ओर है। A और C साथ में बैठे हैं।
केन्द्र पर कौन बैठा है?

Ans
✗ 1. B
✗ 2. C
✓ 3. A
✗ 4. D

Question ID : **9895808347**
Chosen Option : **3**

Q.16 उस विकल्प का चयन करें जो तीसरे पद से उसी तरह संबंधित है जिस प्रकार पहला पद दूसरे पद से संबंधित है।

हाथ : उंगली : : पैर : _____

Ans
✓ 1. पैर की उंगलियां
✗ 2. चलना
✗ 3. घुटना
✗ 4. एड़ी

Question ID : **9895808342**
Chosen Option : **1**

Q.17 निम्नलिखित आकृतियों में से उन दो आकृतियों को पहचानें जो स्थान से बाहर है और पूरी शृंखला को क्रम में करने के लिए जिसमे परस्पर स्थानों का अदल बदल जरुरी है।

प्रश्न आकृति:



Ans
✗ 1. (A & C)
✗ 2. (D & F)
✓ 3. (D & E)
✗ 4. (B & D)

Question ID : **9895808358**
Chosen Option : **3**

Q.18 चार अक्षर समूह दिए गए हैं, जिनमें से तीन किसी तरह से समान हैं, जबकि एक अलग है। असंगत अक्षर समूह का चयन करें।

Ans
✗ 1. INS
✓ 2. DLT
✗ 3. JOT
✗ 4. HMR

Question ID : **9895808340**
Chosen Option : **2**

Career Aglasem

Q.19 यदि दर्पण को MN की रेखा पर रखा जाता है, तो कौन सी उत्तर आकृति दी गई आकृति की सही छवि है?

प्रश्न आकृति:



Ans

✗ 1. 

✓ 2. 

✗ 3. 

✗ 4. 

Question ID : **9895808361**
Chosen Option : **3**

Q.20 उस विकल्प आकृति का चयन करें, जिसमें प्रश्न आकृति अंतर्निहित है।

प्रश्न आकृति:



Ans

✗ 1. 

✗ 2. 

✓ 3. 

✗ 4. 

Question ID : **9895808360**
Chosen Option : **3**

Q.21 दिए गए विकल्पों में से संबंधित शब्द युगल का चयन करें।

भारत : रुपया : : _____ : _____

Ans ✗ 1. दक्षिण अफ्रीका : पाउंड

✗ 2. स्विट्जरलैंड : यूरो

✗ 3. चीन : येन

✓ 4. रूस : रूबल

Question ID : **9895808343**
Chosen Option : **3**

Q.22 दिए गए विकल्पों में से लुप्त संख्या ज्ञात करें।

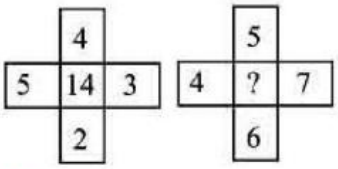

Ans ✗ 1. 6

✗ 2. 7

✗ 3. 3

✓ 4. 4

Question ID : **9895808356**
Chosen Option : **4**

Q.23 उस विकल्प का चयन करें जो सही रूप में रिक्त स्थान को भरे और श्रृंखला को पूरा करें।

145, 100, 65, 40, ?

Ans ✗ 1. 10

✗ 2. 20

✓ 3. 25

✗ 4. 15

Question ID : **9895808352**
Chosen Option : **3**

Q.24 निम्नलिखित में से कौन सी उत्तर आकृति दी गई आकृति को पूरा करेगी?

प्रश्न आकृति:

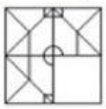

Ans ✗ 1. 

✗ 2. 

✓ 3. 

Career Aglasem

✗ 4. 

Question ID : **9895808359**
Chosen Option : **3**

Q.25 X, Y, Z, P, Q और R उत्तर की ओर मुख कर के एक पंक्ति में बैठे हैं। X,Y और P का पड़ोसी है। Q, Z और R का पड़ोसी है, P, X के दायीं ओर है और P और Z एक दूसरे के निकटतम पड़ोसी हैं।

कौन सा जोड़ा बिलकुल किनारों पर बैठता हैं?

Ans
✔ 1. Y,R
✗ 2. X,P
✗ 3. P,Z
✗ 4. Y,P

Question ID : **9895808348**
Chosen Option : **1**

Q.26 उस इकाई का नाम बताइए जिसमें ईंधन का उष्मीय (कैलरिफिक) मान व्यक्त किया जाता है।

Ans
✗ 1. किलोग्राम
✗ 2. केल्विन
✔ 3. किलोजूल
✗ 4. कैन्डेला

Question ID : **9895807420**
Chosen Option : **3**

Q.27 आर्थिक सर्वेक्षण रिपोर्ट 2017-18 में FY18 में कृषि वृद्धि दर कितनी होने की सम्भावना बताई गई थी?

Ans
✗ 1. 4.30%
✗ 2. 3.90%
✔ 3. 2.10%
✗ 4. 5.50%

Question ID : **9895807411**
Chosen Option : **1**

Q.28 निम्न में से कौन सी विक्रम सेठ की पुस्तक है?

Ans
✗ 1. द मिस्ट्रेस ऑफ स्पाइसेज
✗ 2. द ओशन ऑफ चर्न
✔ 3. रॉयट एट मिस्री मंडी
✗ 4. रिवर ऑफ स्मोक

Question ID : **9895807409**
Chosen Option : **1**

Q.29 करनाल का युद्ध (1739) फारसी बादशाह नादिरशाह ने किसे हराकर जीता?

Ans
✗ 1. गियासुद्दीन बलबन
✗ 2. गुलाम मुहम्मद गौस खान
✗ 3. शुजाउद्दौला, अवध का नवाब
✔ 4. मुगल शासक, मुहम्मद शाह

Question ID : **9895807427**
Chosen Option : **2**

Q.30 भारतीय संविधान में मूल कर्तव्य किस देश के संविधान से लिए गए हैं?

Ans
✔ 1. यूएसएसआर
✗ 2. कनाडा
✗ 3. फ्रांस
✗ 4. ब्रिटेन

Question ID : **9895807414**
Chosen Option : **1**

Q.31 नागरिकों के मूल अधिकार भारतीय संविधान के किस भाग में सम्मिलित किए गए हैं?

Ans
✗ 1. भाग VII
✗ 2. भाग IVA
✗ 3. भाग I
✔ 4. भाग III

Question ID : **9895807415**
Chosen Option : **2**

Q.32 कौन सा शहर चंबल नदी के किनारे पर स्थित नहीं है?

Ans
✗ 1. ग्वालियर
✔ 2. जबलपुर
✗ 3. कोटा
✗ 4. धौलपुर

Question ID : **9895807422**
Chosen Option : **3**

Q.33 1970 के भोला चक्रवात के बाद बंगाल की खाड़ी में कौन सा द्वीप उभर कर आया?

Ans
✗ 1. लोहाचारा द्वीप
✗ 2. घोरमारा द्वीप
✔ 3. न्यू मूर द्वीप
✗ 4. जंबूद्वीप

Question ID : **9895807423**
Chosen Option : **3**

Q.34 'r' त्रिज्या के एक वृत्त में स्पर्शज्या वेग 'v' से गतिमान 'm' द्रव्यमान के एक निकाय की वृत्ताकार गति के लिए कितने अभिकेंद्रीय बल 'F' की आवश्यकता है?

Ans
1. ✗ mr/v^2
2. ✓ mv^2/r
3. ✗ mv/r^2
4. ✗ mr^2/v

Question ID : **9895807417**
Chosen Option : **2**

Q.35 ह्यूमरस किस अंग का भाग है?

Ans
1. ✓ बांह
2. ✗ कंधे करधनी
3. ✗ रीढ़
4. ✗ पैर

Question ID : **9895807421**
Chosen Option : **2**

Q.36 टेस्ला किसकी इकाई है?

Ans
1. ✗ विद्युत चालकत्व
2. ✗ धारिता
3. ✗ चुंबकीय प्रवाह
4. ✓ चुंबकीय प्रवाह घनत्व

Question ID : **9895807418**
Chosen Option : **1**

Q.37 2018 का फ्रेन्च ओपन पुरुष टेनिस किसने जीता?

Ans
1. ✗ नोवाक जोकोविच
2. ✗ रोजर फेडरर
3. ✓ रफेल नाडाल
4. ✗ एंडी मुरे

Question ID : **9895807407**
Chosen Option : **2**

Q.38 केंद्रीय बजट 2018 ने कितनी राशि के साथ कृषि के लिए ऑपरेशन ग्रीन प्रारम्भ करने की घोषणा की?

Ans
1. ✗ ₹1,000 करोड़

✔ 2. ₹500 करोड़

✘ 3. ₹100 करोड़

✘ 4. ₹5,000 करोड़

Question ID : **9895807412**
Chosen Option : **2**

Q.39 कौन सी ग्रंथि अन्य अंतःस्रावी ग्रंथियों के कार्य को नियंत्रित करती है?

Ans ✘ 1. गलग्रंथि (थाइरॉयड) ग्रंथि

✔ 2. पीयूष (पिट्यूइटेरी) ग्रंथि

✘ 3. गावदुम (पीनियल) ग्रंथि

✘ 4. अधिवृक्क (अड्रीनल) ग्रंथि

Question ID : **9895807419**
Chosen Option : **4**

Q.40 संकर किस्म की ज्वार के लिए 2018-19 के लिए न्यूनतम समर्थन मूल्य कितना निर्धारित किया गया है?

Ans ✔ 1. ₹2,430 प्रति क्विंटल

✘ 2. ₹5,150 प्रति क्विंटल

✘ 3. ₹1,750 प्रति क्विंटल

✘ 4. ₹1,950 प्रति क्विंटल

Question ID : **9895807413**
Chosen Option : **1**

Q.41 मणिपुर के सामान्य तौर पर लोगों के समूह द्वारा गाए जाने वाले भक्तिपूर्ण लोक संगीत का नाम बताइए।

Ans ✘ 1. घा तो कितो

✘ 2. बनवर्ह

✔ 3. खुबाक एशेई

✘ 4. डोमकच

Question ID : **9895807403**
Chosen Option : **2**

Q.42 भारतीय सिविल सेवा के लिए अर्हता प्राप्त करने वाले प्रथम भारतीय का नाम बताइए।

Ans ✘ 1. वी. ओ. चिदंबरम पिल्लै

✘ 2. बंकिम चंद्र चटर्जी

✔ 3. सत्येंद्रनाथ टैगोर

✘ 4. दादाभाई नौरोजी

Question ID : **9895807426**
Chosen Option : **3**

Career Aglasem

Q.43 हमारी सौर प्रणाली में दूसरा सबसे बड़ा चंद्रमा टाइटन किस ग्रह की परिक्रमा करता है?

Ans
1. अरुण (यूरेनस) ✗
2. वरुण (नेप्चून) ✗
3. बृहस्पति (जूपिटर) ✗
4. शनि (सैटर्न) ✓

Question ID : **9895807424**
Chosen Option : **4**

Q.44 हरकन्या वंश के उस शासक का नाम बताइए जो अजातशत्रु का पुत्र था और जिसने पाटलिपुत्र नगर की नींव रखी।

Ans
1. नंदीवर्धन ✗
2. प्रद्योत ✗
3. उदायिन ✓
4. महानंदिन ✗

Question ID : **9895807425**
Chosen Option : **3**

Q.45 किस देश की महिला टीम ने दक्षिण कोरिया में आयोजित 2018 का कैरम विश्व कप जीता?

Ans
1. जापान ✗
2. भारत ✓
3. चीन ✗
4. दक्षिण कोरिया ✗

Question ID : **9895807406**
Chosen Option : **3**

Q.46 ग्रेट ब्रिटेन की संसद का कौन सा कानून भारत में ईस्ट इंडिया कंपनी के शासन की पूरी जांच और मरम्मत करने की ओर लक्षित था?

Ans
1. 1858 का भारत सरकार अधिनियम ✗
2. रेगुलेटिंग एक्ट 1773 ✓
3. 1861 का भारतीय परिषद अधिनियम ✗
4. पिट्स इंडिया एक्ट ✗

Question ID : **9895807416**
Chosen Option : **2**

Q.47 2001 में मिस अर्थ सौंदर्य स्पर्धा के आरम्भ से इसे जीतने वाली पहली भारतीय कौन है?

Ans
1. रीता फारिया ✗
2. निकोल फारिया ✓
3. प्रियंका चोपड़ा ✗
4. दिया मिर्जा ✗

Question ID : **9895807410**
Chosen Option : **3**

Q.48 भारत रत्न प्राप्त करने वाले उस व्यक्ति का नाम बताइए, जो एक समाज सुधारक और शिक्षक थे और जिन्हों ने स्त्रियों के उत्थान में महत्वपूर्ण भूमिका निभाई थी।

Ans
✗ 1. गोविंद बल्लभ पंत
✗ 2. एम विश्वेश्वरैया
✓ 3. धोंडो केशव कर्वे
✗ 4. बिधान चंद्र रॉय

Question ID : **9895807408**
Chosen Option : **2**

Q.49 फसल से जुड़ा हुआ उत्सव, पुठारी किस जनजाति द्वारा मनाया जाता है?

Ans
✗ 1. मोनपा
✓ 2. कोडावा
✗ 3. अंगामी
✗ 4. गारो

Question ID : **9895807404**
Chosen Option : **2**

Q.50 निम्नलिखित नृत्यों में से कौन सा अरुणाचल प्रदेश का नृत्य है?

Ans
✓ 1. पोपिर
✗ 2. चिराव
✗ 3. माचा
✗ 4. लेजिम

Question ID : **9895807405**
Chosen Option : **2**

Q.51

Career Aglasem

बार चार्ट का अध्ययन करें और इस पर आधारित प्रश्न का उत्तर दें।

वर्षों में कंपनी द्वारा उर्वरकों का

उत्पादन (1000 टन में)

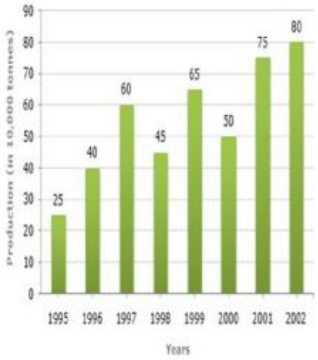

दिए गए वर्षों में से कितने में उर्वरकों का उत्पादन दिए गए वर्षों के औसत उत्पादन से कम था?

Ans
✔ 1. 4
✘ 2. 2
✘ 3. 3
✘ 4. 1

Question ID : **9895807751**
Chosen Option : **1**

Q.52 एक व्यापारी का दावा है कि वह लागत मूल्य में अपना माल बेचता है। लेकिन 1kg बजन के लिए 900 g के बजन का उपयोग करता है, तो उसका लाभ प्रतिशत कितना होगा।

Ans
✘ 1. $12\frac{1}{9}\%$
✘ 2. 11%
✔ 3. $11\frac{1}{9}\%$
✘ 4. 12%

Question ID : **9895807737**
Chosen Option : **3**

Q.53 विशाल 30 min में 20 km की दूरी तय करता है। यदि वह 18 min में आधी दूरी तय करता है, तो शेष दूरी को तय करने के लिए और पूरी यात्रा 30 min में पूरी करने के लिए उसकी गति क्या होनी चाहिए।

Ans
✘ 1. 55 km/hr
✔ 2. 50 km/hr
✘ 3. 65 km/hr
✘ 4. 60 km/hr

Question ID : **9895807746**
Chosen Option : **1**

Q.54 A, एक कामगार के रूप में B से दोगुना अच्छा है और एक साथ मिलकर वे 20 दिनों में एक काम पूरा कर लेते हैं। A अकेले कितने दिनों में, काम पूरा करेगा?

Ans
✔ 1. 30 दिन

Career Aglasem

✗ 2. 26 दिन

✗ 3. 25 दिन

✗ 4. 28 दिन

Question ID : **9895807744**
Chosen Option : **1**

Q.55 A, b, c, d और e का माध्य 36 है। यदि b, d और e का माध्य 32 है, तो a और c का माध्य क्या होगा?

Ans
✗ 1. 24

✗ 2. 46

✗ 3. 44

✓ 4. 42

Question ID : **9895807734**
Chosen Option : **4**

Q.56 यदि कोई दुकानदार एक पुस्तक पर पहले 20% और फिर 15% की छूट देता है, जिसका अंकित मूल्य ₹850 है, तो पुस्तक का विक्रय मूल्य कितना होगा?

Ans
✗ 1. ₹587

✓ 2. ₹578

✗ 3. ₹758

✗ 4. ₹785

Question ID : **9895807733**
Chosen Option : **2**

Q.57 उन वर्षों की संख्या ज्ञात करें जिनमें 8% प्रति वर्ष की साधारण ब्याज दर निवेश की गई एक राशि दोगुनी हो जाती है।

Ans
✗ 1. 10 ½ वर्ष

✓ 2. 12 ½ वर्ष

✗ 3. 11 वर्ष

✗ 4. 12 वर्ष

Question ID : **9895807741**
Chosen Option : **2**

Q.58 12 पदों में से, पहले 6 पदों का औसत 36 है और अंतिम 6 पदों का औसत 42 है। यदि पहले 11 पदों का औसत 38 है, तो 12 वां पद क्या होगा।

Ans
✓ 1. 50

✗ 2. 40

✗ 3. 44

✗ 4. 42

Question ID : **9895807732**
Chosen Option : **1**

Q.59

सरलीकृत करें:

7.8 - 0.4 of (5.1 - 3.8) + 9.3 × 1.5

Ans
✗ 1. 12.23
✗ 2. 23.12
✓ 3. 21.23
✗ 4. 23.21

Question ID : **9895807729**
Chosen Option : **3**

Q.60 ₹84,000 में ख़रीदे गए एक स्कूटर का मूल्य 10% प्रति वर्ष की दर से कम होता है। 2 वर्ष बाद इसका मूल्य क्या होगा?

Ans
✓ 1. ₹68040
✗ 2. ₹86040
✗ 3. ₹64800
✗ 4. ₹46080

Question ID : **9895807742**
Chosen Option : **1**

Q.61 पाँच क्रमागत सम संख्याओं का योग, उन संख्याओं के औसत से 40 अधिक है। तो श्रृंखला में मध्य संख्या ज्ञात कीजिए।

Ans
✗ 1. 40
✗ 2. 30
✗ 3. 20
✓ 4. 10

Question ID : **9895807731**
Chosen Option : **1**

Q.62 यदि एक वर्ग की सभी भुजाओं में 20% की वृद्धि की जाती है, तो क्षेत्रफल में कितनी वृद्धि हो जाती है?

Ans
✓ 1. 44%
✗ 2. 43%
✗ 3. 46%
✗ 4. 45%

Question ID : **9895807748**
Chosen Option : **1**

Q.63 मंजीत सिंह ने लागत मूल्य के $\frac{1}{5}$ मुनाफे पर ₹9,000 में एक वस्तु बेची,तो लाभ प्रतिशत ज्ञात कीजिए।

Ans
✗ 1. 22%
✓ 2. 20%
✗ 3. 10%
✗ 4. 25%

Question ID : **9895807736**
Chosen Option : **4**

Q.64 यदि 15 श्रमिक 10 दिनों में ₹1,800 कमा सकते हैं। तो 8 दिनों में 5 श्रमिकों की कमाई (₹ में) कितनी होगी?

Ans
1. ₹540
2. ₹480
3. ₹400
4. ₹360

Question ID : **9895807743**
Chosen Option : **2**

Q.65 सोना एल्यूमीनियम की तुलना में 12 गुना भारी है और तांबा एल्यूमीनियम की तुलना में 5 गुना भारी है। तो एल्यूमीनियम की 8 गुना मिश्र धातु प्राप्त करने के लिए किस अनुपात में सोना और तांबा मिश्रित होना चाहिए।

Ans
1. 1 : 2
2. 2 : 1
3. 3 : 4
4. 4 : 3

Question ID : **9895807739**
Chosen Option : **3**

Q.66 ओम प्रकाश 80 km/hr की गति से **बम्बई** से पुणे की यात्रा करता है और अपनी गति को 50% बढ़ाकर वापस **बम्बई** लौटता है, तो पूरी यात्रा के लिए उसकी औसत गति है:

Ans
1. 69 km/hr
2. 65 km/hr
3. 96 km/hr
4. 67 km/hr

Question ID : **9895807745**
Chosen Option : **3**

Q.67 सरलीकृत करें:

$$\frac{5.25 + \frac{3}{4} of\ 16 - 5}{\frac{1}{2} of\ (9.5 - 2.5) - (5 \times 0.35)}$$

Ans
1. 6
2. 7
3. 5
4. 4

Question ID : **9895807730**
Chosen Option : **2**

Q.68 वह सबसे छोटी संख्या कौन सी है जिसमें 8 जोड़ने पर 4, 5, 6 और 7 से पूर्ण रूप से विभाज्य हो?

Ans
1. 422
2. 312
3. 412
4. 322

Career Aglasem

Question ID : **9895807728**
Chosen Option : **3**

Q.69 बार चार्ट का अध्ययन करें और इस पर आधारित प्रश्न का उत्तर दें।

वर्षों में कंपनी द्वारा उर्वरकों का

उत्पादन (1000 टन में)

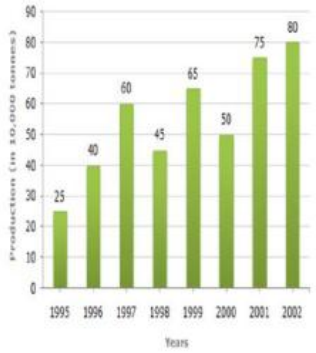

1999 और 2000 का औसत उत्पादन निम्न में से किस वर्ष युग्म के औसत उत्पादन से कम था?

Ans
1. 1995 और 2001
2. 1996 और 1997
3. 2000 और 2001
4. 1998 और 2000

Question ID : **9895807752**
Chosen Option : **4**

Q.70 बार चार्ट का अध्ययन करें और इस पर आधारित प्रश्न का उत्तर दें।

वर्षों में कंपनी द्वारा उर्वरकों का

उत्पादन (1000 टन में)

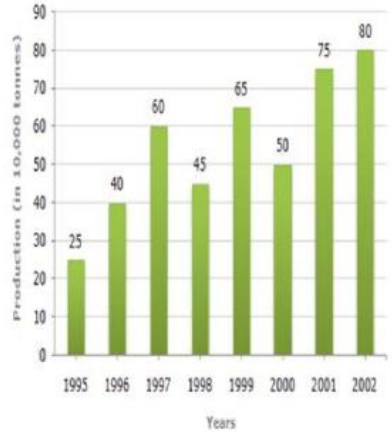

2000 की तुलना में 2001 में उर्वरकों के उत्पादन में प्रतिशत वृद्धि कितनी थी?

Ans
1. 30% ✗
2. 40% ✗
3. 50% ✓
4. 25% ✗

Question ID : **9895807750**
Chosen Option : **3**

Q.71 60 लीटर के मिश्रण में, दूध और पानी 2:1 के अनुपात में हैं, तो 4:3 का अनुपात करने के लिए मिलाये जाने वाले पानी की मात्रा ज्ञात कीजिए।

Ans
1. 10 लीटर ✓
2. 20 लीटर ✗
3. 15 लीटर ✗
4. 12 लीटर ✗

Question ID : **9895807738**
Chosen Option : **1**

Q.72 A और B के बीच एक चुनावी प्रतियोगिता में, A 480 वोटों के अंतर से जीतता है। यदि A को कुल वोटों का 70% वोट मिले, तो कुल वोट हैं :

Ans
1. 4800 ✗
2. 1200 ✓
3. 1400 ✗
4. 1600 ✗

Question ID : **9895807735**
Chosen Option : **2**

Q.73 एक घनाकार टंकी में 48000 लीटर पानी है। यदि टंकी की लंबाई 6 m और चौड़ाई 4 m है तो टंकी में पानी की गहराई ज्ञात करें।

Ans
1. 3 m ✗
2. 2 m ✓
3. 4 m ✗
4. 6 m ✗

Question ID : **9895807747**
Chosen Option : **2**

Q.74 यदि A, B, C को A : B = 1 : 2 और B : C = 3 : 5 के रूप में ₹3,800 वितरित किए जाते हैं, तो B का हिस्सा ज्ञात करें:

Ans
1. ₹600 ✗
2. ₹2,000 ✗
3. ₹1,200 ✓
4. ₹1,400 ✗

Question ID : **9895807740**
Chosen Option : **3**

Q.75 एक कपड़ा 50 cm चौड़ा और 8 cm लंबा था। जब धोया गया, तो इसकी लंबाई 25% और इसकी चौड़ाई 14% कम हो गई । तो क्षेत्रफल कितने प्रतिशत कम हुआ?

Career Aglasem

Ans
1. 36%
2. 35%
3. 34.5%
4. 35.5%

Question ID : **9895807749**
Chosen Option : **4**

Section : **English Language**

Q.1 Select the most appropriate option to fill in the blank.

Online shopping platforms provide _____ information on books, groceries, medicines, etc.so that we can get the latest products.

Ans
1. instant
2. old
3. previous
4. timeworn

Question ID : **9895808068**
Chosen Option : **--**

Q.2 Select the most appropriate option to substitute the underlined segment in the given sentence. If there is no need to substitute it, select No improvement.

The National Sample Survey Directorate is first set up under the Ministry of Finance in 1950.

Ans
1. Directorate had first set up
2. Directorate was first set up
3. No improvement
4. Directorate were first set up

Question ID : **9895808065**
Chosen Option : **--**

Q.3 Select the correctly spelt word.

Ans
1. Vegaitarian
2. Vegetarian
3. Vegetaranian
4. Vezetarian

Question ID : **9895808083**
Chosen Option : **--**

Q.4 Select the word which means the same as the group of words given.

A story, poem or a picture that can be interpreted to reveal a hidden meaning.

Ans
1. Resemblance
2. Allegory
3. Simile
4. Representation

Question ID : **9895808082**

Chosen Option : --

Q.5 Select the most appropriate word to fill in the blank.

A software tool used to read electronic documents is known as _____.

Ans
1. motherboard
2. internet
3. browser
4. broadband

Question ID : **9895808086**
Chosen Option : --

Q.6 From the given options, identify the segment in the sentence which contains the grammatical error.

A mere 43% of Indian woman own cellular phones, as opposed to almost 80% of men.

Ans
1. A mere 43% of Indian woman
2. almost 80% of men
3. as opposed to
4. own cellular phones

Question ID : **9895808063**
Chosen Option : --

Q.7 Select the word which means the same as the group of words given.

Concerning appreciation of art.

Ans
1. Aesthetic
2. Idealistic
3. Particularistic
4. Poetic

Question ID : **9895808081**
Chosen Option : --

Q.8 Select the correctly spelt word.

Ans
1. Audiable
2. Audeuble
3. Audible
4. Audibal

Question ID : **9895808084**
Chosen Option : --

Q.9 Select the synonym of the given word.

RIDDLE

Ans
1. Reaction
2. Response
3. Puzzle

✗ 4. Game

Question ID : **9895808075**
Chosen Option : --

Q.10 Select the antonym of the given word.

COMMENCE

Ans
✓ 1. Pause
✗ 2. Close
✗ 3. Start
✗ 4. Clamp

Question ID : **9895808077**
Chosen Option : --

Comprehension:

In the following passage some words have been deleted. Fill in the blanks with the help of the alternatives given.

Students should develop a quality of (1) _____ to elders and respecting their views. Their experience and knowledge can play a major role in shaping a student's personality and career. Students should (2) _____ this much - needed knowledge and experience from parents and teachers. Being (3) _____ helps students to keep themselves morally high. One should not get carried away by success. Students should also learn to respect (4) _____ views and cope with diverse situations. These qualities will play a vital role in the (5) _____ of teamwork and leadership skills.

SubQuestion No : 11

Q.11 Select the most appropriate option that will fill in the blank number 1.

Ans
✗ 1. listens
✓ 2. listen
✗ 3. listening
✗ 4. listened

Question ID : **9895808070**
Chosen Option : --

Comprehension:

In the following passage some words have been deleted. Fill in the blanks with the help of the alternatives given.

Students should develop a quality of (1) _____ to elders and respecting their views. Their experience and knowledge can play a major role in shaping a student's personality and career. Students should (2) _____ this much - needed knowledge and experience from parents and teachers. Being (3) _____ helps students to keep themselves morally high. One should not get carried away by success. Students should also learn to respect (4) _____ views and cope with diverse situations. These qualities will play a vital role in the (5) _____ of teamwork and leadership skills.

Career Aglasem

SubQuestion No : 12

Q.12 Select the most appropriate option that will fill in the blank number 2.

Ans
1. measure ✗
2. acquire ✓
3. access ✗
4. assess ✗

Question ID : **9895808071**
Chosen Option : --

Comprehension:

In the following passage some words have been deleted. Fill in the blanks with the help of the alternatives given.

Students should develop a quality of (1) _____ to elders and respecting their views. Their experience and knowledge can play a major role in shaping a student's personality and career. Students should (2) _____ this much - needed knowledge and experience from parents and teachers. Being (3) _____ helps students to keep themselves morally high. One should not get carried away by success. Students should also learn to respect (4) _____ views and cope with diverse situations. These qualities will play a vital role in the (5) _____ of teamwork and leadership skills.

SubQuestion No : 13

Q.13 Select the most appropriate option that will fill in the blank number 3.

Ans
1. intelligent ✗
2. smart ✓
3. sharp ✗
4. simple ✗

Question ID : **9895808072**
Chosen Option : --

Comprehension:

In the following passage some words have been deleted. Fill in the blanks with the help of the alternatives given.

Students should develop a quality of (1) _____ to elders and respecting their views. Their experience and knowledge can play a major role in shaping a student's personality and career. Students should (2) _____ this much - needed knowledge and experience from parents and teachers. Being (3) _____ helps students to keep themselves morally high. One should not get carried away by success. Students should also learn to respect (4) _____ views and cope with diverse situations. These qualities will play a vital role in the (5) _____ of teamwork and leadership skills.

SubQuestion No : 14

Q.14 Select the most appropriate option that will fill in the blank number 4.

Ans
1. expressive ✗

Career Aglasem

✗ 2. general

✓ 3. typical

✗ 4. different

Question ID : **9895808073**
Chosen Option : --

Comprehension:

In the following passage some words have been deleted. Fill in the blanks with the help of the alternatives given.

Students should develop a quality of (1) _____ to elders and respecting their views. Their experience and knowledge can play a major role in shaping a student's personality and career. Students should (2) _____ this much - needed knowledge and experience from parents and teachers. Being (3) _____ helps students to keep themselves morally high. One should not get carried away by success. Students should also learn to respect (4) _____ views and cope with diverse situations. These qualities will play a vital role in the (5) _____ of teamwork and leadership skills.

SubQuestion No : 15

Q.15 Select the most appropriate option that will fill in the blank number 5.

Ans
✗ 1. arrangement

✗ 2. manufacture

✗ 3. structure

✓ 4. development

Question ID : **9895808074**
Chosen Option : --

Q.16 Select the most appropriate option to substitute the underlined segment in the given sentence. If there is no need to substitute it, select No improvement.

Your promotion will be depend the quality of your work.

Ans
✗ 1. will be dependent

✓ 2. depends upon

✗ 3. depend on

✗ 4. No improvement

Question ID : **9895808066**
Chosen Option : --

Q.17 Select the synonym of the given word.

IMPLICIT

Ans
✓ 1. Tacit

✗ 2. Unheard

✗ 3. Honest

✗ 4. Unclear

Question ID : **9895808076**

Chosen Option : --

Q.18 Select the most appropriate option to fill in the blank.

People high in humility avoid expecting _____ special treatment.

Ans
1. only ✗
2. one ✓
3. none ✗
4. any ✗

Question ID : **9895808067**
Chosen Option : --

Q.19 Select the most appropriate word to fill in the blank.

The news of the general elections was covered by _____ media.

Ans
1. sole ✓
2. singular ✗
3. multiple ✗
4. single ✗

Question ID : **9895808085**
Chosen Option : --

Q.20 Select the option that means the same as the given idiom.

To bite off more than you can chew.

Ans
1. To take on a task too big for oneself ✗
2. To finish a work in bits and pieces ✗
3. To eat very heavy and rich food ✓
4. To challenge someone to do difficult work ✗

Question ID : **9895808079**
Chosen Option : --

Q.21 Select the antonym of the given word.

EXPAND

Ans
1. Contract ✗
2. Collect ✗
3. Express ✓
4. Deposit ✗

Question ID : **9895808078**
Chosen Option : --

Q.22 Select the most appropriate option to substitute the underlined segment in the given sentence. If there is no need to substitute it, select No improvement.

While participating in the marathon an eighteen year old girl was knocked for by a passing truck.

Career Aglasem

Ans
✗ 1. No improvement
✗ 2. knocked up by
✗ 3. knocked in by
✓ 4. knocked down by

Question ID : **9895808064**
Chosen Option : --

Q.23 From the given options, identify the segment in the sentence which contains the grammatical error.

An excellent response for his readers refreshes the author and stirs his creative sense and functional skills.

Ans
✓ 1. An excellent response
✗ 2. functional skills
✗ 3. his creative sense
✗ 4. for his readers refreshes

Question ID : **9895808061**
Chosen Option : --

Q.24 From the given options, identify the segment in the sentence which contains the grammatical error.

In India, child labour is a socio - economic issue that need urgent attention by everyone.

Ans
✗ 1. by everyone.
✗ 2. socio - economic issue
✗ 3. that need urgent attention
✓ 4. child labour is a

Question ID : **9895808062**
Chosen Option : --

Q.25 Select the option that means the same as the given idiom.

Bark up the wrong tree.

Ans
✗ 1. To make dogs bark at cats hiding in trees
✓ 2. To send dogs to track someone
✗ 3. To make no mistakes about doing something
✗ 4. To be wrong about the reason for or way of doing something

Question ID : **9895808080**
Chosen Option : --

Section : **Hindi Language**

Q.1 रिक्त स्थान को भरने के लिए उपयुक्त शब्द का चयन करें।

मैं कलम से चिट्ठी _____ रहा हूँ।

Ans
✗ 1. भेज
✓ 2. लिख

Career Aglasem

✗ 3. पढ़

✗ 4. सोच

Question ID : **9895806848**
Chosen Option : **2**

Q.2 रिक्त स्थान को भरने के लिए उपयुक्त शब्द का चयन करें।

राजा हर्षवर्धन _____ करके लौटे।

Ans
✗ 1. नाटक

✗ 2. चोरी

✔ 3. दिग्विजय

✗ 4. नृत्य

Question ID : **9895806846**
Chosen Option : **3**

Q.3 दिए गए शब्द के पर्यायवाची शब्द का चयन करें।

विपदा

Ans
✗ 1. मनीषी

✔ 2. आपदा

✗ 3. सुख

✗ 4. निरपराध

Question ID : **9895806858**
Chosen Option : **2**

Q.4 दिए गए वाक्य का वह भाग ज्ञात करें जिसमें कोई त्रुटि है।

विद्यालय में पढ़ाई करने के लिए अनेकों छात्र आए हुए थे।

Ans
✗ 1. पढ़ाई करने के लिए

✗ 2. आए हुए थे।

✗ 3. विद्यालय में

✔ 4. अनेकों छात्र

Question ID : **9895806841**
Chosen Option : **4**

Q.5 दिये गये वाक्यांश के लिए एक शब्द दीजिये।

लेख की नकल

Ans
✗ 1. नकलची

✗ 2. लिपि

✔ 3. प्रतिलिपि

Career Aglasem

✗ 4. हस्तलिपि

Question ID : **9895806862**
Chosen Option : **3**

Q.6 दिये गये वाक्यांश के लिए एक शब्द दीजिये।

अच्छे चरित्र वाला

Ans
✗ 1. चरित्रहीन
✗ 2. दुष्चरित्र
✔ 3. चरित्रवान
✗ 4. व्यभिचारी

Question ID : **9895806861**
Chosen Option : **3**

Q.7 दिए गए वाक्य में रेखांकित खंड को प्रतिस्थापित करने के लिए उपयुक्त विकल्प का चयन करें।

धरणी पर बहुत सारी प्राकृतिक घटनाएं होती रहती हैं।

Ans
✗ 1. वृक्ष
✗ 2. भुजंग
✗ 3. समूह
✔ 4. पृथ्वी

Question ID : **9895806842**
Chosen Option : **4**

Q.8 दिए गए शब्द का विलोम चुनें।

ऐश्वर्य

Ans
✗ 1. भक्ति
✗ 2. शक्ति
✔ 3. दरिद्रता
✗ 4. शान

Question ID : **9895806855**
Chosen Option : **3**

Q.9 निम्नलिखित में से उस विकल्प का चयन करें जो 'रंगा सियार' मुहावरे का अर्थ व्यक्त करता है।

Ans
✗ 1. रँगा हुआ सियार
✔ 2. धोखे बाज
✗ 3. सुंदर सियार
✗ 4. एक समान

Question ID : **9895806860**
Chosen Option : **2**

Career Aglasem

Q.10 निम्नलिखित में से उस विकल्प का चयन करें जो 'एक ही राग अलापना' मुहावरे का अर्थ व्यक्त करता है।

Ans
1. कोई बात एक ही बार कहना
2. कई बात एक साथ कहना
3. सुर में सुर मिलाना
4. एक ही बात बार-बार कहना

Question ID : **9895806859**
Chosen Option : **4**

Q.11 दिए गए वाक्य में रेखांकित खंड को प्रतिस्थापित करने के लिए उपयुक्त विकल्प का चयन करें।

कबीर बहुत सी भाषाएँ जानता है।

Ans
1. बहुभाषाविद्
2. भाषावैज्ञानिक
3. बहुज्ञ
4. तत्व चिन्तक

Question ID : **9895806844**
Chosen Option : **1**

Q.12 दिए गए शब्द के पर्यायवाची शब्द का चयन करें।

तालाब

Ans
1. समुद्र
2. बाग
3. पोखर
4. अरि

Question ID : **9895806857**
Chosen Option : **3**

Q.13 दिए गए वाक्य में रेखांकित खंड को प्रतिस्थापित करने के लिए उपयुक्त विकल्प का चयन करें।

पुराने समय में कपोत एक बहुत ही अच्छा संदेशक माना जाता था।

Ans
1. अश्व
2. डाकिया
3. कोयल
4. कबूतर

Question ID : **9895806843**
Chosen Option : **4**

Q.14 रिक्त स्थान को भरने के लिए उपयुक्त शब्द का चयन करें।

मनुष्य को अपनी _____ नहीं छोड़नी चाहिए।

Ans
1. बचपन ✗
2. अभिमान ✗
3. मनुष्यता ✓
4. क्रोध ✗

Question ID : **9895806845**
Chosen Option : **3**

Q.15 दिए गए वाक्य का वह भाग ज्ञात करें जिसमें कोई त्रुटि है।

अच्छे आभूषणों के द्वारा शरीर की शोभा बढ़ जाता है ।

Ans
1. के द्वारा ✗
2. शरीर की शोभा ✗
3. अच्छे आभूषणों ✗
4. बढ़ जाता है। ✓

Question ID : **9895806840**
Chosen Option : **3**

Q.16 दिए गए वाक्य का वह भाग ज्ञात करें जिसमें कोई त्रुटि है।

मुख्य अतिथि का एक फूल की माला पहना कर स्वागत किया गया।

Ans
1. मुख्य अतिथि का ✗
2. एक फूल की माला ✓
3. पहना कर ✗
4. स्वागत किया गया ✗

Question ID : **9895806839**
Chosen Option : **2**

Q.17 सही वर्तनी वाले शब्द का चयन करें।

Ans
1. विसतार ✗
2. वीसतार ✗
3. वीस्तार ✗
4. विस्तार ✓

Question ID : **9895806864**
Chosen Option : **4**

Q.18 रिक्त स्थान को भरने के लिए उपयुक्त शब्द का चयन करें।

भगवान सबका _____ करे।

Ans
1. भली ✗
2. भला ✓

Career Aglasem

✗ 3. कृपा

✗ 4. दया

Question ID : **9895806847**
Chosen Option : **2**

Q.19 दिए गए शब्द का विलोम चुनें।

खरा

Ans
✗ 1. साफ

✗ 2. सरल

✗ 3. सोना

✔ 4. खोटा

Question ID : **9895806856**
Chosen Option : **1**

Q.20 सही वर्तनी वाले शब्द का चयन करें।

Ans
✗ 1. अभीशेक

✔ 2. अभिषेक

✗ 3. अभिशेक

✗ 4. अभीषेक

Question ID : **9895806863**
Chosen Option : **2**

Comprehension:

निम्नलिखित गद्यांश के रिक्त स्थानों की पूर्ति गद्यांश के नीचे दिए गए प्रश्नों के अनुसार कीजिए-

होली के पर्व के पीछे एक लोकप्रिय पौराणिक _____ (1) है। हिरण्यकश्यप एक राक्षस राजा था। उसका एक बेटा था जिसका नाम प्रह्लाद था। _____ (2) भगवन विष्णु का भक्त था। ये बात उसके पिता को पसंद नहीं थी। पिता के कई बार _____ (3) के बाद भी प्रह्लाद ने अपनी विष्णु भक्ति नहीं छोड़ी। हिरण्यकश्यप ने अपने ही बेटे को कई तरह की सजायें दी _____ (4) ईश्वर की कृपा से वह हर बार बच जाता था। एक दिन क्रोधित _____ (5) हिरण्यकश्यप ने अपनी बहन होलिका को अपने बेटे का वध करने के लिए बुलाया।

SubQuestion No : 21

Q.21 गद्यांश में संकेतित रिक्त स्थान (1) के लिए उपयुक्त शब्द होगा।

Ans
✗ 1. कविता

✗ 2. दर्शन

✔ 3. कथा

✗ 4. निबंध

Career Aglasem

Question ID : **9895806850**
Chosen Option : **3**

Comprehension:

निम्नलिखित गद्यांश के रिक्त स्थानों की पूर्ति गद्यांश के नीचे दिए गए प्रश्नों के अनुसार कीजिए-

होली के पर्व के पीछे एक लोकप्रिय पौराणिक _____ (1) है। हिरण्यकश्यप एक राक्षस राजा था। उसका एक बेटा था जिसका नाम प्रहलाद था। _____ (2) भगवन विष्णु का भक्त था। ये बात उसके पिता को पसंद नहीं थी। पिता के कई बार _____ (3) के बाद भी प्रहलाद ने अपनी विष्णु भक्ति नहीं छोड़ी। हिरण्यकश्यप ने अपने ही बेटे को कई तरह की सजायें दी _____ (4) ईश्वर की कृपा से वह हर बार बच जाता था। एक दिन क्रोधित _____ (5) हिरण्यकश्यप ने अपनी बहन होलिका को अपने बेटे का वध करने के लिए बुलाया।

SubQuestion No : 22

Q.2 2 गद्यांश में संकेतित रिक्त स्थान (2) के लिए उपयुक्त शब्द होगा।

Ans
✗ 1. उन्होंने
✓ 2. वह
✗ 3. उसने
✗ 4. वे

Question ID : **9895806851**
Chosen Option : **2**

Comprehension:

निम्नलिखित गद्यांश के रिक्त स्थानों की पूर्ति गद्यांश के नीचे दिए गए प्रश्नों के अनुसार कीजिए-

होली के पर्व के पीछे एक लोकप्रिय पौराणिक _____ (1) है। हिरण्यकश्यप एक राक्षस राजा था। उसका एक बेटा था जिसका नाम प्रहलाद था। _____ (2) भगवन विष्णु का भक्त था। ये बात उसके पिता को पसंद नहीं थी। पिता के कई बार _____ (3) के बाद भी प्रहलाद ने अपनी विष्णु भक्ति नहीं छोड़ी। हिरण्यकश्यप ने अपने ही बेटे को कई तरह की सजायें दी _____ (4) ईश्वर की कृपा से वह हर बार बच जाता था। एक दिन क्रोधित _____ (5) हिरण्यकश्यप ने अपनी बहन होलिका को अपने बेटे का वध करने के लिए बुलाया।

SubQuestion No : 23

Q.2 3 गद्यांश में संकेतित रिक्त स्थान (3) के लिए उपयुक्त शब्द होगा।

Ans
✗ 1. प्यार करने
✗ 2. दुलार करने

✗ 3. निवेदन करने

✓ 4. समझाने

Question ID : **9895806852**
Chosen Option : **4**

Comprehension:

निम्नलिखित गद्यांश के रिक्त स्थानों की पूर्ति गद्यांश के नीचे दिए गए प्रश्नों के अनुसार कीजिए-

होली के पर्व के पीछे एक लोकप्रिय पौराणिक _____ (1) है। हिरण्यकश्यप एक राक्षस राजा था। उसका एक बेटा था जिसका नाम प्रहलाद था। _____ (2) भगवन विष्णु का भक्त था। ये बात उसके पिता को पसंद नहीं थी। पिता के कई बार _____ (3) के बाद भी प्रहलाद ने अपनी विष्णु भक्ति नहीं छोड़ी। हिरण्यकश्यप ने अपने ही बेटे को कई तरह की सजायें दी _____ (4) ईश्वर की कृपा से वह हर बार बच जाता था। एक दिन क्रोधित _____ (5) हिरण्यकश्यप ने अपनी बहन होलिका को अपने बेटे का वध करने के लिए बुलाया।

SubQuestion No : 24

Q.24 गद्यांश में संकेतित रिक्त स्थान (4) के लिए उपयुक्त शब्द होगा।

Ans
✗ 1. अतः

✓ 2. परन्तु

✗ 3. इसलिए

✗ 4. क्योंकि

Question ID : **9895806853**
Chosen Option : **2**

Comprehension:

निम्नलिखित गद्यांश के रिक्त स्थानों की पूर्ति गद्यांश के नीचे दिए गए प्रश्नों के अनुसार कीजिए-

होली के पर्व के पीछे एक लोकप्रिय पौराणिक _____ (1) है। हिरण्यकश्यप एक राक्षस राजा था। उसका एक बेटा था जिसका नाम प्रहलाद था। _____ (2) भगवन विष्णु का भक्त था। ये बात उसके पिता को पसंद नहीं थी। पिता के कई बार _____ (3) के बाद भी प्रहलाद ने अपनी विष्णु भक्ति नहीं छोड़ी। हिरण्यकश्यप ने अपने ही बेटे को कई तरह की सजायें दी _____ (4) ईश्वर की कृपा से वह हर बार बच जाता था। एक दिन क्रोधित _____ (5) हिरण्यकश्यप ने अपनी बहन होलिका को अपने बेटे का वध करने के लिए बुलाया।

SubQuestion No : 25

Q.25 गद्यांश में संकेतित रिक्त स्थान (5) के लिए उपयुक्त शब्द होगा।

Ans

Career Aglasem

1. बनकर
2. चलकर
3. होकर
4. लगकर

Question ID : **9895806854**
Chosen Option : **3**

aglasem.com