JEE MAIN

aglasem.com

QUESTION PAPER

2022

JOINT ENTRANCE EXAMINATION - MAIN

PREVIOUS YEAR QUESTION PAPER

Joint Entrance Examination (Main) - JEE(Main)

Paper Name	B. Arch (Paper 2A)
Test Date	23-06-2022
Slot	SLOT - 1
Lang	Punjabi

Passage: Passage_Punjabi

Q:1
Topic Name: Mathematics – Part I-Section A

ItemCode:100401

Question: ਸਮੂਹ $\left\{\theta : \frac{\pi}{2} \leq \theta \leq \frac{3\pi}{2}, \theta \neq \pi, \cot^2\theta + 3\,\text{cosec}\theta + 3 < 0\right\}$ ਬਰਾਬਰ ਹੈ :

A $\left(\frac{\pi}{2}, \frac{4\pi}{3}\right) - \{\pi\}$

B $\left(\frac{7\pi}{6}, \frac{3\pi}{2}\right)$

C $\left(\frac{4\pi}{3}, \frac{3\pi}{2}\right)$

D $\left(\pi, \frac{7\pi}{6}\right)$

Q:2
Topic Name: Mathematics – Part I-Section A

ItemCode:100402

ਮੰਨ ਲਉ $f : \mathbf{R} - \{4\} \to \mathbf{R} - \{1\}$ ਅਤੇ $g : \mathbf{R} \to \mathbf{R}$, $f(x) = \frac{x}{x-4}$ ਅਤੇ $g(x) = 4x + 3$ ਦੁਆਰਾ ਪਰਿਭਾਸ਼ਿਤ ਹੈ।

ਜੇਕਰ $(fog)^{-1}(\alpha) = 0$ ਕਿਸੇ α ਲਈ, ਤੱਦ $\frac{g(\alpha)}{f(\alpha)}$ ਬਰਾਬਰ ਹੈ :

Question:

A 21

B -21

C $\frac{-1}{21}$

D 7

Q:3
Topic Name: Mathematics – Part I-Section A

ItemCode:100403

Question: ਸਮੀਕਰਨ $(x-1)(x+1)(2x+1)(2x-3) = 15$ ਦੇ ਸਾਰੇ ਮੂਲਾਂ ਦੇ ਨਿਰਪੇਖ ਦਾ ਜੋੜ ਹੈ :

A $\frac{55}{8}$

B $\frac{9}{2}$

aglasem.com

C	$\frac{11}{2}$
D	$\frac{23}{2}$

Q:4
Topic Name: Mathematics – Part I-Section A

ItemCode:100404

Question: ਮਿਸਰਿਤ ਸੰਖਿਆ $z=x+iy, z\neq -2i$ ਜੋ ਕਿ $\left|\frac{z-3i}{z+2i}\right| = \frac{\sqrt{2}}{\sqrt{3}}$ ਨੂੰ ਸੰਤੁਸ਼ਟ ਕਰਦੀ ਹੈ ਦਾ ਬਿੰਦੂ ਸਮੂਹ ਹੈ :

A	x ਧੁਰੇ ਦੇ ਸਮਾਤਰ ਇੱਕ ਸਿੱਧੀ ਰੇਖਾ
B	$\sqrt{\frac{2}{3}}$ ਅਸਮਕੇਂਦਰਤਾ ਵਾਲਾ ਇਲਿਪਸ
C	ਕੇਂਦਰ $(0, -13)$ ਵਾਲਾ ਇੱਕ ਚੱਕਰ
D	ਅਰਧ ਵਿਆਸ $5\sqrt{6}$ ਵਾਲਾ ਇੱਕ ਚੱਕਰ

Q:5
Topic Name: Mathematics – Part I-Section A

ItemCode:100405

Question: ਕੋਈ ਵੀ 3×3 ਦੇ ਦੋ ਮੈਟ੍ਰਿਕਸ A ਅਤੇ B ਲਈ $AB=BA$, ਹੇਠ ਲਿਖੇ ਦੋ ਕਥਨ ਵਿਚਾਰੋ

(S1) ਜੇਕਰ A^3 ਵਿਖਮ ਸਮਮਿਤਈ ਅਤੇ B^2 ਸਮਮਿਤਈ ਹੈ ਤੱਦ $(AB)^6$ ਸਮਮਿਤਈ ਹੈ।

(S2) ਜੇਕਰ A^3 ਸਮਮਿਤਈ ਅਤੇ B^2 ਬਿਖਮ ਸਮਮਿਤਈ ਹੈ ਤੱਦ $(AB)^6$ ਬਿਖਮ ਸਮਮਿਤਈ ਹੈ।

A	ਦੋਵੇਂ (S1) ਅਤੇ (S2) ਸਹੀ ਹਨ।
B	ਸਿਰਫ (S1) ਸਹੀ ਹੈ।
C	ਸਿਰਫ (S2) ਸਹੀ ਹੈ ।
D	ਦੋਵੇਂ (S1) ਅਤੇ (S2) ਗਲਤ ਹਨ।

Q:6
Topic Name: Mathematics – Part I-Section A

ItemCode:100406

Question: ਮੰਨ ਲਉ $\lambda, \mu\in\mathbf{R}$, ਹੇਠਾ ਲਿਖੇ ਕਿਹੜੇ ਕ੍ਰਮਬੱਧ ਜੋੜੇ (λ, μ) ਲਈ ਪ੍ਰਣਾਲੀ:

$$3x-y+z=1$$
$$2x-3y+\lambda z=\mu$$
$$x+y+3z=-1$$

ਕੋਲ ਕੋਈ ਹੱਲ ਨਹੀਂ ਹੈ।

A	$(-4, 1)$
B	$(4, 3)$
C	$(-4, 3)$

aglasem.com

D	(4, 1)

Q:7
Topic Name: Mathematics – Part I-Section A

ItemCode:100407

Question: ਇੱਕ ਅਨੁਕ੍ਰਮ S ਵਿੱਚ 21 ਪਦ ਹਨ ਜਿਨ੍ਹਾਂ ਵਿੱਚ ਪਹਿਲੇ 11 ਪਦ ਅੰਕਗਣਿਤਿਕ ਲੜੀ ਵਿੱਚ ਹਨ ਜਿਸਦਾ ਸਾਂਝਾ ਅੰਤਰਾਲ 2 ਹੈ ਅਤੇ ਅਖੀਰਲੇ 11 ਪਦ ਜਮਾਇਤੀ ਲੜੀ ਵਿੱਚ ਹਨ ਜਿਸਦਾ ਸਾਝਾ ਅਨੁਪਾਤ $\frac{1}{2}$ ਹੈ। ਜੇਕਰ ਦੋਵੇਂ ਅੰਕਗਣਿਤਿਕ ਅਤੇ ਜਮਾਇਤੀ ਲੜੀਆਂ ਦਾ ਮੱਧ ਪਦ ਇਕੋ ਹਨ, ਤੱਦ S ਦਾ 11 ਵਾਂ ਪਦ ਹੈ:

A	$\frac{320}{31}$
B	$\frac{160}{31}$
C	$\frac{160}{63}$
D	$\frac{64}{33}$

Q:8
Topic Name: Mathematics – Part I-Section A

ItemCode:100408

Question: $\lim_{x\to\infty} x \log_e \left(e\left(1+\frac{1}{x}\right)^{1-x}\right)$ ਬਰਾਬਰ ਹੈ :

A	$\frac{1}{2}$
B	$\frac{2}{3}$
C	$\frac{3}{2}$
D	1

Q:9
Topic Name: Mathematics – Part I-Section A

ItemCode:100409

Question: ਜੇਕਰ $y\sqrt{x^2+1} = \log_e\left(\sqrt{x^2+1}-x\right)$, ਤੱਦ :

A	$(x^2+1)y' + xy - 1 = 0$
B	$(x^2+1)y'' + 3xy' + y = 0$
C	$(x^2+1)y'' + xy' - y = 0$
D	$(x^2+1)y' + 2xy + 1 = 0$

Q:10

aglasem.com

Topic Name: Mathematics – Part I-Section A

ItemCode:100410

Question: ਹੇਠ ਲਿਖੇ ਕਥਨ ਵਿੱਚਾਰੋ

(S1) $1\cdot2+2\cdot3+3\cdot4+.....+n\cdot(n+1)\leq\frac{n(n^2+40)}{10}$

(S2) $1\cdot3+3\cdot5+5\cdot7+.....+(2n-1)\cdot(2n+1)\leq\frac{4n^2(2n+3)}{5}$

ਤੱਦ, ਕਿਸੇ ਵੀ $n\in N$, ਲਈ

A	ਦੋਵੇਂ (S1) ਅਤੇ (S2) ਸਹੀ ਹਨ।
B	ਦੋਵੇਂ (S1) ਅਤੇ (S2) ਗਲਤ ਹਨ।
C	ਸਿਰਫ (S1) ਸਹੀ ਹੈ।
D	ਸਿਰਫ (S2) ਸਹੀ ਹੈ।

Q:11

Topic Name: Mathematics – Part I-Section A

ItemCode:100411

Question: ਇੰਨਟੀਗਰਲ $\int_0^1 \tan^{-1}(1-x+x^2)\,dx$ ਦਾ ਮੁੱਲ ਹੈ :

A	$\frac{\pi}{4}-\frac{1}{2}\log_e 2$
B	$\frac{\pi}{2}-\log_e 2$
C	$\log_e 2$
D	$\pi+\log_e 2$

Q:12

Topic Name: Mathematics – Part I-Section A

ItemCode:100412

Question: ਮੰਨ ਲਉ $\vec{a}=x\hat{i}+\hat{j}+\hat{k}$, $\vec{b}=y\hat{i}+2\hat{k}$ ਅਤੇ $\vec{c}=2\hat{j}+y\hat{k}$ ਤਿੰਨ ਵੈਕਟਰ ਹਨ ਜਦਕਿ $\vec{b}$ ਉਪਰ $\vec{a}$ ਦਾ ਪ੍ਰਖੇਪ $\frac{4}{\sqrt{5}}$ ਹੈ ਅਤੇ $\vec{c}$ ਉਪੱਰ $\vec{a}$ ਦਾ ਪ੍ਰਖੇਪ $\frac{3}{\sqrt{5}}$ ਹੈ, ਜੇਕਰ $|\vec{c}|<3$ ਅਤੇ $|\vec{a}|<6$ ਤੱਦ $\vec{a}\cdot(\vec{b}\times\vec{c})$ ਬਰਾਬਰ ਹੈ :

A	-7
B	-5
C	9
D	16

Q:13

Topic Name: Mathematics – Part I-Section A

aglasem.com

ItemCode:100413

Question: 11 ਇਕਾਈ ਲੰਬੀ ਇੱਕ ਛੜ ਇਸ ਤਰਾਂ ਚਲਦੀ ਹੈ ਕਿ ਇਸਦੇ ਸਿਰੇ A ਅਤੇ B ਹਮੇਸ਼ਾ ਦੋ ਕ੍ਰਮਵਾਰ ਰੇਖਾਵਾਂ $2x-3y=0$ ਅਤੇ $3x+2y=0$ ਤੇ ਹਨ। ਛੜ ਦਾ ਮੱਦ ਬਿੰਦੂ ਮੌਜੂਦ ਹੈ :

A	11 ਇਕਾਈ ਅਰਧਵਿਆਸ ਵਾਲੇ ਚੱਕਰ ਤੇ।
B	$\frac{11}{2}$ ਇਕਾਈ ਅਰਧਵਿਆਸ ਵਾਲੇ ਚੱਕਰ ਤੇ।
C	11 ਇਕਾਈ ਲੇਟਸ ਰੈਕਟਮ ਵਾਲੇ ਪੈਰਾਬੋਲਾ ਤੇ।
D	$\frac{11}{2}$ ਇਕਾਈ ਲੇਟਸ ਰੈਕਟਮ ਵਾਲੇ ਪੈਰਾਬੋਲਾ ਤੇ।

Q:14
Topic Name: Mathematics – Part I-Section A

ItemCode:100414

Question: ਹੇਠ ਲਿਖੀ ਭਿਨਾਤਮਕ ਸਮੀਕਰਨ ਵਿੱਚਾਰੋ

$$\frac{dy}{dx}=\frac{e^{2y}+x^2}{x^3},\ x>0.$$

ਜੇਕਰ $y(e)=1$ ਤੱਦ $y(1)$ ਬਰਾਬਰ ਹੈ :

A	$-\frac{3}{2}$
B	$\log_e(\sqrt{3})$
C	$\log_e\left(\frac{1}{\sqrt{5}}\right)$
D	$\log_e\left(\frac{1}{\sqrt{3}}\right)$

Q:15
Topic Name: Mathematics – Part I-Section A

ItemCode:100415

Question: ਬਿੰਦੂ $(2, 0)$ ਤੋਂ ਰੋਸ਼ਨੀ ਦੀ ਇੱਕ ਕਿਰਨ ਸਿੱਟੀ ਗਈ । y-ਧੁਰੇ ਦੇ ਬਿੰਦੂ $(0, 2)$ ਤੋਂ ਪਰਾਵਰਤਿਤ ਹੋਣ ਤੋਂ ਬਾਅਦ ਜੇਕਰ ਇਹ ਕਿਰਨ ਰੇਖਾ $x+y=3$ ਦੇ ਰੇਖਾ ਖੰਡ ਨੂੰ ਪਹਿਲੇ ਭਾਗ ਵਿੱਚ $m:n\ (m<n)$ ਅਨੁਪਾਤ ਵਿੱਚ ਵੰਡਦੀ ਹੈ ਤੱਦ $\frac{2n-m}{2n+m}$ ਬਰਾਬਰ ਹੈ :

A	$\frac{9}{11}$
B	$\frac{11}{13}$
C	$\frac{5}{7}$
D	$\frac{2}{3}$

aglasem.com

Q:16
Topic Name: Mathematics – Part I-Section A

ItemCode:100416

Question: ਹਾਈਪਰਬੋਲਾ $x^2-y^2=60$ ਉਪਰ ਦੋ ਬਿੰਦੂਆਂ ਜਿਨਾਂ ਤੋਂ ਸੱਪਰਸ਼ ਰੇਖਾਵਾਂ, ਰੇਖਾ $y=2x$ ਦੇ ਸਮਾਂਤਰ ਹਨ, ਵਿਚਕਾਰ ਦੂਰੀ ਹੈ:

A	$6\sqrt{10}$
B	20
C	10
D	$10\sqrt{2}$

Q:17
Topic Name: Mathematics – Part I-Section A

ItemCode:100417

Question: ਮੰਨ ਲਉ Q, ਤੱਲ $2x-y+z+4=0$ ਦੀ ਬਾਬਤ, ਬਿੰਦੂ $(2, 3, 4)$ ਦਾ ਦਰਪਣ ਪ੍ਰਤੀਬਿੰਬ ਹੈ। ਤੱਦ Q ਸਥਾਪਿਤ ਹੈ :

A	$x-y+3z+5=0$
B	$x+2y+3z-10=0$
C	$\frac{x-6}{5}=y-8=\frac{z-5}{2}$
D	$\frac{x+6}{5}=y+8=\frac{z+5}{3}$

Q:18
Topic Name: Mathematics – Part I-Section A

ItemCode:100418

Question: ਕਿਸੇ $p \in \mathbf{R}$ ਲਈ, ਮੰਨ ਲਉ ਰੇਖਾ $(L_1)\ \frac{x-1}{2}=\frac{y-1}{p}=\frac{z-2}{2}$,ਕੱਟਦੀ ਹੈ ਰੇਖਾ L_2 ਨੂੰ ਜੋ ਕਿ ਬਿੰਦੂ $A(1, 2, 0)$ ਵਿੱਚੋਂ ਲੰਘਦੀ ਹੈ ਅਤੇ ਤੱਲ $x+y+z=1$ ਦੇ ਸਮਾਂਤਰ ਹੈ। ਜੇਕਰ ਰੇਖਾ L_1 ਮੌਜੂਦ ਹੈ ਤੱਲ $2x+3y-4z=3$ ਉਪਰ, ਤੱਦ ਰੇਖਾ L_2 ਹੈ

A	$\frac{8x-5}{-3}=\frac{4y-3}{-5}=\frac{8z-13}{13}$
B	$\frac{4x-5}{1}=\frac{2y-3}{-1}=\frac{4z-13}{13}$
C	$\frac{8x-5}{3}=\frac{4y-3}{5}=\frac{4z-13}{-13}$
D	$\frac{8x+5}{-13}=\frac{4y+3}{-11}=\frac{8z-13}{13}$

Q:19
Topic Name: Mathematics – Part I-Section A

ItemCode:100419

Question: ਮੰਨ ਲਉ ਆਂਕੜੇ 2, 6, 12, 8, k, 20 ਦਾ ਮੱਧਮਾਨ 12 ਹੈ। ਜੇਕਰ m ਅਤੇ σ^2 ਕ੍ਰਮਵਾਰ ਆਂਕੜੇ ਦੇ ਮੱਧਿਕਾ ਤੋਂ ਮੱਧ ਵਿੱਚਲਨ ਅਤੇ ਪ੍ਰਸਰਨ ਹਨ, ਤੱਦ $\frac{\sigma^2}{m}$ ਬਰਾਬਰ ਹੈ :

A	9
B	10
C	12
D	18

Q:20
Topic Name: Mathematics – Part I-Section A

ItemCode:100420

Question: $(p \rightarrow \sim p) \wedge (\sim q \rightarrow q)$ ਦੀ ਨਿਖੇਪਨ ਵਰਗਾ ਹੈ :

A	$\sim p \rightarrow q$
B	$p \rightarrow q$
C	$\sim p \rightarrow \sim q$
D	$p \rightarrow \sim q$

Q:21
Topic Name: Mathematics – Part I-Section B

ItemCode:100421

Question: ਮੰਨ ਲਉ n ਇੱਕ ਤਰਾਂ ਦੀਆ ਵਸਤੂਆ ਵਿਚੋਂ k ਵਸਤੂਆਂ ਚੁਣਨ ਦੇ ਤਰਿਕਿਆਂ ਨੂੰ $\binom{n}{k}$ ਨਾਲ ਦਰਸਾਇਆ ਜਾਂਦਾ ਹੈ, ਜੇਕਰ

$$\sum_{k=1}^{20}\binom{20}{k}\binom{20}{k-1}(-1)^k+\sum_{k=0}^{20}\binom{20}{k}^2(-1)^k+\sum_{k=0}^{21}\binom{21}{k}^2(-1)^k=p\binom{19}{10}$$

ਤੱਦ p^2-p ਬਰਾਬਰ _____ ਹੈ।

Q:22
Topic Name: Mathematics – Part I-Section B

ItemCode:100422

Question: ਜੇਕਰ ਸਮਬਾਹੂ ਤ੍ਰਿਭੁਜ ਦੁਆਰਾ ਘਿਰੇ ਹੋਏ ਇੱਕ ਆਇਤ, ਜਦਕਿ ਆਇਤ ਦੀ ਇੱਕ ਭੁਜਾ ਤ੍ਰਿਭੁਜ ਦੀ ਇੱਕ ਭੁਜਾ ਉਪਰ ਹੈ, ਦਾ ਵੱਧ ਤੋਂ ਵੱਧ ਖੇਤਰਫਲ $\frac{25}{2}\sqrt{3}$ ਇਕਾਈ^2 ਹੈ, ਤੱਦ ਤ੍ਰਿਭੁਜ ਦਾ ਘੇਰਾ (ਇਕਾਈਆ ਵਿੱਚ) _____ ਹੈ।

Q:23
Topic Name: Mathematics – Part I-Section B

eglasem.com

ItemCode:100423

Question: ਮੰਨ ਲਉ [t] ਅਧਿਕਤਮ ਪੂਰਨ ਸੰਖਿਆ t ਤੋਂ ਘੱਟ ਜਾਂ ਬਰਾਬਰ ਨੂੰ ਦਰਸਾਉਂਦਾ ਹੈ। ਬਿੰਦੂ, ਜਿਥੇ ਫਲਨ

$$f(x)=\begin{cases} x^2+2x+2 & \text{ਜੇਕਰ} \quad x \le -1 \\ \left[x^2+\frac{1}{4}x+\frac{5}{3}\right] & \text{ਜੇਕਰ} \quad -1<x<1 \\ x^2-2x+4 & \text{ਜੇਕਰ} \quad x \geqslant 1 \end{cases}$$

ਲਗਾਤਰ ਨਹੀਂ ਹੈ, ਦੀ ਗਿਣਤੀ _____ ਹੈ।

Q:24
Topic Name: Mathematics – Part I-Section B

ItemCode:100424

Question: ਸਾਰੇ ਅੰਕ 1, 3, 4, 5, 6, 8 ਨੂੰ ਵਰਤ ਕੇ 11 ਤੇ ਵੰਡੇ ਜਾਣ ਵਾਲੀਆ 6 ਅੰਕੀ ਸੰਖਿਆਵਾਂ ਦੀ ਗਿਣਤੀ _____ ਹੈ।

Q:25
Topic Name: Mathematics – Part I-Section B

ItemCode:100425

Question: ਮੰਨ ਲਉ ਸਮੂਹ $S=\{(m, n) \mid m, n \in \{1, 2, ..., 10\}, m \neq n\}$ ਵਿਚੋਂ ਦੋ ਤੱਤ (a, b), (c, d) ਬੇਤਰਤੀਬੇ ਢੰਗ ਨਾਲ ਚੁਣੇ ਗਏ ਹਨ ਜੇਰਕ $a+b=c+d$ ਦੀ ਸੰਭਾਵਣਾ p ਹੋਵੇ ਤੱਦ $(45)^2 p$ ਬਰਾਬਰ _____ ਹੈ।

Q:26
Topic Name: Mathematics – Part I-Section B

ItemCode:100426

Question: ਜੇਕਰ $x^2+y^2=16$ ਅਤੇ $9x^2+25y^2=225$ ਦੀ ਸਾਂਝੀ ਸੱਪਰਸ਼ ਰੇਖਾ ਦੇ ਸਪਰਸ਼ ਬਿੰਦੂਆਂ ਵਿੱਚਕਾਰ ਦੀ ਲੰਬਾਈ L ਹੈ ਤੱਦ $32L^2$ ਬਰਾਬਰ _____ ਹੈ

Q:27
Topic Name: Mathematics – Part I-Section B

ItemCode:100427

Question: ਮੰਨ ਲਉ $f_n(x)=\sum_{j=1}^{n}\cot^{-1}\left(1-(x+j)+(x+j)^2\right)$ ਸਾਰੇ $x \geqslant 0$ ਲਈ ਤੱਦ $\sum_{j=1}^{10}(j^2+1)\sin^2(f_j(0))$ ਬਰਾਬਰ _____ ਹੈ।

Q:28
Topic Name: Mathematics – Part I-Section B

ItemCode:100428

Question: ਜੇਕਰ ਵਤਰਾਂ $y=2x^2-1$ ਅਤੇ $|x|=3-2y$ ਦੁਆਰਾ ਘਿਰਿਆ ਖੇਤਰ A ਹੈ ਤੱਦ 12 A ਬਰਾਬਰ _____ ਹੈ।

Q:29
Topic Name: Mathematics – Part I-Section B

ItemCode:100429

Question: ਜੇਕਰ ਸਮੀਕਰਨ $x^2+(\sqrt{3}-\sqrt{2}-1)x+(\sqrt{3}-2-\sqrt{6}+2\sqrt{2})=0$ ਦੇ ਮੂਲਾਂ $\tan\frac{A}{2}$ ਅਤੇ $\tan\frac{B}{2}, 0<A, B<\pi$ ਹਨ ਤੱਦ $12\sec^2 4(A+B)$, ਬਰਾਬਰ _____ ਹੈ।

Q:30
Topic Name: Mathematics – Part I-Section B

aglasem.com

ItemCode:100430

Question: $2\int_{-1}^{4}(|x-3|+[x])\,dx$ ਦਾ ਮੁੱਲ, ਜਿਥੇ $[x]$ ਅਧਿਕਤਮ ਪੂਰਨ ਸੰਖਿਆ x ਤੋਂ ਘੱਟ ਜਾਂ ਬਰਾਬਰ ਨੂੰ ਦਰਸਾਉਂਦਾ ਹੈ, _____ ਹੈ।

Q:31
Topic Name: Aptitude Test – Part II

ItemCode:100431

Question: ਕਿਹੜਾ ਆਰਕਿਟੈਕਟ ਇੱਟ ਅਤੇ ਚਿੱਕੜ ਦੇ ਨਾਲ ਕੰਮ ਕਰਦਾ ਹੈ ?

A	ਜ਼ਾਹਾ ਹਦੀਦ
B	ਲੌਰੀ ਬੇਕਰ
C	ਕਰਿਸਟੋਫਰ ਬੈਂਜਾਮਿਨ
D	ਫਰੈਂਕ ਲੇਯੋਡ ਰਾਈਟ

Q:32
Topic Name: Aptitude Test – Part II

ItemCode:100432

Question: ਇੱਕ ਦਫਤਰ ਦੀ ਇਮਾਰਤ 10 ਮੰਜ਼ਿਲਾ ਹੈ। ਹੇਠਲੀ ਮੰਜਿਲ ਦੀ ਉਚਾਈ 4 m ਹੈ ਅਤੇ ਬਾਕੀ ਮੰਜ਼ਿਲਾ ਦੀ ਉੱਚਾਈ 3500 mm ਹੈ। ਇਮਾਰਤ ਦੀ ਕੁੱਲ ਉੱਚਾਈ ਮੀਟਰ ਵਿੱਚ ਦਸੋ :

A	35 ਮੀਟਰ
B	31.5 ਮੀਟਰ
C	35.5 ਮੀਟਰ
D	39 ਮੀਟਰ

Q:33
Topic Name: Aptitude Test – Part II

ItemCode:100433

Question: **ਸੂੱਚੀ - ਅਤੇ ਸੂੱਚੀ - II** ਦਾ ਮਿਲਾਨ ਕਰੋ :

ਸੂੱਚੀ-I		**ਸੂੱਚੀ-II**	
(A)	ਆਮੇਰ ਕਿਲ੍ਹਾ	(I)	ਚੰਦ ਮੀਨਾਰ
(B)	ਆਗਰਾ ਦਾ ਕਿਲ੍ਹਾ	(II)	ਗੁੰਝਲਕਾਰ ਜਾਲੀ ਕੱਮ
(C)	ਕੁਤੁਬ ਈਮਾਰਤ	(III)	ਪਿਏਟਰਾ ਡੁਰਾ ਕੱਮ
(D)	ਦੋਲਤਾਬਾਦਾ ਦਾ ਕਿਲ੍ਹਾ	(IV)	ਟੇਪਰਿੰਗ ਟਾਵਰਦਾ

ਹੇਠ ਦਿੱਤੇ ਵਿੱਕਲਪਾਂ ਵਿੱਚੋਂ ਸਹੀ ਉਤਰ ਚੁਣੋ:

A	(A)-(IV), (B)-(II), (C)-(I), (D)-(III)
B	(A)-(I), (B)-(III), (C)-(IV), (D)-(II)
C	(A)-(III), (B)-(II), (C)-(I), (D)-(IV)
D	(A)-(II), (B)-(III), (C)-(IV), (D)-(I)

Q:34

aglasem.com

Topic Name: Aptitude Test – Part II

ItemCode:100434

Question: ਰੰਗ ਚੱਕਰ ਵਿੱਚੋਂ ਤਿੰਨ ਪ੍ਰਾਇਮਰੀ ਰੰਗਾ ਦਾ ਨਾਂ ਦਸੋ :

A	ਲਾਲ, ਸੰਤਰੀ ਅਤੇ ਪੀਲਾ
B	ਹਰਾ, ਸੰਤਰੀ ਅਤੇ ਪੀਲਾ
C	ਲਾਲ, ਪੀਲਾ ਅਤੇ ਨੀਲਾ
D	ਨੀਲਾ, ਬੈਂਗਲੀ ਅਤੇ ਸੰਤਰੀ

Q:35

Topic Name: Aptitude Test – Part II

ItemCode:100435

Question: ਮਹਾਰਾਸਟਰ ਰਾਜ ਦੇ ਜ਼ਿਲੇ ਔਰੰਗਾਬਾਦ ਵਿੱਚ ਅਜੰਤਾ ਅਤੇ ਅਲੋਰਾ ਕਿਸ ਲਈ ਪ੍ਰਸਿਧ ਹੈ।

A	ਗੁੰਝਲਕਾਰ ਲੱਕਾਸੀ ਹਿੰਦੂ ਮੰਦਿਰ ਤੇ
B	ਪਹਾੜ
C	ਚੱਟਾਨ ਕੱਟ ਗੁਫਾਵਾਂ
D	ਜੰਗਲ

Q:36

Topic Name: Aptitude Test – Part II

ItemCode:100436

ਸੂਚੀ- I ਵਿੱਚ ਦਿਤੇ ਸੁਤੰਤਰਤਾ ਸੈਨਾਨੀਆ ਨੂੰ ਦਿਤਾ ਗਿਆ ਸਨਮਾਨ ਨੂੰ **ਸੂਚੀ- II** ਵਿੱਚ ਉਹਨਾਂ ਦੇ ਨਾਮ ਨਾਲ ਮਿਲਾਨ ਕਰੋ :

	ਸੂਚੀ - I		**ਸੂਚੀ - II**
(A)	ਨੇਤਾਜੀ	(I)	ਵਲਭਭਾਈ ਪਟੇਲ
(B)	ਪੰਜਾਬ ਕੇਸਰੀ	(II)	ਸੁਭਾਸ ਚੰਦਰ ਬੋਸ
(C)	ਭਾਰਤ ਦਾ ਲੋਹਾ ਪੁਰੁਸ਼	(III)	ਨਾਨਾ ਪਾਟਿਲ
(D)	ਕਰਾਂਤੀ ਸਿੰਘ	(IV)	ਲਾਲਾ ਲਾਜਪਤ ਰਾੱਏ

Question: ਹੇਠ ਦਿੱਤੇ ਵਿੱਕਲਪਾਂ ਵਿੱਚੋਂ ਸਹੀ ਉਤਰ ਚੁਣੋ:

A	(A)-(II), (B)-(IV), (C)-(I), (D)-(III)
B	(A)-(IV), (B)-(III), (C)-(I), (D)-(II)
C	(A)-(II), (B)-(III), (C)-(IV), (D)-(I)
D	(A)-(III), (B)-(IV), (C)-(II), (D)-(I)

Q:37

Topic Name: Aptitude Test – Part II

ItemCode:100437

Question: ਇੰਡਸ ਘਾਟੀ ਦੇ ਹੜਪਾ ਅਤੇ ਮੋਹੰਜੋਦੜੋ ਮੌਜੂਦਾ ਸੰਸਾਰ ਦੇ ਨਕਸ਼ੇ ਤੋਂ ਕਿਸ ਦੇਸ਼ ਵਿੱਚ ਸਥਿਤ ਹੈ ?

A	ਪਾਕਿਸਤਾਨ
B	ਅਫਗਾਨਿਸਤਾਨ
C	ਭਾਰਤ

agloem.com

D	ਨੇਪਾਲ

Q:38
Topic Name: Aptitude Test – Part II

ItemCode:100438

Question: ਹੇਠ ਦਿੱਤੇ ਪ੍ਰਸਿਧ ਆਰਚਿਟੈਕਟ ਵਿੱਚੋਂ ਕਿਸ ਨੇ ਬੰਗਲੌਰ ਵਿਖੇ ਖੇਤੀਬਾੜੀ ਅਤੇ ਵਿਗਿਆਨ ਦੀ ਯੂਨੀਵਰਸਿਟੀ ਬਣਾਈ ?

A	ਅਚੁਯਤ ਪੁਰਸ਼ੋਤਮ ਕਾਨਵਿੰਦੇ
B	ਸੰਜਯ ਪੁਰੀ
C	ਲੌਰੀ ਬੇਕਰ
D	ਅਨੰਤ ਰਾਜੇ

Q:39
Topic Name: Aptitude Test – Part II

ItemCode:100439

Question: ਨੱਕਸ਼ੇ ਤੇ 2 ਬਿਦੂਆ ਦੀ ਦੂਰੀ 10 cm ਹੈ। ਦਿੱਤੇ ਨੱਕਸੇ ਦਾ ਸਕੇਲ 1 : 500 ਹੈ, ਤਾਂ ਦਿਤਾ 2 ਬਿੰਦੂਆ ਦੀ ਅਸਲ ਦੂਰੀ ਜਮੀਨ ਤੇ ਕਿੰਨੀ ਹੈ।

A	50 cm
B	25 cm
C	50 m
D	25 m

Q:40
Topic Name: Aptitude Test – Part II

ItemCode:100440

Question: ਅੱਜਕਲ੍ਹ ਗ੍ਰੀਨ ਆਰਕਿਟੈਕਚਰ ਨੂੰ ਉਤਸਾਹਿਤ ਕੀਤਾ ਜਾਂਦਾ ਹੈ ਕਿਉਂਕਿ :

A	ਇਸਦੀ ਸ਼ੁਰੂਆਤ ਵਿੱਚ ਘੱਟ ਕੀਮਤ ਹੁੰਦੀ ਹੈ।
B	ਇਹ ਲੰਬੇ ਸਮੇਂ ਤੱਕ ਰਹਿੰਦਾ ਹੈ।
C	ਇਹ ਚੰਗੇ ਰੰਗ ਦੀ ਵਰਤੋਂ ਕਰਦਾ ਹੈ।
D	ਇਹ ਵਾਤਾਰਵਰਨ ਅਨੁਕੂਲ ਹੈ।

Q:41
Topic Name: Aptitude Test – Part II

ItemCode:100441

Question: ਲੰਡਨ ਸ਼ਹਿਰ ਦੀ ਵਿਕਾਸ ਕਿਸ ਨਦੀ ਦੇ ਨਾਲ ਹੁੰਦਾ ਹੈ ?

A	ਨੀਲ ਨਦੀ
B	ਥੇਂਮਸ ਨਦੀ
C	ਮਿਕੌਂਗ ਨਦੀ
D	ਗਰੇਟ ਆਉਸ ਨਦੀ

Q:42
Topic Name: Aptitude Test – Part II

aglasem.com

ItemCode:100442

Question: ਮੁੰਮਬਈ ਵਿੱਚ ਪ੍ਰਸਿੱਧ ਛਤਰਪਤੀ ਸਿਵਾਜੀ ਮਹਾਰਾਜ ਵਾਸਤੁ ਸੰਘਰਾਲਯ ਕਿਸ ਨੇ ਡਿਜ਼ਾਈਨ ਕਿੱਤਾ ?

A	ਜਾਰਜ ਵਿਟੈਟ
B	ਜ਼ੇਮਸ ਮੀਲਰ
C	ਵਿਲੀਅਮ ਯੰਗ
D	ਰਾਬਰਟ ਮਾਈਲਨ

Q:43
Topic Name: Aptitude Test – Part II

ItemCode:100443

Question: ਪ੍ਰਸਿੱਧ ਪੇਟਿੰਗ ਭਾਰਤ ਮਾਤਾ ਦਾ ਚਿੱਤਰਕਾਰ ਕੋਨ ਹੈ ?

A	ਰਾਜਾ ਰਵੀ ਵਰਮਾ
B	ਨੰਦਲਾਲ ਬੋਸ
C	ਅਬੀਂਦਰਨਾਥ ਟੈਗੋਰ
D	ਰਵੀਂਦਰਨਾਥ ਟੈਗੋਰ

Q:44
Topic Name: Aptitude Test – Part II

ItemCode:100444

Question: ਬੇਬੇਲੋਨ ਦੇ ਹੈਂਗਿਗ ਗਾਰਡਨ ਕਿਸ ਦੇਸ ਵਿੱਚ ਸਥਿਰ ਹੈ ?

A	UAE (ਯੁ.ਐ.ਈ)
B	ਇਰਾਨ
C	ਟੁਰਕੀ
D	ਇਰਾਕ

Q:45
Topic Name: Aptitude Test – Part II

ItemCode:100445

Question: ਹੇਠ ਦਿੱਤੇ ਕਿਹੜੇ ਭਾਰਤੀ ਸ਼ਹਿਰ ਦੀ ਪਲਾਨਿੰਗ ਵਾਸਤੁ ਪੁਰੁਸ਼ ਮੰਡਲ ਪਲਾਨਿੰਗ ਤਰੀਕੇ ਉਤੇ ਅਧਾਰਿਤ ਹੈ ?

A	ਵਾਰਾਨਸੀ
B	ਰਾਜਕੋਟ
C	ਜੈਪੁਰ
D	ਤਿਰੁਪਤੀ

Q:46
Topic Name: Aptitude Test – Part II

ItemCode:100446

Question: ਵਿਸ਼ਵ ਵਿਰਾਸਤੀ ਸਾਇਟ ਭੀਮਬੇਟਕਾ ਭਾਰਤ ਦੇ ਕਿਸ ਰਾਜ ਵਿੱਚ ਸਥਿਤ ਹੈ ?

A	ਉੱਤਰਾਖੰਡ
B	ਆਂਧਰਾ ਪ੍ਰਦੇਸ਼

aglasem.com

C	ਮੱਧਯ ਪ੍ਰਦੇਸ
D	ਉੱਡੀਸਾ

Q:47
Topic Name: Aptitude Test – Part II

ItemCode:100447
Question: ਗੋਬਿੰਦ ਸਾਗਰ ਝੀਲ ਭਾਰਤ ਦੇ ਕਿਸ ਰਾਜ ਵਿੱਚ ਸਥਿਤ ਹੈ ?

A	ਗੁਜਰਾਤ
B	ਹਿਮਾਚਲ ਪ੍ਰਦੇਸ਼
C	ਉੱਤਰ ਪ੍ਰਦੇਸ਼
D	ਰਾਜਸਥਾਨ

Q:48
Topic Name: Aptitude Test – Part II

ItemCode:100448
Question: 'ADFF' ਕਿਸ ਦਾ ਸੰਖੇਪ ਹੈ।

A	ਆਰਕਿਟੈਕਚਰ ਅਤੇ ਡਿਜ਼ਾਈਨ ਫੀਲਮ ਤਿਉਹਾਰ
B	ਆਰਕਿਟੈਕਚਰ, ਡਿਜ਼ਾਈਨ ਅਤੇ ਫੈਸ਼ਨ ਤਿਉਹਾਰ
C	ਫੈਕਲਟਿ ਲਈ ਆਰਕਿਟੈਕਚਰ ਡਿਜ਼ਾਈਨ ਸਥਾਨ
D	ਫੈਕਲਟਿ ਲਈ ਆਰਟ ਅਤੇ ਡਿਜ਼ਾਈਨ ਸਥਾਨ

Q:49
Topic Name: Aptitude Test – Part II

ItemCode:100449
Question: ਹੇਠ ਲਿਖੀਆ ਵਿਚੋਂ ਕਿਹੜਾ ਮਸ਼ਹੁਰ ਅਭਿਨੇਤਾ ਅਵਾਰਡ ਜਿੱਤਣ ਵਾਲੀ ਫਿਲਮ ਦਾ ਹਿਸਾ ਸੀ ਜੋ ਐਨੀ ਇਹ ਉਹਨ੍ਹਾਂ ਨੂੰ ਦਿੰਦੀ ਹੈ ਜੋ ਕੀ ਆਰਕਿਟੈਕਚਰ ਦੇ ਵਿਦਿਆਰਥੀ ਜੀਵਨ ਤੇ ਆਧਾਰਿਤ ਹੈ।

A	ਆਮੀਰ ਖਾਨ
B	ਸ਼ਾਹਰੁੱਕ ਖਾਨ
C	ਸਲਮਾਨ ਖਾਨ
D	ਅਕਸੈ ਕੁਮਾਰ

Q:50
Topic Name: Aptitude Test – Part II

ItemCode:100450
Question: ਰੰਗ ਚੱਕਰ ਵਿੱਚ ਠੰਡੇ ਰੰਗਾ ਨੂੰ ਕਿਹੜਾ ਦਰਸਾਉਂਦੇ ਹਨ:

A	ਸੁਰਜ ਦੀ ਰੋਸ਼ਨੀ
B	ਗਰਮੀ
C	ਆਕਾਸ
D	ਹਨੇਰਾਪਨ

Q:51
Topic Name: Aptitude Test – Part II

aglasem.com

ItemCode:100451

ਸੁੱਚੀ - I ਸੁੱਚੀ- II ਦਾ ਮਿਲਾਨ ਕਰੋ :

	ਸੁੱਚੀ- I		ਸੁੱਚੀ - II
(A)	ਸਕਾਈ ਸਕ੍ਰੈਪਰ ਦਾ ਸਹਿਰ	(I)	ਬੀਜਿੰਗ, ਚੀਨ
(B)	ਯੂਰਪ ਦਾ ਕਾਕਪਿਟ	(II)	ਸੈਨ ਫ੍ਰਾਸਿਸਕੋ, USA
(C)	ਵਰਜਿਤ ਸਹਿਰ	(III)	ਨਿਉਯਾਰਕ USA
(D)	ਗੋਲਡਨ ਗੇਟ ਦਾ ਸਹਿਰ	(IV)	ਬੇਲਜ਼ਿਅਮ

Question: ਹੇਠ ਦਿੱਤੇ ਵਿੱਕਲਪਾਂ ਵਿੱਚੋਂ ਸਹੀ ਉਤਰ ਚੁਣੋ:

A	(A)-(III), (B)-(IV), (C)-(II), (D)-(I)
B	(A)-(III), (B)-(IV), (C)-(I), (D)-(II)
C	(A)-(II), (B)-(IV), (C)-(I), (D)-(III)
D	(A)-(IV), (B)-(III), (C)-(II), (D)-(I)

Q:52
Topic Name: Aptitude Test – Part II

ItemCode:100452

ਭਾਰਤ ਵਿੱਚ UNESCO ਵਿਰਾਸਤੀ ਸਾਈਟ ਦੇ ਨਾਂ ਥੱਲੇ ਦਿੱਤੇ ਹੈ। ਸਾਲ ਦੇ ਹਿਸਾਬ ਨਾਲ ਸਹੀ ਦ੍ਰਸ ਦੀ ਚੋਟ ਕਰੋ ਜਿਸ ਵਿੱਚ ਉਨ੍ਹਾਂ ਨੂੰ ਵਿਸ਼ਵ ਵਿਰਾਸਤ ਸਾਈਟ ਵਜੋਂ ਘੋਸਿਤ ਕੀਤੀ ਗਿਆ ਹੈ।

(A) ਸਨ ਮੰਦਿਰ, ਕੋਨਾਰਕ
(B) ਹੁਮਾਯੂ ਦੀ ਕਬਰ, ਦਿੱਲੀ
(C) ਅਜੰਤਾ ਕੇਵਜ, ਮਹਾਂਰਾਸ਼ਟਰ
(D) ਫਤਿਹਪੁਰ ਸਿਕਰੀ, ਆਗਰਾ
(E) ਜੰਤਰ ਮੰਤਰ ਜੈਪੁਰ

Question:

A	(E)-(B)-(D)-(C)-(A)
B	(C)-(B)-(A)-(D)-(E)
C	(C)-(A)-(D)-(B)-(E)
D	(D)-(A)-(C)-(E)-(B)

Q:53
Topic Name: Aptitude Test – Part II

ItemCode:100453

ਸੂਚੀ- I ਨਾਲ ਸੂਚੀ - II ਦਾ ਮਿਲਾਣ ਕਰੋ :

	ਸੂਚੀ- I		ਸੂਚੀ- II
(A)	ਨਾਹਾਰਗੜ੍ਹ ਕੀਲਾ	(I)	ਹੈਦਰਾਬਾਦ
(B)	ਲਕਸਮੀ ਵੀਲਾ ਮਹਿਲ	(II)	ਜੋਧਪੁਰ
(C)	ਚੌਮੱਲਾ ਮਹਿਲ	(III)	ਜੈਪੁਰ
(D)	ਉਮੇਦ ਭਵਨ ਮਹਿਲ	(IV)	ਵਡੋਦਰਾ

Question: ਹੇਠ ਦਿੱਤੇ ਵਿੱਕਲਪਾਂ ਵਿੱਚੋਂ ਸਹੀ ਉਤਰ ਚੁਣੋ:

aglasem.com

A	(A)-(II), (B)-(III), (C)-(I), (D)-(IV)
B	(A)-(III), (B)-(IV), (C)-(I), (D)-(II)
C	(A)-(II), (B)-(III), (C)-(IV), (D)-(I)
D	(A)-(I), (B)-(II), (C)-(III), (D)-(IV)

Q:54
Topic Name: Aptitude Test – Part II

ItemCode:100454

ਸੂਚੀ- I ਨਾਲ ਸੂਚੀ- II ਦਾ ਮਿਲਾਣ ਕਰੋ :

	ਸੂਚੀ- I		ਸੂਚੀ - II
(A)	ਅਰਾਵਲੀ ਰੇਂਜ	(I)	ਭਾਰਤ ਦਾ ਦੱਖਣੀ ਹਿੱਸਾ
(B)	ਸਿਰੁਮੱਲੀ ਪਹਾੜੀਆਂ	(II)	ਭਾਰਤ ਦਾ ਪੱਛਮੀ ਹਿੱਸਾ
(C)	ਜਾਸਕ ਸੀਮਾ	(III)	ਭਾਰਤ ਦਾ ਪੂਰਬੀ ਹਿੱਸਾ
(D)	ਗਰੋ ਖਾਸੀ ਜੈਂਤੀਆ	(IV)	ਭਾਰਤ ਦਾ ਉਤਰੀ ਹਿੱਸਾ

Question: ਹੇਠ ਦਿੱਤੇ ਵਿੱਕਲਪਾਂ ਵਿੱਚੋਂ ਸਹੀ ਉਤਰ ਚੁਣੋ:

A	(A)-(II), (B)-(I), (C)-(IV), (D)-(III)
B	(A)-(III), (B)-(I), (C)-(IV), (D)-(II)
C	(A)-(I), (B)-(III), (C)-(IV), (D)-(II)
D	(A)-(I), (B)-(III), (C)-(II), (D)-(IV)

Q:55
Topic Name: Aptitude Test – Part II

ItemCode:100455

ਸੂਚੀ- I ਨਾਲ ਸੂਚੀ- II ਦਾ ਮਿਲਾਣ ਕਰੋ :

	ਸੂਚੀ- I		ਸੂਚੀ- II
(A)	ਸਿਵਸਾਗਰ ਮੰਦਿਰ	(I)	ਹਾਵੇਰੀ, ਕਰਨਾਟਕ
(B)	ਲਕਸ਼ਮਣਮੰਦਿਰ	(II)	ਆਸਾਮ
(C)	ਦਸ਼ਵਤਰਾ ਮੰਦਿਰ	(III)	ਲਲਿਤਪੁਰ, ਉਤਰ ਪ੍ਰਦੇਸ਼
(D)	ਸੀਦੇਸ਼ਵਰ ਮੰਦਿਰ	(IV)	ਖਜੁਰਾਹੋ

Question: ਹੇਠ ਦਿੱਤੇ ਵਿੱਕਲਪਾਂ ਵਿੱਚੋਂ ਸਹੀ ਉਤਰ ਚੁਣੋ:

A	(A)-(I), (B)-(II), (C)-(IV), (D)-(III)
B	(A)-(II), (B)-(IV), (C)-(III), (D)-(I)
C	(A)-(I), (B)-(III), (C)-(IV), (D)-(II)
D	(A)-(II), (B)-(III), (C)-(I), (D)-(IV)

Q:56
Topic Name: Aptitude Test – Part II

aglasem.com

ItemCode:100456

Question: ਹੇਠਾ ਦੋ ਕਥਨਾਂ ਦਿੱਤੇ ਗਏ ਹਨ :

ਕਥਨ - I : ਲੋਕਤਕ ਝੀਲ ਆਪਣੇ ਤੈਰਦੇ ਪਿੰਡ ਪਿੰਜ ਲਈ ਮਸਹੁਰ ਹੈ ।

ਕਥਨ - II : ਲੋਕਤਕ ਝੀਲ ਜੈਵਿਕ ਵਿਭਿੰਨਤਾ ਵਿੱਚ ਬਹੁਤ ਅਮੀਰ ਹੈ।

ਉੱਤੇ ਦਿਤੇ ਦੋ ਕਥਨ ਦੀ ਰੋਸ਼ਨੀ ਵਿੱਚ, ਹੇਠ ਦਿੱਤੇ ਵਿਕਲਪਾਂ ਵਿਚੋਂ ਸਹੀ ਉੱਤਰ ਚੁਣੋ:

A	ਦੋਵੇ ਕਥਨ **I** ਅਤੇ ਕਥਨ **II** ਸਹੀ ਹਨ।
B	ਦੋਵੇ ਕਥਨ **I** ਅਤੇ ਕਥਨ **II** ਸਹੀ ਨਹੀ ਹਨ।
C	ਕਥਨ**I** ਸਹੀ ਹੈ ਪਰ ਕਥਨ **II** ਗਲਤ ਹੈ।
D	ਕਥਨ **I** ਗਲਤ ਹੈ ਪਰ ਕਥਨ **II** ਸਹੀ ਹੈ।

Q:57
Topic Name: Aptitude Test – Part II

ItemCode:100457

Question: ਹੇਠ ਦਿੱਤੇ ਉੱਤਰ ਚਿੱਤਰ ਵਿਚੋਂ ਕਿਹੜਾ ਸਵਾਲ ਚਿੱਤਰ ਦਾ ਸਹੀ ਪ੍ਰਤਿਬਿੰਬ ਹੈ,'X-X' ਧੁਰੀ ਦੇ ਸਬੰਧ ਵਿੱਚ।

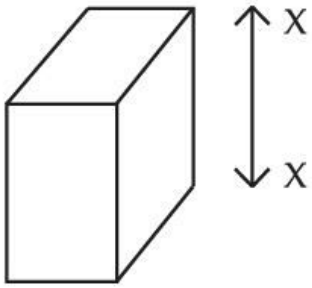

A

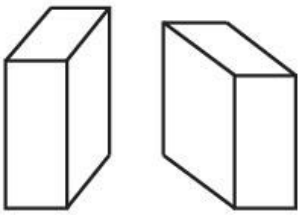

B

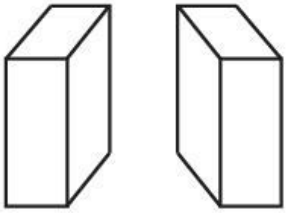

C

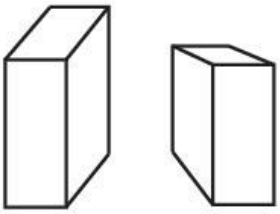

D

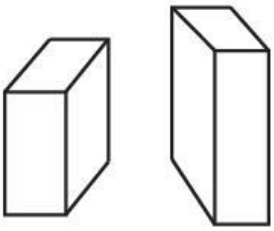

aglasem.com

Q:58
Topic Name: Aptitude Test – Part II

ItemCode:100458

ਹੇਠ ਦਿੱਤੇ A, B ਅਤੇ C ਚਿੱਤਰ ਸੰਰਚਨਾ ਦੀ ਲੜੀ ਦਰਸਾਉਂਦਾ ਹੈ ਉੱਤਰ ਚਿੱਤਰ 'D' ਲਈ ਸਭ ਤੋਂ ਅਨੁਕੂਲ ਵਿੱਕਲਪਾ ਚੁਣੋ।

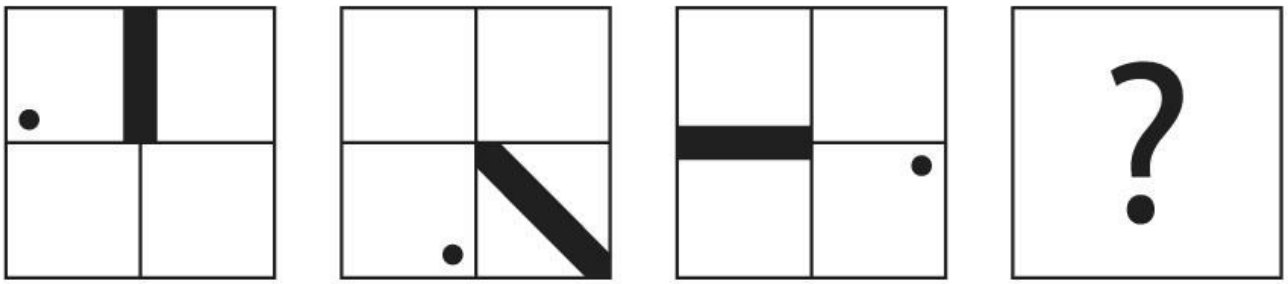

Question:

A

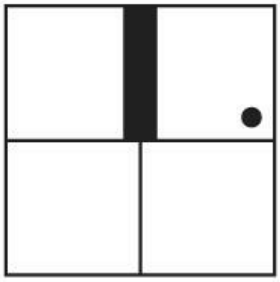

B

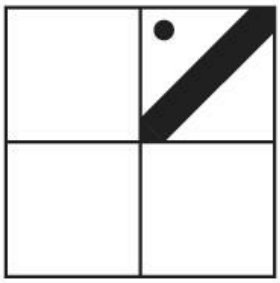

C

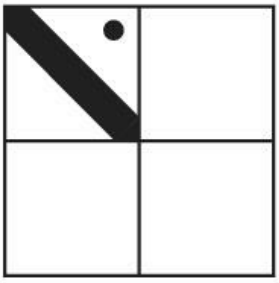

D

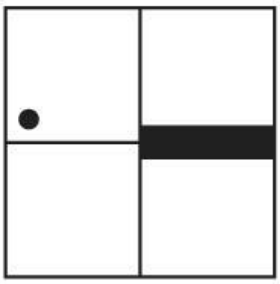

aglasem.com

Q:59
Topic Name: Aptitude Test – Part II

ItemCode:100459

ਪ੍ਰਸ਼ਨ ਚਿੱਤਰ ਵਿੱਚ ਦਿੱਤਾ ਚਿੱਤਰ ਵਰਗ ਦਾ ਇੱਕ ਹਿੱਸਾ ਹੈ। ਹੇਠ ਦਿਤੇ ਉੱਤਰ ਚਿੱਤਰ ਵਿਚੋਂ ਕਿਹੜਾ ਉੱਤਰ ਇਕ ਵਰਗ ਨੂੰ ਪੂਰਾ ਕਰਨ ਲਈ ਇਸਦੇ ਸੱਜੇ ਪਾਸੇ ਪੂਰੀ ਤਰ੍ਹਾਂ ਫਿੱਟ ਹੈ ?

Question:

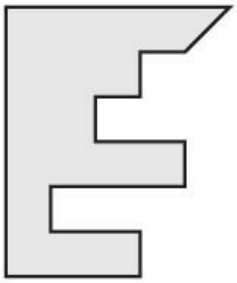

A

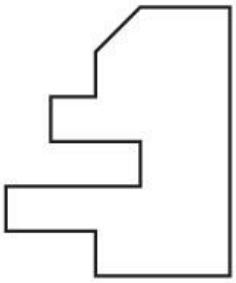

B

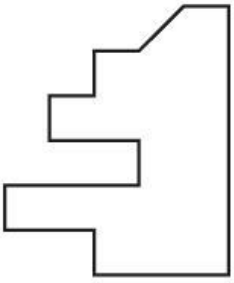

C

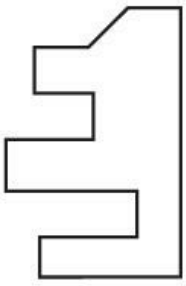

D

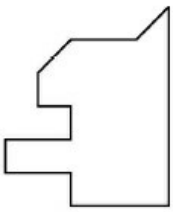

aglasem.com

Q:60

Topic Name: Aptitude Test – Part II

ItemCode:100460

ਉੱਤਰ ਚਿੱਤਰ ਦੀ ਪਹਿਚਾਣ ਕਰੋ ਜਿਹੜਾ ਸਵਾਲ ਚਿੱਤਰ ਨੂੰ 90° ਦੇ ਕੋਣ ਤੇ ਸੱਜੇ ਵੱਲ ਘੁੰਮਾ ਕੇ ਇਸਦੇ ਦ੍ਰਿਸ਼ ਦਾ ਸਹੀ ਚਿੱਤਰ ਵਿਖਾ ਸਕੇ।

Question:



A	
B	
C	
D	

Q:61
Topic Name: Aptitude Test – Part II

ItemCode:100461

ਚਿੱਤਰ ਵਿੱਚ ਸਤਿਹਾਂ ਦੀ ਕਿੰਨੀ ਸੰਖਿਆਂ ਹੈ। ਪਹਿਚਾਣ ਕਰੋ। :



Question:

A	15
B	21
C	13
D	19

Q:62
Topic Name: Aptitude Test – Part II

aglasem.com

ItemCode:100462

ਹੇਠ ਦਿੱਤੇ ਉੱਤਰ ਚਿੱਤਰ ਵਿੱਚੋ ਕਿਹੜਾ ਸਵਾਲ ਚਿੱਤਰ ਦਾ ਸਹੀ ਪ੍ਰਤੀਬਿੰਬ ਹੈ, Y-Y ਧੁਰੀ ਦੇ ਸਨਮੁੱਖ ਨਾਲ ?

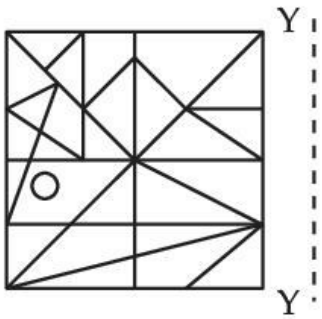

Question:

A

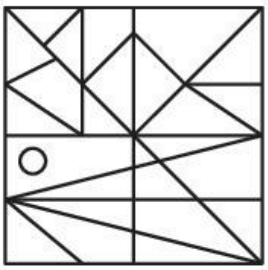

B

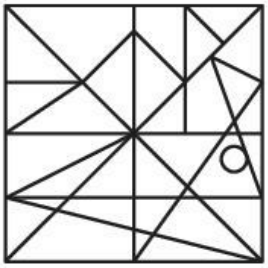

C

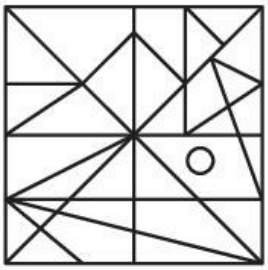

D

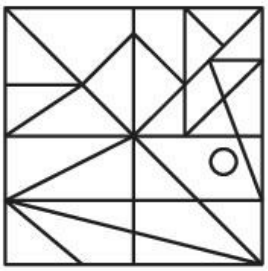

aglasem.com

Q:63
Topic Name: Aptitude Test – Part II

ItemCode:100463

ਹੇਠ ਦਿੱਤੇ ਉੱਤਰ ਚਿੱਤਰ ਵਿੱਚੋ ਕਿਹੜਾ ਸਵਾਲ ਚਿੱਤਰ ਦਾ ਸਹੀ ਪ੍ਰਤੀਬਿੰਬ ਹੈ, x-x ਧੁਰੀ ਦੇ ਸਨਮੁੱਖ ਨਾਲ ?

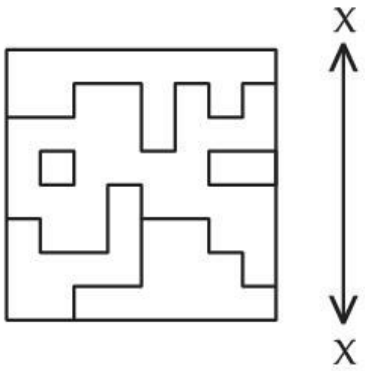

Question:

A

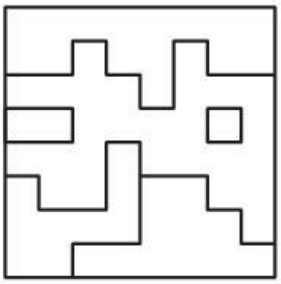

B

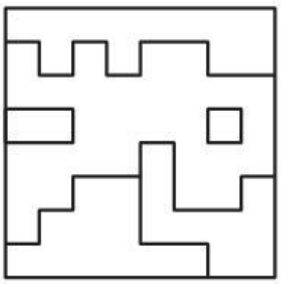

C

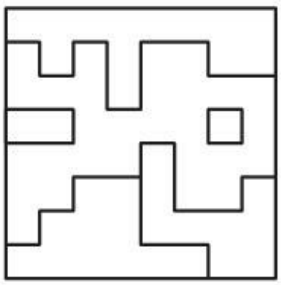

D

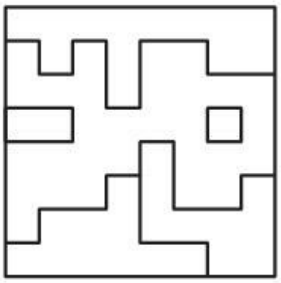

aglasem.com

Q:64

Topic Name: Aptitude Test – Part II

ItemCode:100464

3D ਚਿੱਤਰ ਇੱਕ ਵਸਤੂ ਦੇ ਦ੍ਰਿਸ਼ ਨੂੰ ਦਰਸ਼ਾਉਂਦਾ ਹੈ । ਤਾਂ ਉੱਤਰ ਦੇ ਚਿੱਤਰਾਂ ਤੋਂ ਤੀਰ ਦੀ ਦਿਸ਼ਾ ਵਿੱਚ ਦਿਖ ਰਹੇ ਸਹੀ ਉਚਾਈ ਦੀ ਪਛਾਣ ਕਰੋ:

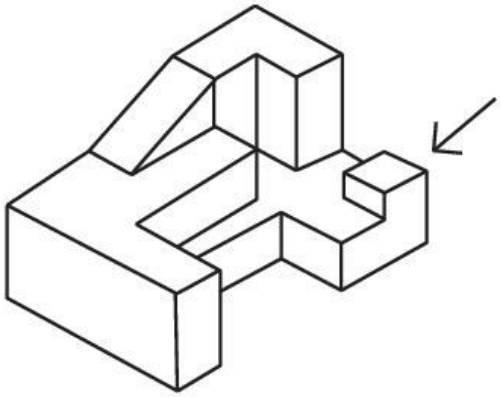

Question:

A

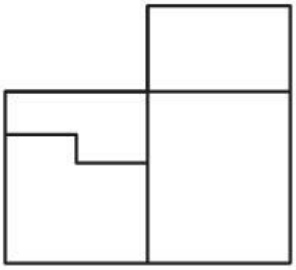

B

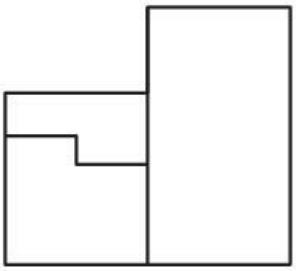

C

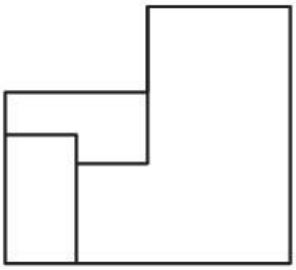

D

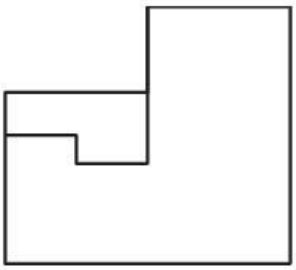

aglasem.com

Q:65
Topic Name: Aptitude Test – Part II

ItemCode:100465

ਪ੍ਰਸਨ ਚਿੱਤਰ ਇੱਕ ਵਸਤੂ ਦਾ 3D ਦ੍ਰਿਸ਼ ਦਰਸ਼ਾਉਦਾ ਹੈ । ਤਾਂ ਉਤਰ ਦੇ ਚਿੱਤਰਾਂ ਤੋਂ ਤੀਰ ਦੀ ਦਿਸ਼ਾ ਵਿੱਚ ਦਿਖ ਰਹੀ ਸਹੀ ਉਚਾਈ ਦੀ ਪਛਾਣ ਕਰੋ।

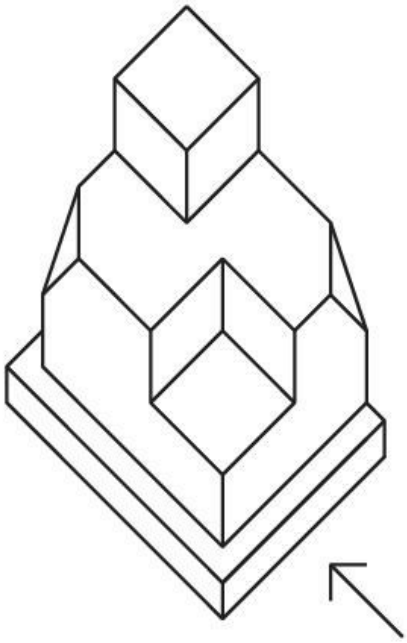

Question:

A

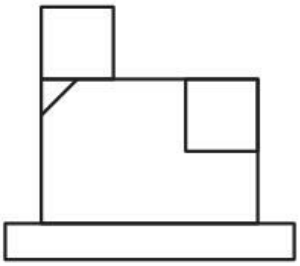

B

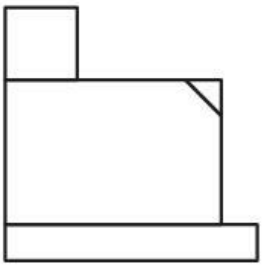

C

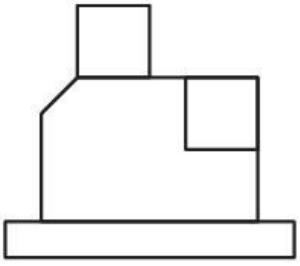

D

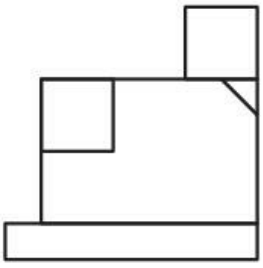

aglasem.com

Q:66
Topic Name: Aptitude Test – Part II

ItemCode:100466

ਸਵਾਲ ਚਿੱਤਰ ਇੱਕ ਵਸਤੂ ਦਾ 3D ਦ੍ਰਿਸ਼ ਹੈ । ਜੋ ਉੱਤਰ ਦੇ ਚਿੱਤਰਾਂ ਤੋਂ ਤੀਰ ਦੀ ਦਿਸ਼ਾ ਵਿੱਚ ਦਿਖ ਰਹੀ ਸਹੀ ਉੱਚਾਈ ਚਿੱਤਰ ਦੀ ਪਛਾਣ ਕਰੋ।

Question:

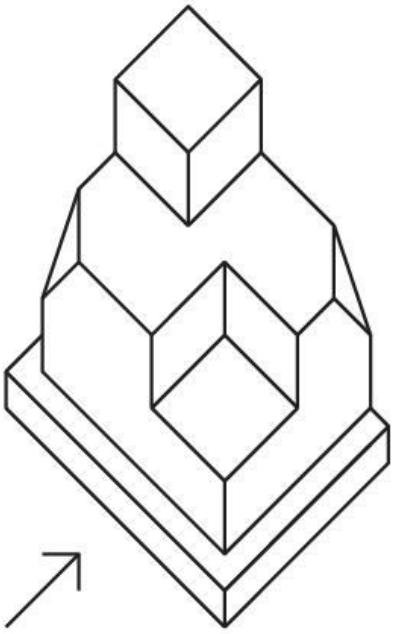

A

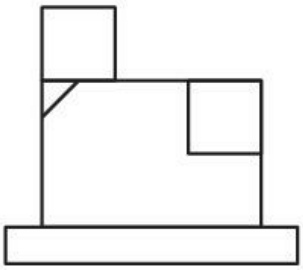

B

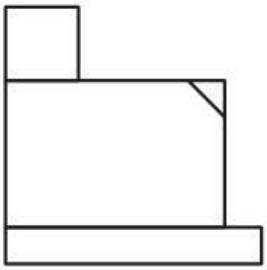

C

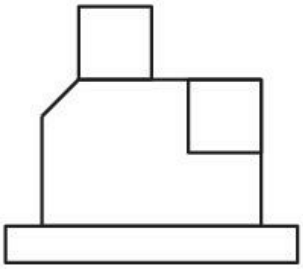

D

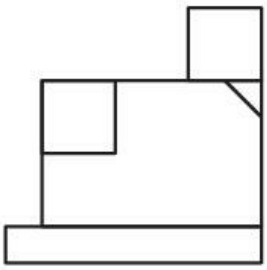

aglasem.com

Q:67

Topic Name: Aptitude Test – Part II

ItemCode:100467

ਸਵਾਲ ਚਿੱਤਰ ਇੱਕ ਵਸਤੂ ਦਾ 3D ਦ੍ਰਿਸ਼ ਹੈ । ਉੱਤਰ ਚਿੱਤਰਾਂ ਵਿੱਚੋਂ ਤੀਰ ਦੀ ਦਿਸ਼ਾ ਵਿੱਚ ਦਿਖ ਰਹੀ ਸਹੀ ਉੱਚਾਈ ਦੀ ਪਛਾਣ ਕਰੋ:

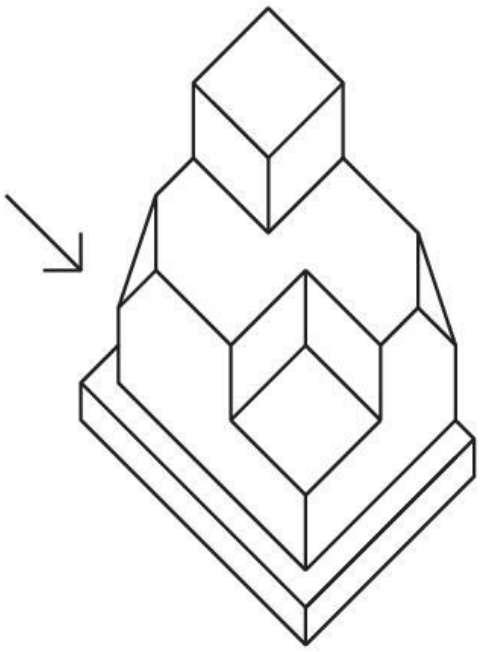

Question:

A

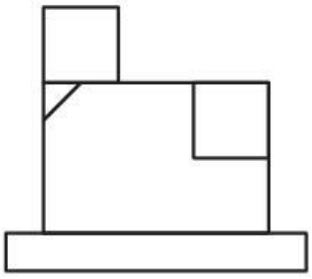

B

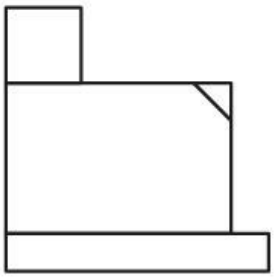

C

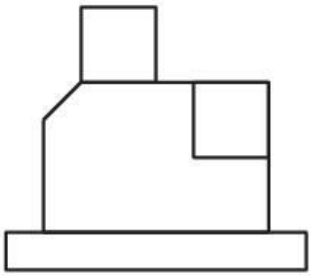

D

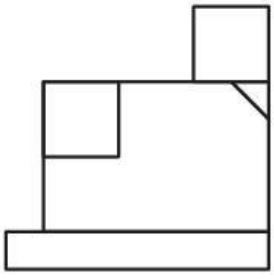

aglasem.com

Q:68
Topic Name: Aptitude Test – Part II

ItemCode:100468

ਸਵਾਲ ਚਿੱਤਰ ਇੱਕ ਵਸਤੂ ਦਾ 3D ਦ੍ਰਿਸ਼ ਹੈ । ਉੱਤਰ ਚਿੱਤਰ ਵਿੱਚੋ ਸਹੀ ਦ੍ਰਿਸ਼ ਚੁਣੋ ?

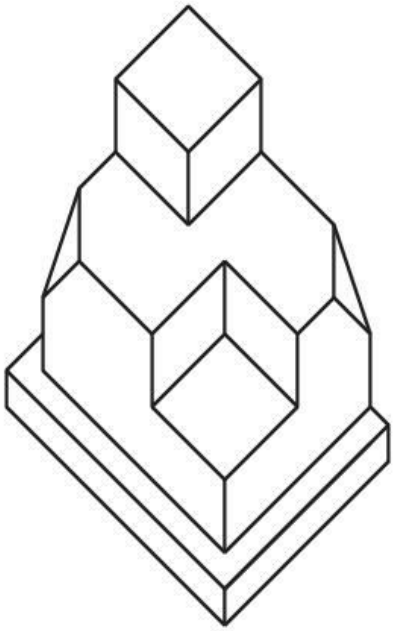

Question:

A

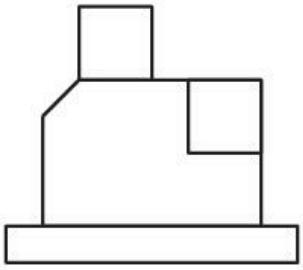

B

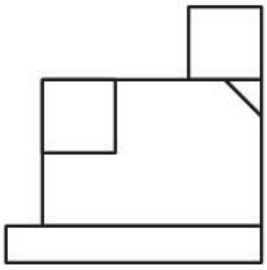

C

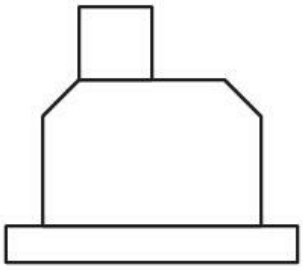

D

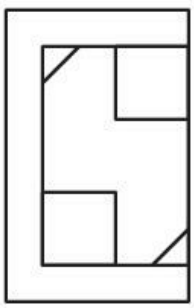

aglasem.com

Q:69
Topic Name: Aptitude Test – Part II

ItemCode:100469

ਸਵਾਲ ਚਿੱਤਰ ਇੱਕ ਵਸਤੂ ਦਾ 3D ਦ੍ਰਿਸ਼ ਹੈ । ਉੱਤਰ ਚਿੱਤਰ ਵਿੱਚੋ ਤੀਰ ਦੀ ਦਿਸ਼ਾ ਵਿੱਚ ਦਿਖ ਰਹੀ ਸਹੀ ਉਚਾਂਈ ਦੀ ਪਛਾਣ ਕਰੋ:

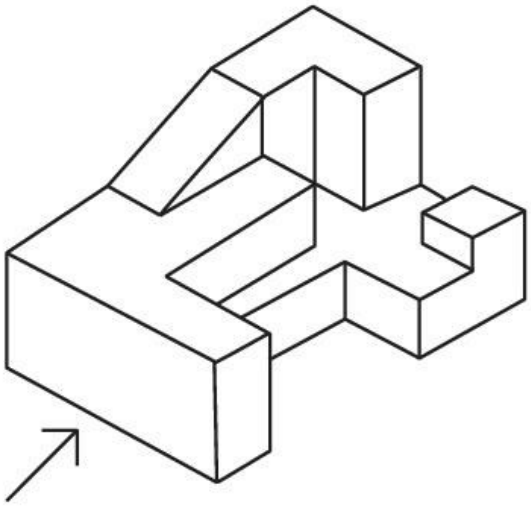

Question:

A

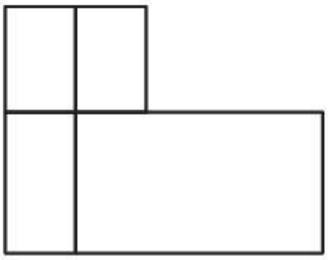

B



C

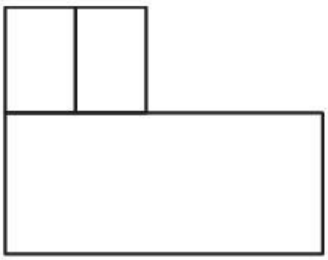

D

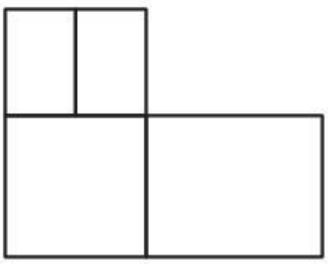

aglasem.com

Q:70
Topic Name: Aptitude Test – Part II

ItemCode:100470

ਸਵਾਲ ਚਿੱਤਰ ਇੱਕ ਵਸਤੂ ਦਾ ਉਪਰੀ ਦ੍ਰਿਸ਼ ਹੈ ।ਜੋ ਉੱਤਰ ਦੇ ਚਿੱਤਰਾਂ ਤੋਂ ਤੀਰ ਦੀ ਦਿਸ਼ਾ ਵਿੱਚ ਦਿਖ ਰਹੀ ਸਹੀ ਉੱਚਾਈ ਦੀ ਪਛਾਣ ਕਰੋ:

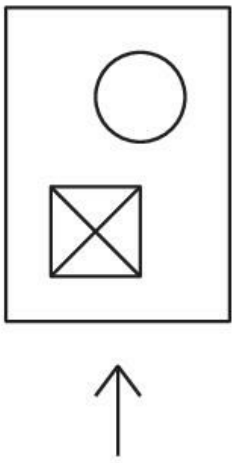

Question:

A

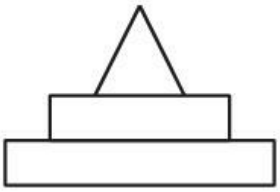

B

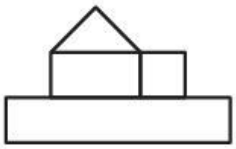

C



D

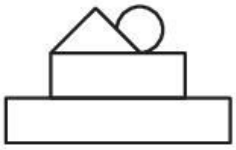

aglasem.com

Q:71
Topic Name: Aptitude Test – Part II

ItemCode:100471

ਸਵਾਲ ਚਿੱਤਰ ਇੱਕ ਵਸਤੂ ਦਾ ਪਲਾਨ ਦਰਸ਼ਾਉਂਦਾ ਹੈ । ਜੋ ਉੱਤਰ ਦੇ ਚਿੱਤਰਾਂ ਤੋਂ ਤੀਰ ਦੀ ਦਿਸ਼ਾ ਵਿੱਚ ਦਿਖ ਰਹੀ ਸਹੀ ਉੱਚਾਈ ਦੀ ਪਛਾਣ ਕਰੋ:

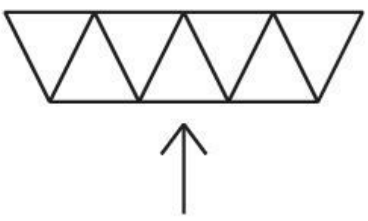

Question:

A

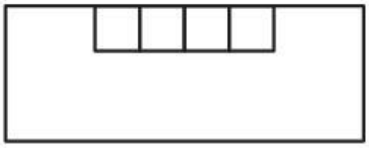

B

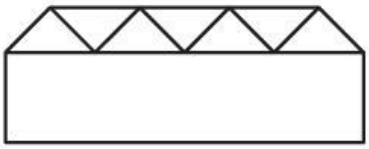

C

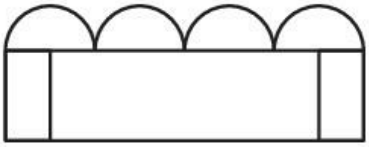

D

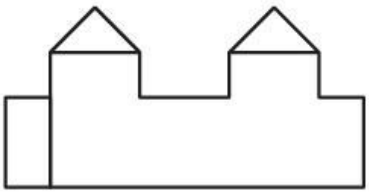

Q:72
Topic Name: Aptitude Test – Part II

ItemCode:100472

ਸਵਾਲ ਚਿੱਤਰ ਇੱਕ ਵਸਤੂ ਦਾ ਪਲਾਨ ਦਰਸ਼ਾਉਂਦਾ ਹੈ । ਉੱਤਰ ਦੇ ਚਿੱਤਰਾਂ ਤੋਂ ਤੀਰ ਦੀ ਦਿਸ਼ਾ ਵਿੱਚ ਦਿਖ ਰਹੇ ਗਲਤ ਵਿੱਕਲਪ ਨੂੰ ਚੁਣੋ:



Question:

A



B

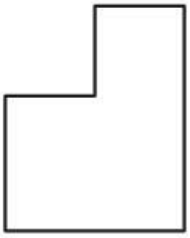

C

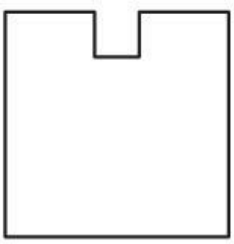

aglasem.com

D

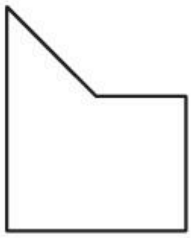

Q:73
Topic Name: Aptitude Test – Part II

ItemCode:100473

ਸਵਾਲ ਚਿੱਤਰ ਇੱਕ ਵਸਤੂ ਦਾ 3D ਦ੍ਰਿਸ਼ ਹੈ । ਉੱਤਰ ਚਿੱਤਰ ਤੋਂ ਤੀਰ ਦੀ ਦਿਸ਼ਾ ਵਿੱਚ ਸਹੀ ਉੱਚਾਈ ਦੀ ਪਛਾਣ ਕਰੋ:

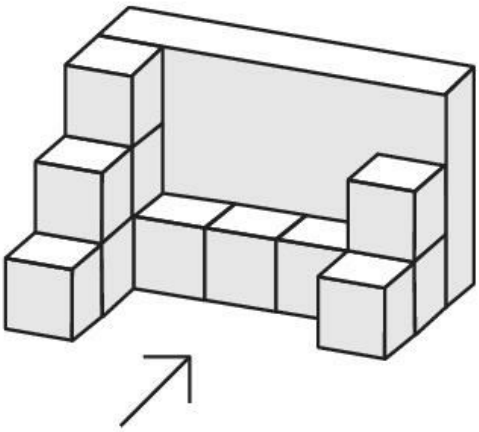

Question:

A

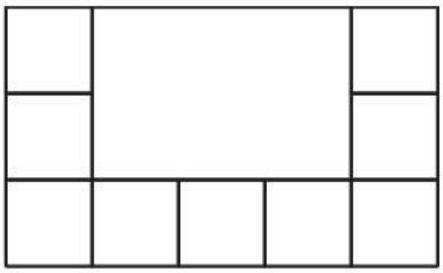

B

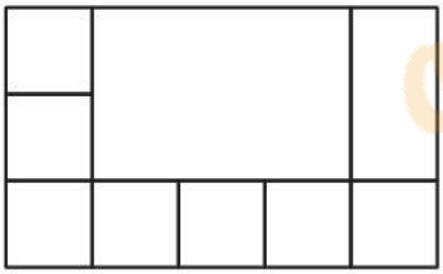

C

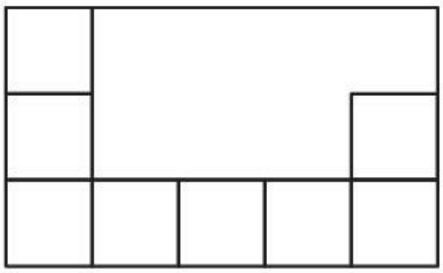

D

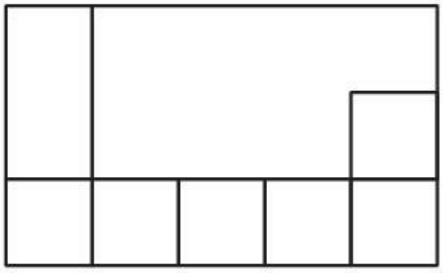

aglasem.com

Q:74
Topic Name: Aptitude Test – Part II

ItemCode:100474

ਸਵਾਲ ਚਿੱਤਰ ਇੱਕ ਵਸਤੂ ਦਾ 3D ਦ੍ਰਿਸ਼ ਹੈ । ਉੱਤਰ ਚਿੱਤਰ ਤੋਂ ਤੀਰ ਦੀ ਦਿਸ਼ਾ ਵਿੱਚ ਦਿਖ ਰਹੀ ਸਹੀ ਉੱਚਾਈ ਨੂੰ ਚੁਣੋ।

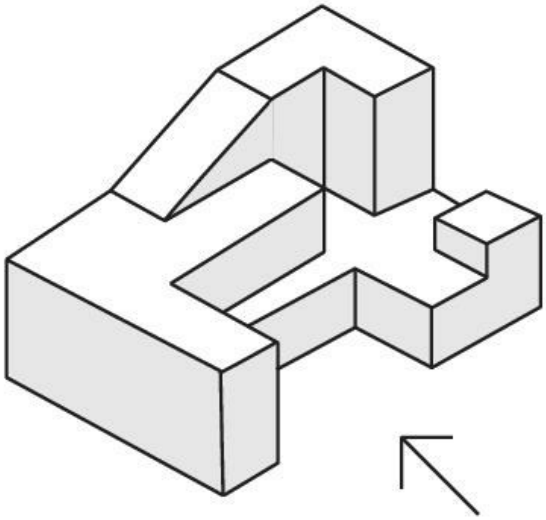

Question:

A

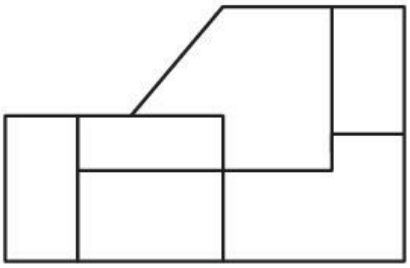

B

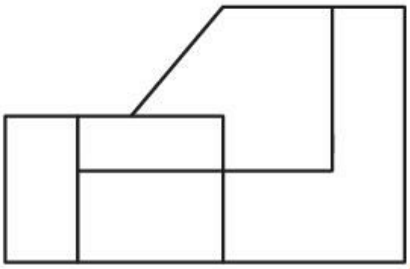

C

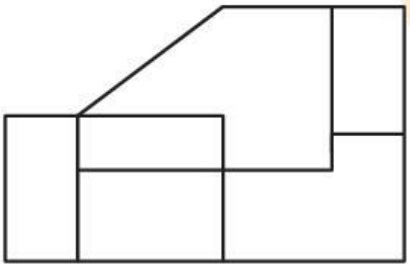

D

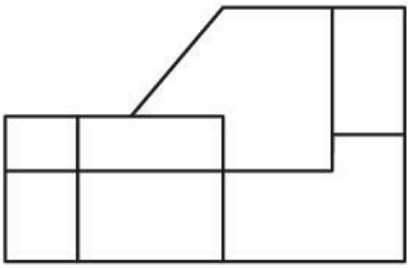

aglasem.com

Q:75
Topic Name: Aptitude Test – Part II

ItemCode:100475

ਸਵਾਲ ਚਿੱਤਰ ਇੱਕ ਵਸਤੂ ਦਾ 3D ਦ੍ਰਿਸ਼ ਹੈ । ਉੱਤਰ ਚਿੱਤਰ ਤੋਂ ਤੀਰ ਦੀ ਦਿਸ਼ਾ ਵਿੱਚ ਦਿਖ ਰਹੀ ਸਹੀ ਉੱਚਾਈ ਦੀ ਪਛਾਣ ਕਰੋ:

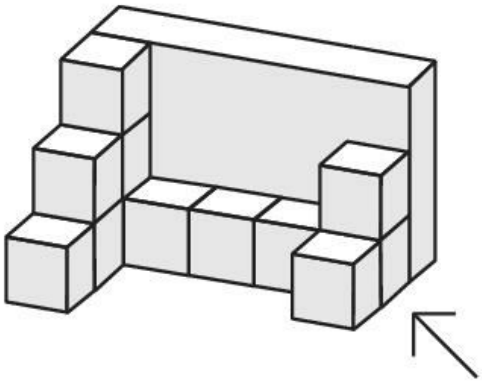

Question:

A

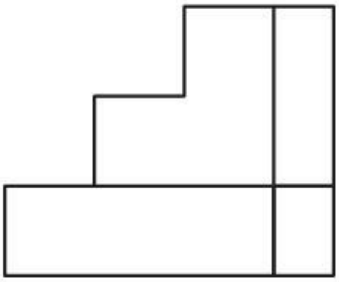

B

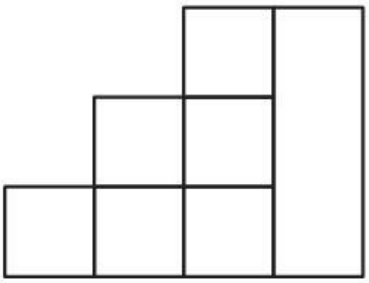

C

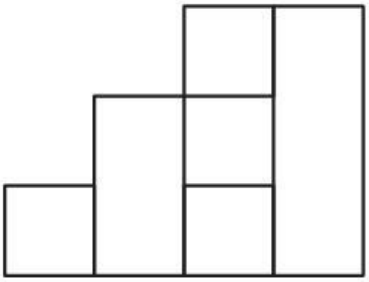

D

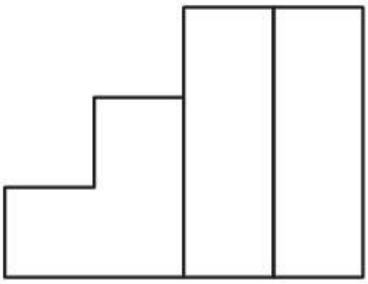

aglasem.com

Q:76
Topic Name: Aptitude Test – Part II

ItemCode:100476

ਸਵਾਲ ਚਿੱਤਰ ਇੱਕ ਵਸਤੂ ਦਾ 3D ਦ੍ਰਿਸ਼ ਹੈ । ਉੱਤਰ ਚਿੱਤਰ ਵਿਚੋਂ ਵਸਤੂ ਦੇ ਸਹੀ ਉੱਪਰੀ ਦ੍ਰਿਸ਼ ਦੀ ਪਛਾਣ ਕਰੋ:

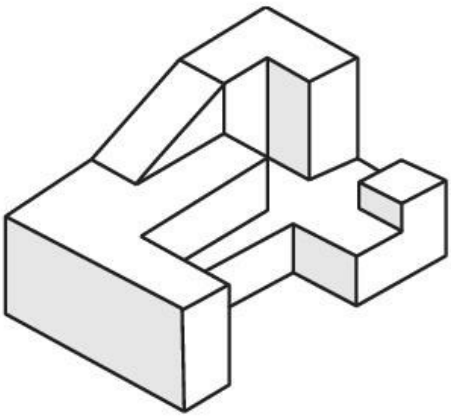

Question:

A

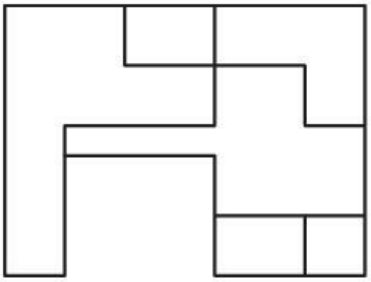

B

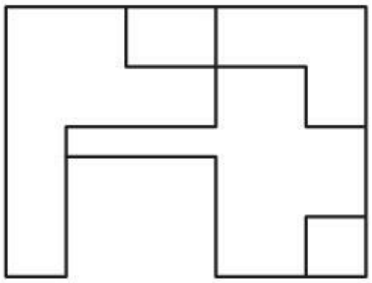

C

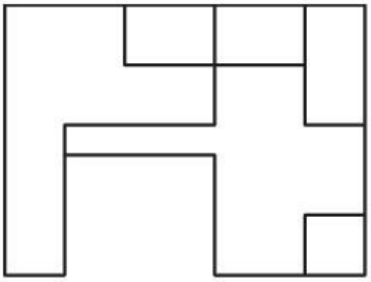

D

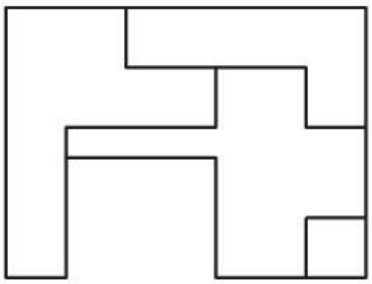

aglasem.com

Q:77

Topic Name: Aptitude Test – Part II

ItemCode:100477

ਸਵਾਲ ਚਿੱਤਰ ਇੱਕ ਵਸਤੂ ਦਾ 3D ਦ੍ਰਿਸ਼ ਹੈ । ਉੱਤਰ ਚਿੱਤਰ ਵਿਚੋਂ ਵਸਤੂ ਦੇ ਸਹੀ ਉੱਪਰੀ ਦ੍ਰਿਸ਼ ਦੀ ਪਛਾਣ ਕਰੋ:

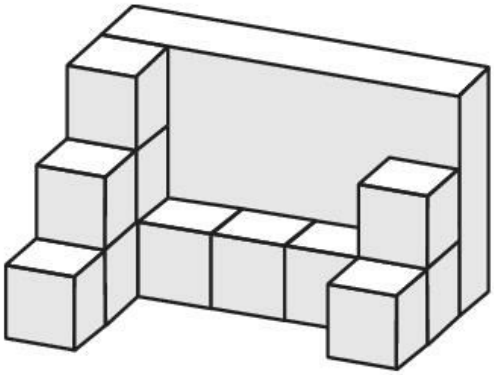

Question:

A

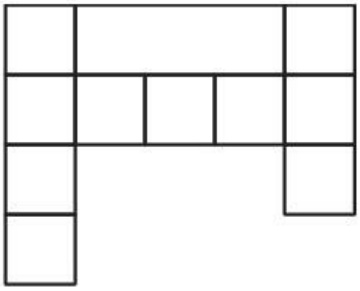

B

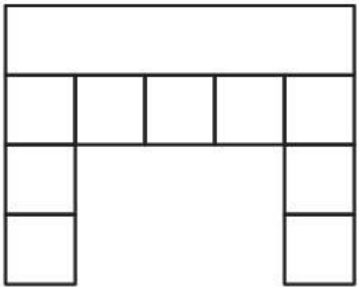

C

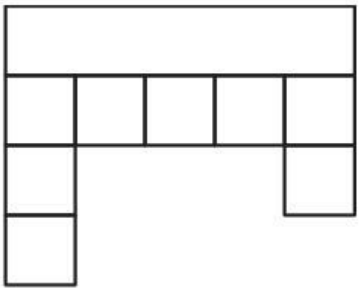

D

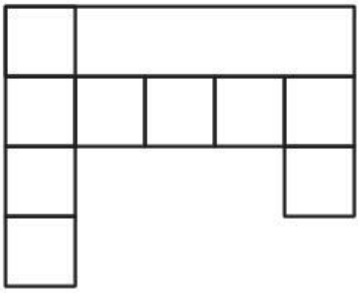

aglasem.com

Q:78
Topic Name: Aptitude Test – Part II

ItemCode:100478

ਸਵਾਲ ਚਿੱਤਰ ਇੱਕ ਵਸਤੂ ਦਾ 3D ਦ੍ਰਿਸ਼ ਹੈ । ਉੱਤਰ ਚਿੱਤਰ ਵਿਚੋਂ ਦਿੱਤੇ ਵਸਤੂ ਦੇ ਸਹੀ ਉੱਪਰੀ ਦ੍ਰਿਸ਼/ਪਲਾਨ ਦੀ ਪਛਾਣ ਕਰੋ।

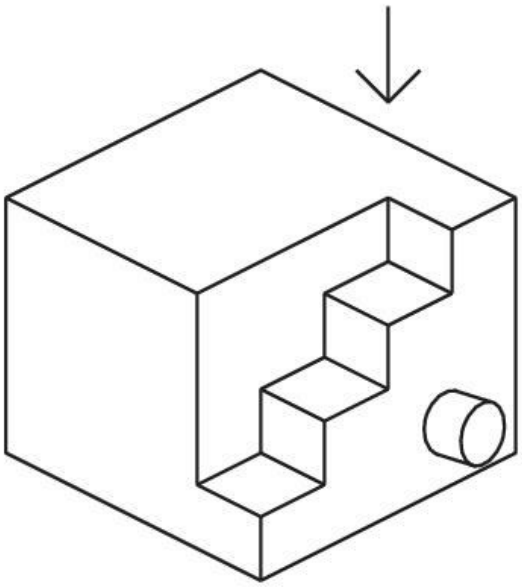

Question:

A

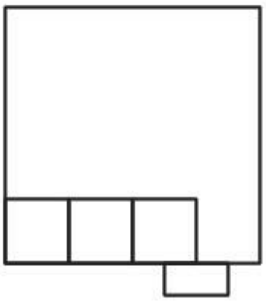

B

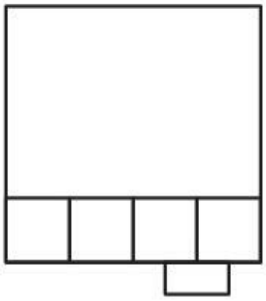

C

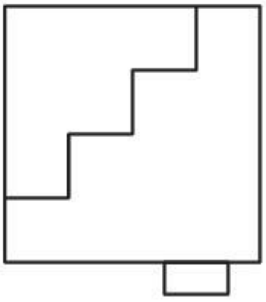

D

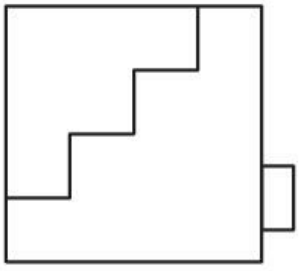

aglasem.com

Q:79
Topic Name: Aptitude Test – Part II

ItemCode:100479

ਸਵਾਲ ਚਿੱਤਰ ਇੱਕ ਵਸਤੂ ਦਾ 3D ਦ੍ਰਿਸ਼ ਹੈ । ਉੱਤਰ ਚਿੱਤਰ ਤੋਂ ਤੀਰ ਦੀ ਦਿਸ਼ਾ ਵਿੱਚ ਦਿਖ ਰਹੀ ਸਹੀ ਉੱਚਾਈ ਦ੍ਰਿਸ਼ ਦੀ ਪਛਾਣ ਕਰੋ।

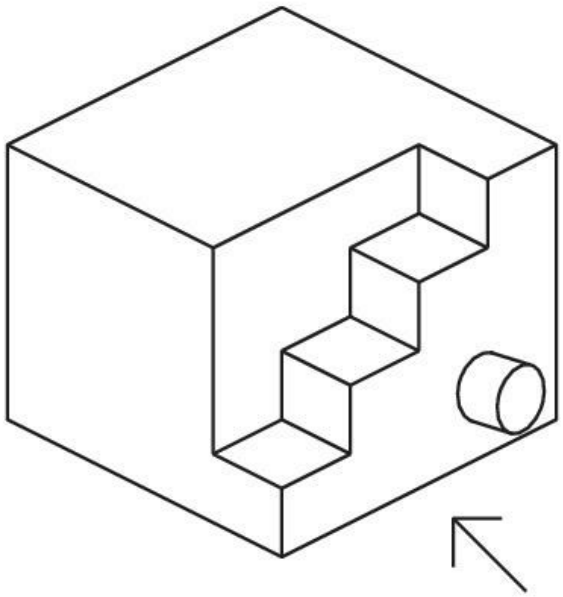

Question:

A

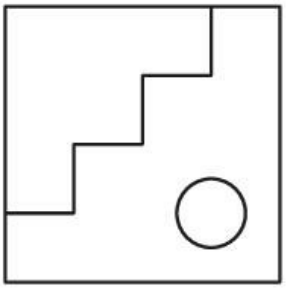

B

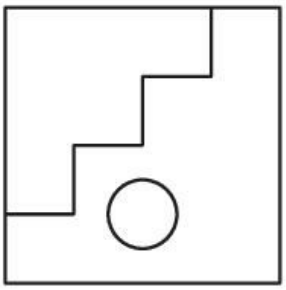

C

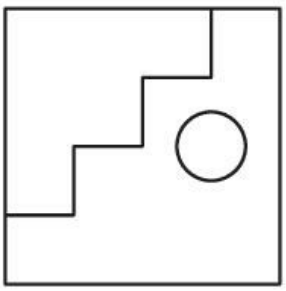

D

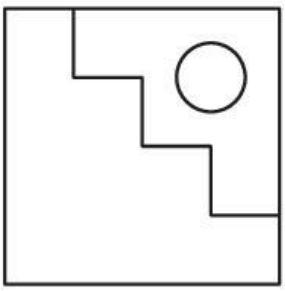

aglasem.com

Q:80
Topic Name: Aptitude Test – Part II

ItemCode:100480

ਸਵਾਲ ਚਿੱਤਰ ਇੱਕ ਵਸਤੂ ਦਾ 3D ਦ੍ਰਿਸ਼ ਹੈ । ਉੱਤਰ ਚਿੱਤਰ ਵਿਚੋਂ ਦਿੱਤੇ ਵਸਤੂ ਦਾ ਸਹੀ ਉੱਪਰੀ ਦ੍ਰਿਸ਼ ਦੀ ਪਛਾਣ ਕਰੋ।

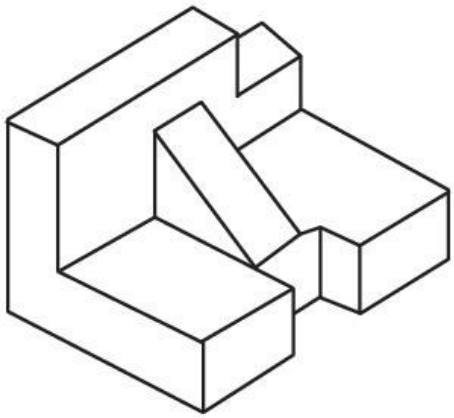

Question:

A

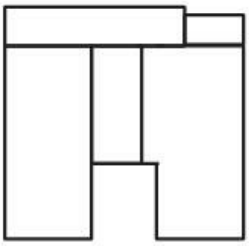

B

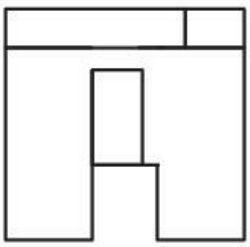

C

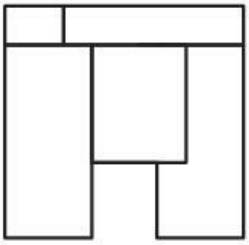

D

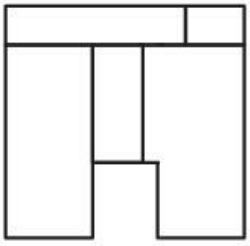

aglasem.com

Q:81
Topic Name: Drawing Test – Part III

ItemCode:100506

Question:

ਦਿੱਤੇ ਸੰਦਰਭ ਚਿੱਤਰ ਦਾ ਇਕ ਅਨੁਪਾਤਕ ਸਕੈਚ ਬਣਾਓ। ਆਪਣੀ ਪਸੰਦ ਦੀ ਬਲੈਕ ਅਤੇ ਵਾਈਟ ਰੈਂਡਰਿੰਗ ਤਕਨੀਕ ਦੀ ਵਰਤੋਂ ਕਰੋ।



Q:82

Topic Name: Drawing Test – Part III

ItemCode:100507

Question:

ਹੇਠ ਦਿੱਤਾ ਕੋਈ ਇੱਕ ਪ੍ਰਸ਼ਨ ਕਰੋ।

(A) ਹੋਲੀ ਦੇ ਤਿਉਹਾਰ ਦਾ ਇੱਕ ਚਿੱਤਰ ਬਣਾਓ ਆਪਣੀ ਪਸੰਦ ਦੇ ਰੰਗਾਂ ਨਾਲ ਡਰਾਇੰਗ ਨੂੰ ਰੈਂਡਰ ਕਰੋ।

ਜਾਂ

(B) ਆਪਣੀ ਪਸੰਦ ਦੇ ਤਿਕੋਣ ਅਤੇ ਆਇਤਕਾਰ ਦੀ ਵਰਤੋਂ ਕਰਦੇ ਹੋਏ ਰਚਨਾ ਤਿਆਰ ਕਰੋ ਜੋ ਠੰਡਾ ਰੰਗ ਸਕੀਮ ਦੀ ਵਰਤੋਂ ਕਰਕੇ ਰਚਨਾ ਨੂੰ ਤਾਲ ਕੇ ਰੰਗ ਨੂੰ ਦਰਸਾ ਸਕਦੀ ਹੈ।

aglasem.com