Constable (GD) in CAPFs, NIA, SSF and Rifleman (GD) in Assam Rifles Examination, 2018

Roll No. :	[redacted]
Registration No.	
Name :	
Exam Venue :	
Exam Time :	4:00 PM - 5:30 PM
Exam Date :	13/02/2019

Section : **General Section**

Q.1 पुस्तकालय में केवल एक शब्दकोष है जिसका उपयोग लाइब्रेरी में केवल एक ही शब्दकोष है जिसका उपयोग 6 छात्रों P, Q, R, S, T और U द्वारा एक-एक करके किया जाएगा। S, Q के तुरंत बाद और P के पहले इसका उपयोग करेगा और T, R के तुरंत बाद और U से पहले इसका उपयोग करेगा। R, P के बाद शब्दकोश का उपयोग करेगा। अंत में शब्दकोश का उपयोग कौन करेगा?

Ans
✗ 1. T
✗ 2. Q
✗ 3. P
✓ 4. U

Question ID : **9895802811**
Chosen Option : **2**

Q.2 उस विकल्प का चयन करें जो तीसरे पद से उसी प्रकार से संबंधित है जिस प्रकार दूसरा पद पहले पद से संबंधित है।

DFH: IKM : EGI : ?

Ans
✗ 1. JIM
✓ 2. JLN
✗ 3. JLM
✗ 4. JLI

Question ID : **9895802806**
Chosen Option : **2**

Q.3 आठ मित्र A, B, C, D, E, F, G और H एक गोलाकार मेज़ के चारों ओर एक-दूसरे के तरफ मुंह करके भोजन कर रहे हैं। A, F के सामने और B के दाएँ ओर से तीसरे स्थान पर है। G, F और D के बीच में है। H, D के बाएँ ओर है। E, C और A के बीच में है। A के दाएँ ओर से तीसरे स्थान पर कौन बैठा है?

Ans
✗ 1. B
✗ 2. C
✗ 3. D
✓ 4. G

Question ID : **9895802810**
Chosen Option : **3**

Q.4

Career Aglasem

उस विकल्प का चयन करें जो दिए गए पैटर्न में प्रश्न चिह्न (?) के स्थान पर आएगा।

4	7	6
5	?	8
41	85	100

Ans
1. 9
2. 13
3. 11
4. 6

Question ID : **9895802818**
Chosen Option : **4**

Q.5 उस विकल्प का चयन करें जो दी गई श्रृंखला में प्रश्न चिह्न (?) के स्थान पर आएगा।

15, 19, 35, 71, ?

Ans
1. 145
2. 125
3. 141
4. 135

Question ID : **9895802815**
Chosen Option : **4**

Q.6 नीचे दिए गए कथनों के बाद दो निष्कर्ष I और II दिए गए हैं । यह मानते हुए कि कथनों में दी गई जानकारी सत्य है, भले ही वह सर्वज्ञात तथ्यों से भिन्न प्रतीत होती हो और यह निर्णय करें कि कौन सा / से निष्कर्ष तार्किक और निश्चित रूप से कथन में दी गई जानकारी का अनुसरण करता है / करते हैं।

कथन:

1) सभी बकरियां कुत्ते हैं।

2) कुछ बकरियां गाय हैं।

निष्कर्ष:

I. कुछ कुत्ते गाय हैं।

II. कुछ गायें कुत्ता हैं।

Ans
1. दोनों निष्कर्ष अनुसरण करते हैं।
2. केवल निष्कर्ष I अनुसरण करता है।
3. केवल निष्कर्ष II अनुसरण करता है।
4. न तो निष्कर्ष I न ही निष्कर्ष II अनुसरण करता है।

Question ID : **9895802813**
Chosen Option : **4**

Q.7 विकल्पों में से उस आकृति का चयन करें जिसमें 'X' से चिह्नित आकृति समाहित है। (घुमाने की अनुमति नहीं है)



Ans

Career Aglasem

Career Aglasem

1. 

2. 

3. 

4. 

Question ID : **9895802822**
Chosen Option : **1**

Q.8 उस विकल्प का चयन करें जो दर्पण के दायीं ओर रखे जाने पर दिए गए शब्द की दर्पण छवि से सर्वाधिक मेल खाता है।

QUENCH

Ans

1. 

2. 

3. 

4. 

Question ID : **9895802823**
Chosen Option : **3**

Q.9 उस वेन आरेख का चयन करें जो दिए गए वर्गों को सर्वोत्तम ढंग से दर्शाता है।

भारत, विशाखापत्तनम, आंध्र प्रदेश

Ans

1. 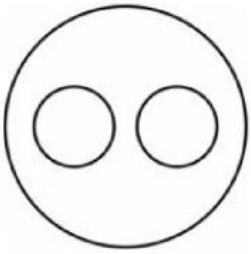

2. 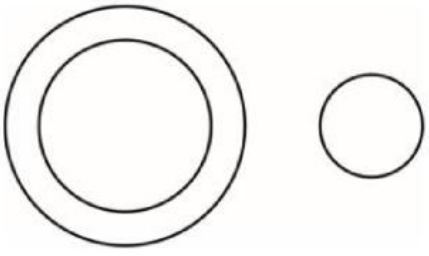

Career Aglasem

✗ 3.

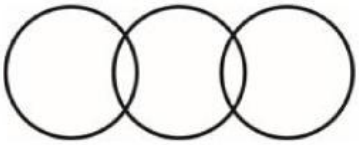

✓ 4.



Question ID : **9895802825**
Chosen Option : **4**

Q.10 उस विकल्प का चयन करें जो तीसरे पद से उसी प्रकार से संबंधित है जिस प्रकार दूसरा पद पहले पद से संबंधित है।

झगड़ा : युद्ध : : इच्छा: ?

Ans
✓ 1. आकांक्षा
✗ 2. पूछना
✗ 3. डुबाना
✗ 4. दुखी

Question ID : **9895802805**
Chosen Option : **1**

Q.11 उस विकल्प का चयन करें जो दी गई श्रृंखला में प्रश्न चिह्न (?) के स्थान पर आएगा।

7, 18, 40, 73, ?

Ans
✓ 1. 117
✗ 2. 115
✗ 3. 107
✗ 4. 127

Question ID : **9895802814**
Chosen Option : **1**

Q.12 विकल्पों में से उस आकृति का चयन करें जो दी गई श्रृंखला में अगले स्थान पर आएगी।

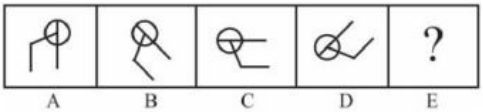

Ans
✗ 1.

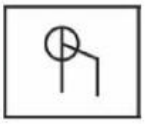

Career Aglasem

✗ 2. 

✓ 3. 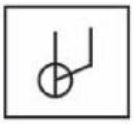

✗ 4. 

Question ID : **9895802820**
Chosen Option : **3**

Q.13 दिए गए विकल्पों में से असंगत का चयन करें।

Ans
✗ 1. विएना
✗ 2. काबुल
✗ 3. कैनबेरा
✓ 4. बहरीन

Question ID : **9895802803**
Chosen Option : **2**

Q.14 एक निश्चित कूट भाषा में CONCOLOGY को YGOLOCNOC के रूप में लिखा जाता है। उसी कूट भाषा में PALAEOGRAPHY को कैसे लिखा जाएगा?

Ans
✗ 1. YHPRAGOEALAP
✗ 2. YHPARGOAELAP
✗ 3. YHPARGEOALAP
✓ 4. YHPARGOEALAP

Question ID : **9895802807**
Chosen Option : **4**

Q.15 निम्नलिखित समीकरण को सही करने के लिए विकल्पों में दिए गए किन दो चिह्नों को परस्पर बदला जाना चाहिए?

24 + 2 × 2 - 6 ÷ 3 = 22

Ans
✗ 1. + और ×
✓ 2. + और -
✗ 3. - और ÷
✗ 4. × और ÷

Question ID : **9895802819**
Chosen Option : **1**

Q.16

नीचे दिए गए कथनों के बाद दो निष्कर्ष I और II दिए गए हैं । यह मानते हुए कि कथनों में दी गई जानकारी सत्य है, भले ही वह सर्वज्ञात तथ्यों से भिन्न प्रतीत होती हो और यह निर्णय करें कि कौन सा / से निष्कर्ष तार्किक और निश्चित रूप से कथन में दी गई जानकारी का अनुसरण करता है / करते हैं।

कथन:

1) **सभी पक्षी प्याले हैं।**

2) **कुछ प्याले बिल्लियाँ हैं।**

निष्कर्ष:

I. **सभी पक्षी बिल्लियाँ हैं।**

II. **कुछ प्याले पक्षी हैं।**

Ans

✗ 1. या तो निष्कर्ष I या निष्कर्ष II अनुसरण करता है।

✗ 2. केवल निष्कर्ष I अनुसरण करता है।

✓ 3. केवल निष्कर्ष II अनुसरण करता है।

✗ 4. दोनों निष्कर्ष अनुसरण करते हैं।

Question ID : **9895802812**
Chosen Option : **1**

Q.17 एक निश्चित कूट भाषा में OOLOGY को 89 के रूप में लिखा जाता है। उसी कूट भाषा में VIROLOGY को कैसे लिखा जाएगा?

Ans

✗ 1. 97

✗ 2. 113

✗ 3. 89

✓ 4. 123

Question ID : **9895802808**
Chosen Option : **4**

Q.18 पैटर्न के साथ एक वर्गाकार पारदर्शी कागज पत्रक दिया गया है। पारदर्शी कागज पत्रक को बिंदुकित रेखा पर मोड़े जाने पर पैटर्न कैसा दिखाई देगा?



Ans

✗ 1. 

✗ 2. 

✗ 3. 

✓ 4. 

Question ID : **9895802824**
Chosen Option : **2**

Q.19

Career Aglasem

Career Aglasem

उस विकल्प का चयन करें जो दी गई तीसरी संख्या से उसी प्रकार से संबंधित है जिस प्रकार दूसरी संख्या पहली संख्या से संबंधित है।

19: 441 : : 17: ?

Ans
✔ 1. 361
✘ 2. 144
✘ 3. 169
✘ 4. 225

Question ID : **9895802816**
Chosen Option : **1**

Q.20 दिए गए विकल्पों में से असंगत संख्या का चयन करें।

Ans
✔ 1. 566
✘ 2. 519
✘ 3. 357
✘ 4. 276

Question ID : **9895802817**
Chosen Option : **3**

Q.21 दिए गए विकल्पों में से असंगत का चयन करें।

Ans
✘ 1. SGH
✘ 2. HKO
✔ 3. SHT
✘ 4. IET

Question ID : **9895802802**
Chosen Option : **4**

Q.22 उस विकल्प का चयन करें जो दी गई श्रृंखला में प्रश्न चिह्न (?) के स्थान पर सही रूप में आएगा।

QLA, ONY, MPW, KRU, ?

Ans
✘ 1. ITU
✘ 2. IST
✘ 3. JTS
✔ 4. ITS

Question ID : **9895802801**
Chosen Option : **2**

Q.23 सात मित्र O, P, Q, R, S, T और U एक पंक्ति में बैठ कर फिल्म देख रहे हैं। S एक छोर पर बैठा है। Q, S के दाएँ ओर से दूसरे स्थान पर बैठा है। P, O और Q के बीच में बैठा है। U किसी भी छोर पर नहीं बैठा है। R, T के बाएँ ओर बैठा है। P के ठीक दाएँ ओर कौन बैठा है?

Ans
✘ 1. R
✘ 2. U
✘ 3. Q
✔ 4. O

Question ID : **9895802809**
Chosen Option : **2**

Q.24 दिए गए चार विकल्पों में से उस आकृति को चुनें, जिसे आकृति X के रिक्त स्थान में (बिना घुमाए) रखने पर पैटर्न पूरा हो जाएगा।



Ans

✗ 1. 

✗ 2. 

✓ 3. 

✗ 4. 

Question ID : **9895802821**
Chosen Option : **3**

Q.25 उस विकल्प का चयन करें जो तीसरे पद से उसी प्रकार से संबंधित है जिस प्रकार दूसरा पद पहले पद से संबंधित है।

कल्पना : अनुमान : : शांत : ?

Ans

✗ 1. घमंड

✗ 2. घोषणा करना

✓ 3. गंभीर

✗ 4. शांति

Question ID : **9895802804**
Chosen Option : **3**

Q.26 निम्नलिखित में से कौन सा दिन "मानव अधिकार दिवस" के रूप में मनाया जाता है?

Ans

✓ 1. दिसंबर 10

✗ 2. जनवरी 10

✗ 3. फरवरी 10

✗ 4. नवम्बर 10

Question ID : **9895802866**
Chosen Option : **1**

Q.27 प्रोटीन की उपस्थिति का परीक्षण करने के लिए निम्नलिखित में से कौन सा घोल आवश्यक है?

Ans

✗ 1. आयोडीन और कास्टिक सोडा घोल

✗ 2. आयोडीन घोल

✗ 3. कॉपर सल्फेट और आयोडीन घोल

✓ 4. कॉपर सल्फेट और कास्टिक सोडा घोल

Career Aglasem

Question ID : **9895802857**
Chosen Option : **1**

Q.28 एलिमेंट्री कैनाल (आहार मार्ग) के अंगों द्वारा सावित कौन सा रस वसा के पाचन में महत्वपूर्ण भूमिका निभाता है?

Ans
✗ 1. हाइड्रोक्लोरिक अम्ल, बलगम
✗ 2. अग्नाशयी रस, लार
✓ 3. पित्त रस, अग्नाशयी रस
✗ 4. लार, हाइड्रोक्लोरिक अम्ल

Question ID : **9895802861**
Chosen Option : **4**

Q.29 निम्नलिखित में से कौन से शब्द का प्रयोग बैंकिंग क्षेत्र में **नहीं** होता है?

Ans
✗ 1. व्याज दर अदला बदली (इंटरेस्ट रेट स्वेप)
✗ 2. संपार्श्विक (कोलेटरल)
✓ 3. शून्यकाल (ज़ीरो आवर)
✗ 4. रेपो दर (रेपो रेट)

Question ID : **9895802856**
Chosen Option : **2**

Q.30 राज्य सभा का पदेन अध्यक्ष कौन होता है?

Ans
✗ 1. राज्यसभा में विपक्ष के नेता
✗ 2. सभापति
✗ 3. प्रधान मंत्री
✓ 4. भारत के उपराष्ट्रपति

Question ID : **9895802853**
Chosen Option : **4**

Q.31 निम्नलिखित में से किस जलीय जीव में गलफड़े (गिल्स) नहीं होते?

Ans
✗ 1. स्क्विड
✗ 2. क्लाउनफ़िश
✓ 3. व्हेल
✗ 4. ऑक्टोपस

Question ID : **9895802859**
Chosen Option : **3**

Q.32 भारतीय संविधान के निम्नलिखित अनुच्छेदों में से कौन सा भारत के राष्ट्रपति को राष्ट्रीय आपातकाल घोषित करने की सत्ता प्रदान करता है?

Ans
✓ 1. अनुच्छेद 356
✗ 2. अनुच्छेद 371

Career Aglasem

Career Aglasem

✗ 3. अनुच्छेद 372

✗ 4. अनुच्छेद 352

Question ID : **9895802852**
Chosen Option : **3**

Q.33 'स्वराज यह मेरा जन्मसिद्ध अधिकार है और मैं इसे लेकर ही रहूँगा' यह नारा निम्नलिखित में से किसने दिया था?

Ans
✗ 1. चित्तरंजन दास

✗ 2. गोपाल कृष्ण गोखले

✓ 3. बाल गंगाधर तिलक

✗ 4. दादा भाई नौरोजी

Question ID : **9895802875**
Chosen Option : **3**

Q.34 "द लोंग वोक टू फ्रीडम" निम्नलिखित में से किसकी आत्मकथा है?

Ans
✗ 1. जॉन एफ़. कैनेडी

✗ 2. मार्टिन लूथर किंग

✓ 3. नेल्सन मंडेला

✗ 4. अब्राहम लिंकन

Question ID : **9895802864**
Chosen Option : **2**

Q.35 भारत में राष्ट्रीय खेल दिवस कौन से दिन मनाया जाता है?

Ans
✗ 1. अगस्त 27

✓ 2. अगस्त 29

✗ 3. अगस्त 26

✗ 4. अगस्त 28

Question ID : **9895802863**
Chosen Option : **3**

Q.36 राज्य नीति के निर्देशक सिद्धांतों के विचार को भारतीय संविधान ने किस देश से अपनाया था?

Ans
✓ 1. आयरलैंड

✗ 2. जर्मनी

✗ 3. ब्रिटेन

✗ 4. दक्षिण अफ्रीका

Question ID : **9895802851**
Chosen Option : **3**

Q.37 भारत का प्रायद्वीपीय पठार निम्नलिखित में से किस भूभाग का हिस्सा है?

Ans
✗ 1. लॉरेशिया
✗ 2. टेथिस
✗ 3. एंडीयन
✓ 4. गोंडवाना भूमि

Question ID : **9895802871**
Chosen Option : **4**

Q.38 तटीय ओडिशा का प्राचीन नाम क्या था?

Ans
✓ 1. कलिंग
✗ 2. खानदेश
✗ 3. कौशाम्बी
✗ 4. कामरूप

Question ID : **9895802874**
Chosen Option : **3**

Q.39 आम टीवी रिमोट कंट्रोल द्वारा निम्न में से किस तरंग का उपयोग किया जाता है?

Ans
✗ 1. रेडियो तरंगें
✗ 2. अल्ट्रासोनिक तरंगें
✓ 3. इंफ्रारेड तरंगें
✗ 4. लेजर

Question ID : **9895802860**
Chosen Option : **2**

Q.40 मैग्नस कार्लसन निम्नलिखित में से किस खेल के लिए प्रसिद्ध है?

Ans
✓ 1. शतरंज
✗ 2. टेनिस
✗ 3. कैरम
✗ 4. फ़ुटबॉल

Question ID : **9895802862**
Chosen Option : **2**

Q.41 केंद्रीय बजट 2018 के अनुसार, ऑपरेशन ग्रीन के लिए कितनी राशि आवंटित की गई थी?

Ans
✓ 1. 500 करोड़
✗ 2. 600 करोड़
✗ 3. 400 करोड़
✗ 4. 700 करोड़

Question ID : **9895802855**
Chosen Option : **2**

Career Aglasem

Q.42 निम्नलिखित में से कौन प्रोटीन का एक प्रमुख स्रोत नहीं है?

Ans
1. सोयाबीन ✗
2. गेहूँ ✓
3. मछली ✗
4. चना ✗

Question ID : **9895802858**
Chosen Option : **3**

Q.43 भारत के निम्नलिखित में से किस राज्य में संगाई त्योहार मनाया जाता है?

Ans
1. नागालैंड ✗
2. मणिपुर ✓
3. मेघालय ✗
4. अरुणाचल प्रदेश ✗

Question ID : **9895802869**
Chosen Option : **1**

Q.44 निम्नलिखित में से कौन सा मंत्रालय हर साल संसद में आर्थिक सर्वेक्षण प्रस्तुत करता है?

Ans
1. वित्त ✓
2. वाणिज्य ✗
3. गृह कार्य ✗
4. कॉर्पोरेट कार्य ✗

Question ID : **9895802854**
Chosen Option : **1**

Q.45 निम्नलिखित में से कौन सा कथन "स्थानिक प्रजातिओं" प्रका वर्णन करता है?

Ans
1. प्रजातियाँ जो केवल कुछ विशेष क्षेत्रों में पाई जाती हैं। ✓
2. कम आबादी वाली प्रजातियां लुप्तप्राय प्रजातियों की श्रेणी में जा सकती हैं। ✗
3. प्रजातियाँ जो विदेशों से आई हैं। ✗
4. प्रजातियाँ जो गहन खोजों के बाद मौजूदा नहीं पाई गई। ✗

Question ID : **9895802872**
Chosen Option : **2**

Q.46 तंजौर में बृहदेश्वर मंदिर किस धार्मिक संप्रदाय से संबंधित है?

Ans
1. वैदिक ✗
2. आलवार ✗
3. नायनमार ✓

Career Aglasem

Career Aglasem

✗ 4. शाक्त

Question ID : **9895802867**
Chosen Option : **2**

Q.47 पाठ 'चरक संहिता' ग्रन्थ के अनुसार मानव शरीर में कितनी हड्डियाँ होती हैं?

Ans
✗ 1. 370
✓ 2. 360
✗ 3. 208
✗ 4. 206

Question ID : **9895802873**
Chosen Option : **4**

Q.48 'कैलाश पर्वत को हिलाते हुए रावण' नामक लोकप्रिय चित्रण निम्न में से किस गुफा में चित्रित किया गया है?

Ans
✓ 1. एलोरा
✗ 2. कान्हेरी
✗ 3. अजंता
✗ 4. हातीगुंफा

Question ID : **9895802868**
Chosen Option : **3**

Q.49 निम्नलिखित नदियों में से किसे "दक्षिण गंगा" भी कहा जाता है?

Ans
✓ 1. गोदावरी
✗ 2. पेरियार
✗ 3. कावेरी
✗ 4. कृष्णा

Question ID : **9895802870**
Chosen Option : **1**

Q.50 'द गॉड ऑफ स्मॉल थिंग्स' उपन्यास किस देश से प्रेरित है?

Ans
✗ 1. बांग्लादेश
✗ 2. चीन
✓ 3. भारत
✗ 4. नेपाल

Question ID : **9895802865**
Chosen Option : **4**

Q.51 *U*, *V* तथा *W* क्रमशः 15 : 20 : 27 के अनुपात में निवेश करते हैं। यदि वर्ष के अंत में वे कुल ₹ 10230 का लाभ कमाते हैं, तो लाभ में *V* का हिस्सा क्या है?

Ans
✗ 1. ₹ 3150
✗ 2. ₹ 2870
✗ 3. ₹ 3500

Career Aglasem

✔ 4. ₹ 3300

Question ID : **9895804602**
Chosen Option : **2**

Q.52 एक परिवार का औसत मासिक व्यय प्रथम 2 महीने के लिए ₹ 8160 है, अगले 5 महीने के लिए ₹ 12780 है तथा अगले 5 महीने के लिए ₹ 14280 है। यदि परिवार पूरे वर्ष में ₹ 66300 बचाता है, तो परिवार की औसत मासिक आय क्या होगी?

Ans
✔ 1. ₹ 18160
✘ 2. ₹ 18260
✘ 3. ₹ 18000
✘ 4. ₹ 18100

Question ID : **9895804596**
Chosen Option : **3**

Q.53 एक राशि पर पाँचवें वर्ष का चक्रवृद्धि ब्याज ₹ 7800 है तथा छठे वर्ष का चक्रवृद्धि ब्याज ₹ 9048 है (ब्याज का संयोजन वार्षिक किया गया है)। ब्याज दर क्या है?

Ans
✘ 1. 14%
✘ 2. 12%
✔ 3. 16%
✘ 4. 15%

Question ID : **9895804606**
Chosen Option : **3**

Q.54 $2^2 \times 3^5 \times 7^3$ तथा $2^4 \times 3^4 \times 7^1$ का लघुत्तम समापवर्त्य क्या होगा?

Ans
✘ 1. $2^6 \times 3^9 \times 7^4$
✘ 2. $2^4 \times 3^6 \times 7^4$
✔ 3. $2^4 \times 3^5 \times 7^3$
✘ 4. $2^2 \times 3^4 \times 7^1$

Question ID : **9895804592**
Chosen Option : **1**

Q.55 यदि *C* अकेला एक कार्य का दो-तिहाई 12 दिन में पूरा कर सकता है, तो *C* संपूर्ण कार्य को कितने दिन में पूरा कर सकता है?

Ans
✘ 1. 18 दिन
✔ 2. 15 दिन
✘ 3. 8 दिन
✘ 4. 24 दिन

Question ID : **9895804608**
Chosen Option : **1**

Q.56 एक 250 मीटर लम्बी रेलगाड़ी एक 350 मीटर लम्बे पुल को पार करने में 30 सेकण्ड लेती है। एक 550 मीटर लम्बे पुल को पार करने में रेलगाड़ी कितना समय लेगी?

Ans
✔ 1. 40 सेकण्ड

Career Aglasem

✗ 2. 38 सेकण्ड

✗ 3. 42 सेकण्ड

✗ 4. 35 सेकण्ड

Question ID : **9895804610**
Chosen Option : **2**

Q.57 नीचे दिए गए डेटा अलग-अलग अंक प्राप्त करने वाले कक्षा A तथा B के छात्रों की संख्या दर्शाता है।

अंक	कक्षा A के छात्र	कक्षा B के छात्र
0 – 2	3	2
2 – 4	4	1
4 – 6	1	3
6 – 8	1	1
8 – 10	1	1
10 – 12	0	2

A तथा B का संयुक्त माध्य क्या है?

Ans ✗ 1. 3.75

✓ 2. 4.7

✗ 3. 4

✗ 4. 3.5

Question ID : **9895804598**
Chosen Option : **3**

Q.58 एक वस्तु का अंकित मूल्य उसके क्रय मूल्य से 70% अधिक है। 10% की छूट देने के पश्चात् वस्तु ₹ 1071 की बेची गई है। वस्तु का क्रय मूल्य क्या होगा?

Ans ✗ 1. ₹ 620

✓ 2. ₹ 700

✗ 3. ₹ 590

✗ 4. ₹ 530

Question ID : **9895804597**
Chosen Option : **1**

Q.59 मोहन 187 किमी. की एक दूरी को *S* कि.मी./घंटा की गति से तय करता है। यदि मोहन अपनी गति को 6 कि.मी./घंटा से बढ़ा देता है, तो वह 6 घंटे कम लेता है। *S* का मान क्या है?

Ans ✓ 1. 11 कि.मी./घंटा

✗ 2. 12 कि.मी./घंटा

✗ 3. 14 कि.मी./घंटा

✗ 4. 13 कि.मी./घंटा

Question ID : **9895804609**
Chosen Option : **2**

Q.60

नीचे दिया गया पाई चार्ट एक देश के लिए 7 विभिन्न वस्तुओं P1, P2, P3, P4, P5, P6 तथा P7 के आयात को कुल आयात के प्रतिशत के रूप में दर्शाता है।

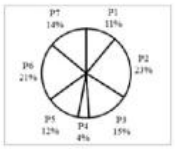

आइटम P6 का आयात आइटम P5 के आयात से कितना प्रतिशत अधिक हैं?

Ans
1. 75%
2. 9%
3. 33%
4. 80%

Question ID : **9895804614**
Chosen Option : **2**

Q.61 दो वस्तुओं का मूल्य क्रमशः 5 : 6 के अनुपात में है। पहली वस्तु का मूल्य 30% बढ़ाया जाता है तथा दूसरी वस्तु का मूल्य X% घटाया जाता है। यदि नया अनुपात क्रमशः 13 : 11 है, तो X का मान क्या है?

Ans
1. 12.5
2. 11.11
3. 8.33
4. 9.09

Question ID : **9895804604**
Chosen Option : **3**

Q.62 दो वृत्तों की त्रिज्याएँ 15 से.मी. तथा 8 से.मी. हैं। यदि एक तीसरे वृत्त का क्षेत्रफल दोनों वृत्तों के क्षेत्रफल के योग के बराबर है, तो तीसरे वृत्त की त्रिज्या क्या होगी?

Ans
1. 21 से.मी.
2. 23 से.मी.
3. 17 से.मी.
4. 19 से.मी.

Question ID : **9895804613**
Chosen Option : **2**

Q.63 किसी आयत की लंबाई तथा चौड़ाई 16 से.मी. तथा 12 से.मी. है। आयत का क्षेत्रफल क्या होगा?

Ans
1. 176 से.मी.^{2}
2. 144 से.मी.^{2}
3. 212 से.मी.^{2}
4. 192 से.मी.^{2}

Question ID : **9895804611**
Chosen Option : **2**

Q.64 $512 \div 16 + 4 \times \frac{5}{2}$ का $\left(\frac{1}{8} + \frac{1}{3}\right)$ का मान क्या है?

Career Aglasem

Career Aglasem

Ans
1. $\frac{443}{12}$
2. $\frac{449}{12}$
3. $\frac{439}{12}$
4. $\frac{455}{12}$

Question ID : **9895804593**
Chosen Option : **1**

Q.65 एक निश्चित राशि पर 15% की वार्षिक दर से तीन वर्षों का साधारण ब्याज ₹ 9000 है। यदि ब्याज की दर 30% हो जाए, तो दो वर्षों का साधारण ब्याज क्या होगा?

Ans
1. ₹ 12000
2. ₹ 27000
3. ₹ 4500
4. ₹ 9000

Question ID : **9895804605**
Chosen Option : **2**

Q.66 रवि और मनोज के बीच हुए एक चुनाव में रवि को कुल मान्य मतों के 61% मिलते हैं। यदि कुल मत 25000 थे तथा कुल मतों के 20% को अमान्य घोषित किया गया है, तो दूसरे उम्मीदवार मनोज को कितने मत मिलेंगे?

Ans
1. 9750
2. 8025
3. 8200
4. 7800

Question ID : **9895804599**
Chosen Option : **1**

Q.67 नीचे दिया गया पाई चार्ट एक देश के लिए 7 विभिन्न वस्तुओं P1, P2, P3, P4, P5, P6 तथा P7 के आयात को कुल आयात के प्रतिशत के रूप में दर्शाता है।

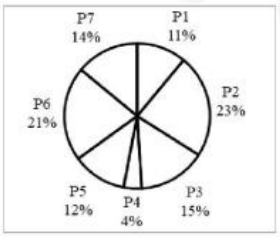

यदि आइटम P1 के कुल आयात ₹ 33000 है, तो आइटम P2 के आयात का मान क्या है?

Ans
1. 46000
2. 69000
3. 57500
4. 80500

Question ID : **9895804615**
Chosen Option : **2**

Q.68

8

नीचे दिया गया पाई चार्ट किसी शहर में एक वर्ष के लिए विभिन्न प्रकार की कारों की बिक्री दर्शाता है। शहर में कारों की कुल बिक्री 600000 है।

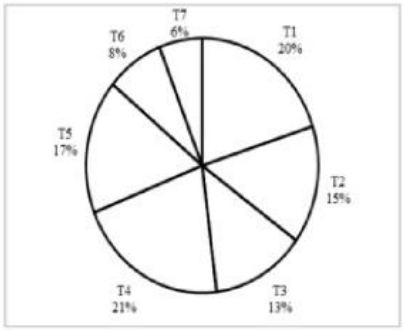

दिए गए वर्ष में शहर में कितनी T4 कारों की बिक्री हुई हैं?

Ans
✗ 1. 144000
✗ 2. 128000
✓ 3. 126000
✗ 4. 138000

Question ID : **9895804616**
Chosen Option : **3**

Q.69 एक कक्षा में कुल 70 छात्र हैं। 28 लड़कियों का औसत वजन 28 कि.ग्रा. है तथा बचे हुए विद्यार्थीयों का औसत वजन 35 कि.ग्रा है। सभी 70 विद्यार्थीयों का औसत वजन (कि.ग्रा में) क्या होगा?

Ans
✗ 1. 34.6 कि.ग्रा.
✗ 2. 35.2 कि.ग्रा.
✓ 3. 32.4 कि.ग्रा.
✗ 4. 36.8 कि.ग्रा.

Question ID : **9895804595**
Chosen Option : **4**

Q.70 यदि एक वस्तु का क्रय मूल्य ₹ 928 है तथा लाभ 15% है, तो कुल लाभ क्या होगा?

Ans
✓ 1. ₹ 139.20
✗ 2. ₹ 154.50
✗ 3. ₹ 212
✗ 4. ₹ 168.40

Question ID : **9895804601**
Chosen Option : **2**

Q.71 एक आयताकार मेज का परिमाप 60 से.मी. है। यदि आयताकार मेज का क्षेत्रफल 209 से.मी.^{2} है, तो मेज की लंबाई क्या होगी?

Ans

Career Aglasem

Career Aglasem

✗ 1. 21 से.मी.

✗ 2. 17 से.मी.

✗ 3. 13 से.मी.

✓ 4. 19 से.मी.

Question ID : **9895804612**
Chosen Option : **4**

Q.72 यदि $1/A : 1/B : 1/C = 2 : 3 : 4$ है, तो $A : B : C$ का अनुपात क्या होगा?

Ans

✗ 1. 4 : 3 : 6

✗ 2. 12 : 6 : 8

✓ 3. 6 : 4 : 3

✗ 4. 3 : 6 : 4

Question ID : **9895804603**
Chosen Option : **2**

Q.73 $1040 \div 65 - 8 \times \frac{1}{2}$ का $\left(\frac{1}{2} - \frac{1}{3}\right)$ का मान क्या है?

Ans

✗ 1. $\frac{46}{3}$

✗ 2. $\frac{49}{3}$

✗ 3. $\frac{44}{3}$

✓ 4. $\frac{50}{3}$

Question ID : **9895804594**
Chosen Option : **3**

Q.74 *M* एक कार्य को *L* द्वारा लिए गए समय से 14 दिन कम मे पूरा कर सकता है। यदि *M* तथा *L* दोनों मिलकर समान कार्य को 24 दिन में पूरा कर सकते हैं, तो *M* अकेला समान कार्य को कितने दिन में पूरा कर सकता हैं?

Ans

✓ 1. 56 दिन

✗ 2. 35 दिन

✗ 3. 42 दिन

✗ 4. 21 दिन

Question ID : **9895804607**
Chosen Option : **2**

Q.75 *P*, *Q* को एक वस्तु 5% हानि पर बेचता है तथा *Q*, *R* को वह वस्तु 20% हानि पर बेचता है। यदि *R* वस्तु के लिए ₹ 2812 चुकाता है, तो *P* के लिए क्रय मूल्य क्या था?

Ans

✓ 1. ₹ 3700

✗ 2. ₹ 3250

✗ 3. ₹ 3750

✗ 4. ₹ 3515

Question ID : **9895804600**
Chosen Option : **4**

Section : **English Language**

Q.1 Identify the segment in the sentence which contains the grammatical error from the given options.

Even though I took a taxi, the train left before I reached the station.

Ans
1. ✗ I reached
2. ✗ took a taxi
3. ✓ Even though
4. ✗ the train left

Question ID : **9895804422**
Chosen Option : **--**

Q.2 Select the most appropriate word to fill in the blank.

If you kill us, the Emperor can attack your kingdom on the _____ of avenging our death.

Ans
1. ✗ pretext
2. ✗ pretense
3. ✗ guise
4. ✓ excuse

Question ID : **9895804421**
Chosen Option : **--**

Q.3 Select the most appropriate synonym of the given word.

ELABORATE

Ans
1. ✓ Sketchy
2. ✗ Detailed
3. ✗ Elongated
4. ✗ Appropriate

Question ID : **9895804410**
Chosen Option : **--**

Q.4 Select the most appropriate word to fill in the blank.

We need a _____ leader for the nation in these troubled times.

Ans
1. ✗ sturdy
2. ✗ dynamic
3. ✗ hard-core
4. ✓ gifted

Question ID : **9895804420**
Chosen Option : **--**

Q.5

Career Aglasem

Select the most appropriate meaning of the given idiom.

Hale and hearty.

Ans
1. Friendly ✔
2. Superior ✘
3. Healthy ✘
4. Happy ✘

Question ID : **9895804415**
Chosen Option : --

Q.6 Select the word which means the same as the group of words given.

Originating or occurring naturally in the place or country where found.

Ans
1. Indigenous ✘
2. Ordinary ✘
3. Ingenious ✔
4. National ✘

Question ID : **9895804418**
Chosen Option : --

Q.7 Select the correctly spelt word.

Ans
1. Attendance ✔
2. Attendence ✘
3. Attandence ✘
4. Attandance ✘

Question ID : **9895804416**
Chosen Option : --

Q.8 Select the most appropriate option to substitute the underlined segment in the given sentence. If there is no need to substitute it, select No improvement.

The state government has announced that it **was giving financial helps** to the economically weaker sections of society.

Ans
1. will give financial helps ✘
2. No improvement. ✘
3. will give financial help ✔
4. Gives financial helps ✘

Question ID : **9895804429**
Chosen Option : --

Q.9 Identify the segment in the sentence which contains the grammatical error from the given options.

We would be very pleased if you could come to my house.

Ans
1. would be ✔
2. if you ✘
3. my house ✘

Career Aglasem

Career Aglasem

✗ 4. come to

Question ID : **9895804423**
Chosen Option : --

Q.10 Select the most appropriate synonym of the given word.

GULLIBLE

Ans
✗ 1. Perceptive
✗ 2. Innocent
✓ 3. Credulous
✗ 4. Knowledgeable

Question ID : **9895804411**
Chosen Option : --

Q.11 Identify the segment in the sentence which contains the grammatical error from the given options.

May I have your permission leaving the office a little early today?

Ans
✗ 1. leaving
✓ 2. May I have
✗ 3. a little
✗ 4. early today

Question ID : **9895804424**
Chosen Option : --

Q.12 Select the most appropriate meaning of the given idiom.

At one's wits end

Ans
✗ 1. To disagree with something
✓ 2. Not knowing what to do
✗ 3. Without aim or purpose
✗ 4. To take note of something

Question ID : **9895804414**
Chosen Option : --

Q.13 Select the correctly spelt word.

Ans
✗ 1. Beginning
✓ 2. Bigining
✗ 3. Begginning
✗ 4. Begining

Question ID : **9895804417**
Chosen Option : --

Q.14 Select the most appropriate option to substitute the underlined segment in the given sentence. If there is no need to substitute it, select No improvement.

There is no reason why you should remain tense when **I was promising to help you.**

Ans
1. I promised helping you
2. I promising to help you
3. I have promised to help you
4. No improvement.

Question ID : **9895804427**
Chosen Option : --

Q.15 Fill in the blanks with the most appropriate words.

Switch off the air conditioner _____ you will catch a cold.

Ans
1. but
2. or
3. and
4. so

Question ID : **9895804426**
Chosen Option : --

Q.16 Select the most appropriate option to substitute the underlined segment in the given sentence. If there is no need to substitute it, select No improvement.

Most of us fail **to understand the objective of** his frequent visits to this part of the country.

Ans
1. to understand the object of
2. to understanding the objective of
3. No improvement.
4. to understand the objectives to

Question ID : **9895804428**
Chosen Option : --

Q.17 Select the most appropriate antonym of the given word.

ABUNDANT

Ans
1. adequate
2. scarce
3. plentiful
4. sufficient

Question ID : **9895804412**
Chosen Option : --

Q.18 Fill in the blanks with the most appropriate words.

She has been reduced _____ a skeleton due to her illness.

Ans
1. in
2. to
3. with
4. for

Career Aglasem

Question ID : **9895804425**
Chosen Option : --

Q.19 Select the most appropriate antonym of the given word.

ABSURD

Ans
1. guilty
2. ridiculous
3. sincere
4. sensible

Question ID : **9895804413**
Chosen Option : --

Comprehension:

In the following passage some words have been deleted. Fill in the blanks with the help of the alternatives given. Select the most appropriate option for each number.

The most common act of forgetfulness, I suppose (1) _____ in the matter of posting letters. So common is it that I am always (2) _____ to trust a departing visitor to post an important (3) _____ So before handing over the letter I make him (4) _____ to post it immediately. As for myself, anyone (5) _____ asks me to post a letter is a poor judge of my character.

SubQuestion No : 20

Q.20 Fill in blank (1) with the most appropriate option.

Ans
1. develops
2. takes
3. creates
4. occurs

Question ID : **9895804431**
Chosen Option : --

Comprehension:

In the following passage some words have been deleted. Fill in the blanks with the help of the alternatives given. Select the most appropriate option for each number.

The most common act of forgetfulness, I suppose (1) _____ in the matter of posting letters. So common is it that I am always (2) _____ to trust a departing visitor to post an important (3) _____ So before handing over the letter I make him (4) _____ to post it immediately. As for myself, anyone (5) _____ asks me to post a letter is a poor judge of my character.

SubQuestion No : 21

Q.21 Fill in blank (2) with the most appropriate option.

Ans
1. willing
2. indifferent

Career Aglasem

Career Aglasem

✗ 3. reluctant

✓ 4. frightened

Question ID : **9895804432**
Chosen Option : --

Comprehension:

In the following passage some words have been deleted. Fill in the blanks with the help of the alternatives given. Select the most appropriate option for each number.

The most common act of forgetfulness, I suppose (1) _____ in the matter of posting letters. So common is it that I am always (2) _____ to trust a departing visitor to post an important (3) _____ So before handing over the letter I make him (4) _____ to post it immediately. As for myself, anyone (5) _____ asks me to post a letter is a poor judge of my character.

SubQuestion No : 22

Q.22 Fill in blank (3) with the most appropriate option.

Ans
✓ 1. mail

✗ 2. message

✗ 3. letter

✗ 4. parcel

Question ID : **9895804433**
Chosen Option : --

Comprehension:

In the following passage some words have been deleted. Fill in the blanks with the help of the alternatives given. Select the most appropriate option for each number.

The most common act of forgetfulness, I suppose (1) _____ in the matter of posting letters. So common is it that I am always (2) _____ to trust a departing visitor to post an important (3) _____ So before handing over the letter I make him (4) _____ to post it immediately. As for myself, anyone (5) _____ asks me to post a letter is a poor judge of my character.

SubQuestion No : 23

Q.23 Fill in blank (4) with the most appropriate option.

Ans
✓ 1. assure

✗ 2. ready

✗ 3. promise

✗ 4. pledge

Question ID : **9895804434**
Chosen Option : --

Comprehension:

In the following passage some words have been deleted. Fill in the blanks with the help of the alternatives given. Select the most appropriate option for each number.

The most common act of forgetfulness, I suppose (1) _____ in the matter of posting letters. So common is it that I am always (2) _____ to trust a departing visitor to post an important (3) _____ So before handing over the letter I make him (4) _____ to post it immediately. As for myself, anyone (5) _____ asks me to post a letter is a poor judge of my character.

SubQuestion No : 24

Q.24 Fill in blank (5) with the most appropriate option.

Ans
✗ 1. whom
✓ 2. which
✗ 3. that
✗ 4. who

Question ID : **9895804435**
Chosen Option : **--**

Q.25 Select the word which means the same as the group of words given.

One who collects stamps

Ans
✗ 1. Plagiarist
✗ 2. Philanthropist
✗ 3. Philatelist
✓ 4. Numismatist

Question ID : **9895804419**
Chosen Option : **--**

Section : **Hindi Language**

Q.1 दिए गए शब्द का विलोम चुनें।

अज्ञ

Ans
✗ 1. अनुज
✗ 2. आस्था
✗ 3. आज्ञा
✓ 4. विज्ञ

Question ID : **9895803917**
Chosen Option : **2**

Q.2 सही वर्तनी वाले शब्द का चयन करें।

Ans
✗ 1. टतस्थ
✗ 2. तटष्ठ
✗ 3. ततष्ठ

Career Aglasem

✔ 4. तटस्थ

Question ID : **9895803925**
Chosen Option : **4**

Q.3 रिक्त स्थान को भरने के लिए उपयुक्त शब्द का चयन करें।

किसान हल _____ खेत की ओर जा रहा है।

Ans
✘ 1. तोड़कर
✘ 2. मारकर
✘ 3. धक्का देकर
✔ 4. लेकर

Question ID : **9895803906**
Chosen Option : **4**

Q.4 दिए गए शब्द के पर्यायवाची शब्द का चयन करें।

बादल

Ans
✘ 1. पर्वत
✘ 2. पानी
✔ 3. पयोधर
✘ 4. पवन

Question ID : **9895803918**
Chosen Option : **1**

Q.5 दिए गए शब्द के पर्यायवाची शब्द का चयन करें।

गंगा

Ans
✔ 1. भागीरथी
✘ 2. यमुना
✘ 3. तटिनी
✘ 4. नदी

Question ID : **9895803919**
Chosen Option : **1**

Q.6 रिक्त स्थान को भरने के लिए उपयुक्त शब्द का चयन करें।

मैं _____ को परेशान नहीं करूँगा।

Ans
✘ 1. कोई
✔ 2. किसी
✘ 3. कुछ
✘ 4. कभी

Career Aglasem

Question ID : **9895803907**
Chosen Option : **2**

Q.7 दिए गए वाक्य का वह भाग ज्ञात करें जिसमें कोई त्रुटि है।

अपनी आय में से भावी जीवन के लिए कुछ अंश बचाकर रखनी बचत कहलाता है।

Ans
✔ 1. कुछ अंश बचाकर रखनी
✗ 2. भावी जीवन के लिए
✗ 3. अपनी आय में से
✗ 4. बचत कहलाता है।

Question ID : **9895803902**
Chosen Option : **2**

Q.8 रिक्त स्थान को भरने के लिए उपयुक्त शब्द का चयन करें।

चारों ओर रंग ही रंग _____ गए।

Ans
✔ 1. बिखर
✗ 2. भाग
✗ 3. मुरझा
✗ 4. बौखला

Question ID : **9895803908**
Chosen Option : **1**

Q.9 दिए गए वाक्य में रेखांकित खंड को प्रतिस्थापित करने के लिए उपयुक्त विकल्प का चयन करें।

दादाजी मोटियाँ रोटियाँ नहीं खाते।

Ans
✔ 1. मोटी रोटियाँ
✗ 2. मोटा रोटी
✗ 3. मोटे रोटियाँ
✗ 4. रोटियाँ मोटियाँ

Question ID : **9895803905**
Chosen Option : **1**

Q.10 रिक्त स्थान को भरने के लिए उपयुक्त शब्द का चयन करें।

_____ ही बादल छाए, मोर नाचने लगा।

Ans
✗ 1. किस
✗ 2. कब
✔ 3. जैसे
✗ 4. वैसे

Question ID : **9895803909**
Chosen Option : **3**

Career Aglasem

Comprehension:

निम्नलिखित गद्यांश के रिक्त स्थानों की पूर्ति गद्यांश के नीचे दिए गए प्रश्नों के अनुसार कीजिए -

संसार के सभी _____ (1) करुणा के सागर थे। गौतम बुद्ध ने राजपाट और सांसारिकता को _____ (2) ही महानता को प्राप्त किया। गांधीजी ने वकालत छोड़कर देश को _____ (3) कराने के लिए लड़ाई छेड़ दी। ईसा मसीह ने _____ (4) में अपने _____ (5) की आहुति दी।

SubQuestion No : 11

Q.1 1 गद्यांश में संकेतित रिक्त स्थान (1) के लिए उपयुक्त शब्द होगा

Ans
✗ 1. नेता
✗ 2. राजा
✗ 3. विद्वान
✓ 4. महापुरुष

Question ID : **9895803911**
Chosen Option : **4**

Comprehension:

निम्नलिखित गद्यांश के रिक्त स्थानों की पूर्ति गद्यांश के नीचे दिए गए प्रश्नों के अनुसार कीजिए -

संसार के सभी _____ (1) करुणा के सागर थे। गौतम बुद्ध ने राजपाट और सांसारिकता को _____ (2) ही महानता को प्राप्त किया। गांधीजी ने वकालत छोड़कर देश को _____ (3) कराने के लिए लड़ाई छेड़ दी। ईसा मसीह ने _____ (4) में अपने _____ (5) की आहुति दी।

SubQuestion No : 12

Q.1 2 गद्यांश में संकेतित रिक्त स्थान (2) के लिए उपयुक्त शब्द होगा

Ans
✗ 1. देकर

Career Aglasem

2. लेकर
3. त्याग कर
4. भूलकर

Question ID : **9895803912**
Chosen Option : **3**

Comprehension:

निम्नलिखित गद्यांश के रिक्त स्थानों की पूर्ति गद्यांश के नीचे दिए गए प्रश्नों के अनुसार कीजिए -

संसार के सभी _____ (1) करुणा के सागर थे। गौतम बुद्ध ने राजपाट और सांसारिकता को _____ (2) ही महानता को प्राप्त किया। गांधीजी ने वकालत छोड़कर देश को _____ (3) कराने के लिए लड़ाई छेड़ दी। ईसा मसीह ने _____ (4) में अपने _____ (5) की आहुति दी।

SubQuestion No : 13

Q.13 गद्यांश में संकेतित रिक्त स्थान (3) के लिए उपयुक्त शब्द होगा

Ans
1. अराजक
2. स्वछन्द
3. परतंत्र
4. स्वतंत्र

Question ID : **9895803913**
Chosen Option : **4**

Comprehension:

Career Aglasem

Career Aglasem

निम्नलिखित गद्यांश के रिक्त स्थानों की पूर्ति गद्यांश के नीचे दिए गए प्रश्नों के अनुसार कीजिए -

संसार के सभी _____ (1) करुणा के सागर थे। गौतम बुद्ध ने राजपाट और सांसारिकता को _____ (2) ही महानता को प्राप्त किया। गांधीजी ने वकालत छोड़कर देश को _____ (3) कराने के लिए लड़ाई छेड़ दी। ईसा मसीह ने _____ (4) में अपने _____ (5) की आहुति दी।

SubQuestion No : 14

Q.14 गद्यांश में संकेतित रिक्त स्थान (4) के लिए उपयुक्त शब्द होगा

Ans
1. ✗ स्वहित
2. ✓ जनहित
3. ✗ मनहित
4. ✗ आत्महित

Question ID : **9895803914**
Chosen Option : **2**

Comprehension:

निम्नलिखित गद्यांश के रिक्त स्थानों की पूर्ति गद्यांश के नीचे दिए गए प्रश्नों के अनुसार कीजिए -

संसार के सभी _____ (1) करुणा के सागर थे। गौतम बुद्ध ने राजपाट और सांसारिकता को _____ (2) ही महानता को प्राप्त किया। गांधीजी ने वकालत छोड़कर देश को _____ (3) कराने के लिए लड़ाई छेड़ दी। ईसा मसीह ने _____ (4) में अपने _____ (5) की आहुति दी।

SubQuestion No : 15

Q.15 गद्यांश में संकेतित रिक्त स्थान (5) के लिए उपयुक्त शब्द होगा

Ans
1. ✗ सपनों
2. ✗ विचारों

✗ 3. धन-धान्य

✓ 4. प्राणों

Question ID : **9895803915**
Chosen Option : **4**

Q.16 दिए गए वाक्य का वह भाग ज्ञात करें जिसमें कोई त्रुटि है।

लक्ष्यहीन मनुष्य जिंदगियों में कभी सार्थक कार्य नहीं कर सकता।

Ans
✗ 1. लक्ष्यहीन मनुष्य

✗ 2. नहीं कर सकता।

✗ 3. सार्थक कार्य

✓ 4. जिंदगियों में कभी

Question ID : **9895803900**
Chosen Option : **2**

Q.17 दिए गए वाक्य में रेखांकित खंड को प्रतिस्थापित करने के लिए उपयुक्त विकल्प का चयन करें।

व्यक्ति को अपना जीवन सफल बनाने के लिए आशा पर सहारा लेना चाहिए।

Ans
✓ 1. आशा का सहारा

✗ 2. आशाओं ने सहारा

✗ 3. आशा की सहारा

✗ 4. आशा के सहारा

Question ID : **9895803904**
Chosen Option : **2**

Q.18 निम्नलिखित में से उस विकल्प का चयन करें जो ' जमीन आसमान एक करना ' मुहावरे का अर्थ व्यक्त करता है।

Ans
✗ 1. कम परिश्रम करना

✓ 2. बहुत अधिक परिश्रम करना

✗ 3. जमीन को आसमान तक ले जाना

✗ 4. जमीन और आसमान को मिलाना

Question ID : **9895803921**
Chosen Option : **2**

Q.19 निम्नलिखित में से उस विकल्प का चयन करें जो ' छाती पर मूँग दलना ' मुहावरे का अर्थ व्यक्त करता है।

Ans
✗ 1. छाती से मूँग पीसना

✗ 2. दली हुई मूँग को छाती पर रखना

✗ 3. सुख देना

✓ 4. दुख देना

Question ID : **9895803920**

Career Aglasem

Chosen Option : **4**

Q.20 दिये गये वाक्यांश के लिए एक शब्द दीजिये।

जो मास में एक बार होता हो

Ans
1. पाक्षिक ✗
2. मासिक ✓
3. वार्षिक ✗
4. साप्ताहिक ✗

Question ID : **9895803923**
Chosen Option : **1**

Q.21 दिये गये वाक्यांश के लिए एक शब्द दीजिये।

जो कुछ न जानता हो

Ans
1. अज्ञ ✓
2. मर्मज्ञ ✗
3. अल्पज्ञ ✗
4. सर्वज्ञ ✗

Question ID : **9895803922**
Chosen Option : **3**

Q.22 दिए गए शब्द का विलोम चुनें।

स्थूल

Ans
1. सूक्ष्म ✓
2. अग्रज ✗
3. स्थिर ✗
4. अस्थिर ✗

Question ID : **9895803916**
Chosen Option : **1**

Q.23 दिए गए वाक्य का वह भाग ज्ञात करें जिसमें कोई त्रुटि है।

जिसके जैसी संस्कार होंगे वैसी ही उसकी भाषा होगी।

Ans
1. वैसी ही उसकी ✗
2. जिसके जैसी ✓
3. संस्कार होंगे ✗
4. भाषा होगी। ✗

Question ID : **9895803901**
Chosen Option : **4**

Career Aglasem

Q.24 सही वर्तनी वाले शब्द का चयन करें।

Ans
1. प्रियदर्शि
2. प्रियदरसी
3. प्रियदर्शी
4. प्रियदर्षी

Question ID : **9895803924**
Chosen Option : **4**

Q.25 दिए गए वाक्य में रेखांकित खंड को प्रतिस्थापित करने के लिए उपयुक्त विकल्प का चयन करें।

आदर्श बालक सुबह उठकर <u>अपनी माता-पिता को</u> प्रणाम करते हैं।

Ans
1. अपना माता-पिता को
2. उसके माता-पिता को
3. हमारे माता-पिता को
4. अपने माता-पिता को

Question ID : **9895803903**
Chosen Option : **4**

Career Aglasem