Constable (GD) in CAPFs, NIA, SSF and Rifleman (GD) in Assam Rifles Examination, 2018

Roll No. :	[redacted]
Registration No.	
Name :	
Exam Venue :	
Exam Time :	12:30 PM - 2:00 PM
Exam Date :	11/03/2019

Section : **General Section**

Q.1 छः व्यक्ति A, B, C, D, E तथा F दो पंक्तियों में, प्रत्येक पंक्ति में तीन बैठे हैं।

E किसी भी पंक्ति के अंत में नहीं है।
D, F के बाई ओर से दूसरे स्थान पर है।
C, E का पड़ोसी है तथा D से विकर्णतः बैठा है।
B, F का पड़ोसी है।

B के सामने कौन है?

Ans
✗ 1. A
✗ 2. C
✓ 3. E
✗ 4. D

Question ID : **9895809357**
Chosen Option : **1**

Q.2 दिए गए विकल्पों में से संबंधित शब्द युग्म का चयन करें।

होली : रंग :: _____ : _____

Ans
✗ 1. मुहर्रम : मुसलमान
✓ 2. दीवाली : प्रकाश
✗ 3. हेमिस : लोक
✗ 4. लोधी : पंजाबी

Question ID : **9895809351**
Chosen Option : **4**

Q.3 लुप्त पद ज्ञात करें।

119, 109, 89, 59, _____

Ans
✗ 1. 49

Nitro Software, Inc.
100 Portable Document Lane
Wonderland

Career Aglasem

Career Aglasem

✔ 2. 19
✘ 3. 29
✘ 4. 39

Question ID : **9895809362**
Chosen Option : **2**

Q.4 दिए गए विकल्पों में से लुप्त संख्या ज्ञात करें।

12	16	18
24	32	?
36	48	54

Ans
✘ 1. 64
✘ 2. 28
✔ 3. 36
✘ 4. 48

Question ID : **9895809365**
Chosen Option : **3**

Q.5 यदि '+' का अर्थ '–', '–' का अर्थ '×', '×' का अर्थ '÷' और '÷' का अर्थ '+', तो:

$43 - 2 \times 2 + 8 = ?$

Ans
✘ 1. 42
✔ 2. 35
✘ 3. 40
✘ 4. 25

Question ID : **9895809366**
Chosen Option : **2**

Q.6 चार शब्द दिए गए हैं, जिनमें से तीन किसी तरह से समान हैं, जबकि एक अलग है। असंगत शब्द का चयन करें।

Ans
✘ 1. दिसपुर
✘ 2. चेन्नई
✔ 3. झारखंड
✘ 4. मुंबई

Question ID : **9895809350**
Chosen Option : **3**

Q.7 प्रीति ने राहुल से अधिक अंक प्राप्त किए। यमुना ने दिव्या के बराबर अंक प्राप्त किए। लोकिता ने मंजू से कम अंक प्राप्त किए। राहुल ने यमुना से अधिक अंक प्राप्त किए। मंजू ने दिव्या से कम अंक प्राप्त किए। सबसे कम अंक किसने प्राप्त किए?

Ans
✘ 1. राहुल
✘ 2. मंजू

Nitro Software, Inc.
100 Portable Document Lane
Wonderland

Career Aglasem

✗ 3. यमुना

✓ 4. लोकिता

Question ID : **9895809358**
Chosen Option : **3**

Q.8 निम्नलिखित प्रश्न में दिए गए विकल्पों में से संबंधित संख्या का चयन करें।

47 : 15 :: ? : 19

Ans
✗ 1. 40

✗ 2. 36

✓ 3. 59

✗ 4. 57

Question ID : **9895809363**
Chosen Option : **3**

Q.9 चार विकल्प दिए गए हैं, जिनमें से तीन किसी तरह से समान हैं, जबकि एक अलग है। असंगत का चयन करें।

Ans
✗ 1. 54

✗ 2. 72

✗ 3. 135

✓ 4. 83

Question ID : **9895809364**
Chosen Option : **4**

Q.10 दिए गए विकल्पों में से संबंधित शब्द युग्म का चयन करें।

आंध्र प्रदेश : तेलुगु :: _____ : _____

Ans
✗ 1. त्रिपुरा : तेलुगु

✗ 2. असम : मैथिली

✗ 3. गोवा : हिंदी

✓ 4. केरल : मलयालम

Question ID : **9895809352**
Chosen Option : **4**

Q.11 नीचे दिए गए कथनों के बाद दो निष्कर्ष I और II दिए गए हैं। यह मानते हुए कि कथनों में दी गई जानकारी सत्य है, भले ही वह सर्वज्ञात तथ्यों से भिन्न प्रतीत होती हो और यह निर्णय करें कि कौन सा / से निष्कर्ष तार्किक और निश्चित रूप से कथन में दी गई जानकारी का अनुसरण करता है / करते हैं।

कथन:

कुछ आलू टमाटर हैं।

सभी टमाटर प्याज हैं।

निष्कर्ष:

I. कुछ टमाटर आलू हैं।

II. सभी प्याज आलू हैं।

Nitro Software, Inc.
100 Portable Document Lane
Wonderland

Ans

✗ 1. केवल निष्कर्ष II अनुसरण करता है।

✗ 2. निष्कर्ष I और II दोनों अनुसरण करते हैं।

✓ 3. केवल निष्कर्ष I अनुसरण करता है।

✗ 4. या तो निष्कर्ष I या II अनुसरण करता है।

Question ID : **9895809359**
Chosen Option : **3**

Q.12 उस विकल्प का चयन करें जो दी गई आकृति श्रृंखला को पूरा करता है।

प्रश्न आकृति

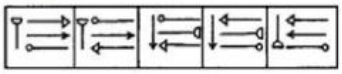

Ans

✓ 1. 

✗ 2. 

✗ 3. 

✗ 4. 

Question ID : **9895809367**
Chosen Option : **4**

Q.13 निम्नलिखित में से कौन सी उत्तर आकृति दी गई आकृति को पूरा करेगी?

प्रश्न आकृति:

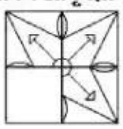

Ans

✗ 1. 

✓ 2. 

Career Aglasem

aglasem.com

Career Aglasem

✗ 3. 

✗ 4. 

Question ID : **9895809368**
Chosen Option : **3**

Q.14 निम्नलिखित प्रश्न में पारदर्शी शीट पर अंकित एक आकृति दी गई है और उसके बाद चार उत्तर आकृतियां दी गई हैं, इन चार विकल्पों में से एक आकृति से मिलता जुलता है, जो कि बिन्दुदार रेखा के साथ पारदर्शी शीट को मोड़कर प्राप्त किया जाता है। उस विकल्प का चयन करें।

प्रश्न आकृति:


Ans

✗ 1. 

✔ 2. 

✗ 3. 

✗ 4. 

Question ID : **9895809371**
Chosen Option : **2**

Q.15 उस विकल्प आकृति का चयन करें, जिसमें प्रश्न आकृति छिपी हुई/अंतर्निहित है।

प्रश्न आकृति:


Ans

✗ 1. 

✔ 2. 

✗ 3. 

✗ 4. 

Question ID : **9895809369**

Nitro Software, Inc.
100 Portable Document Lane
Wonderland

Chosen Option : **1**

Q.16 उस विकल्प का चयन करें जो दर्पण के दायीं ओर रखे जाने पर दि गई आकृति की दर्पण छवि से सर्वाधिक मेल खाता है।

प्रश्न आकृति:



Ans
1. 
2. 
3. 
4. 

Question ID : **9895809370**
Chosen Option : **1**

Q.17 एक निश्चित कूट भाषा में, GYM को 2275 रूप में कूटबद्ध किया जाता है। उस कोड में KIT कैसे कूटबद्ध किया जाता है?

Ans
1. 1950
2. 1970
3. 1960
4. 1980

Question ID : **9895809355**
Chosen Option : **1**

Q.18 उस विकल्प का चयन करें जो तीसरे पद से उसी तरह संबंधित है जिस प्रकार दूसरा पद पहले पद से संबंधित है।

AE : IM :: HL : ?

Ans
1. TP
2. DS
3. FU
4. PT

Question ID : **9895809353**
Chosen Option : **4**

Q.19 नीचे दिए गए आरेख में कौन सी संख्या सभी ज्यामितीय आकृतियों में सामान्य है?

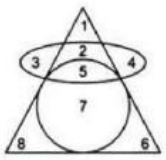

Ans
1. 7
2. 4
3. 5
4. 2

Nitro Software, Inc.
100 Portable Document Lane
Wonderland

Career Aglasem

Question ID : **9895809372**
Chosen Option : **3**

Q.20 उस विकल्प का चयन करें जो सही रूप में रिक्त स्थान की पूर्ति करते हुए श्रृंखला को पूरा करें।

AEI, EIO, IOU, ——

Ans
1. IOA
2. OAU
3. OUA
4. MIL

Question ID : **9895809348**
Chosen Option : **3**

Q.21 नीचे दिए गए कथनों के बाद दो निष्कर्ष I और II दिए गए हैं। यह मानते हुए कि कथनों में दी गई जानकारी सत्य है, भले ही वह सर्वज्ञात तथ्यों से भिन्न प्रतीत होती हो और यह निर्णय करें कि कौन सा / से निष्कर्ष तार्किक और निश्चित रूप से कथन में दी गई जानकारी का अनुसरण करता है / करते हैं।

कथन:
सभी फूल फल हैं।
सभी फल पौधे हैं।

निष्कर्ष:
I. सभी पौधे फूल हैं।
II. कुछ फल फूल हैं।

Ans
1. निष्कर्ष I और II दोनों अनुसरण करते हैं।
2. केवल निष्कर्ष I अनुसरण करता है।
3. या तो निष्कर्ष I या II अनुसरण करता है।
4. केवल निष्कर्ष II अनुसरण करता है।

Question ID : **9895809360**
Chosen Option : **3**

Q.22 उस विकल्प का चयन करें जो सही रूप में रिक्त स्थान की पूर्ति करते हुए श्रृंखला को पूरा करें।

43, 55, 79, 115, ——

Ans
1. 139
2. 163
3. 172
4. 127

Question ID : **9895809361**
Chosen Option : **2**

Q.23 एक हॉल में सात बच्चें (लड़कियाँ और लड़के दोनों) P, Q, R, S, T, U और V है। वे तीन बेंच I, II और III पर इस प्रकार बैठे हैं कि प्रत्येक बेंच पर कम से कम दो बच्चें बैठे हैं और कम से कम एक लड़की बैठी है। R जो कि एक लड़की है, P, T और S के साथ नहीं बैठती। एक लड़का U केवल Q के साथ बैठता है। P, बेंच I पर अपने घनिष्ठ मित्रों के साथ बैठता है। V, बेंच III पर बैठा/बैठी है। T, R का भाई है।

R के साथ कौन बैठा है?

Ans
1. S

Nitro Software, Inc.
100 Portable Document Lane
Wonderland

Career Aglasem

Career Aglasem

✗ 2. U

✓ 3. V

✗ 4. Q

Question ID : **9895809356**
Chosen Option : **3**

Q.24 एक निश्चित कूट भाषा में, EMTWX को XWTME के रूप में कूटबद्ध किया जाता है। उस कोड में PYSCI कैसे कूटबद्ध किया जाता है?

Ans
✗ 1. CISPY
✓ 2. ICSYP
✗ 3. CIPSY
✗ 4. CYSIP

Question ID : **9895809354**
Chosen Option : **2**

Q.25 चार अक्षर समूह दिए गए हैं, जिनमें से तीन किसी तरह से समान हैं, जबकि एक अलग है। असंगत अक्षर समूह का चयन करें।

Ans
✓ 1. DAT
✗ 2. GAT
✗ 3. EAV
✗ 4. WAD

Question ID : **9895809349**
Chosen Option : **2**

Q.26 2016 के ओलम्पिक खेलों में, महिलाओं की 100 मीटर दौड़ (स्प्रिंट) में स्वर्ण पदक किसने जीता था?

Ans
✗ 1. व्योमिया टायस
✗ 2. गेल डेवर्स
✓ 3. ऐलेन थॉम्पसन
✗ 4. शेलि-एन फ्रेजर-प्राइसे

Question ID : **9895809526**
Chosen Option : **2**

Q.27 स्वतंत्र भारत में सर्वप्रथम भारतरत्न पुरस्कार किसे दिया गया?

Ans
✗ 1. जवाहरलाल नेहरु
✗ 2. सरदार पटेल
✓ 3. सी. वी. रमन
✗ 4. सी.एन.आर.राव

Question ID : **9895809529**
Chosen Option : **1**

Q.2

Nitro Software, Inc.
100 Portable Document Lane
Wonderland

Career Aglasem

8 गुजराती के लिए साहित्य अकदमी पुरस्कार 2017 के विजेता हैं:

Ans
✔ 1. उर्मी देसाई
✘ 2. हिंमांशु पटेल
✘ 3. रमेश मेघ
✘ 4. डेविड शाह

Question ID : **9895809528**
Chosen Option : **3**

Q.29 कुलिक पक्षी अभ्यारण्य कहाँ स्थित है?

Ans
✘ 1. केरल
✔ 2. पश्चिम बंगाल
✘ 3. मध्य प्रदेश
✘ 4. उत्तर प्रदेश

Question ID : **9895809525**
Chosen Option : **1**

Q.30 'रणप्पा' नृत्य कला का संबंध किस राज्य से है?

Ans
✔ 1. ओडिशा
✘ 2. केरल
✘ 3. पंजाब
✘ 4. तमिलनाडु

Question ID : **9895809523**
Chosen Option : **3**

Q.31 मानव लिंग गुणसूत्र बच्चे का लिंग निर्धारण करते हैं, जहाँ XX का परिणाम है:

Ans
✘ 1. लड़की या लड़का हो सकता है
✘ 2. लड़का
✘ 3. ट्रांसजेंडर
✔ 4. लड़की

Question ID : **9895809540**
Chosen Option : **1**

Q.32 यथा फरवरी 2019 को भारत में ग्रामीण विकास मंत्री निम्नलिखित में से कौन हैं?

Ans
✘ 1. अनंत गीते
✘ 2. धर्मेंद्र प्रधान
✘ 3. संतोष कुमार गंगवार
✔ 4. नरेंद्र सिंह तोमर

Nitro Software, Inc.
100 Portable Document Lane
Wonderland

Career Aglasem

Question ID : **9895809535**
Chosen Option : **2**

Q.33 लोकतंत्र को तानाशाही से बेहतर माना जाता है क्योंकि यह:

Ans
✔ 1. लोगों की गरिमा बढ़ाता है।
✘ 2. गलतियों के लिए विशेष प्रावधान की अनुमति देता है।
✘ 3. नागरिकों में समानता कम करता है।
✘ 4. लोगों के बीच संघर्ष को प्रोत्साहित करता है।

Question ID : **9895809534**
Chosen Option : **4**

Q.34 ऑस्ट्रेलियाई ओपन 2018 में, महिला एकल प्रतिस्पर्धा की विजेता कौन थीं?

Ans
✘ 1. सेरेना विलियम्स
✔ 2. कैरोलिन वोज़नियेकी
✘ 3. वीनस विलियम्स
✘ 4. मार्टिना हिंगिस

Question ID : **9895809527**
Chosen Option : **2**

Q.35 _____ सरकार की प्रणाली विधायिका को दो अलग-अलग विधानसभाओं, मंडलों या सदनों में विभाजित करती है।

Ans
✔ 1. द्विसदनीय
✘ 2. एक सदनीय
✘ 3. त्रिसदनीय
✘ 4. चार सदनीय

Question ID : **9895809536**
Chosen Option : **3**

Q.36 भारत का दक्षिणतम बंदरगाह किस राज्य में स्थित है?

Ans
✘ 1. तेलंगाना
✔ 2. तमिलनाडु
✘ 3. केरल
✘ 4. आंध्र प्रदेश

Question ID : **9895809542**
Chosen Option : **2**

Q.37 सुगम कर _____ से संबंधित है।

Ans
✘ 1. वाणिज्यिक कर
✔ 2. आयकर

Nitro Software, Inc.
100 Portable Document Lane
Wonderland

✗ 3. सीमा शुल्क

✗ 4. उत्पाद शुल्क

Question ID : **9895809531**
Chosen Option : **3**

Q.38 विद्युत् परिपथ में विभवान्तर मापने के लिए प्रयुक्त मापक _____ कहलाता है।

Ans
✗ 1. जाइरोस्कोप

✗ 2. थर्मामीटर

✗ 3. ओममीटर

✓ 4. वोल्टमीटर

Question ID : **9895809541**
Chosen Option : **2**

Q.39 भारत के पहले प्रधानमंत्री जिनकी हत्या की गई थी, हैं:

Ans
✗ 1. जवाहरलाल नेहरु

✓ 2. इंदिरा गाँधी

✗ 3. मोरारजी देसाई

✗ 4. लाल बहादुर शास्त्री

Question ID : **9895809530**
Chosen Option : **1**

Q.40 हरे शैवालों के हरित होने का कारण है:

Ans
✗ 1. फय्कोएरित्रीन

✓ 2. क्लोरोफिल

✗ 3. फय्कोबिलिन

✗ 4. क्सान्थोप्ल्याय्ल्युस

Question ID : **9895809537**
Chosen Option : **4**

Q.41 निम्नलिखित में से कौन ओजोन को नष्ट करता है?

Ans
✗ 1. कार्बन

✗ 2. सिलिकॉन

✓ 3. क्लोरीन

✗ 4. गंधक

Question ID : **9895809538**
Chosen Option : **1**

Q.42 अनुचित व्यापार प्रथाओं और शोषण के खिलाफ उपभोक्ताओं को [illegible] का अधिकार है।

Nitro Software, Inc.
100 Portable Document Lane
Wonderland

Ans
✗ 1. चोट
✗ 2. दंड
✗ 3. सहानुभूति
✓ 4. निवारण

Question ID : **9895809532**
Chosen Option : **4**

Q.43 मुगल साम्राज्य के दौरान जजिया कर किस पर लगाया गया था?

Ans
✗ 1. मुस्लिम नागरिकों पर
✗ 2. कुलीन नागरिकों पर
✓ 3. गैर-मुस्लिम नागरिकों पर
✗ 4. सभी नागरिकों पर

Question ID : **9895809533**
Chosen Option : **4**

Q.44 स्वाद में कड़वे खाद्य पदार्थों की प्रकृति _____ होती है।

Ans
✓ 1. क्षारकीय
✗ 2. अम्लीय
✗ 3. क्षारीय
✗ 4. उदासीन

Question ID : **9895809539**
Chosen Option : **1**

Q.45 कोई सत्याग्रही अहिंसा द्वारा विजय प्राप्त कर सकता है:

Ans
✗ 1. अत्याचारियों की करुणा को प्रभावित करते हुए
✓ 2. अत्याचारियों की अन्तरात्मा को प्रभावित करते हुए
✗ 3. अत्याचारियों के नेतृत्व को प्रभावित करते हुए
✗ 4. अत्याचारियों के सहयोगियों को प्रभावित करते हुए

Question ID : **9895809546**
Chosen Option : **2**

Q.46 डुम्हाल किस राज्य की नृत्य शैली है?

Ans
✗ 1. केरल
✗ 2. गुजरात
✓ 3. जम्मू एवं कश्मीर

Nitro Software, Inc.
100 Portable Document Lane
Wonderland

Career Aglasem

✗ 4. पश्चिम बंगाल

Question ID : **9895809524**
Chosen Option : **3**

Q.47 हम जिन वस्तुओं का उपयोग या उपभोग करते हैं, _____ को छोड़कर वे सभी पृथ्वी पर उपलब्ध संसाधनों से प्राप्त किए जाते हैं।

Ans
✗ 1. पवन से प्राप्त ऊर्जा
✓ 2. सूर्य से प्राप्त ऊर्जा
✗ 3. घर्षण से प्राप्त ऊर्जा
✗ 4. जल से प्राप्त ऊर्जा

Question ID : **9895809544**
Chosen Option : **4**

Q.48 सिन्धु घाटी सभ्यता के दो प्राचीन नगर हड़प्पा और _____ खुदाई करने पर सामने आए।

Ans
✗ 1. सूरत
✓ 2. मोहन-जोदड़ो
✗ 3. हस्तिनापुर
✗ 4. वाराणसी

Question ID : **9895809547**
Chosen Option : **1**

Q.49 प्रथम विश्वयुद्ध (1914-1918) के दौरान:

Ans
✗ 1. कीमतें कम हुई थीं।
✓ 2. कीमतें लगभग दोगुनी हो गई थीं।
✗ 3. कीमतें अपरिवर्तित रहीं।
✗ 4. कीमतों में 10% से कम वृद्धि हुई थी।

Question ID : **9895809545**
Chosen Option : **2**

Q.50 जैवनिम्नीकरणीय मने जाने वाले पदार्थ:

Ans
✗ 1. किसी भी प्रकार निम्नीकृत नहीं किए जा सकते।
✗ 2. रासायनिक प्रक्रिया से निम्नीकृत किए जा सकते हैं।
✗ 3. भौतिक प्रक्रिया से निम्नीकृत किए जा सकते हैं।
✓ 4. जैविक प्रक्रिया से निम्नीकृत किये जा सकते हैं।

Question ID : **9895809543**
Chosen Option : **3**

Q.51

Career Aglasem

पाई चार्ट 2017 और 2018 में डिटर्जेंट बाजार में कंपनियों की बाजार हिस्सेदारी दिखाता है। बाजार की कुल कीमत ₹ 300 करोड़ से घटकर ₹ 200 करोड़ हो गई है। कंपनी F की बिक्री में कितनी कमी आई है?



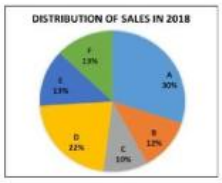

Ans
✗ 1. $12\frac{1}{3}\%$

✓ 2. $13\frac{1}{3}\%$

✗ 3. $14\frac{1}{3}\%$

✗ 4. $33\frac{1}{3}\%$

Question ID : **9895809722**
Chosen Option : **1**

Q.52 ₹ 700 में एक कपड़े का टुकड़ा खरीदा गया था। ₹ 20 के एक टेलरिंग चार्ज के बाद 12.5% का लाभ प्राप्त करने के लिए इसे किस मूल्य पर बेचा जाना चाहिए?

Ans
✗ 1. ₹ 840

✓ 2. ₹ 810

✗ 3. ₹ 785

✗ 4. ₹ 760

Question ID : **9895809707**
Chosen Option : **2**

Q.53 मान ज्ञात करें:

$(7 \times 6 + 5 - 15) \div 4 + 6 \div 3 - 4 + 18 \div 3$

Ans
✗ 1. 18

✓ 2. 12

✗ 3. 16

✗ 4. 14

Question ID : **9895809701**
Chosen Option : **3**

Q.54 4 cm त्रिज्या वाले एक ठोस धातु के गोले को पिघलाया जाता है और '4' बराबर घन में पुनर्गठित किया जाता है। घन की भुजा है:

Ans
✓ 1. $4\sqrt[3]{\frac{\pi}{3}}$ cm

✗ 2. $7\sqrt[3]{\frac{\pi}{3}}$ cm

✗ 3. $6\sqrt[3]{\frac{\pi}{3}}$ cm

Nitro Software, Inc.
100 Portable Document Lane
Wonderland

Career Aglasem

Career Aglasem

✗ 4. $5\sqrt[3]{\frac{\pi}{3}}$ cm

Question ID : **9895809713**
Chosen Option : **3**

Q.55 यदि विक्रय मूल्य तीन गुना हो जाता है, तो लाभ 5 गुना हो जाता है। लाभ प्रतिशत क्या है?

Ans
✗ 1. 150%
✓ 2. 100%
✗ 3. 200%
✗ 4. 50%

Question ID : **9895809708**
Chosen Option : **4**

Q.56 x का मान क्या है, यदि 21, 26, 49 और x का माध्य 32 है?

Ans
✗ 1. 36
✗ 2. 30
✓ 3. 32
✗ 4. 34

Question ID : **9895809704**
Chosen Option : **4**

Q.57 एक राशि पर 5 वर्षों में 9% प्रति वर्ष की दर से ₹ 1,350 कुल साधारण ब्याज प्राप्त हुआ। राशि क्या है?

Ans
✓ 1. ₹ 3,000
✗ 2. ₹ 3,300
✗ 3. ₹ 2,000
✗ 4. ₹ 2,500

Question ID : **9895809712**
Chosen Option : **2**

Q.58 ₹ 1,000, की एक राशि 2 वर्षों में चक्रवृद्धि ब्याज की दर से ₹ 1,144.90 हो जाती है, जबकि ब्याज वार्षिक संयोजित है। ब्याज दर है:

Ans
✓ 1. 7%
✗ 2. 5%
✗ 3. 6%
✗ 4. 8%

Question ID : **9895809702**
Chosen Option : **--**

Q.59 4 : 5 : 8 का व्युत्क्रम अनुपात क्या है?

Ans
✗ 1. 8 : 5 : 4
✓ 2. 10 : 8 : 5
✗ 3. 3 : 4 : 5

Nitro Software, Inc.
100 Portable Document Lane
Wonderland

Career Aglasem

✗ 4. 5 : 4 : 3

Question ID : **9895809711**
Chosen Option : **2**

Q.60 मान ज्ञात करें:

$(11+4)-9\times 1\div 4$ का 3

Ans
✗ 1. 5
✗ 2. $\frac{75}{4}$
✗ 3. 3
✓ 4. $\frac{57}{4}$

Question ID : **9895809700**
Chosen Option : **2**

Q.61 एक ठोस गोले का आयतन 4851 m^3 है। गोले का पृष्ठीय क्षेत्रफल कितना है? ($\pi=\frac{22}{7}$ लीजिए)

Ans
✓ 1. 1386 m^2
✗ 2. 1364 m^2
✗ 3. 1260 m^2
✗ 4. 1408 m^2

Question ID : **9895809715**
Chosen Option : **1**

Q.62 एक किराने की दुकान में लगातार 4 दिनों में ₹ 3,425, ₹ 3,810, ₹ 3,155 और ₹ 3,610 की बिक्री होती है। ₹ 3,500 की औसत बिक्री प्राप्त करने के लिए 5 वें दिन में उसकी कितनी बिक्री होनी चाहिए?

Ans
✓ 1. ₹ 3,500
✗ 2. ₹ 3,455
✗ 3. ₹ 3,480
✗ 4. ₹ 3,435

Question ID : **9895809698**
Chosen Option : **3**

Q.63 यदि a, c के 20% के बराबर है, और b, c के 40% के बराबर है, तो निम्नलिखित में से कौन सा b का 150% है?

Ans
✗ 1. a का 250%
✗ 2. c का 65%
✗ 3. c का 65%
✓ 4. a का 300%

Question ID : **9895809706**
Chosen Option : **2**

Q.64

Career Aglasem

बार ग्राफ जनवरी से जून तक प्रत्येक महीने में एक वितरक द्वारा बेची गई साइकिल की संख्या को दर्शाता है। मार्च की तुलना में अप्रैल में बिकने वाले साइकिलों की संख्या में कितनी वृद्धि हुई है?

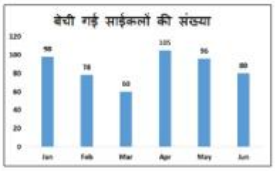

Ans
✔ 1. 75%
✘ 2. 78%
✘ 3. 68%
✘ 4. 70%

Question ID : **9895809721**
Chosen Option : **2**

Q.65 लाइन ग्राफ लगातार 6 मैचों में एक बल्लेबाज के स्कोर को दर्शाता है। 6 मैचों में उनकी बैटिंग औसत क्या है?



Ans
✘ 1. 37.19
✔ 2. 39.17
✘ 3. 38.17
✘ 4. 38.33

Question ID : **9895809720**
Chosen Option : **1**

Q.66 यदि 15 सेब की कीमत 6 स्ट्रॉबेरी, 2 स्ट्रॉबेरी की कीमत 16 केले, 6 केले की कीमत 15 आलू जितनी है, तो एक सेब की लागत ₹ 20 होने पर 1 आलू की कीमत क्या है?

Ans
✘ 1. ₹ 2.25
✔ 2. ₹ 2.50
✘ 3. ₹ 25
✘ 4. ₹ 22.50

Question ID : **9895809709**
Chosen Option : **4**

Q.67 एक आयत के परिमाप और चौड़ाई के बीच का अनुपात 3 : 1 है। यदि आयत का क्षेत्रफल 310 sq. cm है, तो आयत की लंबाई लगभग है:

Ans
✘ 1. 10.45 cm
✘ 2. 11.45 cm

Nitro Software, Inc.
100 Portable Document Lane
Wonderland

Career Aglasem

✔ 3. 12.45 cm

✘ 4. 13.45 cm

Question ID : **9895809714**
Chosen Option : --

Q.68 एक वस्तु की सूची मूल्य ₹ 80 है। एक ग्राहक इसके लिए ₹ 30 का भुगतान करता है। उसे लगातार 2 छूट दी गई, जिसमें से एक 50% थी। अन्य छूट क्या थी?

Ans
✘ 1. 12.50%

✘ 2. 20%

✘ 3. 30%

✔ 4. 25%

Question ID : **9895809703**
Chosen Option : **1**

Q.69 P, Q से दुगुनी तेज़ी से कार्य करता है। यदि Q, 36 दिनों में स्वतंत्र रूप से उसी कार्य को पूरा कर सकता है, तो P और Q मिलकर कितने दिनों में उसी कार्य को पूरा कर सकते हैं?

Ans
✘ 1. 18 दिन

✘ 2. 9 दिन

✔ 3. 12 दिन

✘ 4. 16 दिन

Question ID : **9895809716**
Chosen Option : **1**

Q.70 उस पुल की लंबाई, जिसे एक 400 मीटर लंबी ट्रेन, 60 km/hr की गति से चलकर 36 सेकंड में पार करती है निम्न है:

Ans
✘ 1. 450 m

✘ 2. 250 m

✔ 3. 200 m

✘ 4. 500 m

Question ID : **9895809719**
Chosen Option : **1**

Q.71 X, Y और Z एक काम क्रमशः 8, 20 और 25 दिनों में पूरा कर सकते हैं। एक साथ काम करके, वे उसी काम को कितने दिनों में पूरा करेंगे?

Ans
✘ 1. $\frac{162}{43}$ दिन

✘ 2. $\frac{172}{43}$ दिन

✘ 3. $\frac{180}{43}$ दिन

✔ 4. $\frac{200}{43}$ दिन

Question ID : **9895809717**
Chosen Option : --

Q.72 4, 5 और 6 द्वारा विभाजित सबसे छोटी 3 अंकीय संख्या क्या है?

Nitro Software, Inc.
100 Portable Document Lane
Wonderland

Ans
✗ 1. 990
✗ 2. 930
✓ 3. 960
✗ 4. 900

Question ID : **9895809705**
Chosen Option : **3**

Q.73 दो संख्याएँ A तथा B तीसरी संख्या C से क्रमशः 80% और 50% अधिक हैं। A तथा B का अनुपात क्या है?

Ans
✗ 1. 8 : 5
✗ 2. 5 : 8
✗ 3. 5 : 6
✓ 4. 6 : 5

Question ID : **9895809710**
Chosen Option : **4**

Q.74 एक कार मालिक लगातार 3 वर्षों तक क्रमशः ₹ 40, ₹ 50 और ₹ 60 प्रति लीटर पर पेट्रोल खरीदता है। यदि वह प्रत्येक वर्ष ₹ 30,000 खर्च करता है, तो पेट्रोल की प्रति लीटर की औसत लागत क्या है? (दशमलव के दो स्थानों तक सही)

Ans
✗ 1. ₹ 49.20
✗ 2. ₹ 51.20
✓ 3. ₹ 48.65
✗ 4. ₹ 50

Question ID : **9895809699**
Chosen Option : **2**

Q.75 एक ट्रेन 42 सेकंड में एक प्लेटफॉर्म को पार करती है और प्लेटफॉर्म पर खड़े एक व्यक्ति को 25 सेकंड में पार करती है। यदि ट्रेन की गति 72 km/hr है, तो प्लेटफ़ॉर्म की लंबाई क्या है?

Ans
✗ 1. 370 m
✗ 2. 270 m
✓ 3. 340 m
✗ 4. 300 m

Question ID : **9895809718**
Chosen Option : **2**

Section : **English Language**

Q.1 Select the most appropriate word to fill in the blank.

The authorities have _____ into this incident.

Ans
✓ 1. tested
✗ 2. evaluated
✗ 3. examined
✗ 4. probed

Question ID : **9895809902**
Chosen Option : **--**

Q.2

Nitro Software, Inc.
100 Portable Document Lane
Wonderland

Career Aglasem

Career Aglasem

Select the most appropriate word to fill in the blank.

Unlike the calm waters of lakes, ocean water keeps moving _____.

Ans
✔ 1. continuously
✘ 2. continuous
✘ 3. continuing
✘ 4. continue

Question ID : **9895809884**
Chosen Option : --

Q.3 Select the most appropriate option to substitute the underlined segment in the given sentence. If there is no need to substitute it, select No substitution required.

The food is broke down into useful substances that can be absorbed by the body.

Ans
✔ 1. break down
✘ 2. No substitution required
✘ 3. is broken down
✘ 4. is breaking down

Question ID : **9895809882**
Chosen Option : --

Q.4 Select the most appropriate word to fill in the blank.

India gets a large number of medical tourists and visitors _____ many countries.

Ans
✘ 1. from
✘ 2. through
✘ 3. by
✔ 4. across

Question ID : **9895809885**
Chosen Option : --

Q.5 Select the wrongly spelt word.

Ans
✘ 1. Apparent
✘ 2. Conscience
✔ 3. Irresistable
✘ 4. Believe

Question ID : **9895809901**
Chosen Option : --

Q.6 Select the most appropriate option to substitute the underlined segment in the given sentence. If there is no need to substitute it, select No substitution required.

Yesterday, Maria was eagerly waited to meet her grandparents.

Ans
✘ 1. No substitution required
✘ 2. eagerly wait
✘ 3. was eagerly waited

Nitro Software, Inc.
100 Portable Document Lane
Wonderland

Career Aglasem

✔ 4. was eagerly waiting

Question ID : **9895809881**
Chosen Option : --

Q.7 Select the word which means the same as the group of words given.

Intentionally starting a fire to damage something

Ans
✘ 1. Loot
✘ 2. Extinguish
✘ 3. Crime
✔ 4. Arson

Question ID : **9895809898**
Chosen Option : --

Q.8 Select the meaning of the given idiom.

Under the gun

Ans
✘ 1. To be cruel
✘ 2. To be killed
✘ 3. To be under pressure
✔ 4. To be brave

Question ID : **9895809897**
Chosen Option : --

Q.9 Select the synonym of the given word.

GRATIFICATION

Ans
✘ 1. Complaint
✘ 2. Annoyance
✘ 3. Dissatisfaction
✔ 4. Satisfaction

Question ID : **9895809892**
Chosen Option : --

Q.10 Select the word which means the same as the group of words given.

A person employed to drive a private or hired car

Ans
✘ 1. Sailor
✔ 2. Pilot
✘ 3. Astronaut
✘ 4. Chauffeur

Question ID : **9895809899**
Chosen Option : --

Q.11 Identify the segment in the sentence which contains the grammatical error from the given options.

Continuous heavy rainfall may farther worsen the flood situation.

Nitro Software, Inc.
100 Portable Document Lane
Wonderland

Career Aglasem

Ans
1. rainfall may
2. Continuous
3. flood situation
4. farther

Question ID : **9895809879**
Chosen Option : --

Q.12 Select the synonym of the given word.

COMPASSION

Ans
1. Heartlessness
2. Cruelty
3. Indifference
4. Pity

Question ID : **9895809893**
Chosen Option : --

Q.13 Select the meaning of the given idiom.

Bite off more than one can chew

Ans
1. To attack fiercely
2. To have an upset stomach
3. To take more than one can deal with
4. To be always hungry

Question ID : **9895809896**
Chosen Option : --

Q.14 Identify the segment in the sentence which contains the grammatical error from the given options.

The earthy fragrance of soil after a first rain is always refreshing.

Ans
1. The earthy
2. fragrance of
3. a first rain
4. always refreshing

Question ID : **9895809880**
Chosen Option : --

Comprehension:

In the following passage some words have been deleted. Fill in the blanks with the help of the alternatives given. Select the most appropriate option for each number.

Settlements are (1) _____ where people build their homes. (2) _____ human beings lived on trees and (3) _____ caves. When they started (4) _____ crops it became (5) _____ to have a permanent home.

SubQuestion No : 15

Nitro Software, Inc.
100 Portable Document Lane
Wonderland

Q.15 Select the most appropriate option that will fill in the blank number 1

Ans
1. passages
2. sections
3. quarters
4. places

Question ID : **9895809887**
Chosen Option : --

Comprehension:

In the following passage some words have been deleted. Fill in the blanks with the help of the alternatives given. Select the most appropriate option for each number.

Settlements are (1) _____ where people build their homes. (2) _____ human beings lived on trees and (3) _____ caves. When they started (4) _____ crops it became (5) _____ to have a permanent home.

SubQuestion No : 16

Q.16 Select the most appropriate option that will fill in the blank number 2

Ans
1. Initial
2. Early
3. Previous
4. Prior

Question ID : **9895809888**
Chosen Option : --

Comprehension:

In the following passage some words have been deleted. Fill in the blanks with the help of the alternatives given. Select the most appropriate option for each number.

Settlements are (1) _____ where people build their homes. (2) _____ human beings lived on trees and (3) _____ caves. When they started (4) _____ crops it became (5) _____ to have a permanent home.

SubQuestion No : 17

Q.17 Select the most appropriate option that will fill in the blank number 3

Ans
1. around
2. at
3. in
4. on

Question ID : **9895809889**
Chosen Option : --

Comprehension:

Nitro Software, Inc.
100 Portable Document Lane
Wonderland

Career Aglasem

Career Aglasem

In the following passage some words have been deleted. Fill in the blanks with the help of the alternatives given. Select the most appropriate option for each number.

Settlements are (1) _____ where people build their homes. (2) _____ human beings lived on trees and (3) _____ caves. When they started (4) _____ crops it became (5) _____ to have a permanent home.

SubQuestion No : 18

Q.18 Select the most appropriate option that will fill in the blank number 4

Ans
✔ 1. grows
✗ 2. grown
✗ 3. grow
✗ 4. growing

Question ID : **9895809890**
Chosen Option : --

Comprehension:

In the following passage some words have been deleted. Fill in the blanks with the help of the alternatives given. Select the most appropriate option for each number.

Settlements are (1) _____ where people build their homes. (2) _____ human beings lived on trees and (3) _____ caves. When they started (4) _____ crops it became (5) _____ to have a permanent home.

SubQuestion No : 19

Q.19 Select the most appropriate option that will fill in the blank number 5

Ans
✗ 1. necessary
✗ 2. requirement
✗ 3. required
✔ 4. needed

Question ID : **9895809891**
Chosen Option : --

Q.20 Select the antonym of the given word.

AGONY

Ans
✗ 1. Suffering
✗ 2. Pain
✔ 3. Pleasure
✗ 4. Affliction

Question ID : **9895809894**
Chosen Option : --

Q.21 Select the most appropriate word to fill in the blank.

After reaching New York, Prakash will have to _____ himself to the new surroundings.

Nitro Software, Inc.
100 Portable Document Lane
Wonderland

Ans
✗ 1. submit
✗ 2. mix
✗ 3. develop
✓ 4. adapt

Question ID : **9895809903**
Chosen Option : --

Q.22 Select the most appropriate option to substitute the underlined segment in the given sentence. If there is no need to substitute it, select No substitution required.

In vigorous exercise, the demand for bodily energy is very high.

Ans
✗ 1. No substitution required
✓ 2. In vigorously exercise
✗ 3. While vigorous exercise
✗ 4. During vigorous exercise

Question ID : **9895809883**
Chosen Option : --

Q.23 Select the antonym of the given word.

AGREEMENT

Ans
✓ 1. Discord
✗ 2. Accord
✗ 3. Harmony
✗ 4. Consensus

Question ID : **9895809895**
Chosen Option : --

Q.24 Identify the segment in the sentence which contains the grammatical error from the given options.

Thunderstorms develop in hot, humid tropical areas like India much to frequently.

Ans
✗ 1. much to
✗ 2. frequently
✓ 3. Thunderstorms develop
✗ 4. tropical areas

Question ID : **9895809878**
Chosen Option : --

Q.25 Select the wrongly spelt word.

Ans
✗ 1. license
✓ 2. Independant
✗ 3. leisure
✗ 4. Judgment

Question ID : **9895809900**

Nitro Software, Inc.
100 Portable Document Lane
Wonderland

Career Aglasem

Chosen Option : --

Section : **Hindi Language**

Q.1 दिए गए वाक्य में रेखांकित खंड को प्रतिस्थापित करने के लिए उपयुक्त विकल्प का चयन करें।

कुछ लोग मुहूर्त देख कर घर में प्रवेश करते हैं ।

Ans
✔ 1. गृहप्रवेश
✘ 2. गृहपति
✘ 3. गृहयज्ञ
✘ 4. गृहागत

Question ID : **98958010013**
Chosen Option : **2**

Q.2 'अनुचित बात के लिए आग्रह' के लिए एक शब्द है-

Ans
✘ 1. कठोर
✘ 2. आग्रह
✔ 3. दुराग्रह
✘ 4. दुर्जन

Question ID : **98958010030**
Chosen Option : **2**

Q.3 'अनुवाद' का पर्यायवाची शब्द है -

Ans
✘ 1. प्रतिलिपि
✔ 2. भाषान्तर
✘ 3. विवाद
✘ 4. अनुकृति

Question ID : **98958010027**
Chosen Option : **3**

Q.4 दिए गए वाक्य का वह भाग ज्ञात करें जिसमें कोई त्रुटि है।

जिस नगर में एक सेठ रहता था, उसी नगर में अनेकों गरीब किसान भी रहते थे।

Ans
✘ 1. जिस नगर में
✘ 2. एक सेठ रहता था,
✔ 3. अनेकों गरीब किसान भी रहते थे।
✘ 4. उसी नगर में

Question ID : **98958010008**
Chosen Option : **3**

Q.5

Nitro Software, Inc.
100 Portable Document Lane
Wonderland

Career Aglasem

दिए गए वाक्य में रेखांकित खंड को प्रतिस्थापित करने के लिए उपयुक्त विकल्प का चयन करें।

वेदान्ती लोग जगत को <u>मिथ्या</u> समझते हैं।

Ans
✔ 1. असत्य
✘ 2. सत्य
✘ 3. भंगुर
✘ 4. अस्थिर

Question ID : **98958010011**
Chosen Option : **1**

Comprehension:

निम्नलिखित गद्यांश के रिक्त स्थानों की पूर्ति गद्यांश के नीचे दिए गए प्रश्नों के अनुसार कीजिए-

आप लोगों ने कभी शुद्ध हृदय से इस पर विचार किया है कि माता, मातृभूमि और _____ (1) का आप पर कुछ ऋण भी है या नहीं? एक जननी आपको जन्म देती है, एक की गोद में खेल-कूदकर और खा-पीकर आप पुष्ट होते हैं और एक आपको अपने भावों को प्रकट करने की _____ (2) दे, आपके सांसारिक जीवन को सुखमय बनाती है। जिसका आप पर इतना उपकार है, उसके लिए कुछ करना क्या आपका परम कर्तव्य नहीं है? प्यारे भाइयो! उठो आलस्य छोड़ो, कमर कसो और अपनी मातृभाषा की सेवा में तत्पर हो जाओ, अपने को _____ (3) से मुक्त करो। संसार में _____ (4) कहलाओ और मातृसेवकों में अपनी कीर्ति छोड़ जाओ। परंतु ध्यान रहे, यह व्रत साधारण नहीं है। इस व्रत का पालन करना _____ (5) की धार पर चलने के समान है।

SubQuestion No : 6

Q.6 गद्यांश में संकेतित रिक्त स्थान (1) के लिए उपयुक्त शब्द होगा।

Ans
✘ 1. राष्ट्रभाषा
✔ 2. मातृभाषा
✘ 3. राजभाषा
✘ 4. संचार भाषा

Question ID : **98958010019**
Chosen Option : **2**

Comprehension:

Career Aglasem

Career Aglasem

निम्नलिखित गद्यांश के रिक्त स्थानों की पूर्ति गद्यांश के नीचे दिए गए प्रश्नों के अनुसार कीजिए-

आप लोगों ने कभी शुद्ध हृदय से इस पर विचार किया है कि माता, मातृभूमि और _____ (1) का आप पर कुछ ऋण भी है या नहीं? एक जननी आपको जन्म देती है, एक की गोद में खेल-कूदकर और खा-पीकर आप पुष्ट होते हैं और एक आपको अपने भावों को प्रकट करने की _____ (2) दे, आपके सांसारिक जीवन को सुखमय बनाती है। जिसका आप पर इतना उपकार है, उसके लिए कुछ करना क्या आपका परम कर्तव्य नहीं है? प्यारे भाइयो! उठो आलस्य छोड़ो, कमर कसो और अपनी मातृभाषा की सेवा में तत्पर हो जाओ, अपने को _____ (3) से मुक्त करो। संसार में _____ (4) कहलाओ और मातृसेवकों में अपनी कीर्ति छोड़ जाओ। परंतु ध्यान रहे, यह व्रत साधारण नहीं है। इस व्रत का पालन करना _____ (5) की धार पर चलने के समान है।

SubQuestion No : 7

Q.7 गद्यांश में संकेतित रिक्त स्थान (2) के लिए उपयुक्त शब्द होगा।

Ans
✗ 1. रोक के
✓ 2. शक्ति
✗ 3. भक्ति
✗ 4. मुक्ति

Question ID : **98958010020**
Chosen Option : --

Comprehension:

निम्नलिखित गद्यांश के रिक्त स्थानों की पूर्ति गद्यांश के नीचे दिए गए प्रश्नों के अनुसार कीजिए-

आप लोगों ने कभी शुद्ध हृदय से इस पर विचार किया है कि माता, मातृभूमि और _____ (1) का आप पर कुछ ऋण भी है या नहीं? एक जननी आपको जन्म देती है, एक की गोद में खेल-कूदकर और खा-पीकर आप पुष्ट होते हैं और एक आपको अपने भावों को प्रकट करने की _____ (2) दे, आपके सांसारिक जीवन को सुखमय बनाती है। जिसका आप पर इतना उपकार है, उसके लिए कुछ करना क्या आपका परम कर्तव्य नहीं है? प्यारे भाइयो! उठो आलस्य छोड़ो, कमर कसो और अपनी मातृभाषा की सेवा में तत्पर हो जाओ, अपने को _____ (3) से मुक्त करो। संसार में _____ (4) कहलाओ और मातृसेवकों में अपनी कीर्ति छोड़ जाओ। परंतु ध्यान रहे, यह व्रत साधारण नहीं है। इस व्रत का पालन करना _____ (5) की धार पर चलने के समान है।

Nitro Software, Inc.
100 Portable Document Lane
Wonderland

Career Aglasem

SubQuestion No : 8

Q.8 गद्यांश में संकेतित रिक्त स्थान (3) के लिए उपयुक्त शब्द होगा।

Ans
✗ 1. पितृऋण
✗ 2. ईश्वरऋण
✗ 3. गुरूऋण
✓ 4. मातृऋण

Question ID : **98958010021**
Chosen Option : --

Comprehension:

निम्नलिखित गद्यांश के रिक्त स्थानों की पूर्ति गद्यांश के नीचे दिए गए प्रश्नों के अनुसार कीजिए-

आप लोगों ने कभी शुद्ध हृदय से इस पर विचार किया है कि माता, मातृभूमि और _____ (1) का आप पर कुछ ऋण भी है या नहीं? एक जननी आपको जन्म देती है, एक की गोद में खेल-कूदकर और खा-पीकर आप पुष्ट होते हैं और एक आपको अपने भावों को प्रकट करने की _____ (2) दे, आपके सांसारिक जीवन को सुखमय बनाती है। जिसका आप पर इतना उपकार है, उसके लिए कुछ करना क्या आपका परम कर्तव्य नहीं है? प्यारे भाइयो! उठो आलस्य छोड़ो, कमर कसो और अपनी मातृभाषा की सेवा में तत्पर हो जाओ, अपने को _____ (3) से मुक्त करो। संसार में _____ (4) कहलाओ और मातृसेवकों में अपनी कीर्ति छोड़ जाओ। परंतु ध्यान रहे, यह व्रत साधारण नहीं है। इस व्रत का पालन करना _____ (5) की धार पर चलने के समान है।

SubQuestion No : 9

Q.9 गद्यांश में संकेतित रिक्त स्थान (4) के लिए उपयुक्त शब्द होगा।

Ans
✗ 1. कपूर
✗ 2. शूरवीर
✓ 3. सपूत
✗ 4. कपूत

Question ID : **98958010022**
Chosen Option : --

Comprehension:

निम्नलिखित गद्यांश के रिक्त स्थानों की पूर्ति गद्यांश के नीचे दिए गए प्रश्नों के अनुसार कीजिए-

आप लोगों ने कभी शुद्ध हृदय से इस पर विचार किया है कि माता, मातृभूमि और _____ (1) का आप पर कुछ ऋण भी है या नहीं? एक जननी आपको जन्म देती है, एक की गोद में खेल-कूदकर और खा-पीकर आप पुष्ट होते हैं और एक आपको अपने भावों को प्रकट करने की _____ (2) दे, आपके सांसारिक जीवन को सुखमय बनाती है। जिसका आप पर इतना उपकार है, उसके लिए कुछ करना क्या आपका परम कर्तव्य नहीं है? प्यारे भाइयो! उठो आलस्य छोड़ो, कमर कसो और अपनी मातृभाषा की सेवा में तत्पर हो जाओ, अपने को _____ (3) से मुक्त करो। संसार में _____ (4) कहलाओ और मातृसेवकों में अपनी कीर्ति छोड़ जाओ। परंतु ध्यान रहे, यह व्रत साधारण नहीं है। इस व्रत का पालन करना _____ (5) की धार पर चलने के समान है।

SubQuestion No : 10

Q.10 गद्यांश में संकेतित रिक्त स्थान (5) के लिए उपयुक्त शब्द होगा।

Ans
✗ 1. चाकू
✗ 2. पानी
✓ 3. तलवार
✗ 4. हसियाँ

Question ID : **98958010023**
Chosen Option : **4**

Q.11 रिक्त स्थान को भरने के लिए उपयुक्त शब्द का चयन करें।

तुम मेरा अपमान मत करो मुझे स्वयं अपने कर्मों पर _____ हो रहा है।

Ans
✗ 1. प्रताप
✗ 2. तुष्टि
✓ 3. पश्चाताप
✗ 4. संतोष

Question ID : **98958010014**
Chosen Option : **2**

Q.12 'बद्ध' शब्द का विलोम शब्द है-

Ans
✗ 1. मोक्ष
✗ 2. बंधन
✓ 3. मुक्त
✗ 4. प्रतिबंध

Nitro Software, Inc.
100 Portable Document Lane
Wonderland

Career Aglasem

Question ID : **98958010024**
Chosen Option : **2**

Q.13 रिक्त स्थान को भरने के लिए उपयुक्त शब्द का चयन करें।

संक्षेपण में शब्दों के प्रयोग में _____ से काम लेना चाहिए।

Ans
✔ 1. संयम
✘ 2. क्रोध
✘ 3. तीव्रता
✘ 4. अविवेक

Question ID : **98958010015**
Chosen Option : **1**

Q.14 'प्रत्यक्ष' का विलोम शब्द है -

Ans
✘ 1. विहित
✔ 2. परोक्ष
✘ 3. निहित
✘ 4. अभाव

Question ID : **98958010025**
Chosen Option : **2**

Q.15 दिए गए वाक्य का वह भाग ज्ञात करें जिसमें कोई त्रुटि है।

शब्दावली को अधिक उपयोगी बनाने के लिए हर संभव प्रयास किया गए हैं।

Ans
✔ 1. हर संभव प्रयास किया गए हैं।
✘ 2. अधिक उपयोगी
✘ 3. शब्दावली को
✘ 4. बनाने के लिए

Question ID : **98958010009**
Chosen Option : **--**

Q.16 रिक्त स्थान को भरने के लिए उपयुक्त शब्द का चयन करें।

न मैं किसी की उपेक्षा करता हूँ, न किसी प्रकार की _____।

Ans
✘ 1. लालसा
✔ 2. अपेक्षा
✘ 3. आशंका
✘ 4. इच्छा

Question ID : **98958010016**
Chosen Option : **1**

Q.17

Nitro Software, Inc.
100 Portable Document Lane
Wonderland

Career Aglasem

Career Aglasem

7 'टका सा जवाब देना' मुहावरे का सही अर्थ है -

Ans
✗ 1. संकट में पड़ना
✗ 2. बुरा भला कहना
✓ 3. साफ इनकार करना
✗ 4. अति क्रुद्ध होना

Question ID : **98958010029**
Chosen Option : **1**

Q.18 रिक्त स्थान को भरने के लिए उपयुक्त शब्द का चयन करें।

युवकों को _____ बनाना शिक्षा का मुख्य उद्देश्य है।

Ans
✗ 1. भ्रांत
✗ 2. परावलम्बी
✓ 3. स्वावलम्बी
✗ 4. मतावलम्बी

Question ID : **98958010017**
Chosen Option : **3**

Q.19 'जो अभी तक न आया हो' के लिए एक शब्द प्रयुक्त होता है-

Ans
✗ 1. अजन्मा
✗ 2. अकिंचन
✗ 3. अनुजा
✓ 4. अनागत

Question ID : **98958010031**
Chosen Option : **3**

Q.20 'जहर का घूँट पीना' मुहावरे का सही अर्थ है -

Ans
✗ 1. खतरा उठाना
✗ 2. जोखिम में डाल देना
✓ 3. गुस्सा मन में दबा लेना
✗ 4. शर्मिंदा होना

Question ID : **98958010028**
Chosen Option : **2**

Q.21 दिए गए वाक्य का वह भाग ज्ञात करें जिसमें कोई त्रुटि है।

सुदर्शन को ज्यामिति का विषय में अनुत्तीर्ण घोषित किया गया।

Ans
✗ 1. अनुत्तीर्ण

Nitro Software, Inc.
100 Portable Document Lane
Wonderland

Career Aglasem

✔ 2. ज्यामिति का विषय में

✗ 3. घोषित किया गया।

✗ 4. सुदर्शन को

Question ID : **98958010010**
Chosen Option : **1**

Q.22 सही वर्तनी वाले शब्द का चयन करें।

Ans ✗ 1. अवसधी

✔ 2. औषधि

✗ 3. ओशधि

✗ 4. ओसधि

Question ID : **98958010033**
Chosen Option : **2**

Q.23 'सरस्वती' का पर्यावाची शब्द है।

Ans ✗ 1. ललना

✗ 2. कामिनी

✔ 3. वागीश्वरी

✗ 4. रमणी

Question ID : **98958010026**
Chosen Option : **3**

Q.24 सही वर्तनी वाले शब्द का चयन करें।

Ans ✗ 1. शब्दांस

✗ 2. सबदांश

✗ 3. सब्दांश

✔ 4. शब्दांश

Question ID : **98958010032**
Chosen Option : **4**

Q.25 दिए गए वाक्य में रेखांकित खंड को प्रतिस्थापित करने के लिए उपयुक्त विकल्प का चयन करें।

जीवन में <u>प्रफुल्लित</u> रहना सीखो।

Ans ✔ 1. हर्षित

✗ 2. उत्तेजित

✗ 3. परिमित

✗ 4. प्रतिबन्धित

Question ID : **98958010012**
Chosen Option : **1**

Nitro Software, Inc.
100 Portable Document Lane
Wonderland

Career Aglasem

aglasem.com

Nitro Software, Inc.
100 Portable Document Lane
Wonderland