aglasem.com

FOR SSC CGL EXAM PREPARATION

SSC CGL 2024 Question Paper · Tier 1 Exam All Shifts (in Hindi)

EXAM	YEAR	TYPE	SUBJECT
SSC CGL	2024	Question Paper	Tier 1 Exam All Shifts (in Hindi)

DATE

25 Sep

Combined Graduate Level Examination 2024 Tier I

Roll Number	
Candidate Name	
Venue Name	
Exam Date	25/09/2024
Exam Time	9:00 AM - 10:00 AM
Subject	Combined Graduate Level Examination Tier I

Section : **General Intelligence and Reasoning**

Q.1 दिए गए विकल्पों में से उस पद का चयन कीजिए जो दी गई श्रृंखला में प्रश्न चिह्न (?) के स्थान पर आ सकता है।
HM71, JP68, LS65, NV62, ?

Ans
✔ 1. PY59
✘ 2. QY57
✘ 3. QX58
✘ 4. RX59

Question ID : **630680416273**
Option 1 ID : **6306801623857**
Option 2 ID : **6306801623856**
Option 3 ID : **6306801623858**
Option 4 ID : **6306801623855**
Status : **Answered**
Chosen Option : **1**

Q.2 उस विकल्प आकृति का चयन कीजिए जिसमें दी गई आकृति (X) सन्निहित है (आकृति को घुमाने की अनुमति नहीं है)।

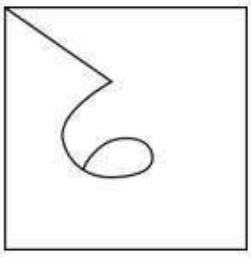

(X)

Ans

✔ 1.

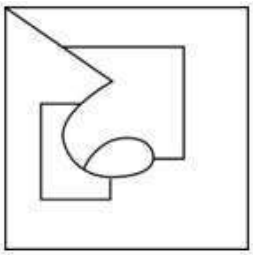

✘ 2.

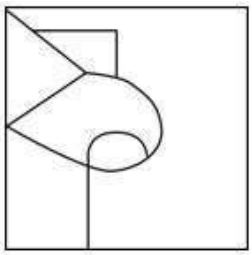

✘ 3.

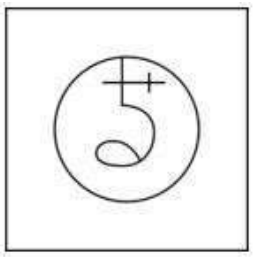

✘ 4.

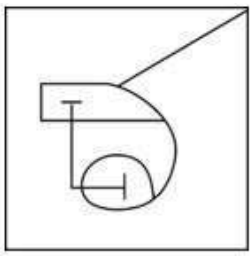

Question ID : **630680332540**
Option 1 ID : **6306801293600**
Option 2 ID : **6306801293598**
Option 3 ID : **6306801293597**
Option 4 ID : **6306801293599**
Status : **Answered**
Chosen Option : **1**

Q.3 यदि शब्द 'CORNFLAKES के प्रत्येक अक्षर को अंग्रेजी वर्णमाला के क्रम में बाएँ से दाएँ पुनर्व्यवस्थित किया जाए तो कितने अक्षरों की स्थिति परिवर्तित होगी?

Ans
✗ 1. नौ
✗ 2. सात
✓ 3. आठ
✗ 4. दस

Question ID : **630680106898**
Option 1 ID : **630680415165**
Option 2 ID : **630680415167**
Option 3 ID : **630680415166**
Option 4 ID : **630680415164**
Status : **Answered**
Chosen Option : **3**

Q.4 एक निश्चित कूट भाषा में, 'EAGLE' को 'DZFKD' के रूप में लिखा जाता है और 'DREAM' को 'CQDZL' के रूप में लिखा जाता है। उसी भाषा में 'SINCE' को किस प्रकार लिखा जाएगा?

Ans
✗ 1. TJODF
✗ 2. RJOBD
✗ 3. THMDF
✓ 4. RHMBD

Question ID : **630680172760**
Option 1 ID : **630680669442**
Option 2 ID : **630680669441**
Option 3 ID : **630680669440**
Option 4 ID : **630680669443**
Status : **Answered**
Chosen Option : **4**

Q.5 नीचे दर्शायी गयी आकृति में कितने वर्ग हैं?

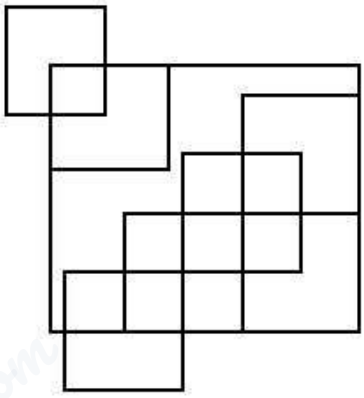

Ans
✓ 1. 17
✗ 2. 16
✗ 3. 18
✗ 4. 15

Question ID : **630680296652**
Option 1 ID : **6306801154262**
Option 2 ID : **6306801154261**
Option 3 ID : **6306801154260**
Option 4 ID : **6306801154259**
Status : **Answered**
Chosen Option : **3**

Q.6 यदि निम्नलिखित समीकरण में '+' और '–' को आपस में बदल दिया जाता है तथा '×' और '÷' को आपस में बदल दिया जाता है, तो प्रश्न चिह्न (?) के स्थान कौन-सी संख्या आएगी?
27 × 3 + 4 ÷ 2 – 7 = ?

Ans
✗ 1. 10
✗ 2. 9
✗ 3. 6
✓ 4. 8

Question ID : **630680328465**
Option 1 ID : **6306801277830**
Option 2 ID : **6306801277832**
Option 3 ID : **6306801277831**
Option 4 ID : **6306801277829**
Status : **Answered**
Chosen Option : **4**

Q.7 उस समुच्चय का चयन कीजिए, जिसमें संख्याएँ उसी प्रकार संबंधित हैं, जिस प्रकार निम्नलिखित समुच्चयों की संख्याएँ संबंधित हैं।
(24, 15, 120)
(21, 19, 133)
(नोट: पूर्ण संख्याओं पर संक्रिया का प्रयोग, संख्याओं को उनके घटक अंकों में विभक्त किए बिना किया जाना चाहिए। उदाहरण के लिए, 13 :- 13 पर संक्रिया जैसे कि जोड़ने/घटाने/गुणा करने आदि को 13 में किया जा सकता है। 13 को 1 और 3 में विभक्त करके और फिर 1 और 3 पर गणितीय संक्रियाओं का प्रयोग करने की अनुमति नहीं है।)

Ans
✗ 1. (31, 9, 96)
✓ 2. (27, 12, 108)
✗ 3. (18, 16, 99)
✗ 4. (33, 10, 170)

Question ID : **630680329212**
Option 1 ID : **6306801280671**
Option 2 ID : **6306801280670**
Option 3 ID : **6306801280672**
Option 4 ID : **6306801280669**
Status : **Answered**
Chosen Option : **2**

Q.8 दी गई शृंखला को पूरा करने के लिए कौन-सा अक्षर-समूह प्रश्न-चिह्न (?) को प्रतिस्थापित करेगा?
CQJG, ERMJ, ?, ITSP, KUVS

Ans
✗ 1. GRPM
✗ 2. GTPM
✓ 3. GSPM
✗ 4. GSQM

Question ID : **630680416920**
Option 1 ID : **6306801626446**
Option 2 ID : **6306801626444**
Option 3 ID : **6306801626443**
Option 4 ID : **6306801626445**
Status : **Answered**
Chosen Option : **3**

Q.9 उन गणितीय चिह्नों के सही संयोजन का चयन करें जिन्हें नीचे दिए गए रिक्त स्थानों में क्रमिक रूप से बाएँ से दाएँ रखने पर दिया गया समीकरण संतुलित हो जाएगा।
75 _ 3 _ 17 _ 8 = 0

Ans
1. −, −, +
2. −, −, ×
3. ÷, −, −
4. ×, +, −

Question ID : **630680411779**
Option 1 ID : **6306801605953**
Option 2 ID : **6306801605952**
Option 3 ID : **6306801605954**
Option 4 ID : **6306801605951**
Status : **Answered**
Chosen Option : **3**

Q.10 एक परिवार के सभी छ: सदस्य 1, 2, 3, 4, 5 और 6 एक साथ रहते हैं। 2, 3 की पुत्री है, लेकिन 3, 2 की माता नहीं है। 1 और 3 विवाहित युगल हैं। 5, 3 की बहन है। 4, 1 की पुत्री है। 6, 2 का भाई है। 2 की माता कौन है?

Ans
1. 4
2. 2
3. 1
4. 5

Question ID : **630680280750**
Option 1 ID : **6306801091237**
Option 2 ID : **6306801091236**
Option 3 ID : **6306801091238**
Option 4 ID : **6306801091235**
Status : **Answered**
Chosen Option : **3**

Q.11 एक निश्चित कूट भाषा में, 'EXCESS' को '726572121' लिखा जाता है, 'ENERGY' को '716720927' लिखा जाता है, उसी कूट भाषा में 'ESCAPE' को कैसे लिखा जाएगा?

Ans
1. 72153165
2. 71933187
3. 72153187
4. 72151167

Question ID : **630680416123**
Option 1 ID : **6306801623257**
Option 2 ID : **6306801623255**
Option 3 ID : **6306801623256**
Option 4 ID : **6306801623258**
Status : **Not Answered**
Chosen Option : **--**

Q.12 उस विकल्प का चयन कीजिए जो उन अक्षरों को प्रदर्शित करता है जिन्हें नीचे दिए गए रिक्त स्थानों में बाएं से दाएं क्रमिक रूप से रखने पर अक्षर श्रृंखला पूर्ण हो जाएगी।

Z _ A _ Z _ _ Z A _ Z _

Ans
✗ 1. ZZZAAA
✗ 2. AZZAZZ
✗ 3. AZAZAZ
✓ 4. ZZAZZA

Question ID : **630680262377**
Option 1 ID : **6306801019149**
Option 2 ID : **6306801019147**
Option 3 ID : **6306801019148**
Option 4 ID : **6306801019150**
Status : **Answered**
Chosen Option : **4**

Q.13 उस विकल्प का चयन करें जो पाँचवें अक्षर-समूह से उसी प्रकार संबंधित है जिस प्रकार दूसरा अक्षर-समूह पहले अक्षर-समूह से संबंधित है और चौथा अक्षर-समूह तीसरे अक्षर-समूह से संबंधित है।
CRW: TIN :: DOZ: UFQ :: ALW:?

Ans
✗ 1. RCM
✓ 2. RCN
✗ 3. JCM
✗ 4. JCN

Question ID : **630680416749**
Option 1 ID : **6306801625762**
Option 2 ID : **6306801625760**
Option 3 ID : **6306801625759**
Option 4 ID : **6306801625761**
Status : **Not Answered**
Chosen Option : **--**

Q.14 दिए गए संख्या युग्मों में से एक को छोड़कर अन्य सभी में समान संक्रिया/संक्रियाओं का अनुसरण किया गया है। वह असंगत संख्या युग्म ज्ञात कीजिए।
(नोट : संख्याओं को उसके संघटक अंकों में खंडित किए बिना संक्रियाएँ पूर्णांकों पर की जानी चाहिए। उदाहरण के लिए 13- 13 पर की जाने वाली संक्रियाएं जैसे जोड़ना/घटाना/गुणा इत्यादि 13 पर ही की जानी चाहिए। 13 को 1 और 3 में खंडित करना और फिर 1 और 3 पर गणितीय संक्रियाएँ करना वर्जित है।)

Ans
✗ 1. 5 : 11
✓ 2. 11 : 121
✗ 3. 7 : 15
✗ 4. 22 : 45

Question ID : **630680412039**
Option 1 ID : **6306801606994**
Option 2 ID : **6306801606992**
Option 3 ID : **6306801606991**
Option 4 ID : **6306801606993**
Status : **Answered**
Chosen Option : **2**

Q.15 दिए गए विकल्पों में से उस आकृति का चयन कीजिए, जो प्रश्न आकृति (?) को प्रतिस्थापित कर सकती है और पैटर्न को पूरा कर सकती है।

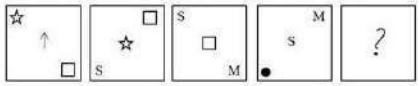

Ans

✗ 1.



✗ 2.



✗ 3.

✓ 4.



Question ID : **63068063226**
Option 1 ID : **630680244072**
Option 2 ID : **630680244071**
Option 3 ID : **630680244070**
Option 4 ID : **630680244073**
Status : **Answered**
Chosen Option : **4**

Q.16 **प्रश्न में ऐसे शब्द युग्म हैं जो एक निश्चित तरीके से एक-दूसरे से संबंधित हैं। निम्नलिखित चार शब्द युग्मों में से तीन शब्द युग्म एक समान हैं क्योंकि इनमें समान संबंध है और इस प्रकार वे एक समूह बनाते हैं। निम्नलिखित में से कौन-सा शब्द युग्म उस समूह से संबंधित नहीं है?**

(शब्दों को अर्थपूर्ण अंग्रेजी/हिंदी शब्द माना जाना चाहिए और शब्द में अक्षरों / व्यंजनों / स्वरों की संख्या के आधार पर एक दूसरे से संबंधित नहीं होने चाहिए।)

Ans

✗ 1. चश्मा – लेंस

✗ 2. फूल – पंखुड़ियाँ

✗ 3. पुस्तक – पृष्ठ

✓ 4. जूते – पैर

Question ID : **630680798753**
Option 1 ID : **6306803129865**
Option 2 ID : **6306803129867**
Option 3 ID : **6306803129864**
Option 4 ID : **6306803129866**
Status : **Answered**
Chosen Option : **4**

Q.17 एक पासे के विभिन्न फलकों पर छह अक्षर J, K, L, M, N और O लिखे गये हैं। इस पासे की दो स्थितियों को नीचे चित्र में दर्शाया गया है। N के विपरीत फलक पर आने वाले अक्षर की पहचान कीजिए।

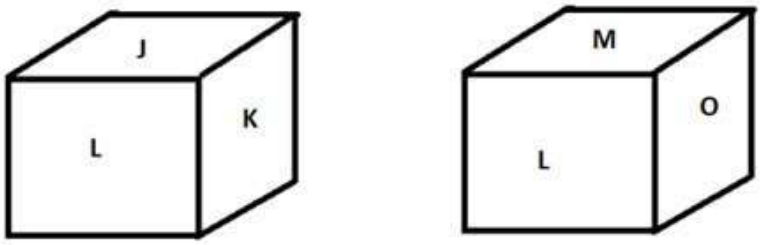

Ans
✗ 1. M
✗ 2. K
✓ 3. L
✗ 4. J

Question ID : **630680194489**
Option 1 ID : **630680754491**
Option 2 ID : **630680754492**
Option 3 ID : **630680754489**
Option 4 ID : **630680754490**
Status : **Answered**
Chosen Option : **3**

Q.18 जब दर्पण को नीचे दर्शाए गए अनुसार MN पर रखा जाता है तो दी गई आकृति के सही दर्पण प्रतिबिंब का चयन कीजिए।

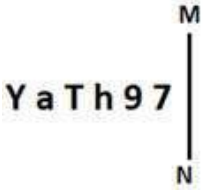

Ans
✗ 1.
✗ 2. 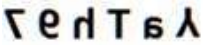
✗ 3.
✓ 4.

Question ID : **630680356661**
Option 1 ID : **6306801388646**
Option 2 ID : **6306801388645**
Option 3 ID : **6306801388648**
Option 4 ID : **6306801388647**
Status : **Answered**
Chosen Option : **4**

Q.19 दिए गए कथनों और निष्कर्षों को ध्यानपूर्वक पढ़िए। यह मानते हुए कि कथनों में दी गई जानकारी सत्य है, भले ही वह सामान्य रूप से ज्ञात तथ्यों से भिन्न प्रतीत होती हो, यह तय कीजिए कि दिए गए निष्कर्षों में से कौन-सा/से निष्कर्ष कथनों का तार्किक रूप से अनुसरण करता है/करते हैं।

कथन:

कुछ सब्जियां, फल हैं।
कुछ फल, फूल हैं।
सभी फूल, मालाएं हैं।

निष्कर्ष:

I. कुछ मालाएं, फल हैं।
II. कुछ सब्जियां, फूल हैं।
III. कुछ सब्जियां, मालाएं हैं।

Ans
✗ 1. केवल निष्कर्ष I और III अनुसरण करते हैं
✓ 2. केवल निष्कर्ष I अनुसरण करता है
✗ 3. केवल निष्कर्ष II और III अनुसरण करते हैं
✗ 4. केवल निष्कर्ष I और II अनुसरण करते हैं

Question ID : **630680416209**
Option 1 ID : **6306801623600**
Option 2 ID : **6306801623601**
Option 3 ID : **6306801623602**
Option 4 ID : **6306801623599**
Status : **Not Answered**
Chosen Option : **--**

Q.20 दिए गए विकल्पों में से उस आकृति का चयन कीजिए जो निम्नलिखित श्रृंखला में प्रश्न चिह्न (?) को प्रतिस्थापित कर सकती है।

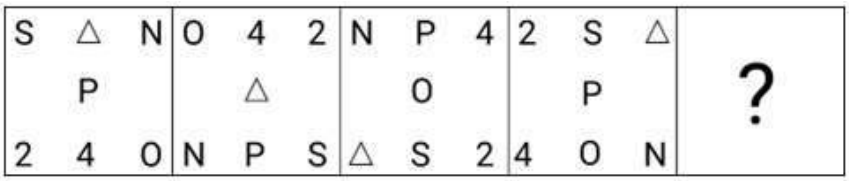

Ans

✔ 1.
4 O S
2
P N △

✘ 2.
△ 2 S
4
O N P

✘ 3.
4 2 N
△
O S P

✘ 4.
4 O 2
S
N P △

Question ID : **630680283520**
Option 1 ID : **6306801102200**
Option 2 ID : **6306801102201**
Option 3 ID : **6306801102202**
Option 4 ID : **6306801102199**
Status : **Not Answered**
Chosen Option : **--**

Q.21 उस विकल्प का चयन करें जो पांचवीं संख्या से उसी प्रकार संबंधित हो जिस प्रकार दूसरी संख्या पहली संख्या से संबंधित है और चौथी संख्या तीसरी संख्या से संबंधित है।
4 : 68 :: 8 : 136 :: 9 : ?
नोट: संख्याओं को उनके घटक अंकों में विभक्त किए बिना पूर्ण संख्याओं पर संक्रियाएं की जानी चाहिए। उदाहरण के लिए 13 को लें- 13 पर संक्रियाएं, जैसे कि जोड़ना/घटाना/गुणा आदि 13 में की जा सकती हैं। 13 को 1 और 3 में विभक्त करना और फिर 1 और 3 पर गणितीय संक्रियाएं करने की अनुमति नहीं है।

Ans
✘ 1. 149
✘ 2. 147
✔ 3. 153
✘ 4. 152

Question ID : **630680312536**
Option 1 ID : **6306801216026**
Option 2 ID : **6306801216025**
Option 3 ID : **6306801216028**
Option 4 ID : **6306801216027**
Status : **Answered**
Chosen Option : **3**

Q.22 दिए गए विकल्पों में से उस संख्या का चयन कीजिए, जो निम्नलिखित श्रृंखला में प्रश्न-चिह्न (?) को प्रतिस्थापित कर सकती है।
35, 46, 68, 101, 145, ?

Ans
✗ 1. 214
✗ 2. 212
✗ 3. 210
✓ 4. 200

Question ID : **630680411902**
Option 1 ID : **6306801606443**
Option 2 ID : **6306801606445**
Option 3 ID : **6306801606446**
Option 4 ID : **6306801606444**
Status : **Answered**
Chosen Option : **4**

Q.23 एक कागज को निम्न चित्र के अनुसार मोड़ा और काटा जाता है। खोलने पर यह कागज कैसा दिखाई देगा?

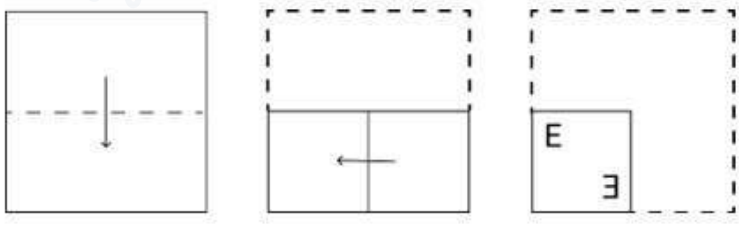

Ans
✗ 1.
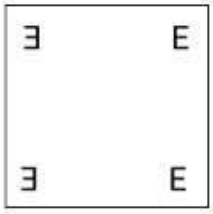

✓ 2.
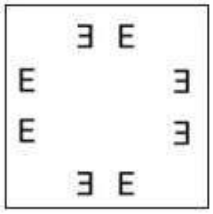

✗ 3.
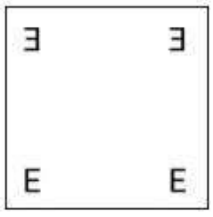

✗ 4.
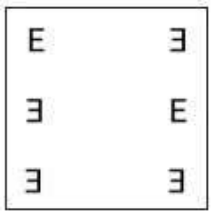

Question ID : **630680285668**
Option 1 ID : **6306801110641**
Option 2 ID : **6306801110639**
Option 3 ID : **6306801110640**
Option 4 ID : **6306801110642**
Status : **Answered**
Chosen Option : **2**

Q.24 एक निश्चित तर्क का अनुसरण करते हुए 11, 121 से संबंधित है। उसी तर्क का अनुसरण करते हुए, 22, 484 से संबंधित है। उसी तर्क का अनुसरण करते हुए, 31 निम्नलिखित में से किससे संबंधित है?

(नोट: संख्याओं को उसके घटक अंकों में तोड़े बिना, पूर्ण संख्याओं पर संक्रियाएं की जानी चाहिए। उदाहरण के लिए संख्या 13 को लें - 13 पर संक्रियाएं, जैसे कि 13 में जोड़ना/घटाना/गुणा करना आदि, की जा सकती हैं। 13 को 1 और 3 में तोड़ने और फिर 1 और 3 पर गणितीय संक्रियाएं करने की अनुमति नहीं है)

Ans
✗ 1. 943
✓ 2. 961
✗ 3. 957
✗ 4. 973

Question ID : **630680344656**
Option 1 ID : **6306801340935**
Option 2 ID : **6306801340933**
Option 3 ID : **6306801340934**
Option 4 ID : **6306801340936**
Status : **Answered**
Chosen Option : **2**

Q.25 चार अक्षर-समूह दिए गए हैं, जिनमें से तीन किसी न किसी रूप में एकसमान हैं और एक असमान है। निम्नलिखित में से असमान विकल्प को चुनिए।
नोट : अक्षर समूह में, असमान विकल्प व्यंजनों/स्वरों की संख्या या उनकी स्थिति पर आधारित नहीं है।.

Ans
✗ 1. SQPN
✓ 2. WVTS
✗ 3. NLKI
✗ 4. YWVT

Question ID : **63068082918**
Option 1 ID : **630680321532**
Option 2 ID : **630680321535**
Option 3 ID : **630680321534**
Option 4 ID : **630680321533**
Status : **Answered**
Chosen Option : **2**

Section : **General Awareness**

Q.1 अटल इनोवेशन मिशन (Atal Innovation Mission) वर्ष _____ में शुरू किया गया था।

Ans
✓ 1. 2016
✗ 2. 2004
✗ 3. 2014
✗ 4. 2021

Question ID : **630680195341**
Option 1 ID : **630680757834**
Option 2 ID : **630680757835**
Option 3 ID : **630680757836**
Option 4 ID : **630680757833**
Status : **Answered**
Chosen Option : **1**

Q.2 एन.डी.पी. (NDP) = _____।

Ans
✗ 1. जी.डी.पी. (GDP) + विदेशों से शुद्ध कारक आय
✓ 2. जी.डी.पी. (GDP) - मूल्यह्रास
✗ 3. जी.डी.पी. (GDP) + मूल्यह्रास
✗ 4. जी.डी.पी. (GDP) - विदेशों से शुद्ध कारक आय

Question ID : **63068068742**
Option 1 ID : **630680265661**
Option 2 ID : **630680265658**
Option 3 ID : **630680265659**
Option 4 ID : **630680265660**
Status : **Not Answered**
Chosen Option : **--**

Q.3 अल्ला रक्खा निम्नलिखित में से किस संगीत वाद्ययंत्र को बजाने के लिए प्रसिद्ध हैं?

Ans
✗ 1. शहनाई
✓ 2. तबला
✗ 3. बांसुरी
✗ 4. डमरू

Question ID : **630680410183**
Option 1 ID : **6306801599555**
Option 2 ID : **6306801599554**
Option 3 ID : **6306801599553**
Option 4 ID : **6306801599556**
Status : **Not Answered**
Chosen Option : **--**

Q.4 पुलकेशिन द्वितीय ने उत्तर भारत के निम्नलिखित में से किस शासक को पराजित करने के बाद दक्षिणपथेश्वर (दक्षिण का स्वामी) की उपाधि धारण की?

Ans
✓ 1. हर्षवर्धन
✗ 2. प्रभाकरवर्धन
✗ 3. ध्रुवसेन द्वितीय
✗ 4. रुद्रसेन द्वितीय

Question ID : **630680412522**
Option 1 ID : **6306801608912**
Option 2 ID : **6306801608913**
Option 3 ID : **6306801608914**
Option 4 ID : **6306801608911**
Status : **Not Answered**
Chosen Option : **--**

Q.5 भारत की जनगणना 2011 के अनुसार, 10-19 वर्ष के आयु वर्ग की किशोरियों का प्रतिशत कितना था?

Ans
✗ 1. 31.3%
✗ 2. 52.7%
✓ 3. 47.3%
✗ 4. 20.9%

Question ID : **630680409649**
Option 1 ID : **6306801597428**
Option 2 ID : **6306801597426**
Option 3 ID : **6306801597427**
Option 4 ID : **6306801597425**
Status : **Not Answered**
Chosen Option : **--**

Q.6 मेंडलीफ की आवर्त सारणी के अनुसार, किन तत्वों के गुण ईका-सिलिकॉन के साथ पर्याप्त मेल खाते हैं?

Ans
✗ 1. गैलियम
✓ 2. जर्मेनियम
✗ 3. टाइटेनियम
✗ 4. स्कैंडियम

Question ID : **630680113553**
Option 1 ID : **630680439747**
Option 2 ID : **630680439746**
Option 3 ID : **630680439749**
Option 4 ID : **630680439748**
Status : **Not Answered**
Chosen Option : **--**

Q.7 मकर संक्रांति निम्नलिखित में से किस भगवान को समर्पित त्योहार है?

Ans
✗ 1. चंद्र
✓ 2. सूर्य
✗ 3. गणेश
✗ 4. इंद्र

Question ID : **630680216082**
Option 1 ID : **630680838304**
Option 2 ID : **630680838303**
Option 3 ID : **630680838306**
Option 4 ID : **630680838305**
Status : **Answered**
Chosen Option : **2**

Q.8 शतरंज में निम्नलिखित में से कौन केवल तिरछा ही चल सकता है?

Ans
✗ 1. हाथी
✓ 2. ऊँट
✗ 3. घोड़ा
✗ 4. वजीर / रानी

Question ID : **630680510775**
Option 1 ID : **6306801996231**
Option 2 ID : **6306801996230**
Option 3 ID : **6306801996233**
Option 4 ID : **6306801996232**
Status : **Answered**
Chosen Option : **4**

Q.9 भूकंप की माप से प्राप्त रिकॉर्ड को क्या कहा जाता है?

Ans
✓ 1. भूकंपलेख
✗ 2. भूकंपी तरंग
✗ 3. भूकंप विज्ञान
✗ 4. भूकंप-सूचक यंत्र

Question ID : **63068098917**
Option 1 ID : **630680384374**
Option 2 ID : **630680384373**
Option 3 ID : **630680384372**
Option 4 ID : **630680384375**
Status : **Answered**
Chosen Option : **1**

Q.10 भारतीय संविधान का कौन-सा भाग चुनाव आयोग से संबंधित है?

Ans
✔ 1. भाग XV
✘ 2. भाग XI
✘ 3. भाग XII
✘ 4. भाग IV

Question ID : **630680413120**
Option 1 ID : **6306801611303**
Option 2 ID : **6306801611305**
Option 3 ID : **6306801611306**
Option 4 ID : **6306801611304**
Status : **Not Answered**
Chosen Option : **--**

Q.11 कौन-सा आवश्यक एमिनो अम्ल कैल्शियम अवशोषण को बढ़ाता है और कोलेजन के निर्माण में भी महत्वपूर्ण भूमिका निभाता है?

Ans
✘ 1. टायरोसीन
✘ 2. आर्जीनिन
✔ 3. लाइसीन
✘ 4. हिस्टीडीन

Question ID : **630680407467**
Option 1 ID : **6306801588809**
Option 2 ID : **6306801588806**
Option 3 ID : **6306801588808**
Option 4 ID : **6306801588807**
Status : **Not Answered**
Chosen Option : **--**

Q.12 भारत में सूक्ष्म, लघु और मध्यम उद्यम विकास (MSMED) अधिनियम, 2006 का प्राथमिक उद्देश्य क्या है?

Ans
✘ 1. MSMEs की सुरक्षा के लिए आयात शुल्क बढ़ाना
✘ 2. विदेशी कंपनियों को विनियमित करना
✔ 3. MSMEs के विकास को बढ़ावा देना और सुविधाजनक बनाना
✘ 4. केवल बड़े पैमाने के उद्योगों पर ध्यान केंद्रित करना

Question ID : **630680411086**
Option 1 ID : **6306801603098**
Option 2 ID : **6306801603096**
Option 3 ID : **6306801603097**
Option 4 ID : **6306801603099**
Status : **Not Answered**
Chosen Option : **--**

Q.13 2022 में, विनय मोहन क्वात्रा ने भारत के विदेश सचिव के रूप में कार्यभार संभाला। इससे पहले, उन्होंने निम्नलिखित में से किस देश में राजदूत के रूप में कार्य किया था?

Ans
✗ 1. मालदीव
✗ 2. श्रीलंका
✓ 3. नेपाल
✗ 4. भूटान

Question ID : **630680195361**
Option 1 ID : **630680757916**
Option 2 ID : **630680757915**
Option 3 ID : **630680757914**
Option 4 ID : **630680757913**
Status : **Answered**
Chosen Option : **1**

Q.14 1888 में भारत में डूरंड कप टूर्नामेंट कहाँ शुरू किया गया था?

Ans
✗ 1. दिल्ली
✗ 2. मुंबई
✗ 3. कलकत्ता
✓ 4. शिमला

Question ID : **630680510819**
Option 1 ID : **6306801996406**
Option 2 ID : **6306801996409**
Option 3 ID : **6306801996408**
Option 4 ID : **6306801996407**
Status : **Not Answered**
Chosen Option : **--**

Q.15 गयास उद-दीन बलबन ने एक _____विभाग की स्थापना करवाई थी, जिसे 'दीवान-ए-अर्ज़' कहा जाता था।

Ans
✗ 1. कृषि
✗ 2. वाणिज्यिक
✗ 3. शैक्षिक
✓ 4. सैन्य

Question ID : **630680412429**
Option 1 ID : **6306801608541**
Option 2 ID : **6306801608540**
Option 3 ID : **6306801608539**
Option 4 ID : **6306801608542**
Status : **Not Answered**
Chosen Option : **--**

Q.16 1910 में USA के सिएटल में यूनाइटेड इंडिया हाउस की स्थापना _____के द्वारा की गई थी।

Ans
✓ 1. तारकनाथ दास और जी.डी. कुमार
✗ 2. ख़ुदीराम बोस और प्रफ़ुल्ल चाकी
✗ 3. श्यामजी कृष्ण वर्मा
✗ 4. वी.डी. सावरकर और गणेश

Question ID : **630680412318**
Option 1 ID : **6306801608096**
Option 2 ID : **6306801608097**
Option 3 ID : **6306801608095**
Option 4 ID : **6306801608098**
Status : **Not Answered**
Chosen Option : **--**

Q.17 निम्नलिखित में से कौन-सा पूर्वी तटीय बंदरगाह का एक उदाहरण है?

Ans
✗ 1. मुंबई बंदरगाह
✗ 2. मोरमुगाओ बंदरगाह
✓ 3. चेन्नई बंदरगाह
✗ 4. न्यू मैंगलोर बंदरगाह

Question ID : **630680327617**
Option 1 ID : **6306801274465**
Option 2 ID : **6306801274468**
Option 3 ID : **6306801274467**
Option 4 ID : **6306801274466**
Status : **Not Answered**
Chosen Option : **--**

Q.18 ईश्वरी प्रसाद को कथक के _____ घराने की शुरुआत करने का श्रेय दिया जाता है।

Ans
✗ 1. बनारस
✗ 2. जयपुर
✓ 3. लखनऊ
✗ 4. रायगढ़

Question ID : **630680405008**
Option 1 ID : **6306801579464**
Option 2 ID : **6306801579465**
Option 3 ID : **6306801579463**
Option 4 ID : **6306801579466**
Status : **Answered**
Chosen Option : **3**

Q.19 विधवा पुनर्विवाह का समर्थन करने के लिए 1856 में ब्रिटिश सरकार द्वारा पारित कानून का सुझाव किसने दिया था?

Ans
✗ 1. केशव चंद्र सेन
✗ 2. राजा राम मोहन राय
✓ 3. ईश्वर चंद्र विद्यासागर
✗ 4. आत्माराम पांडुरंग

Question ID : **630680511536**
Option 1 ID : **6306801999266**
Option 2 ID : **6306801999267**
Option 3 ID : **6306801999268**
Option 4 ID : **6306801999269**
Status : **Answered**
Chosen Option : **2**

Q.20 भारतीय संविधान का कौन-सा अनुच्छेद पर्यावरण की रक्षा और सुधार तथा वनों और वन्यजीवों की सुरक्षा प्रदान करता है?

Ans
✗ 1. अनुच्छेद 47-A
✓ 2. अनुच्छेद 48-A
✗ 3. अनुच्छेद 47-B
✗ 4. अनुच्छेद 49-C

Question ID : **630680305538**
Option 1 ID : **6306801188525**
Option 2 ID : **6306801188527**
Option 3 ID : **6306801188526**
Option 4 ID : **6306801188528**
Status : **Not Answered**
Chosen Option : **--**

Q.21 कॉलम A में दिए गए बिंदुओं का कॉलम B के बिंदुओं से मिलान कीजिए।

कॉलम A (रोग)	कॉलम B (उत्तरदायी जीव)
i. मलेरिया	a. विब्रियो
ii. अतिसार	b. साल्मोनेला
iii. आंत्र ज्वर	c. रोटावायरस
iv. हैज़ा	d. प्लाज्मोडियम

Ans
✗ 1. i-a, ii-b, iii-c, iv-d
✗ 2. i-b, ii-a, iii-c, iv-d
✗ 3. i-a, ii-c, iii-b, iv-d
✓ 4. i-d, ii-c, iii-b, iv-a

Question ID : **630680199657**
Option 1 ID : **630680774235**
Option 2 ID : **630680774237**
Option 3 ID : **630680774236**
Option 4 ID : **630680774238**
Status : **Answered**
Chosen Option : **4**

Q.22 निम्नलिखित में से कौन-सा भारत में लौटते मानसून से संबंधित है?

Ans
✗ 1. लू
✓ 2. अक्टूबर की गर्मी
✗ 3. महावत
✗ 4. काल बैसाखी

Question ID : **630680309095**
Option 1 ID : **6306801202559**
Option 2 ID : **6306801202557**
Option 3 ID : **6306801202558**
Option 4 ID : **6306801202560**
Status : **Answered**
Chosen Option : **2**

Q.23 वर्ष 1998 में किस प्रसिद्ध संतूर वादक को उस्ताद हाफ़िज़ अली खान पुरस्कार से सम्मानित किया गया था?

Ans
✗ 1. अभय सोपोरी
✗ 2. तरूण भट्टाचार्य
✗ 3. सतीश व्यास
✓ 4. शिवकुमार शर्मा

Question ID : **630680511805**
Option 1 ID : **6306802000190**
Option 2 ID : **6306802000192**
Option 3 ID : **6306802000193**
Option 4 ID : **6306802000191**
Status : **Not Answered**
Chosen Option : **--**

Q.24 कॉपर (I) हैलाइड उत्प्रेरक का उपयोग करके एरिल डायज़ोनियम लवण को एरिल हैलाइड में परिवर्तित करने के लिए उपयोग की जाने वाली कार्बनिक अभिक्रिया क्या कहलाती है?

Ans
✗ 1. गैटरमैन अभिक्रिया (Gattermann reaction)
✗ 2. बाल्ज-शीमन अभिक्रिया (Balz-Schiemann reaction)
✓ 3. सैंडमेयर अभिक्रिया (Sandmeyer reaction)
✗ 4. फिंकेलस्टीन अभिक्रिया (Finkelstein reaction)

Question ID : **63068051559**
Option 1 ID : **630680198470**
Option 2 ID : **630680198471**
Option 3 ID : **630680198473**
Option 4 ID : **630680198472**
Status : **Not Answered**
Chosen Option : **--**

Q.25 राज्य पुनर्गठन आयोग का गठन कब किया गया था, जिसने वृहत्तर भाषायी समूहों के आधार पर भाषायी राज्यों के सृजन की सिफ़ारिश की थी?

Ans
✗ 1. दिसंबर 1956
✗ 2. दिसंबर 1958
✗ 3. दिसंबर 1963
✓ 4. दिसंबर 1953

Question ID : **630680408188**
Option 1 ID : **6306801591648**
Option 2 ID : **6306801591649**
Option 3 ID : **6306801591650**
Option 4 ID : **6306801591647**
Status : **Answered**
Chosen Option : **1**

Section : **Quantitative Aptitude**

Q.1 मान लीजिए P, 8 km/h की चाल से चलना शुरू करता है। 8 घंटे के बाद B, 24 km/h की चाल से साइकिल से यात्रा करना शुरू करता है। प्रारंभिक स्थान से वह दूरी जहाँ B, A से मिल सकता है, कितनी है?

Ans
✗ 1. 72 km
✗ 2. 64 km
✗ 3. 88 km
✓ 4. 96 km

Question ID : **630680135792**
Option 1 ID : **630680525889**
Option 2 ID : **630680525886**
Option 3 ID : **630680525887**
Option 4 ID : **630680525888**
Status : **Not Answered**
Chosen Option : **--**

Q.2 दी गई तालिका का अध्ययन कीजिए और निम्नलिखित प्रश्न का उत्तर दीजिए।

दी गई तालिका पिछले कुछ वर्षों में एक ऑटोमोबाइल कंपनी द्वारा निर्मित तीन प्रकार की कारों (A, B और C) का उत्पादन (हजार में) दर्शाती है।

वर्ष	A	B	C
2015	840	680	890
2016	900	750	960
2017	760	620	1000
2018	800	540	1200

वर्ष 2015 से 2017 तक कंपनी द्वारा उत्पादित A प्रकार की कारों की कुल संख्या, वर्ष 2016 से 2018 तक कंपनी द्वारा उत्पादित C प्रकार की कारों की कुल संख्या से कितने प्रतिशत (निकटतम पूर्णांक तक पूर्णांकित) अधिक या कम

Ans
✔ 1. 21% कम
✘ 2. 24% कम
✘ 3. 21% अधिक
✘ 4. 24% अधिक

Question ID : **630680523746**
Option 1 ID : **6306802047138**
Option 2 ID : **6306802047136**
Option 3 ID : **6306802047137**
Option 4 ID : **6306802047135**
Status : **Answered**
Chosen Option : **2**

Q.3 a' और 'b' के मान ज्ञात कीजिए जिनके लिए समीकरणों के निकाय 3x+y=3 तथा (a-b)x+(a+b)y=3a+b-3 के अनंत हल हैं।

Ans
✘ 1. $a=3, b=-\frac{2}{3}$
✔ 2. $a=3, b=-\frac{3}{2}$
✘ 3. $a=2, b=-\frac{3}{2}$
✘ 4. $a=-\frac{3}{2}, b=2$

Question ID : **630680200492**
Option 1 ID : **630680777323**
Option 2 ID : **630680777325**
Option 3 ID : **630680777326**
Option 4 ID : **630680777324**
Status : **Not Answered**
Chosen Option : **--**

Q.4 किसी समतल में _____ असंरेख बिन्दुओं से गुजरने वाला एक वृत्त खींचना सदैव संभव होता है।

Ans
✗ 1. 6
✗ 2. 5
✓ 3. 3
✗ 4. 4

Question ID : **630680297301**
Option 1 ID : **6306801156674**
Option 2 ID : **6306801156673**
Option 3 ID : **6306801156671**
Option 4 ID : **6306801156672**
Status : **Answered**
Chosen Option : **3**

Q.5 यदि $m + 5 = \sec^2 A \operatorname{cosec}^2 A(1 - \cos^2 A)(1 - \sin^2 A) + 5$ है, तो m का मान ज्ञात कीजिए।

Ans
✗ 1. 10
✗ 2. 5
✗ 3. 0
✓ 4. 1

Question ID : **630680401755**
Option 1 ID : **6306801566789**
Option 2 ID : **6306801566788**
Option 3 ID : **6306801566786**
Option 4 ID : **6306801566787**
Status : **Answered**
Chosen Option : **3**

Q.6 एक निश्चित राशि पर 6 वर्षों के लिए साधारण ब्याज उस राशि का तीन-पाँचवाँ (3/5) भाग है। इसके लिए वार्षिक ब्याज दर कितनी होगी?

Ans
✗ 1. 7%
✓ 2. 10%
✗ 3. 3%
✗ 4. 5%

Question ID : **630680344606**
Option 1 ID : **6306801340735**
Option 2 ID : **6306801340736**
Option 3 ID : **6306801340734**
Option 4 ID : **6306801340733**
Status : **Answered**
Chosen Option : **2**

Q.7 निहिरा 25 वर्ष की हैं और पुनीथ 30 वर्ष का है। कितने वर्ष पहले उनकी आयु का अनुपात 3 : 4 था?

Ans
✗ 1. 15 वर्ष
✗ 2. 20 वर्ष
✓ 3. 10 वर्ष
✗ 4. 5 वर्ष

Question ID : **630680426563**
Option 1 ID : **6306801664344**
Option 2 ID : **6306801664345**
Option 3 ID : **6306801664343**
Option 4 ID : **6306801664342**
Status : **Not Answered**
Chosen Option : **--**

Q.8 यदि $a^3 + \frac{1}{a^3} = 2\ (a > 0)$ हो, तो $a + \frac{1}{a}$ का मान ज्ञात कीजिए।

Ans
✓ 1. 2
✗ 2. 1
✗ 3. 4
✗ 4. 3

Question ID : **630680413527**
Option 1 ID : **6306801612933**
Option 2 ID : **6306801612932**
Option 3 ID : **6306801612935**
Option 4 ID : **6306801612934**
Status : **Answered**
Chosen Option : **2**

Q.9 दो वृत्तों के केंद्रों के बीच की दूरी 36 cm है। यदि इन दो वृत्तों की त्रिज्याएँ क्रमशः 15 cm और 9 cm हैं, तो इन दोनों वृत्तों की सीधी उभयनिष्ठ स्पर्श रेखा और अनुप्रस्थ उभयनिष्ठ स्पर्श रेखा की लंबाइयों (cm में) का योग क्या है?

Ans
✗ 1. $6\sqrt{7}(\sqrt{7}+2)$
✗ 2. $6\sqrt{7}(\sqrt{5}+2)$
✓ 3. $6\sqrt{5}(\sqrt{7}+2)$
✗ 4. $6\sqrt{5}(\sqrt{5}+2)$

Question ID : **630680196685**
Option 1 ID : **630680763039**
Option 2 ID : **630680763040**
Option 3 ID : **630680763042**
Option 4 ID : **630680763041**
Status : **Not Answered**
Chosen Option : **--**

Q.10 P और Q का कुल वेतन ₹9,60,000 है। P और Q अपने - अपने वेतन के क्रमशः 64% और 44% की बचत करते हैं। यदि P का व्यय Q के व्यय का 1.5 गुना है, तो P के वेतन और Q के वेतन का अनुपात ज्ञात करें।

Ans
✗ 1. 2 : 3
✗ 2. 3 : 2
✓ 3. 7 : 3
✗ 4. 3 : 7

Question ID : **630680395405**
Option 1 ID : **6306801541801**
Option 2 ID : **6306801541800**
Option 3 ID : **6306801541803**
Option 4 ID : **6306801541802**
Status : **Not Answered**
Chosen Option : **--**

Q.11 $2\frac{\tan 54^\circ}{\cot 36^\circ} - \frac{\cot 41^\circ}{\tan 49^\circ}$ का मान ज्ञात कीजिए।

Ans
✗ 1. 0
✓ 2. 1
✗ 3. 2
✗ 4. -1

Question ID : **630680403309**
Option 1 ID : **6306801572734**
Option 2 ID : **6306801572735**
Option 3 ID : **6306801572736**
Option 4 ID : **6306801572737**
Status : **Answered**
Chosen Option : **2**

Q.12 रोहिणी एक थोक दुकान से ₹1,700 में ब्लूटूथ हेडफ़ोन सेट खरीदती है और उसका अंकित मूल्य ₹2,000 निर्धारित करती है। बाद में, वह इसकी बिक्री पर 40% की छूट देती है। उसका हानि या लाभ प्रतिशत क्या है (दो दशमलव स्थानों तक सही)?

Ans
✗ 1. 29.41% लाभ
✗ 2. 25.19% लाभ
✓ 3. 29.41% हानि
✗ 4. 25.19% हानि

Question ID : **630680216677**
Option 1 ID : **630680840671**
Option 2 ID : **630680840673**
Option 3 ID : **630680840672**
Option 4 ID : **630680840674**
Status : **Answered**
Chosen Option : **2**

Q.13 यदि एक समद्विबाहु त्रिभुज की दो भुजाओं की लंबाई 6 cm और 12 cm है, तो तीसरी भुजा की लंबाई ज्ञात कीजिए।

Ans
✗ 1. 8 cm
✗ 2. 6 cm
✓ 3. 12 cm
✗ 4. 14 cm

Question ID : **630680200536**
Option 1 ID : **630680777501**
Option 2 ID : **630680777499**
Option 3 ID : **630680777500**
Option 4 ID : **630680777502**
Status : **Not Answered**
Chosen Option : **--**

Q.14 निम्नलिखित में से कौन सा भिन्न सबसे बड़ा है?

$\frac{3}{7}, \frac{7}{53}, \frac{41}{80}, \frac{29}{79}$

Ans
✓ 1. $\frac{41}{80}$
✗ 2. $\frac{3}{7}$
✗ 3. $\frac{29}{79}$
✗ 4. $\frac{7}{53}$

Question ID : **630680797477**
Option 1 ID : **6306803124864**
Option 2 ID : **6306803124865**
Option 3 ID : **6306803124867**
Option 4 ID : **6306803124866**
Status : **Answered**
Chosen Option : **2**

Q.15 किसी बेलनाकार बर्तन के आधार की परिधि 154 cm है और इसकी ऊँचाई 49 mm है। इसमें कितने लीटर पानी आ सकता है?
(दशमलव के तीन स्थानों तक शुद्ध, $\pi = \frac{22}{7}$ का उपयोग कीजिए)

Ans
✗ 1. 3.924
✓ 2. 9.244
✗ 3. 4.329
✗ 4. 2.439

Question ID : **630680421486**
Option 1 ID : **6306801644410**
Option 2 ID : **6306801644408**
Option 3 ID : **6306801644409**
Option 4 ID : **6306801644407**
Status : **Not Answered**
Chosen Option : **--**

Q.16 एक इनलेट पाइप किसी जल भंडारण टंकी को 11 घंटे में भर सकता है और एक आउटलेट पाइप पूरी तरह से भरी हुई टंकी को 15 घंटे में खाली कर सकता है। यदि दोनों पाइप को एक साथ खोल दिया जाए, तो खाली टंकी को भरने में लगने वाला समय (घंटे में) ज्ञात कीजिए।

Ans
1. $45\frac{1}{2}$
2. $41\frac{1}{4}$
3. 40
4. $49\frac{3}{4}$

Question ID : **630680397516**
Option 1 ID : **6306801549984**
Option 2 ID : **6306801549983**
Option 3 ID : **6306801549982**
Option 4 ID : **6306801549985**
Status : **Answered**
Chosen Option : **2**

Q.17 दिया गया बार ग्राफ पिछले कुछ वर्षों में किसी देश के चीनी आयात (हजार टन में) को दर्शाता है। ग्राफ का अध्ययन कीजिए और निम्नलिखित प्रश्न का उत्तर दीजिए।

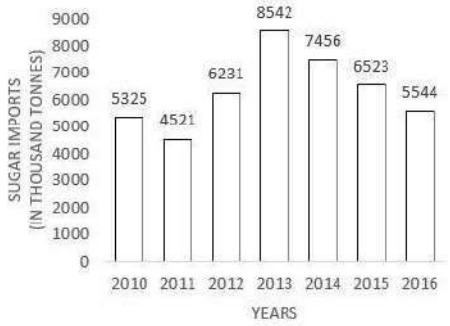

SUGAR IMPORTS(IN THOUSAND TONNES): चीनी का आयात (हजार टन में)
YEARS : वर्षों

सभी वर्षों का औसत आयात (हजार टन में) कितना है?

Ans
1. 6603
2. 6306
3. 6433
4. 6469

Question ID : **630680397704**
Option 1 ID : **6306801550775**
Option 2 ID : **6306801550774**
Option 3 ID : **6306801550773**
Option 4 ID : **6306801550776**
Status : **Answered**
Chosen Option : **2**

Q.18 $9 \div \left[1 + \left\{4 \times \left(\frac{5}{6} - \overline{\frac{1}{3} + \frac{1}{2}}\right)\right\}\right]$ किसके बराबर है?

Ans
1. $\frac{9}{5}$
2. 9
3. 0
4. 1

Question ID : **630680426552**
Option 1 ID : **6306801664301**
Option 2 ID : **6306801664300**
Option 3 ID : **6306801664298**
Option 4 ID : **6306801664299**
Status : **Answered**
Chosen Option : **2**

Q.19 △ABC की भुजा BC को बिंदु D तक बढ़ाया जाता है। यदि AC = BC और ∠BAC = 70° है, तो ∠ACD − ∠ABC का मान ज्ञात कीजिए।

Ans
1. 60°
2. 70°
3. 45°
4. 75°

Question ID : **630680383150**
Option 1 ID : **6306801493508**
Option 2 ID : **6306801493509**
Option 3 ID : **6306801493507**
Option 4 ID : **6306801493510**
Status : **Answered**
Chosen Option : **2**

Q.20 यदि $x^2 + 7x + 8 = 0$ है, तो $\frac{4x}{x^2 - 5x + 8}$ का मान ज्ञात कीजिए।

Ans
1. $\frac{-1}{3}$
2. $\frac{1}{6}$
3. $\frac{1}{2}$
4. $\frac{-1}{4}$

Question ID : **630680413534**
Option 1 ID : **6306801612961**
Option 2 ID : **6306801612963**
Option 3 ID : **6306801612960**
Option 4 ID : **6306801612962**
Status : **Not Answered**
Chosen Option : **--**

Q.21 प्रथम 48 प्राकृतिक संख्याओं के वर्गों का औसत ज्ञात कीजिए।

Ans
✗ 1. 791.17
✗ 2. 794.17
✓ 3. 792.17
✗ 4. 793.17

Question ID : **630680568975**
Option 1 ID : **6306802224711**
Option 2 ID : **6306802224712**
Option 3 ID : **6306802224709**
Option 4 ID : **6306802224710**
Status : **Not Answered**
Chosen Option : **--**

Q.22 दी गई सारणी का अध्ययन कीजिए और प्रश्न का उत्तर दीजिए।

सारणी 2018 और 2023 के बीच छः अलग-अलग ब्रांड द्वारा उत्पादित कारों की संख्या (लाखों में) को दर्शाती है।

प्रकार	2018	2019	2000	2021	2022	2023
A	36	40	42	45	47	42
B	23	37	28	32	34	26
C	45	47	51	54	56	48
D	35	37	42	32	36	28
E	57	56	52	38	48	42
F	43	45	56	41	52	40

2018-2023 के दौरान B और D के औसत उत्पादन में अंतर ज्ञात कीजिए।

Ans
✗ 1. 4 लाख
✗ 2. 5.5 लाख
✗ 3. 6 लाख
✓ 4. 5 लाख

Question ID : **630680459225**
Option 1 ID : **6306801793758**
Option 2 ID : **6306801793760**
Option 3 ID : **6306801793757**
Option 4 ID : **6306801793759**
Status : **Answered**
Chosen Option : **4**

Q.23 रमेश ने 130 पुस्तकें ₹200 प्रति पुस्तक की दर से खरीदीं और उनमें से आधी पुस्तकें ₹300 प्रति पुस्तक की दर से बेच दी, उनमें से एक बटे पाँच (1/5) पुस्तकें ₹350 प्रति पुस्तक की दर से और शेष पुस्तकें क्रय मूल्य पर बेच दी। उसका लाभ प्रतिशत ज्ञात कीजिए।

Ans
✗ 1. 44%
✗ 2. 35%
✓ 3. 40%
✗ 4. 38%

Question ID : **630680429027**
Option 1 ID : **6306801674155**
Option 2 ID : **6306801674152**
Option 3 ID : **6306801674154**
Option 4 ID : **6306801674153**
Status : **Not Answered**
Chosen Option : **--**

Q.24 निम्नलिखित तालिका 3 प्रिंटरों (P, Q और R) द्वारा 3 दिनों के दौरान मुद्रित पृष्ठों की संख्या को दर्शाती है।

दिन	P	Q	R
सोमवार	100	130	200
मंगलवार	120	145	160
बुधवार	180	85	120

उन तीन दिनों के दौरान प्रिंटर P द्वारा मुद्रित पृष्ठों की कुल संख्या, और उन्हीं तीन दिनों के दौरान प्रिंटर Q द्वारा मुद्रित पृष्ठों की कुल संख्या का अनुपात क्या है?

Ans
✗ 1. 10 : 11
✓ 2. 10 : 9
✗ 3. 11 : 10
✗ 4. 9 : 10

Question ID : **630680523691**
Option 1 ID : **6306802046917**
Option 2 ID : **6306802046915**
Option 3 ID : **6306802046918**
Option 4 ID : **6306802046916**
Status : **Answered**
Chosen Option : **2**

Q.25 (cosec θ - sin θ)(sec θ - cos θ)(tan θ + cot θ) का मान ज्ञात कीजिए।

Ans
✓ 1. 1
✗ 2. $\frac{1}{2}$
✗ 3. -1
✗ 4. 0

Question ID : **630680285633**
Option 1 ID : **6306801110501**
Option 2 ID : **6306801110502**
Option 3 ID : **6306801110499**
Option 4 ID : **6306801110500**
Status : **Answered**
Chosen Option : **1**

Section : **English Comprehension**

Q.1 **Select the correctly spelt word.**

Ans
✓ 1. Exhilaration
✗ 2. Exhileration
✗ 3. Exilaration
✗ 4. Exhillaration

Question ID : **630680409946**
Option 1 ID : **6306801598615**
Option 2 ID : **6306801598613**
Option 3 ID : **6306801598614**
Option 4 ID : **6306801598616**
Status : **Answered**
Chosen Option : **2**

Q.2 **Parts of a sentence are given below in jumbled order. Arrange the parts in the correct order to form a meaningful sentence.**

P) achieve success
Q) when you
R) and polite
S) stay humble

Ans
✔ 1. SRQP
✘ 2. PRQS
✘ 3. PQRS
✘ 4. RQPS

Question ID : **630680377250**
Option 1 ID : **6306801470064**
Option 2 ID : **6306801470065**
Option 3 ID : **6306801470063**
Option 4 ID : **6306801470066**
Status : **Answered**
Chosen Option : **1**

Q.3 **Select the most appropriate idiom that can substitute the underlined segment in the given sentence.**
Leela was in class when the big fight happened. So, if you want to know the details, You should ask her, you will get the truth <u>given by somebody who is directly involved and therefore likely to be accurate.</u>

Ans
✘ 1. calling a spade a spade
✔ 2. straight from the horse's mouth
✘ 3. with kid gloves
✘ 4. shooting off the cuff

Question ID : **630680375539**
Option 1 ID : **6306801463314**
Option 2 ID : **6306801463313**
Option 3 ID : **6306801463311**
Option 4 ID : **6306801463312**
Status : **Answered**
Chosen Option : **1**

Q.4 **Select the most appropriate ANTONYM of the given word.**

Laudable

Ans
✘ 1. Commendable
✔ 2. Deplorable
✘ 3. Severe
✘ 4. Humorous

Question ID : **630680517366**
Option 1 ID : **6306802021860**
Option 2 ID : **6306802021861**
Option 3 ID : **6306802021863**
Option 4 ID : **6306802021862**
Status : **Answered**
Chosen Option : **2**

Q.5 **Parts of a sentence are given below in jumbled order. Arrange the parts in the correct order to form a meaningful sentence.**
(A) and was searching for them
(B) the grandmother couldn't find
(C) all around the house
(D) placed them on her head
(E) her spectacles because she had

Ans
✔ 1. BEDAC
✘ 2. BADEC
✘ 3. CABED
✘ 4. ADBEC

Question ID : **630680360059**
Option 1 ID : **6306801402182**
Option 2 ID : **6306801402181**
Option 3 ID : **6306801402184**
Option 4 ID : **6306801402183**
Status : **Answered**
Chosen Option : **1**

Q.6 **Select the most appropriate synonym of the given word.**

Derogatory

Ans
✘ 1. Salutary
✘ 2. Delegation
✘ 3. Derivative
✔ 4. Insulting

Question ID : **630680360816**
Option 1 ID : **6306801405138**
Option 2 ID : **6306801405140**
Option 3 ID : **6306801405137**
Option 4 ID : **6306801405139**
Status : **Answered**
Chosen Option : **4**

Q.7 **Select the option that expresses the given sentence in active voice.**
A comic play was performed by the comedian.

Ans
✘ 1. The comedian do perform a comic play.
✔ 2. The comedian performed a comic play.
✘ 3. The comedian performs a comic play.
✘ 4. The comedian performance a comic play.

Question ID : **630680415256**
Option 1 ID : **6306801619773**
Option 2 ID : **6306801619771**
Option 3 ID : **6306801619772**
Option 4 ID : **6306801619774**
Status : **Answered**
Chosen Option : **2**

Q.8 **The following sentence has been split into four segments. Identify the segment that contains a grammatical error.**

The company specialises at / designing, crafting and manufacturing / exquisite, high-quality furniture / of exceptional craftsmanship.

Ans

✗ 1. exquisite, high-quality furniture

✗ 2. of exceptional craftsmanship

✗ 3. designing, crafting and manufacturing

✓ 4. The company specialises at

Question ID : **630680415189**
Option 1 ID : **6306801619505**
Option 2 ID : **6306801619506**
Option 3 ID : **6306801619504**
Option 4 ID : **6306801619503**
Status : **Answered**
Chosen Option : **4**

Q.9 **Select the most appropriate option to fill in the blank.**
Raj is very interested in studying human psychology, so he decided to pursue his master's degree in _____.

Ans

✓ 1. Psychology

✗ 2. Philosophy

✗ 3. Anatomy

✗ 4. Archaeology

Question ID : **630680328427**
Option 1 ID : **6306801277677**
Option 2 ID : **6306801277680**
Option 3 ID : **6306801277678**
Option 4 ID : **6306801277679**
Status : **Answered**
Chosen Option : **3**

Q.10 **Select the most appropriate ANTONYM of the underlined word to fill in the blank.**
Ram <u>failed</u> initially but after a few years, he _____ in every field.

Ans

✗ 1. enjoyed

✓ 2. succeeded

✗ 3. reserved

✗ 4. elevated

Question ID : **630680167047**
Option 1 ID : **630680647051**
Option 2 ID : **630680647048**
Option 3 ID : **630680647049**
Option 4 ID : **630680647050**
Status : **Answered**
Chosen Option : **2**

Q.11 **Select the option that expresses the given sentence in passive voice.**

The research team is conducting experiments on a new drug that could revolutionise the treatment of the disease.

Ans

✗ 1. Experiments are conducted on a new drug that could revolutionise the treatment of the disease from the research team.

✗ 2. Experiments were being conducted on a new drug that could revolutionise the treatment of the disease by the research team.

✗ 3. Experiments have been conducted on a new drug that could have revolutionised the treatment of the disease through the research team.

✓ 4. Experiments are being conducted on a new drug that could revolutionise the treatment of the disease by the research team.

Question ID : **630680374381**
Option 1 ID : **6306801458708**
Option 2 ID : **6306801458707**
Option 3 ID : **6306801458709**
Option 4 ID : **6306801458710**
Status : **Answered**
Chosen Option : **4**

Q.12 **Select the most appropriate synonym of the underlined word.**
Our university is affiliated with various institutes all over the world.

Ans

✗ 1. unalike

✗ 2. diverse

✗ 3. disparate

✓ 4. allied

Question ID : **630680183597**
Option 1 ID : **630680711398**
Option 2 ID : **630680711399**
Option 3 ID : **630680711400**
Option 4 ID : **630680711397**
Status : **Answered**
Chosen Option : **4**

Q.13 **Select the option that can be used as a one-word substitute for the given group of words.**
A performer's first public appearance

Ans

✗ 1. Foundation

✓ 2. Debut

✗ 3. Premise

✗ 4. Dawn

Question ID : **630680414755**
Option 1 ID : **6306801617765**
Option 2 ID : **6306801617766**
Option 3 ID : **6306801617763**
Option 4 ID : **6306801617764**
Status : **Answered**
Chosen Option : **2**

Q.14 **Select the option that can substitute/replace the bracketed word correctly and complete the sentence.**

If he runs, he (get) there in time.

Ans

✗ 1. has to get

✗ 2. is getting

✗ 3. got there in time

✓ 4. will get

Question ID : **630680176613**
Option 1 ID : **630680684674**
Option 2 ID : **630680684675**
Option 3 ID : **630680684672**
Option 4 ID : **630680684673**
Status : **Answered**
Chosen Option : **4**

Q.15 **Select the most appropriate option that can substitute the underlined part in the following sentence.**
The entire speech of the revivalist fell flat with the crowd that was present there.

Ans

✗ 1. had somewhat of a result on

✓ 2. had no effect on

✗ 3. had moderate influence on

✗ 4. had a great impact on

Question ID : **630680317824**
Option 1 ID : **6306801236392**
Option 2 ID : **6306801236390**
Option 3 ID : **6306801236391**
Option 4 ID : **6306801236389**
Status : **Answered**
Chosen Option : **4**

Q.16 **Select the most appropriate synonym of the underlined word.**
We went to a legitimate Mexican restaurant for my birthday, where they served cuisine like you would find in Mexico.

Ans

✗ 1. falsified

✗ 2. fictitious

✗ 3. productive

✓ 4. genuine

Question ID : **630680195035**
Option 1 ID : **630680756631**
Option 2 ID : **630680756629**
Option 3 ID : **630680756632**
Option 4 ID : **630680756630**
Status : **Answered**
Chosen Option : **4**

Q.17 **Select the most appropriate ANTONYM of the given word.**
Dissolve

Ans
✔ 1. Appear
✘ 2. Vanish
✘ 3. Fade
✘ 4. Solve

Question ID : **630680517556**
Option 1 ID : **6306802022621**
Option 2 ID : **6306802022623**
Option 3 ID : **6306802022620**
Option 4 ID : **6306802022622**
Status : **Answered**
Chosen Option : **1**

Q.18 **Select the option that can be used as a one-word substitute for the given group of words.**
To go through an area making a lot of noise and causing damage

Ans
✘ 1. Brutality
✘ 2. Cacophony
✔ 3. Rampage
✘ 4. Violence

Question ID : **630680414624**
Option 1 ID : **6306801617241**
Option 2 ID : **6306801617242**
Option 3 ID : **6306801617239**
Option 4 ID : **6306801617240**
Status : **Answered**
Chosen Option : **4**

Q.19 **The following sentence contains a word with a spelling error. Rectify the sentence by selecting the correct spelling of the identified word from the given options.**

Later on, he was truely apologetic for his misconduct in the meeting.

Ans
✘ 1. Truily
✘ 2. Treuly
✘ 3. Trooly
✔ 4. Truly

Question ID : **630680360841**
Option 1 ID : **6306801405239**
Option 2 ID : **6306801405237**
Option 3 ID : **6306801405240**
Option 4 ID : **6306801405238**
Status : **Answered**
Chosen Option : **4**

Q.20 **The following sentence has been split into four segments. Identify the segment that contains a grammatical error.**
My dog / barks / very louder / at night.

Ans
✗ 1. at night
✗ 2. My dog
✗ 3. barks
✓ 4. very louder

Question ID : **630680383194**
Option 1 ID : **6306801493686**
Option 2 ID : **6306801493683**
Option 3 ID : **6306801493684**
Option 4 ID : **6306801493685**
Status : **Answered**
Chosen Option : **1**

Comprehension:

In the following passage, some words have been deleted. Read the passage carefully and select the most appropriate option to fill in each blank.
The Kuno Palpur National Park, located in Madhya Pradesh's Chambal (1)_____, has an area of 750 square kilometres. It now has leopards, jackals, spotted deer, sambhar, neelgai, chinkara, wild boar, and four-horned antelope, making it a perfect (2)_____ base for felids. Despite strong objections from Gujarat, which (3)_____ that lions were part of the state's heritage, that MP had a poor (4)_____ in wildlife management, and that Kuno Palpur had other big cat species that would (5)_____ lion relocation, the sanctuary was chosen for the lion reintroduction project in 2013.

SubQuestion No : 21

Q.21 **Select the most appropriate option to fill in blank number 1.**

Ans
✓ 1. region
✗ 2. river
✗ 3. reign
✗ 4. reason

Question ID : **630680159206**
Option 1 ID : **630680616288**
Option 2 ID : **630680616291**
Option 3 ID : **630680616289**
Option 4 ID : **630680616290**
Status : **Answered**
Chosen Option : **1**

Comprehension:

In the following passage, some words have been deleted. Read the passage carefully and select the most appropriate option to fill in each blank.
The Kuno Palpur National Park, located in Madhya Pradesh's Chambal (1)_____, has an area of 750 square kilometres. It now has leopards, jackals, spotted deer, sambhar, neelgai, chinkara, wild boar, and four-horned antelope, making it a perfect (2)_____ base for felids. Despite strong objections from Gujarat, which (3)_____ that lions were part of the state's heritage, that MP had a poor (4)_____ in wildlife management, and that Kuno Palpur had other big cat species that would (5)_____ lion relocation, the sanctuary was chosen for the lion reintroduction project in 2013.

SubQuestion No : 22

Q.22 Select the most appropriate option to fill in blank number 2.

Ans
✗ 1. guard
✗ 2. fun
✓ 3. prey
✗ 4. aid

Question ID : **630680159207**
Option 1 ID : **630680616293**
Option 2 ID : **630680616292**
Option 3 ID : **630680616294**
Option 4 ID : **630680616295**
Status : **Answered**
Chosen Option : **1**

Comprehension:

In the following passage, some words have been deleted. Read the passage carefully and select the most appropriate option to fill in each blank.
The Kuno Palpur National Park, located in Madhya Pradesh's Chambal (1)_____, has an area of 750 square kilometres. It now has leopards, jackals, spotted deer, sambhar, neelgai, chinkara, wild boar, and four-horned antelope, making it a perfect (2)_____ base for felids. Despite strong objections from Gujarat, which (3)_____ that lions were part of the state's heritage, that MP had a poor (4)_____ in wildlife management, and that Kuno Palpur had other big cat species that would (5)_____ lion relocation, the sanctuary was chosen for the lion reintroduction project in 2013.

SubQuestion No : 23

Q.23 Select the most appropriate option to fill in blank number 3.

Ans
✗ 1. accused
✓ 2. claimed
✗ 3. restricted
✗ 4. adjourned

Question ID : **630680159208**
Option 1 ID : **630680616299**
Option 2 ID : **630680616297**
Option 3 ID : **630680616296**
Option 4 ID : **630680616298**
Status : **Answered**
Chosen Option : **2**

Comprehension:

In the following passage, some words have been deleted. Read the passage carefully and select the most appropriate option to fill in each blank.
The Kuno Palpur National Park, located in Madhya Pradesh's Chambal (1)_____, has an area of 750 square kilometres. It now has leopards, jackals, spotted deer, sambhar, neelgai, chinkara, wild boar, and four-horned antelope, making it a perfect (2)_____ base for felids. Despite strong objections from Gujarat, which (3)_____ that lions were part of the state's heritage, that MP had a poor (4)_____ in wildlife management, and that Kuno Palpur had other big cat species that would (5)_____ lion relocation, the sanctuary was chosen for the lion reintroduction project in 2013.

SubQuestion No : 24

Q.24 Select the most appropriate option to fill in blank number 4.

Ans

✗ 1. loss

✓ 2. record

✗ 3. summary

✗ 4. gaze

Question ID : **630680159209**
Option 1 ID : **630680616303**
Option 2 ID : **630680616300**
Option 3 ID : **630680616301**
Option 4 ID : **630680616302**
Status : **Answered**
Chosen Option : **2**

Comprehension:

In the following passage, some words have been deleted. Read the passage carefully and select the most appropriate option to fill in each blank.
The Kuno Palpur National Park, located in Madhya Pradesh's Chambal (1)_____, has an area of 750 square kilometres. It now has leopards, jackals, spotted deer, sambhar, neelgai, chinkara, wild boar, and four-horned antelope, making it a perfect (2)_____ base for felids. Despite strong objections from Gujarat, which (3)_____ that lions were part of the state's heritage, that MP had a poor (4)_____ in wildlife management, and that Kuno Palpur had other big cat species that would (5)_____ lion relocation, the sanctuary was chosen for the lion reintroduction project in 2013.

SubQuestion No : 25

Q.25 Select the most appropriate option to fill in blank number 5.

Ans

✓ 1. Jeopardise

✗ 2. channelise

✗ 3. Innocuous

✗ 4. safeguard

Question ID : **630680159210**
Option 1 ID : **630680616307**
Option 2 ID : **630680616305**
Option 3 ID : **630680616306**
Option 4 ID : **630680616304**
Status : **Answered**
Chosen Option : **1**

Combined Graduate Level Examination 2024 Tier I

Roll Number	
Candidate Name	
Venue Name	
Exam Date	25/09/2024
Exam Time	12:30 PM - 1:30 PM
Subject	Combined Graduate Level Examination Tier I

Section : **General Intelligence and Reasoning**

Q.1 जब दर्पण को दर्शाए गए अनुसार MN पर रखा जाता है, तो दी गई आकृति के सही दर्पण प्रतिबिंब का चयन करें।

Ans

✗ 1.

✗ 2.

✓ 3.

✗ 4.

Question ID : **630680389691**
Option 1 ID : **6306801519225**
Option 2 ID : **6306801519223**
Option 3 ID : **6306801519224**
Option 4 ID : **6306801519222**
Status : **Answered**
Chosen Option : **3**

Q.2 एक कागज को नीचे दिखाए गए चित्र के अनुसार मोड़ा और काटा जाता है। खोलने पर यह कैसा दिखाई देगा?

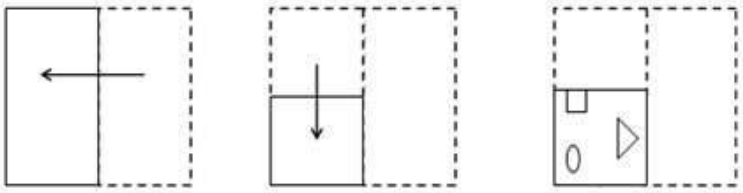

Ans

✗ 1.
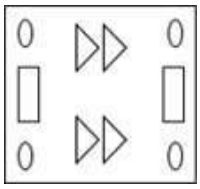

✗ 2.
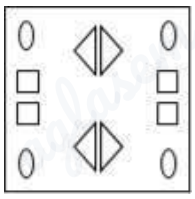

✓ 3.
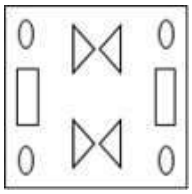

✗ 4.
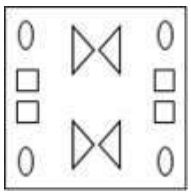

Question ID : **630680281038**
Option 1 ID : **6306801092387**
Option 2 ID : **6306801092390**
Option 3 ID : **6306801092389**
Option 4 ID : **6306801092388**
Status : **Answered**
Chosen Option : **3**

Q.3 उस विकल्प का चयन कीजिए जो पाँचवें पद से उसी प्रकार संबंधित है जैसे दूसरा पद पहले पद से और चौथा पद तीसरे पद से संबंधित है।
EYES : FTFZ :: MIND : OENJ :: REST : ?

Ans
✓ 1. TUSF
✗ 2. STRE
✗ 3. STSF
✗ 4. TUFS

Question ID : **630680416202**
Option 1 ID : **6306801623572**
Option 2 ID : **6306801623571**
Option 3 ID : **6306801623574**
Option 4 ID : **6306801623573**
Status : **Answered**
Chosen Option : **1**

Q.4 'जिद्दी' (Obstinate), 'हठी' (Stubborn) से उसी प्रकार संबंधित है, जिस प्रकार 'दृढ़प्रतिज्ञ' (Resolute) '_____' से संबंधित है।
(शब्दों को सार्थक हिंदी शब्द माना जाना चाहिए और शब्दों को अक्षरों की संख्या/व्यंजनों/स्वरों की संख्या के आधार पर एक दूसरे से संबंधित नहीं किया जाना चाहिए।)

Ans
✔ 1. कृतसंकल्प (Determined)
✘ 2. डगमगाना (Wavering)
✘ 3. विचारपूर्ण (Thoughtful)
✘ 4. थरथराना (Dithering)

Question ID : **630680416707**
Option 1 ID : **6306801625593**
Option 2 ID : **6306801625591**
Option 3 ID : **6306801625594**
Option 4 ID : **6306801625592**
Status : **Answered**
Chosen Option : **1**

Q.5 दिए गए कथनों और निष्कर्षों को ध्यानपूर्वक पढ़िए। यह मानते हुए कि कथनों में दी गई जानकारी सत्य है, भले ही यह सामान्य रूप से ज्ञात तथ्यों से भिन्न प्रतीत होती हो, तय कीजिए कि दिए गए निष्कर्षों में से कौन-से निष्कर्ष कथनों का तार्किक रूप से अनुसरण करते हैं।
कथन:
सभी पेपर, पेंसिलें हैं।
सभी पेंसिलें, रबड़(इरेज़र) हैं।
सभी रबड़ (इरेज़र), पेन हैं।
निष्कर्ष:
I. सभी पेन, पेपर हैं।
II. कुछ पेपर, रबड़(इरेज़र) हैं।
III. कुछ पेन, पेंसिलें हैं।

Ans
✔ 1. केवल निष्कर्ष II और III अनुसरण करते हैं
✘ 2. केवल निष्कर्ष I और III अनुसरण करते हैं
✘ 3. सभी निष्कर्ष अनुसरण करते हैं
✘ 4. केवल निष्कर्ष I और II अनुसरण करते हैं

Question ID : **630680416462**
Option 1 ID : **6306801624613**
Option 2 ID : **6306801624612**
Option 3 ID : **6306801624614**
Option 4 ID : **6306801624611**
Status : **Answered**
Chosen Option : **1**

Q.6 निम्नलिखित समीकरण को सही करने के लिए किन दो चिह्नों को आपस में बदलना चाहिए?
139 + 40 ÷ 5 - 168 × 3 = 283

Ans
✘ 1. + और ÷
✘ 2. − और ×
✘ 3. − और +
✔ 4. ÷ और ×

Question ID : **630680204291**
Option 1 ID : **630680792250**
Option 2 ID : **630680792249**
Option 3 ID : **630680792248**
Option 4 ID : **630680792247**
Status : **Answered**
Chosen Option : **4**

Q.7 एक निश्चित तर्क का अनुसरण करते हुए 17, 102 से संबंधित है। उसी तर्क का अनुसरण करते हुए, 29, 174 से संबंधित है। उसी तर्क का अनुसरण करते हुए, 39 निम्नलिखित में से किससे संबंधित है?

(नोट: संख्याओं को उसके घटक अंकों में तोड़े बिना, पूर्ण संख्याओं पर संक्रियाएं की जानी चाहिए। उदाहरण के लिए संख्या 13 को लें - 13 पर संक्रियाएं, जैसे कि 13 में जोड़ना/घटाना/गुणा करना आदि, की जा सकती हैं। 13 को 1 और 3 में तोड़ने और फिर 1 और 3 पर गणितीय संक्रियाएं करने की अनुमति नहीं है)

Ans
✗ 1. 238
✗ 2. 230
✗ 3. 228
✓ 4. 234

Question ID : **630680344649**
Option 1 ID : **6306801340908**
Option 2 ID : **6306801340905**
Option 3 ID : **6306801340906**
Option 4 ID : **6306801340907**
Status : **Answered**
Chosen Option : **4**

Q.8 एक निश्चित कोड भाषा में, 'CLERK' को 'BKEQJ' लिखा जाता है और 'OFFICE' को 'OEEIBE' लिखा जाता है। उसी भाषा में 'POST' को कैसे लिखा जाएगा?

Ans
✗ 1. OSOR
✗ 2. RSOO
✓ 3. OORS
✗ 4. OROS

Question ID : **630680416132**
Option 1 ID : **6306801623294**
Option 2 ID : **6306801623291**
Option 3 ID : **6306801623292**
Option 4 ID : **6306801623293**
Status : **Answered**
Chosen Option : **3**

Q.9 नीचे एक ही पासे की दो अलग-अलग स्थितियाँ दी गई हैं। संख्या 5 वाले फलक के विपरीत फलक पर कौन-सी संख्या है?

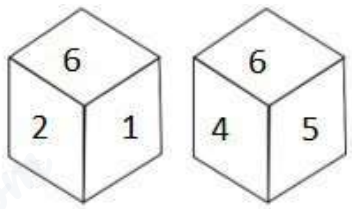

Ans
✗ 1. 2
✓ 2. 1
✗ 3. 6
✗ 4. 3

Question ID : **630680313770**
Option 1 ID : **6306801220922**
Option 2 ID : **6306801220921**
Option 3 ID : **6306801220923**
Option 4 ID : **6306801220924**
Status : **Answered**
Chosen Option : **2**

Q.10 निम्नलिखित श्रृंखला में, केवल एक अक्षर-समूह गलत है। गलत अक्षर-समूह का चयन कीजिए।
ZXU SQN LKI ECZ XVS

Ans
✗ 1. XVS
✗ 2. ECZ
✗ 3. SQN
✓ 4. LKI

Question ID : **630680790686**
Option 1 ID : **6306803098497**
Option 2 ID : **6306803098499**
Option 3 ID : **6306803098498**
Option 4 ID : **6306803098496**
Status : **Answered**
Chosen Option : **4**

Q.11 एक निश्चित तर्क का पालन करते हुए 18, 90 से संबंधित है। उसी तर्क का अनुसरण करते हुए, 31, 155 से संबंधित है। उसी तर्क का अनुसरण करते हुए, 52 निम्नलिखित में से किससे संबंधित है?

(नोट: संख्याओं को उसके घटक अंकों में तोड़े बिना, पूर्ण संख्याओं पर संक्रियाएं की जानी चाहिए। उदाहरण के लिए संख्या 13 को लें - 13 पर संक्रियाएं, जैसे कि 13 में जोड़ना/घटाना/गुणा करना आदि, की जा सकती हैं। 13 को 1 और 3 में तोड़ने और फिर 1 और 3 पर गणितीय संक्रियाएं करने की अनुमति नहीं है)

Ans
✓ 1. 260
✗ 2. 256
✗ 3. 265
✗ 4. 248

Question ID : **630680344648**
Option 1 ID : **6306801340904**
Option 2 ID : **6306801340903**
Option 3 ID : **6306801340902**
Option 4 ID : **6306801340901**
Status : **Answered**
Chosen Option : **1**

Q.12 यदि RICKET शब्द के सभी अक्षरों को अंग्रेजी वर्णानुक्रम में व्यवस्थित किया जाए, तो कितने अक्षरों की स्थिति अपरिवर्तित बनी रहेगी?

Ans
✗ 1. एक
✓ 2. दो
✗ 3. किसी की भी नहीं
✗ 4. तीन

Question ID : **630680348539**
Option 1 ID : **6306801356446**
Option 2 ID : **6306801356447**
Option 3 ID : **6306801356445**
Option 4 ID : **6306801356448**
Status : **Answered**
Chosen Option : **2**

Q.13 दी गई आकृति में कितने त्रिभुज हैं?

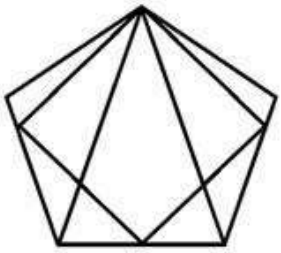

Ans
✗ 1. 10
✗ 2. 11
✗ 3. 12
✓ 4. 13

Question ID : **630680295189**
Option 1 ID : **6306801148480**
Option 2 ID : **6306801148481**
Option 3 ID : **6306801148482**
Option 4 ID : **6306801148483**
Status : **Answered**
Chosen Option : **4**

Q.14 दिए गए विकल्पों में से उस संख्या का चयन कीजिए, जो निम्नलिखित शृंखला में प्रश्न-चिह्न (?) को प्रतिस्थापित कर सकती है।
66, 75, 86, 99, 114, ?

Ans
✗ 1. 139
✗ 2. 140
✓ 3. 131
✗ 4. 135

Question ID : **630680411897**
Option 1 ID : **6306801606426**
Option 2 ID : **6306801606425**
Option 3 ID : **6306801606424**
Option 4 ID : **6306801606423**
Status : **Answered**
Chosen Option : **3**

Q.15 निम्नलिखित चार विकल्पों में से तीन किसी न किसी रूप में समान हैं और इस प्रकार, एक समूह बनाते हैं। कौन-सा विकल्प उस समूह से संबंधित नहीं है?
(ध्यान दें: संख्याओं को उनके घटक अंकों में तोड़े बिना, संक्रियाएं पूर्ण संख्याओं पर की जानी चाहिए। उदाहरण के लिए 13 को लें- संख्या 13 में की जाने वाली संक्रिया, जैसे कि जोड़ना/घटाना/गुणा करना केवल 13 में किया जा सकता है। 13 को अंक 1 और 3 में तोड़ना और फिर 1 और 3 के साथ गणितीय संक्रियाएं करने की अनुमति नहीं है।)

Ans
✗ 1. 36 – 88 – 80
✗ 2. 23 – 56 -51
✗ 3. 34 – 56 – 62
✓ 4. 68 – 54 – 94

Question ID : **630680196583**
Option 1 ID : **630680762634**
Option 2 ID : **630680762631**
Option 3 ID : **630680762632**
Option 4 ID : **630680762633**
Status : **Not Answered**
Chosen Option : **--**

Q.16 संख्याओं के दो सेट नीचे दिए गए हैं। संख्याओं के प्रत्येक सेट में, पहले नंबर पर कुछ गणितीय संक्रिया(ओं) का परिणाम दूसरे नंबर पर होता है। इसी प्रकार, दूसरे नंबर पर कुछ गणितीय संक्रिया(ओं) का परिणाम तीसरे नंबर पर होता है, और इसी प्रकार आगे भी होता है। दिए गए विकल्पों में से कौन-सा विकल्प दिए गए सेटों की तरह समान संक्रियाओं वाले सेट का अनुसरण करता है?

(नोट: संख्याओं को उनके घटक अंकों में तोड़े बिना, ये संक्रियाएँ संपूर्ण संख्याओं पर की जानी चाहिए। उदाहरण के लिए 13 को लीजिए - 13 पर संक्रियाएँ जैसे कि 13 में जोड़ना/घटाना/गुणा करना, की जा सकती हैं। 13 को 1 और 3 में तोड़ना और फिर 1 और 3 पर गणितीय संक्रियाएँ करने की अनुमति नहीं है।)

8 – 33 – 66 – 81; 11 – 36 – 72– 87

Ans
1. 18 – 43 – 86 – 100
2. 15 – 40 – 80 – 95
3. 21 – 46 – 82 – 107
4. 6 – 31 – 62 – 97

Question ID : **630680791156**
Option 1 ID : **6306803100350**
Option 2 ID : **6306803100348**
Option 3 ID : **6306803100347**
Option 4 ID : **6306803100349**
Status : **Answered**
Chosen Option : **2**

Q.17 दिए गए विकल्पों में से उस आकृति का चयन कीजिए जो प्रश्न चिह्न(?) को प्रतिस्थापित कर सकती है और शृंखला को तार्किक रूप से पूरा कर सकती है।

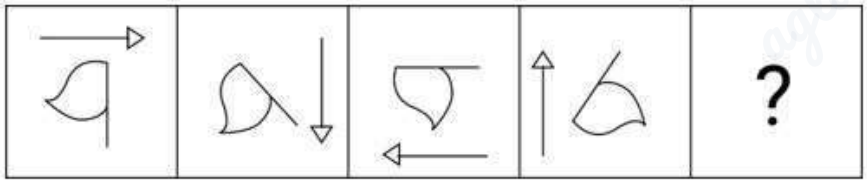

Ans

✗ 1.

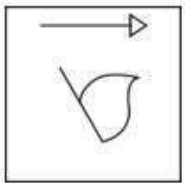

✗ 2.

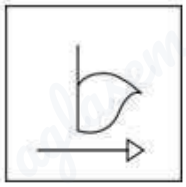

✗ 3.

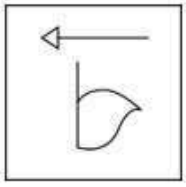

✓ 4.

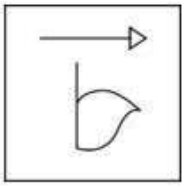

Question ID : **630680332549**
Option 1 ID : **6306801293636**
Option 2 ID : **6306801293635**
Option 3 ID : **6306801293634**
Option 4 ID : **6306801293633**
Status : **Answered**
Chosen Option : **4**

Q.18 एक निश्चित कूट भाषा में, 'DRAPE' को '65432' के रूप में कूटबद्ध किया जाता है और 'TAPED' को '24596' के रूप में कूटबद्ध किया जाता है। उसी भाषा में 'R' के लिए क्या कूट होगा?

Ans

✗ 1. 6

✗ 2. 2

✗ 3. 9

✓ 4. 3

Question ID : **630680296857**
Option 1 ID : **6306801155073**
Option 2 ID : **6306801155074**
Option 3 ID : **6306801155072**
Option 4 ID : **6306801155071**
Status : **Answered**
Chosen Option : **4**

Q.19 दिए गए विकल्पों में से उस आकृति की पहचान कीजिए जिसे प्रश्न चिह्न (?) के स्थान पर रखने पर श्रृंखला तार्किक रूप से पूरी हो जाएगी।

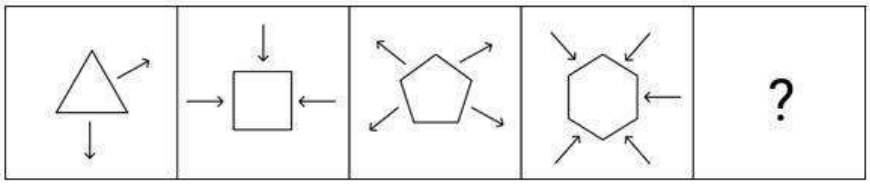

Ans

✔ 1. 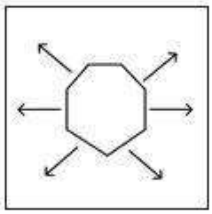

✗ 2. 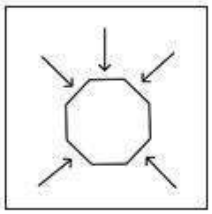

✗ 3. 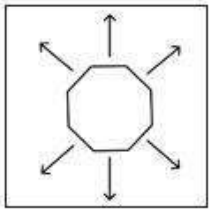

✗ 4. 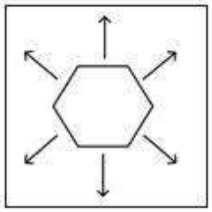

Question ID : **630680296885**
Option 1 ID : **6306801155184**
Option 2 ID : **6306801155186**
Option 3 ID : **6306801155185**
Option 4 ID : **6306801155183**
Status : **Answered**
Chosen Option : **1**

Q.20 CARDBOARD' शब्द के सभी अक्षरों को वर्णानुक्रम में व्यवस्थित किया जाता है। नौ अक्षरों के नवसंरचित समूह में बाएं से चौथे और दाएं से दूसरे अक्षर के बीच अंग्रेजी वर्णमाला श्रृंखला में कितने अक्षर हैं?

Ans
✔ 1. 14
✗ 2. 12
✗ 3. 10
✗ 4. 16

Question ID : **63068082916**
Option 1 ID : **630680321526**
Option 2 ID : **630680321527**
Option 3 ID : **630680321524**
Option 4 ID : **630680321525**
Status : **Answered**
Chosen Option : **1**

Q.21 एक निश्चित कूट भाषा में,
A + B का अर्थ है 'A, B का पुत्र है',
A − B का अर्थ है 'A, B की पत्नी है',
A × B का अर्थ है 'A, B का भाई है' और
A ÷ B का अर्थ है 'A, B की माता है'।
उपरोक्त के आधार पर, यदि 'P − M + R ÷ T × S' है, तो T, P से किस प्रकार संबंधित है?

Ans
✗ 1. बहन
✗ 2. भाभी
✗ 3. भाई
✓ 4. जेठ/देवर

Question ID : **630680284897**
Option 1 ID : **6306801107590**
Option 2 ID : **6306801107589**
Option 3 ID : **6306801107588**
Option 4 ID : **6306801107587**
Status : **Answered**
Chosen Option : **4**

Q.22 दिए गए समीकरण को सही करने के लिए किन दो संख्याओं (अंक नहीं) को आपस में बदलना चाहिए?
15 + 5 × 8 – 72 ÷ 4 + 16 × 3 = 101

Ans
✗ 1. 5 और 4
✗ 2. 8 और 4
✓ 3. 5 और 3
✗ 4. 15 और 16

Question ID : **630680319376**
Option 1 ID : **6306801242410**
Option 2 ID : **6306801242412**
Option 3 ID : **6306801242411**
Option 4 ID : **6306801242409**
Status : **Answered**
Chosen Option : **3**

Q.23 अक्षरों के उस सही संयोजन का चयन कीजिए, जिसके अक्षरों को नीचे दी गई श्रृंखला के रिक्त स्थानों में क्रमिक रूप से भरने पर श्रृंखला तार्किक रूप से पूर्ण हो जाएगी।
B_FH_LNP_T_X

Ans
✗ 1. CIQW
✗ 2. CKSU
✗ 3. DIQU
✓ 4. DJRV

Question ID : **630680318697**
Option 1 ID : **6306801239796**
Option 2 ID : **6306801239794**
Option 3 ID : **6306801239793**
Option 4 ID : **6306801239795**
Status : **Answered**
Chosen Option : **4**

Q.24 जब दर्पण को नीचे दर्शाए गए अनुसार MN पर रखा जाता है तो दी गई आकृति के सही दर्पण प्रतिबिंब का चयन कीजिए।

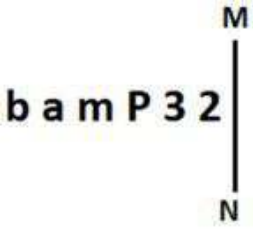

Ans
✗ 1. 2 Ɛ ϥ m e d
✗ 2. Ƨ P 3 m ɒ d
✓ 3. Ƨ Ɛ ϥ m ɒ d
✗ 4. Ƨ Ɛ ϥ m ɒ b

Question ID : **630680356663**
Option 1 ID : **6306801388654**
Option 2 ID : **6306801388655**
Option 3 ID : **6306801388656**
Option 4 ID : **6306801388653**
Status : **Answered**
Chosen Option : **3**

Q.25 अंग्रेजी वर्णमाला क्रम के आधार पर, निम्नलिखित चार अक्षर-समूहों में से तीन किसी निश्चित तरीके से एकसमान हैं और इस प्रकार एक समूह बनाते हैं। कौन-सा अक्षर-समूह उस समूह से संबंधित नहीं है? (नोट: असंगत अक्षर-समूह, व्यंजनों/स्वरों की संख्या या अक्षर-समूह में इनके स्थान पर आधारित नहीं है।)

Ans
✓ 1. TWW
✗ 2. QST
✗ 3. IKL
✗ 4. ACD

Question ID : **630680812278**
Option 1 ID : **6306803182557**
Option 2 ID : **6306803182559**
Option 3 ID : **6306803182558**
Option 4 ID : **6306803182560**
Status : **Answered**
Chosen Option : **1**

Section : **General Awareness**

Q.1 निम्नलिखित में से कौन-सा पूँजीगत प्राप्तियों का उदाहरण है?

Ans
✓ 1. सरकारी परिसंपत्तियों की बिक्री से राजस्व
✗ 2. अन्य सरकारों से सहायता अनुदान
✗ 3. सरकारी बॉन्ड पर ब्याज
✗ 4. आय पर कर

Question ID : **630680324091**
Option 1 ID : **6306801260859**
Option 2 ID : **6306801260860**
Option 3 ID : **6306801260858**
Option 4 ID : **6306801260857**
Status : **Answered**
Chosen Option : **1**

Q.2 निम्नलिखित में से कौन-सा एवीज (पक्षी) वर्ग का एक सदस्य नहीं है?

Ans
✔ 1. टेरोपस (Pteropus)
✘ 2. सिटैक्यूला (Psittacula)
✘ 3. स्ट्रूथियो (Struthio)
✘ 4. नियोफ्रॉन (Neophron)

Question ID : **630680314163**
Option 1 ID : **6306801222457**
Option 2 ID : **6306801222458**
Option 3 ID : **6306801222459**
Option 4 ID : **6306801222460**
Status : **Not Answered**
Chosen Option : **--**

Q.3 विटामिन B2 की कमी के कारण मुंह के कोनों में दरारें, पपड़ी और स्केलिंग का कारण बनने वाली सूजन-संबंधी स्थिति का क्या नाम है?

Ans
✘ 1. पित्ती (Urticaria)
✘ 2. छालरोग (Psoriasis)
✔ 3. ओष्ठविदरता (Cheilosis)
✘ 4. कुलविशिष्ट त्वचाशोथ (Atopic dermatitis)

Question ID : **630680407469**
Option 1 ID : **6306801588817**
Option 2 ID : **6306801588815**
Option 3 ID : **6306801588814**
Option 4 ID : **6306801588816**
Status : **Answered**
Chosen Option : **2**

Q.4 संगीत बाल प्रकाश पुस्तक किसने लिखी है?

Ans
✘ 1. भीमसेन जोशी
✘ 2. पंडित नारायण राव
✘ 3. विष्णु नारायण भातखंडे
✔ 4. विष्णु दिगंबर पलुस्कर

Question ID : **630680157710**
Option 1 ID : **630680610371**
Option 2 ID : **630680610368**
Option 3 ID : **630680610370**
Option 4 ID : **630680610369**
Status : **Answered**
Chosen Option : **3**

Q.5 निम्नलिखित में से कौन-सी नदी हिमालय से निकलती है?

Ans
✘ 1. गोदावरी
✘ 2. नर्मदा
✔ 3. गंगा
✘ 4. तापी

Question ID : **630680302670**
Option 1 ID : **6306801177349**
Option 2 ID : **6306801177347**
Option 3 ID : **6306801177348**
Option 4 ID : **6306801177346**
Status : **Answered**
Chosen Option : **3**

Q.6 जनवरी 2023 में कोनेरू हंपी ने अल्माटी, क़ज़ाख्स्तान में आयोजित _____ में भारत का पहला रजत पदक जीता।

Ans
✗ 1. एफ़आईडीई विश्व शतरंज चैंपियनशिप
✓ 2. विश्व ब्लिट्ज शतरंज चैंपियनशिप
✗ 3. विश्व कॉरस्पान्डन्स शतरंज चैंपियनशिप
✗ 4. विश्व रैपिड शतरंज चैंपियनशिप

Question ID : **630680327586**
Option 1 ID : **6306801274343**
Option 2 ID : **6306801274344**
Option 3 ID : **6306801274342**
Option 4 ID : **6306801274341**
Status : **Not Answered**
Chosen Option : **--**

Q.7 रासायनिक सूत्र C_9H_{20} वाले ऋजु श्रृंखलित ऐल्केन का नाम बताइए, जिसका उपयोग एक शोध रसायन के रूप में और जैवनिम्नीकरणीय अपमार्जक के निर्माण में किया जाता है।

Ans
✗ 1. डोडेकेन (Dodecane)
✗ 2. नोनाडेकेन (Nonadecane)
✗ 3. इकोसेन (Icosane)
✓ 4. नोनेन (Nonane)

Question ID : **630680302890**
Option 1 ID : **6306801178222**
Option 2 ID : **6306801178224**
Option 3 ID : **6306801178225**
Option 4 ID : **6306801178223**
Status : **Answered**
Chosen Option : **4**

Q.8 निम्नलिखित में से कौन-सा राज्य उन राज्यों में से एक है जहां कोई पंचायती राज संस्था नहीं है?

Ans
✗ 1. पंजाब
✓ 2. नागालैंड
✗ 3. गुजरात
✗ 4. असम

Question ID : **630680413058**
Option 1 ID : **6306801611056**
Option 2 ID : **6306801611057**
Option 3 ID : **6306801611055**
Option 4 ID : **6306801611058**
Status : **Answered**
Chosen Option : **2**

Q.9 निम्नलिखित में से किस पार्श्व गायक/गायिका को कर्नाटक रत्न पुरस्कार 2005 प्रदान किया गया?

Ans
✓ 1. भीमसेन जोशी
✗ 2. सिस्टला जानकी
✗ 3. रवीन्द्र जैन
✗ 4. पंडित जसराज

Question ID : **630680511810**
Option 1 ID : **6306802000211**
Option 2 ID : **6306802000212**
Option 3 ID : **6306802000213**
Option 4 ID : **6306802000210**
Status : **Answered**
Chosen Option : **4**

Q.10 जब आप लेड नाइट्रेट पाउडर को क्थन नली में लेते हैं और उसे गर्म करते हैं, तो आप देखेंगे कि भूरे रंग के धुएं का उत्सर्जन होता है जो_____का होता है।

Ans
✗ 1. नाइट्रस ऑक्साइड
✓ 2. नाइट्रोजन डाइऑक्साइड
✗ 3. नाइट्रिक ऑक्साइड
✗ 4. डाइनाइट्रोजन ट्राइऑक्साइड

Question ID : **63068052319**
Option 1 ID : **630680201379**
Option 2 ID : **630680201380**
Option 3 ID : **630680201381**
Option 4 ID : **630680201378**
Status : **Answered**
Chosen Option : **3**

Q.11 दिल्ली के निम्नलिखित में से किस सुल्तान ने चांदी के टंका और तांबे के जीतल नामक दो सिक्के चलवाए?

Ans
✗ 1. गयासुद्दीन बलबन
✗ 2. कुतुबुद्दीन ऐबक
✗ 3. बहलोल लोदी
✓ 4. इल्तुतमिश

Question ID : **630680412413**
Option 1 ID : **6306801608476**
Option 2 ID : **6306801608477**
Option 3 ID : **6306801608475**
Option 4 ID : **6306801608478**
Status : **Answered**
Chosen Option : **4**

Q.12 न्यू मूर द्वीप भौगोलिक रूप से निम्नलिखित में से किसके समीप है?

Ans
✗ 1. पाकिस्तान
✗ 2. श्रीलंका
✓ 3. बांग्लादेश
✗ 4. म्यांमार

Question ID : **630680409601**
Option 1 ID : **6306801597236**
Option 2 ID : **6306801597234**
Option 3 ID : **6306801597235**
Option 4 ID : **6306801597233**
Status : **Answered**
Chosen Option : **4**

Q.13 निम्नलिखित में से किसने मेगस्थनीज़ को चन्द्रगुप्त मौर्य के दरबार में भेजा था?

Ans
✗ 1. एंटिओकस प्रथम सोटर
✗ 2. अलेक्ज़ेंडर तृतीय
✗ 3. एंटिओकस तृतीय
✓ 4. सेल्यूकस प्रथम निकेटर

Question ID : **630680412486**
Option 1 ID : **6306801608770**
Option 2 ID : **6306801608768**
Option 3 ID : **6306801608767**
Option 4 ID : **6306801608769**
Status : **Answered**
Chosen Option : **4**

Q.14 बिहू त्यौहार किस राज्य का प्रमुख त्यौहार है?

Ans
✗ 1. राजस्थान
✓ 2. असम
✗ 3. केरल
✗ 4. पंजाब

Question ID : **630680158771**
Option 1 ID : **630680614579**
Option 2 ID : **630680614576**
Option 3 ID : **630680614577**
Option 4 ID : **630680614578**
Status : **Answered**
Chosen Option : **2**

Q.15 जयपाल सिंह मुंडा निम्नलिखित में से किस खेल से संबंधित हैं?

Ans
✓ 1. हॉकी
✗ 2. कबड्डी
✗ 3. बैडमिंटन
✗ 4. क्रिकेट

Question ID : **630680510830**
Option 1 ID : **6306801996451**
Option 2 ID : **6306801996453**
Option 3 ID : **6306801996450**
Option 4 ID : **6306801996452**
Status : **Answered**
Chosen Option : **1**

Q.16 1947 से 1990 की अवधि के दौरान, कितनी पंचवर्षीय योजनाएँ पूरी की गईं?

Ans
✗ 1. 6
✓ 2. 7
✗ 3. 9
✗ 4. 8

Question ID : **630680410658**
Option 1 ID : **6306801601388**
Option 2 ID : **6306801601389**
Option 3 ID : **6306801601391**
Option 4 ID : **6306801601390**
Status : **Answered**
Chosen Option : **2**

Q.17 अनुच्छेद 158 के अनुसार, राज्यपाल संसद के किसी भी सदन या _____ अनुसूची में निर्दिष्ट किसी भी राज्य के विधानमंडल के किसी भी सदन का सदस्य नहीं होगा।

Ans
✗ 1. तीसरी
✗ 2. पाँचवीं
✓ 3. पहली
✗ 4. सातवीं

Question ID : **630680305036**
Option 1 ID : **6306801186691**
Option 2 ID : **6306801186690**
Option 3 ID : **6306801186692**
Option 4 ID : **6306801186689**
Status : **Not Answered**
Chosen Option : **--**

Q.18 अंतः उष्णकटिबंधीय अभिसरण क्षेत्र (ITCZ-इंटर ट्रॉपिकल कन्वर्जेंस ज़ोन) किस महीने में लगभग 20°N-25°N अक्षांश (गंगा के मैदान के ऊपर) पर स्थित होता है?

Ans
✗ 1. मई
✓ 2. जुलाई
✗ 3. जून
✗ 4. अगस्त

Question ID : **63068094174**
Option 1 ID : **630680365391**
Option 2 ID : **630680365393**
Option 3 ID : **630680365392**
Option 4 ID : **630680365394**
Status : **Not Answered**
Chosen Option : **--**

Q.19 मीराबाई चानू ने किस राष्ट्रमंडल खेल में रजत पदक जीता था?

Ans
✓ 1. 2014
✗ 2. 2022
✗ 3. 2010
✗ 4. 2018

Question ID : **630680435731**
Option 1 ID : **6306801700846**
Option 2 ID : **6306801700848**
Option 3 ID : **6306801700845**
Option 4 ID : **6306801700847**
Status : **Answered**
Chosen Option : **4**

Q.20 औपनिवेशिक शोषण की आलोचना 'धन-निष्कासन' (Drain of Wealth) निम्नलिखित में से किस राष्ट्रवादी नेता द्वारा दी गई थी?

Ans
✓ 1. दादाभाई नौरोजी
✗ 2. चक्रवर्ती राजगोपालाचारी
✗ 3. राजेन्द्र प्रसाद
✗ 4. सरदार वल्लभभाई पटेल

Question ID : **630680412376**
Option 1 ID : **6306801608328**
Option 2 ID : **6306801608330**
Option 3 ID : **6306801608329**
Option 4 ID : **6306801608327**
Status : **Answered**
Chosen Option : **1**

Q.21 भारतीय चाय बोर्ड की रिपोर्ट (2021-22) के अनुसार भारत में राज्यों का कौन-सा समूह सबसे बड़ा चाय उत्पादक है?

Ans
✗ 1. हिमाचल प्रदेश और उत्तराखंड
✓ 2. पश्चिम बंगाल और असम
✗ 3. आंध्र प्रदेश और केरल
✗ 4. तमिलनाडु और केरल

Question ID : **630680216369**
Option 1 ID : **630680839453**
Option 2 ID : **630680839451**
Option 3 ID : **630680839454**
Option 4 ID : **630680839452**
Status : **Answered**
Chosen Option : **2**

Q.22 1875 में न्यूयॉर्क में थियोसोफिकल सोसायटी की स्थापना किसने की थी?

Ans
✗ 1. नौरोजी फरदुनजी और सत्येंद्र नाथ बोस
✗ 2. बाबा दयाल दास और मदन लाल
✓ 3. मैडम एचपी ब्लावात्स्की और कर्नल ओल्कोट
✗ 4. रमाबाई रानाडे और जीके देवधर

Question ID : **630680158738**
Option 1 ID : **630680614446**
Option 2 ID : **630680614447**
Option 3 ID : **630680614444**
Option 4 ID : **630680614445**
Status : **Answered**
Chosen Option : **3**

Q.23 प्रधानमंत्री ग्रामीण आवास योजना में, उत्तर-पूर्वी और हिमालयी राज्यों के लिए इकाई सहायता की लागत केंद्र और राज्य सरकारों के बीच _____ के अनुपात में साझा की जाती है।

Ans
✗ 1. 45 : 55
✗ 2. 60 : 40
✗ 3. 50 : 50
✓ 4. 90 : 10

Question ID : **630680339468**
Option 1 ID : **6306801320444**
Option 2 ID : **6306801320442**
Option 3 ID : **6306801320443**
Option 4 ID : **6306801320441**
Status : **Not Answered**
Chosen Option : **--**

Q.24 'फ्रॉम प्लासी टू पार्टीशन एंड आफ्टर: अ हिस्ट्री ऑफ मॉडर्न इंडिया' ('From Plassey to Partition and After : A History of Modern India') पुस्तक के लेखक/लेखिका कौन हैं?

Ans
✗ 1. डेविड हार्डीमैन
✗ 2. रोमिला थापर
✓ 3. शेखर बंद्योपाध्याय
✗ 4. सुमित सरकार

Question ID : **630680511546**
Option 1 ID : **6306801999309**
Option 2 ID : **6306801999308**
Option 3 ID : **6306801999306**
Option 4 ID : **6306801999307**
Status : **Not Answered**
Chosen Option : **--**

Q.25 यदि कोई 12-वर्षीय-बच्चा, कालीन बनाने वाली एक फैक्ट्री में काम करता पाया जाता है, तो भारत के संविधान के निम्नलिखित में से किस अनुच्छेद का उल्लंघन होगा?

Ans
✗ 1. अनुच्छेद 25
✓ 2. अनुच्छेद 24
✗ 3. अनुच्छेद 23
✗ 4. अनुच्छेद 26

Question ID : **630680229985**
Option 1 ID : **630680892381**
Option 2 ID : **630680892380**
Option 3 ID : **630680892379**
Option 4 ID : **630680892382**
Status : **Answered**
Chosen Option : **2**

Section : **Quantitative Aptitude**

Q.1 नए वर्ष की सेल के दौरान, एक दुकानदार अपने ग्राहकों को '5 स्वेटर खरीदें, 2 स्वेटर मुफ्त पाएं' छूट योजना की पेशकश करता है। दुकानदार द्वारा दिया जाने वाला प्रभावी छूट-प्रतिशत ज्ञात कीजिए।

Ans
✗ 1. 25%
✗ 2. 30%
✗ 3. $22\frac{2}{9}\%$
✓ 4. $28\frac{4}{7}\%$

Question ID : **630680428420**
Option 1 ID : **6306801671725**
Option 2 ID : **6306801671727**
Option 3 ID : **6306801671724**
Option 4 ID : **6306801671726**
Status : **Answered**
Chosen Option : **4**

Q.2 एक पुलिसकर्मी को कुछ दूरी पर एक चोर नजर आया। पुलिसकर्मी उस चोर को पकड़ने के लिए दौड़ने लगा और चोर भी उसी समय दौड़ने लगा। पुलिसकर्मी और चोर दोनों की चाल क्रमशः 12 km प्रति घंटा और 10 km प्रति घंटा थी। चोर को पकड़ने में पुलिस को 30 मिनट लग गए। उनके बीच की प्रारंभिक दूरी (मीटर में) ज्ञात कीजिए।

Ans
✗ 1. 100
✗ 2. 500
✗ 3. 600
✓ 4. 1000

Question ID : **630680428572**
Option 1 ID : **6306801672332**
Option 2 ID : **6306801672334**
Option 3 ID : **6306801672335**
Option 4 ID : **6306801672333**
Status : **Answered**
Chosen Option : **2**

Q.3 30 विद्यार्थियों वाली 8वीं कक्षा में, गणित की परीक्षा ली गई। 10 विद्यार्थियों का औसत स्कोर 90 था। अन्य विद्यार्थियों का औसत स्कोर 75 था। पूरी कक्षा का औसत स्कोर ज्ञात करें।

Ans
✗ 1. 74
✓ 2. 80
✗ 3. 76
✗ 4. 78

Question ID : **630680397728**
Option 1 ID : **6306801550926**
Option 2 ID : **6306801550929**
Option 3 ID : **6306801550927**
Option 4 ID : **6306801550928**
Status : **Answered**
Chosen Option : **2**

Q.4 14 cm त्रिज्या का एक बेलनाकार टैंक जल से भरा है। यदि 616 लीटर जल निकाला जाता है, तो टैंक में जल का स्तर _____ m कम हो जाता है। ($\pi = \frac{22}{7}$ लें)

Ans
✓ 1. 10
✗ 2. 1000
✗ 3. 1
✗ 4. 100

Question ID : **630680421537**
Option 1 ID : **6306801644611**
Option 2 ID : **6306801644614**
Option 3 ID : **6306801644612**
Option 4 ID : **6306801644613**
Status : **Answered**
Chosen Option : **4**

Q.5 दो वृत्त, दो बिंदुओं P और Q पर प्रतिच्छेद करते हैं। PR और PS दो वृत्तों के व्यास हैं। ∠PQR क्या है?

Ans
✔ 1. 90°
✘ 2. 45°
✘ 3. 0°
✘ 4. 60°

Question ID : **630680325060**
Option 1 ID : **6306801264640**
Option 2 ID : **6306801264638**
Option 3 ID : **6306801264637**
Option 4 ID : **6306801264639**
Status : **Answered**
Chosen Option : **1**

Q.6 उस वृत्त का व्यास (cm में) ज्ञात कीजिए, जिसकी परिधि 12 cm और 16 cm त्रिज्या वाले दो वृत्तों की परिधियों के योगफल के बराबर है।

Ans
✘ 1. 28
✘ 2. 64
✔ 3. 56
✘ 4. 32

Question ID : **630680402116**
Option 1 ID : **6306801568152**
Option 2 ID : **6306801568155**
Option 3 ID : **6306801568153**
Option 4 ID : **6306801568154**
Status : **Answered**
Chosen Option : **3**

Q.7 $\tan 72° - \tan 27° - \tan 72° \tan 27°$ का मान ज्ञात कीजिए।

Ans
✘ 1. −2
✘ 2. 0
✔ 3. 1
✘ 4. −1

Question ID : **630680397496**
Option 1 ID : **6306801549909**
Option 2 ID : **6306801549907**
Option 3 ID : **6306801549908**
Option 4 ID : **6306801549906**
Status : **Answered**
Chosen Option : **2**

Q.8 यदि $x = p\,secA\,\cos B,\ y = q\,secA\,sinB$ और $z = r\,tanA$ है, तो निम्नलिखित व्यंजक का मान क्या है? $\frac{x^2}{p^2} + \frac{y^2}{q^2} - \frac{z^2}{r^2}$

Ans
✔ 1. 1

✘ 2. $p^2 - q^2 + r^2$

✘ 3. $p^2 + q^2 - r^2$

✘ 4. 0

Question ID : **630680387095**
Option 1 ID : **6306801509091**
Option 2 ID : **6306801509093**
Option 3 ID : **6306801509092**
Option 4 ID : **6306801509090**
Status : **Answered**
Chosen Option : **3**

Q.9 k' का वह मान ज्ञात कीजिए जिसके लिए समीकरणों के निकाय 4x+6y=7 तथा 6x+(k+4)y-21=0 का एक अद्वितीय हल है।

Ans
✔ 1. $k \neq 5$

✘ 2. $k = 5$

✘ 3. $k = 7$

✘ 4. $k \neq 7$

Question ID : **630680200491**
Option 1 ID : **630680777320**
Option 2 ID : **630680777319**
Option 3 ID : **630680777321**
Option 4 ID : **630680777322**
Status : **Answered**
Chosen Option : **2**

Q.10 एक वृत्ताकार चाप, जिसकी त्रिज्या 14 cm है, केंद्र पर 45° का कोण बनाता है। त्रिज्यखंड का परिमाप (cm में) ज्ञात कीजिए। ($\pi = \frac{22}{7}$ उपयोग कीजिए)

Ans
✘ 1. 38

✔ 2. 39

✘ 3. 28

✘ 4. 34

Question ID : **630680198931**
Option 1 ID : **630680771453**
Option 2 ID : **630680771454**
Option 3 ID : **630680771451**
Option 4 ID : **630680771452**
Status : **Answered**
Chosen Option : **2**

Q.11 यदि $\cot^2\theta - 2\cos^2\theta = 0$ है, जहां $(0^\circ < \theta < 90^\circ)$, तो θ का मान ज्ञात कीजिए।

Ans
✗ 1. 90°
✗ 2. 60°
✓ 3. 45°
✗ 4. 30°

Question ID : **630680397624**
Option 1 ID : **6306801550418**
Option 2 ID : **6306801550419**
Option 3 ID : **6306801550420**
Option 4 ID : **6306801550421**
Status : **Answered**
Chosen Option : **3**

Q.12 दी गई तालिका का अध्ययन कीजिए और निम्नलिखित प्रश्न का उत्तर दीजिए।

दी गई तालिका 2016 - 2019 के दौरान एक संस्थान के विभिन्न शैक्षणिक संकायों में नामांकित छात्रों की संख्या दर्शाती है।

वर्ष	विज्ञान	वाणिज्य	मानविकी
2016	550	457	699
2017	584	554	574
2018	625	332	743
2019	676	444	1223

वर्ष 2016 से 2019 तक, विज्ञान में नामांकित छात्रों की कुल संख्या और मानविकी में नामांकित छात्रों की कुल संख्या के बीच का अंतर कितना है?

Ans
✗ 1. 930
✓ 2. 804
✗ 3. 912
✗ 4. 870

Question ID : **630680523747**
Option 1 ID : **6306802047139**
Option 2 ID : **6306802047141**
Option 3 ID : **6306802047142**
Option 4 ID : **6306802047140**
Status : **Answered**
Chosen Option : **2**

Q.13 The given table shows the number of clerical and officer cadre employees recruited by four different banks A, B, C and D from 2011 to 2014.

Year	A		B		C		D	
	Officer	Clerk	Officer	Clerk	Officer	Clerk	Officer	Clerk
2011	260	458	255	460	205	428	265	470
2012	310	569	286	584	230	539	246	554
2013	350	730	321	725	340	740	361	725
2014	400	890	452	845	380	850	482	860

Compute the ratio of the number of officer cadre employees of bank A to the number of officer cadre employees of bank C.

Ans
✗ 1. 7 : 8
✗ 2. 5 : 6
✓ 3. 8 : 7
✗ 4. 6 : 5

Question ID : **630680523702**
Option 1 ID : **6306802046959**
Option 2 ID : **6306802046961**
Option 3 ID : **6306802046960**
Option 4 ID : **6306802046962**
Status : **Answered**
Chosen Option : **3**

Q.14 यदि m सम संख्या है, तो $(8^m - 1)$ _____ से विभाज्य है।

Ans
✗ 1. 65
✗ 2. 42
✓ 3. 63
✗ 4. 8

Question ID : **630680137220**
Option 1 ID : **630680531474**
Option 2 ID : **630680531476**
Option 3 ID : **630680531475**
Option 4 ID : **630680531477**
Status : **Answered**
Chosen Option : **3**

Q.15 एक चतुर्भुज ABCD में, AB = BC, AD = DC. ∠ABD = 68°,∠ADB = (2y-7)°,∠BDC = 33°,∠DBC = (3x+2)° हैं। तो 2x+3y का मान क्या है?

Ans
✗ 1. 118
✗ 2. 144
✗ 3. 108
✓ 4. 104

Question ID : **630680395259**
Option 1 ID : **6306801541246**
Option 2 ID : **6306801541245**
Option 3 ID : **6306801541247**
Option 4 ID : **6306801541244**
Status : **Not Answered**
Chosen Option : **--**

Q.16 दो पाइप X और Y एक टंकी को क्रमशः 14 घंटे और 21 घंटे में भर सकते हैं। टंकी को भरने के लिए दोनों पाइप एक साथ खोले जाते हैं। खाली टंकी कितने घंटे में भर जायेगी?

Ans
✗ 1. $5\frac{2}{5}$ घंटे

✓ 2. $8\frac{2}{5}$ घंटे

✗ 3. $6\frac{2}{5}$ घंटे

✗ 4. $7\frac{2}{5}$ घंटे

Question ID : **630680457293**
Option 1 ID : **6306801786084**
Option 2 ID : **6306801786087**
Option 3 ID : **6306801786085**
Option 4 ID : **6306801786086**
Status : **Answered**
Chosen Option : **2**

Q.17 K_1 और K_2 के बीच संबंध जिसके लिए रैखिक समीकरणों $K_1x + 3y = 8$ और $4x + K_2y = 16$ का निकाय संपाती रेखाओं को दर्शाता है, क्या है?

Ans
✗ 1. $K_2 + 3K_1 = 0$

✗ 2. $K_1 + K_2 = 0$

✗ 3. $K_2 = K_1$

✓ 4. $K_2 = 3K_1$

Question ID : **630680195490**
Option 1 ID : **630680758432**
Option 2 ID : **630680758431**
Option 3 ID : **630680758430**
Option 4 ID : **630680758429**
Status : **Answered**
Chosen Option : **4**

Q.18 नमन ने 8% वार्षिक साधारण ब्याज की दर से ₹3,48,020 की राशि उधार ली। प्रथम वर्ष की समाप्ति पर, वह उधार ली गई मूल राशि की वापसी के लिए ₹15,090 चुकाता है। यदि नमन दूसरे वर्ष की समाप्ति पर सभी लंबित बकाया राशि का भुगतान करता है, जिसमें प्रथम वर्ष के दौरान अर्जित ब्याज भुगतान भी शामिल है, तो वह दूसरे वर्ष की समाप्ति पर कितना भुगतान (₹ में) करेगा?

Ans
✗ 1. 3,79,386

✗ 2. 3,88,931

✓ 3. 3,87,406

✗ 4. 3,92,733

Question ID : **630680809868**
Option 1 ID : **6306803173053**
Option 2 ID : **6306803173054**
Option 3 ID : **6306803173051**
Option 4 ID : **6306803173052**
Status : **Not Answered**
Chosen Option : **--**

Q.19 एक महिला के व्यय और बचत का अनुपात 4 : 1 है। यदि उसकी आय और व्यय में क्रमशः 20% और 10% की वृद्धि होती है, तो उसकी बचत में प्रतिशत परिवर्तन ज्ञात कीजिए।

Ans
✔ 1. 60%
✘ 2. 40%
✘ 3. 30%
✘ 4. 50%

Question ID : **630680428067**
Option 1 ID : **6306801670315**
Option 2 ID : **6306801670313**
Option 3 ID : **6306801670312**
Option 4 ID : **6306801670314**
Status : **Answered**
Chosen Option : **1**

Q.20 $(x + y)^2 + (x - y)^2$ का मान निम्न में से किसके बराबर होगा?

Ans
✘ 1. $2(x+y)^2$
✘ 2. $(2x+2y)^2$
✘ 3. $4xy$
✔ 4. $2(x^2+y^2)$

Question ID : **630680413552**
Option 1 ID : **6306801613034**
Option 2 ID : **6306801613032**
Option 3 ID : **6306801613035**
Option 4 ID : **6306801613033**
Status : **Answered**
Chosen Option : **4**

Q.21 निम्नलिखित को सरल कीजिए।
[25 −48 ÷ 6 + 12 × 2] + 78 − [5 + 3 of (25 − 2 × 10)]

Ans
✘ 1. 90
✔ 2. 99
✘ 3. 98
✘ 4. 89

Question ID : **630680396690**
Option 1 ID : **6306801546846**
Option 2 ID : **6306801546847**
Option 3 ID : **6306801546849**
Option 4 ID : **6306801546848**
Status : **Answered**
Chosen Option : **2**

Q.22 दी गई तालिका का अध्ययन करें और उसके बाद दिए गए प्रश्न का उत्तर दें।
दी गई तालिका दिए गए वर्षों में एक व्यक्ति की वार्षिक आय (हजार रुपये में) को दर्शाती है।

वर्ष	स्कूल से वेतन	कोचिंग	होम ट्यूशन
2018	132	42	12
2019	148	55	18
2020	166	68	24
2021	178	74	28
2022	196	88	35

दिए गए वर्षों में व्यक्ति ने स्कूल से वेतन के रूप में प्रतिवर्ष औसत कितनी आय अर्जित की है?

Ans
✗ 1. ₹1,58,000
✗ 2. ₹1,74,000
✗ 3. ₹1,48,000
✓ 4. ₹1,64,000

Question ID : **630680422410**
Option 1 ID : **6306801648075**
Option 2 ID : **6306801648074**
Option 3 ID : **6306801648073**
Option 4 ID : **6306801648072**
Status : **Answered**
Chosen Option : **4**

Q.23 एक व्यक्ति को ₹144 में एक वस्तु बेचने पर 28% की हानि होती है। यदि वह इसे ₹288 में बेचता है, तो उसका लाभ/हानि प्रतिशत कितना होगा?

Ans
✗ 1. लाभ, 41%
✗ 2. हानि, 43%
✗ 3. हानि, 46%
✓ 4. लाभ, 44%

Question ID : **630680801373**
Option 1 ID : **6306803140054**
Option 2 ID : **6306803140053**
Option 3 ID : **6306803140055**
Option 4 ID : **6306803140052**
Status : **Answered**
Chosen Option : **4**

Q.24 यदि A : B = 6 : 8 और B : C = 5 : 11 है, तो A : B : C का मान ज्ञात कीजिए।

Ans
✓ 1. 15:20:44
✗ 2. 14:31:25
✗ 3. 11:23:14
✗ 4. 15:32:44

Question ID : **630680915058**
Option 1 ID : **6306803585276**
Option 2 ID : **6306803585279**
Option 3 ID : **6306803585277**
Option 4 ID : **6306803585278**
Status : **Answered**
Chosen Option : **1**

Q.25 5 वर्षों में 5 कंपनियों के माल के कुल निर्यात (₹ लाख में) के लिए निम्नलिखित तालिका पर विचार कीजिए।

कंपनियाँ / वर्ष	R	S	T	U	V
2012	60	40	15	45	25
2013	30	60	70	15	90
2014	51	25	55	100	110
2015	45	51	20	70	65
2016	24	35	60	55	125

यदि वर्ष 2015 में कंपनियों S और U के निर्यात और आयात का अनुपात क्रमशः 3: 2 और 1: 2 है, तो, वर्ष 2015 में कंपनियों S और U का कुल आयात (₹ लाख में) कितना है?

Ans
✔ 1. 174
✘ 2. 187
✘ 3. 157
✘ 4. 121

Question ID : **630680432344**
Option 1 ID : **6306801687385**
Option 2 ID : **6306801687386**
Option 3 ID : **6306801687384**
Option 4 ID : **6306801687383**
Status : **Answered**
Chosen Option : **1**

Section : **English Comprehension**

Q.1 Select the option that expresses the following sentence in passive voice.
He had cleaned the bathroom.

Ans
✔ 1. The bathroom had been cleaned by him.
✘ 2. The bathroom had cleaned by him.
✘ 3. The bathroom has cleaned by him.
✘ 4. The bathroom has been cleaned by him.

Question ID : **630680375423**
Option 1 ID : **6306801462854**
Option 2 ID : **6306801462852**
Option 3 ID : **6306801462851**
Option 4 ID : **6306801462853**
Status : **Answered**
Chosen Option : **2**

Q.2 **Select the sentence that does NOT have a spelling error.**

Ans

✗ 1. She is very particular about pronounciation in her classes.

✓ 2. The movie was very successful in the urban areas, but not among rural audiences.

✗ 3. There were no intermittent showers in the city, as was predicted during the whether forecast.

✗ 4. There wedding was during the summer, which is why we didn't attend it.

Question ID : **630680409934**
Option 1 ID : **6306801598566**
Option 2 ID : **6306801598568**
Option 3 ID : **6306801598567**
Option 4 ID : **6306801598565**
Status : **Answered**
Chosen Option : **1**

Q.3 **The following sentence has been split into four segments. Identify the segment that contains a grammatical error.**
He and his friends / does not / want to / attend the meeting.

Ans

✗ 1. attend the meeting

✗ 2. want to

✓ 3. does not

✗ 4. He and his friends

Question ID : **630680396844**
Option 1 ID : **6306801547447**
Option 2 ID : **6306801547446**
Option 3 ID : **6306801547445**
Option 4 ID : **6306801547444**
Status : **Answered**
Chosen Option : **2**

Q.4 **Select the most appropriate option that can substitute the underlined part in the following sentence.**
We all have to pull our socks up for the upcoming Board exam, if we want to get outstanding grades.

Ans

✗ 1. act in a proper manner

✗ 2. revive interest in old matters

✓ 3. work harder than before

✗ 4. calm down impudent contempt

Question ID : **630680317823**
Option 1 ID : **6306801236385**
Option 2 ID : **6306801236387**
Option 3 ID : **6306801236386**
Option 4 ID : **6306801236388**
Status : **Answered**
Chosen Option : **3**

Q.5 **Identify the INCORRECTLY spelt word in the following sentence.**
Parul is known as a rigteous and honest lady.

Ans
✗ 1. known
✗ 2. honest
✓ 3. rigteous
✗ 4. lady

Question ID : **630680374337**
Option 1 ID : **6306801458539**
Option 2 ID : **6306801458540**
Option 3 ID : **6306801458542**
Option 4 ID : **6306801458541**
Status : **Answered**
Chosen Option : **3**

Q.6 **Select the most appropriate option to substitute the underlined segment in the given sentence.**
The ship launched out on a journey by water or sea of discovery.

Ans
✗ 1. rendezvous
✓ 2. voyage
✗ 3. vespers
✗ 4. verso

Question ID : **630680170441**
Option 1 ID : **630680660360**
Option 2 ID : **630680660358**
Option 3 ID : **630680660357**
Option 4 ID : **630680660359**
Status : **Answered**
Chosen Option : **2**

Q.7 **Select the most appropriate option to substitute the underlined part of the following sentence.**
My brother always received the lion's share of every meal that we had.

Ans
✗ 1. the last bite
✗ 2. the pet's share
✓ 3. the major portion
✗ 4. a very small part

Question ID : **630680297862**
Option 1 ID : **6306801158850**
Option 2 ID : **6306801158847**
Option 3 ID : **6306801158848**
Option 4 ID : **6306801158849**
Status : **Answered**
Chosen Option : **3**

Q.8 **Select the most appropriate option to substitute the underlined segment in the given sentence.**
Ashoka was the greatest <u>than all the Mauryan Emperors</u> .

Ans
✗ 1. to other Mauryan Emperors
✓ 2. of the Mauryan Emperors
✗ 3. all Mauryan Emperors
✗ 4. to all another Mauryan Emperors

Question ID : **630680170338**
Option 1 ID : **630680659949**
Option 2 ID : **630680659950**
Option 3 ID : **630680659951**
Option 4 ID : **630680659952**
Status : **Answered**
Chosen Option : **1**

Q.9 **Parts of a sentence are given below in jumbled order. Arrange the parts in the correct order to form a meaningful sentence.**
(a) the Industrial Revolution denotes
(b) and continued until the middle of the 19th century
(c) a significant period of social, economic and technological revolution
(d) that commenced in the latter part of the 18th century

Ans
✓ 1. acdb
✗ 2. cadb
✗ 3. dcba
✗ 4. abcd

Question ID : **630680374312**
Option 1 ID : **6306801458439**
Option 2 ID : **6306801458442**
Option 3 ID : **6306801458441**
Option 4 ID : **6306801458440**
Status : **Answered**
Chosen Option : **1**

Q.10 **Select the most appropriate ANTONYM of the given word.**
Bombastic

Ans
✓ 1. Simple
✗ 2. Pastoral
✗ 3. Wicked
✗ 4. Elevated

Question ID : **630680295947**
Option 1 ID : **6306801151503**
Option 2 ID : **6306801151501**
Option 3 ID : **6306801151502**
Option 4 ID : **6306801151500**
Status : **Answered**
Chosen Option : **1**

Q.11 **Select the most appropriate ANTONYM of the given word.**
Forgive

Ans
✗ 1. Unburden
✓ 2. Loathe
✗ 3. Requite
✗ 4. Clear

Question ID : **630680517371**
Option 1 ID : **6306802021881**
Option 2 ID : **6306802021882**
Option 3 ID : **6306802021880**
Option 4 ID : **6306802021883**
Status : **Answered**
Chosen Option : **2**

Q.12 **Select the most appropriate ANTONYM of the given word.**
Concede

Ans
✗ 1. Surrender
✓ 2. Deny
✗ 3. Battle
✗ 4. Avow

Question ID : **630680377994**
Option 1 ID : **6306801473035**
Option 2 ID : **6306801473036**
Option 3 ID : **6306801473038**
Option 4 ID : **6306801473037**
Status : **Answered**
Chosen Option : **3**

Q.13 **Select the most appropriate synonym of the word in brackets to fill in the blank.**
He said that he lacks the _____ to stand in a queue. (patience)

Ans
✗ 1. relevance
✓ 2. endurance
✗ 3. acceptance
✗ 4. elegance

Question ID : **630680168481**
Option 1 ID : **630680652538**
Option 2 ID : **630680652539**
Option 3 ID : **630680652536**
Option 4 ID : **630680652537**
Status : **Answered**
Chosen Option : **2**

Q.14 **The following sentence has been divided into four segments. Identify the segment in which the article has been used INCORRECTLY.**
In the recent past, the IT industry has emerged / as a major contributor to an industry revenue / as well as employment / opportunity provider in the country.

Ans
✔ 1. as a major contributor to an industry revenue
✘ 2. In the recent past, the IT industry has emerged
✘ 3. as well as employment
✘ 4. opportunity provider in the country.

Question ID : **630680206694**
Option 1 ID : **630680801376**
Option 2 ID : **630680801375**
Option 3 ID : **630680801377**
Option 4 ID : **630680801378**
Status : **Answered**
Chosen Option : **1**

Q.15 **Select the option that correctly expresses the given sentence in passive voice.**
Why didn't she bring her son to my house?

Ans
✘ 1. Why isn't her son brought by you to my house?
✘ 2. Why wasn't her son brought to my house?
✘ 3. Why isn't her son brought to my house?
✔ 4. Why wasn't her son brought by her to my house?

Question ID : **630680317878**
Option 1 ID : **6306801236604**
Option 2 ID : **6306801236603**
Option 3 ID : **6306801236602**
Option 4 ID : **6306801236601**
Status : **Answered**
Chosen Option : **2**

Q.16 **Select the option that can be used as a one-word substitute for the given group of words.**

One who eats human flesh.

Ans
✘ 1. Scavengers
✘ 2. Omnivores
✔ 3. Cannibal
✘ 4. Herbivores

Question ID : **630680129693**
Option 1 ID : **630680502379**
Option 2 ID : **630680502381**
Option 3 ID : **630680502380**
Option 4 ID : **630680502378**
Status : **Answered**
Chosen Option : **3**

Q.17 **Parts of a sentence are given below in jumbled order. Arrange the parts in the correct order to form a meaningful sentence.**
P- for a
Q- exercise daily
R- one must
S- good body

Ans
✗ 1. PRSQ
✗ 2. PRQS
✗ 3. PQRS
✓ 4. RQPS

Question ID : **630680395342**
Option 1 ID : **6306801541575**
Option 2 ID : **6306801541574**
Option 3 ID : **6306801541572**
Option 4 ID : **6306801541573**
Status : **Answered**
Chosen Option : **3**

Q.18 **Select the option that can substitute/replace the bracketed word correctly and complete the sentence.**

I said I (don't) understand.

Ans
✗ 1. am doing
✗ 2. doesn't
✗ 3. done
✓ 4. didn't

Question ID : **630680176611**
Option 1 ID : **630680684666**
Option 2 ID : **630680684665**
Option 3 ID : **630680684667**
Option 4 ID : **630680684664**
Status : **Answered**
Chosen Option : **4**

Q.19 **Select the most appropriate ANTONYM of the word in the brackets to fill in the blank.**
The pool was too _____ at this end for kids to play. [SHALLOW]

Ans
✗ 1. blue
✗ 2. cold
✓ 3. deep
✗ 4. green

Question ID : **630680132872**
Option 1 ID : **630680514547**
Option 2 ID : **630680514548**
Option 3 ID : **630680514546**
Option 4 ID : **630680514549**
Status : **Answered**
Chosen Option : **3**

Q.20 **Select the most appropriate ANTONYM of the given word.**
Nominal

Ans
✗ 1. Nasty
✗ 2. Constant
✗ 3. Sound
✓ 4. Significant

Question ID : **630680297866**
Option 1 ID : **6306801158863**
Option 2 ID : **6306801158864**
Option 3 ID : **6306801158865**
Option 4 ID : **6306801158866**
Status : **Answered**
Chosen Option : **2**

Comprehension:

In the following passage, some words have been deleted. Read the passage carefully and select the most appropriate option to fill in each blank.
We naturally seek the company of those whose (1) _____ are the same as our own. Fools do not like the (2) _____ of wise men, and wise men avoid fools. Serious-minded people do not find much in common with (3) _____ folk, and vice versa. Sinners feel uncomfortable with (4) _____ and do not seek their company. We can, therefore, as a rule, judge a man's (5) _____ by the company he keeps.

SubQuestion No : 21

Q.21 **Select the most appropriate option to fill in blank number 1.**

Ans
✗ 1. apathy
✓ 2. tastes
✗ 3. organisations
✗ 4. institutes

Question ID : **630680156989**
Option 1 ID : **630680607516**
Option 2 ID : **630680607517**
Option 3 ID : **630680607519**
Option 4 ID : **630680607518**
Status : **Answered**
Chosen Option : **2**

Comprehension:

In the following passage, some words have been deleted. Read the passage carefully and select the most appropriate option to fill in each blank.
We naturally seek the company of those whose (1) _____ are the same as our own. Fools do not like the (2) _____ of wise men, and wise men avoid fools. Serious-minded people do not find much in common with (3) _____ folk, and vice versa. Sinners feel uncomfortable with (4) _____ and do not seek their company. We can, therefore, as a rule, judge a man's (5) _____ by the company he keeps.

SubQuestion No : 22

Q.22 **Select the most appropriate option to fill in blank number 2.**

Ans
✗ 1. antagonist
✗ 2. culture
✗ 3. serious
✓ 4. company

Question ID : **630680156990**
Option 1 ID : **630680607520**
Option 2 ID : **630680607523**
Option 3 ID : **630680607521**
Option 4 ID : **630680607522**
Status : **Answered**
Chosen Option : **4**

Comprehension:

In the following passage, some words have been deleted. Read the passage carefully and select the most appropriate option to fill in each blank.
We naturally seek the company of those whose (1) _____ are the same as our own. Fools do not like the (2) _____ of wise men, and wise men avoid fools. Serious-minded people do not find much in common with (3) _____ folk, and vice versa. Sinners feel uncomfortable with (4) _____ and do not seek their company. We can, therefore, as a rule, judge a man's (5) _____ by the company he keeps.

SubQuestion No : 23

Q.23 Select the most appropriate option to fill in blank number 3.

Ans

✗ 1. thoughtful

✓ 2. frivolous

✗ 3. grave

✗ 4. solemn

Question ID : **630680156991**
Option 1 ID : **630680607527**
Option 2 ID : **630680607524**
Option 3 ID : **630680607526**
Option 4 ID : **630680607525**
Status : **Answered**
Chosen Option : **2**

Comprehension:

In the following passage, some words have been deleted. Read the passage carefully and select the most appropriate option to fill in each blank.
We naturally seek the company of those whose (1) _____ are the same as our own. Fools do not like the (2) _____ of wise men, and wise men avoid fools. Serious-minded people do not find much in common with (3) _____ folk, and vice versa. Sinners feel uncomfortable with (4) _____ and do not seek their company. We can, therefore, as a rule, judge a man's (5) _____ by the company he keeps.

SubQuestion No : 24

Q.24 Select the most appropriate option to fill in blank number 4.

Ans

✗ 1. rowdy

✗ 2. knave

✗ 3. commoners

✓ 4. saints

Question ID : **630680156992**
Option 1 ID : **630680607528**
Option 2 ID : **630680607531**
Option 3 ID : **630680607529**
Option 4 ID : **630680607530**
Status : **Answered**
Chosen Option : **3**

Comprehension:

In the following passage, some words have been deleted. Read the passage carefully and select the most appropriate option to fill in each blank.
We naturally seek the company of those whose (1) _____ are the same as our own. Fools do not like the (2) _____ of wise men, and wise men avoid fools. Serious-minded people do not find much in common with (3) _____ folk, and vice versa. Sinners feel uncomfortable with (4) _____ and do not seek their company. We can, therefore, as a rule, judge a man's (5) _____ by the company he keeps.

SubQuestion No : 25

Q.25 Select the most appropriate option to fill in blank number 5.

Ans

✗ 1. heirloom

✓ 2. character

✗ 3. legacy

✗ 4. futurities

Question ID : **630680156993**
Option 1 ID : **630680607533**
Option 2 ID : **630680607535**
Option 3 ID : **630680607534**
Option 4 ID : **630680607532**
Status : **Not Answered**
Chosen Option : **--**

Combined Graduate Level Examination 2024 Tier I

Roll Number	
Candidate Name	
Venue Name	
Exam Date	25/09/2024
Exam Time	4:00 PM - 5:00 PM
Subject	Combined Graduate Level Examination Tier I

Section : **General Intelligence and Reasoning**

Q.1 दिए गए संख्या युग्मों में से एक को छोड़कर अन्य सभी में समान संक्रिया/संक्रियाओं का अनुसरण किया गया है। वह असंगत संख्या युग्म ज्ञात कीजिए।
(नोट : संख्याओं को उसके संघटक अंकों में खंडित किए बिना संक्रियाएँ पूर्णांकों पर की जानी चाहिए। उदाहरण के लिए 13- 13 पर की जाने वाली संक्रियाएं जैसे जोड़ना/घटाना/गुणा इत्यादि 13 पर ही की जानी चाहिए। 13 को 1 और 3 में खंडित करना और फिर 1 और 3 पर गणितीय संक्रियाएँ करना वर्जित है।)

Ans

✗ 1. 11 : 143

✗ 2. 15 : 195

✗ 3. 13 : 169

✓ 4. 12 : 152

Question ID : **630680412033**
Option 1 ID : **6306801606968**
Option 2 ID : **6306801606969**
Option 3 ID : **6306801606967**
Option 4 ID : **6306801606970**
Status : **Answered**
Chosen Option : **4**

Q.2 दिए गए विकल्पों में से उस आकृति का चयन कीजिए जो निम्नलिखित श्रृंखला में प्रश्न-चिह्न (?) को प्रतिस्थापित कर सके।

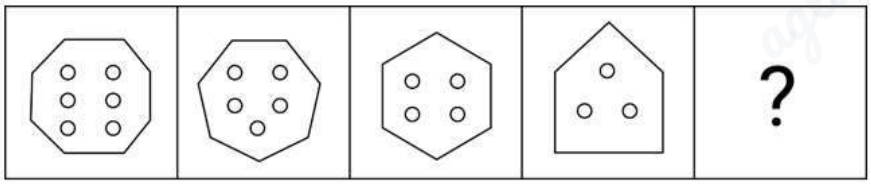

Ans

✗ 1.

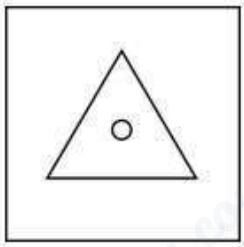

✗ 2.

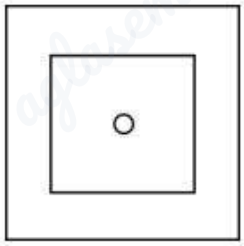

✓ 3.

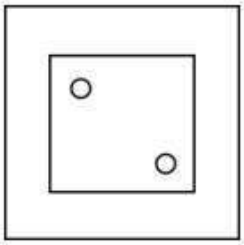

✗ 4.

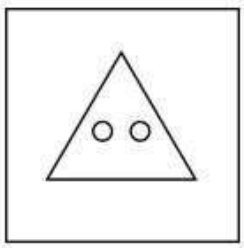

Question ID : **630680366400**
Option 1 ID : **6306801427117**
Option 2 ID : **6306801427120**
Option 3 ID : **6306801427118**
Option 4 ID : **6306801427119**
Status : **Answered**
Chosen Option : **3**

Q.3 उस विकल्प का चयन करें जो उन अक्षरों को निरूपित करता है जिन्हें नीचे दिए गए रिक्त स्थानों में बाएँ से दाएँ रखे जाने पर दी गई अक्षर श्रृंखला पूरी हो जाएगी।
C A R E T _ R C A _ E T C R C A R _ T C R _ A R E T _ R C A

Ans
✗ 1. CRCEC
✗ 2. CRCCE
✓ 3. CRECC
✗ 4. CERCC

Question ID : **630680416262**
Option 1 ID : **6306801623813**
Option 2 ID : **6306801623812**
Option 3 ID : **6306801623814**
Option 4 ID : **6306801623811**
Status : **Answered**
Chosen Option : **3**

Q.4 एक निश्चित तर्क का अनुसरण करते हुए 19, 76 से संबंधित है। उसी तर्क का अनुसरण करते हुए, 27, 108 से संबंधित है। उसी तर्क का अनुसरण करते हुए, 49 निम्नलिखित में से किससे संबंधित है?

(नोट: संख्याओं को उसके घटक अंकों में तोड़े बिना, पूर्ण संख्याओं पर संक्रियाएं की जानी चाहिए। उदाहरण के लिए संख्या 13 को लें - 13 पर संक्रियाएं, जैसे कि 13 में जोड़ना/घटाना/गुणा करना आदि, की जा सकती हैं। 13 को 1 और 3 में तोड़ने और फिर 1 और 3 पर गणितीय संक्रियाएं करने की अनुमति नहीं है)

Ans
✗ 1. 190
✓ 2. 196
✗ 3. 202
✗ 4. 198

Question ID : **630680344647**
Option 1 ID : **6306801340897**
Option 2 ID : **6306801340898**
Option 3 ID : **6306801340900**
Option 4 ID : **6306801340899**
Status : **Answered**
Chosen Option : **2**

Q.5 यदि शब्द 'DOWNSIZE' के प्रत्येक अक्षर को अंग्रेजी वर्णमाला के क्रम में बाएँ से दाएँ पुनर्व्यवस्थित किया जाए तो कितने अक्षरों की स्थिति अपरिवर्तित रहेगी?

Ans
✗ 1. एक
✗ 2. तीन
✓ 3. दो
✗ 4. चार

Question ID : **630680106895**
Option 1 ID : **630680415152**
Option 2 ID : **630680415154**
Option 3 ID : **630680415153**
Option 4 ID : **630680415155**
Status : **Answered**
Chosen Option : **3**

Q.6 दर्पण को MN पर रखे जाने पर दी गई आकृति के सही दर्पण प्रतिबिम्ब का चयन कीजिए।

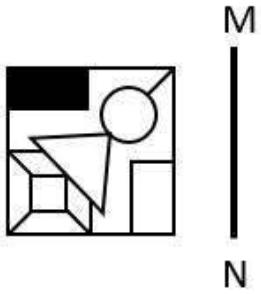

Ans

✔ 1.

✘ 2.

✘ 3.

✘ 4.

Question ID : **630680306827**
Option 1 ID : **6306801193598**
Option 2 ID : **6306801193599**
Option 3 ID : **6306801193600**
Option 4 ID : **6306801193597**
Status : **Answered**
Chosen Option : **1**

Q.7 निम्नलिखित में से कौन-सा पद दी गई श्रृंखला में प्रश्न चिह्न (?) को प्रतिस्थापित करेगा?
AEYT, CGWR, EIUP, ? , IMQL

Ans

✘ 1. GLSN

✘ 2. GLTN

✔ 3. GKSN

✘ 4. GKTN

Question ID : **630680416989**
Option 1 ID : **6306801626719**
Option 2 ID : **6306801626722**
Option 3 ID : **6306801626720**
Option 4 ID : **6306801626721**
Status : **Answered**
Chosen Option : **3**

Q.8 एक निश्चित कूट भाषा में, 'BREAK' को '57123' के रूप में कूटबद्ध किया जाता है और 'BROKE' को '91753' के रूप में कूटबद्ध किया जाता है। उसी भाषा में 'A' के लिए क्या कूट होगा?

Ans
✗ 1. 5
✗ 2. 9
✓ 3. 2
✗ 4. 3

Question ID : **630680296856**
Option 1 ID : **6306801155070**
Option 2 ID : **6306801155069**
Option 3 ID : **6306801155068**
Option 4 ID : **6306801155067**
Status : **Answered**
Chosen Option : **3**

Q.9 एक कागज को नीचे दिए गए चित्र के अनुसार मोड़ा और काटा जाता है। यह कागज खोलने पर कैसा दिखाई देगा?

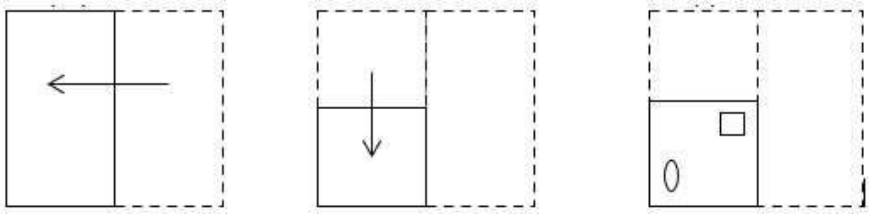

Ans
✗ 1.
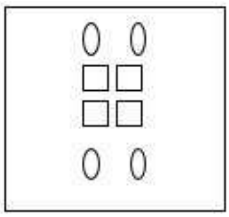
✓ 2.
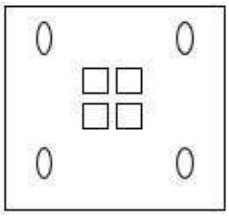
✗ 3.
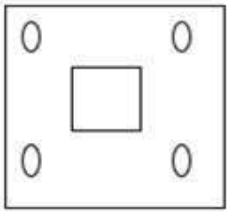
✗ 4.
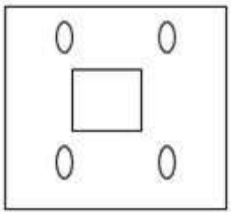

Question ID : **630680296643**
Option 1 ID : **6306801154223**
Option 2 ID : **6306801154225**
Option 3 ID : **6306801154226**
Option 4 ID : **6306801154224**
Status : **Answered**
Chosen Option : **2**

Q.10 एक निश्चित कूट भाषा में, 'CASE' को 'FTBD' लिखा जाता है और 'CAKE' को 'FLBD' लिखा जाता है। इसी कूट भाषा में 'CALF' को किस प्रकार लिखा जाएगा?

Ans
✔ 1. GMBD
✘ 2. GBMD
✘ 3. GBDM
✘ 4. GMDB

Question ID : **630680416244**
Option 1 ID : **6306801623739**
Option 2 ID : **6306801623740**
Option 3 ID : **6306801623742**
Option 4 ID : **6306801623741**
Status : **Answered**
Chosen Option : **1**

Q.11 एक निश्चित कूट भाषा में,
A + B का अर्थ है 'A, B का पति है',
A − B का अर्थ है 'B, A की माता है',
A × B का अर्थ है 'B, A की बहन है' और
A ÷ B का अर्थ है 'A, B की पुत्री है'।
उपरोक्त के आधार पर, यदि 'P + Q × R - S ÷ T' है, तो Q, T से किस प्रकार संबंधित है?

Ans
✘ 1. बहन
✘ 2. दामाद
✘ 3. नानी
✔ 4. नातिन

Question ID : **630680284900**
Option 1 ID : **6306801107599**
Option 2 ID : **6306801107600**
Option 3 ID : **6306801107601**
Option 4 ID : **6306801107602**
Status : **Answered**
Chosen Option : **4**

Q.12 यदि निम्नलिखित समीकरण में '+' और '-' को आपस में बदल दिया जाए और '×' और '÷' को आपस में बदल दिया जाए, तो प्रश्न चिह्न (?) के स्थान पर कौन-सी संख्या आएगी?
61 − 42 × 6 ÷ 9 + 27 = ?

Ans
✘ 1. 89
✘ 2. 84
✔ 3. 97
✘ 4. 101

Question ID : **630680163578**
Option 1 ID : **630680633497**
Option 2 ID : **630680633498**
Option 3 ID : **630680633496**
Option 4 ID : **630680633499**
Status : **Answered**
Chosen Option : **3**

Q.13 दिए गए आरेख का ध्यानपूर्वक अध्ययन करें और निम्नलिखित प्रश्न का उत्तर दें। विभिन्न खंडों में दी गई संख्याएं अलग-अलग विषयों का अध्ययन करना पसंद करने वाले छात्रों की संख्या को दर्शाती हैं।

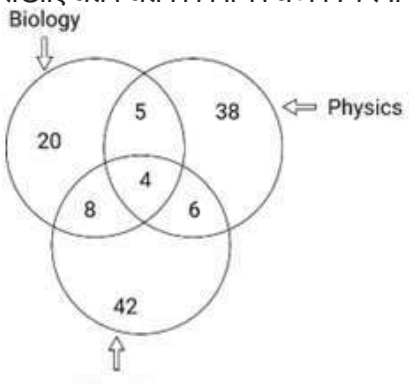

सभी तीनों विषयों का अध्ययन करना पसंद करने वाले छात्रों की संख्या और केवल जीव विज्ञान का अध्ययन करना पसंद करने वाले छात्रों की संख्या के बीच का अंतर क्या है?
Biology - जीव विज्ञान
Physics - भौतिक विज्ञान
Chemistry - रसायन विज्ञान

Ans
✔ 1. 16
✘ 2. 19
✘ 3. 3
✘ 4. 17

Question ID : **630680195789**
Option 1 ID : **630680759607**
Option 2 ID : **630680759609**
Option 3 ID : **630680759608**
Option 4 ID : **630680759610**
Status : **Answered**
Chosen Option : **1**

Q.14 एक निश्चित तर्क का अनुसरण करते हुए 14, 42 से संबंधित है। उसी तर्क का अनुसरण करते हुए, 26, 78 से संबंधित है। उसी तर्क का अनुसरण करते हुए, 47 निम्नलिखित में से किससे संबंधित है?

(नोट: संख्याओं को उसके घटक अंकों में तोड़े बिना, पूर्ण संख्याओं पर संक्रियाएं की जानी चाहिए। उदाहरण के लिए संख्या 13 को लें - 13 पर संक्रियाएं, जैसे कि 13 में जोड़ना/घटाना/गुणा करना आदि, की जा सकती हैं। 13 को 1 और 3 में तोड़ने और फिर 1 और 3 पर गणितीय संक्रियाएं करने की अनुमति नहीं है)

Ans
✘ 1. 137
✔ 2. 141
✘ 3. 135
✘ 4. 143

Question ID : **630680344646**
Option 1 ID : **6306801340893**
Option 2 ID : **6306801340894**
Option 3 ID : **6306801340896**
Option 4 ID : **6306801340895**
Status : **Answered**
Chosen Option : **2**

Q.15 दी गई आकृति में कितने त्रिभुज हैं?

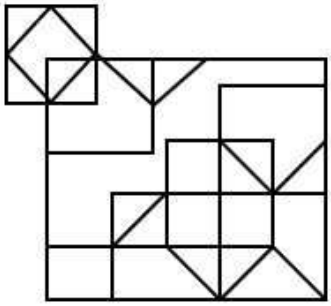

Ans
✗ 1. 15
✗ 2. 14
✓ 3. 17
✗ 4. 18

Question ID : **630680163557**
Option 1 ID : **630680633412**
Option 2 ID : **630680633414**
Option 3 ID : **630680633413**
Option 4 ID : **630680633415**
Status : **Answered**
Chosen Option : **3**

Q.16 9, 2, 5, 3, 8 और 6 फलकों वाले एक ही पासे की दो अलग-अलग स्थितियाँ नीचे दिखाई गई हैं। उस संख्या का चयन कीजिए जो 2 संख्या वाले फलक के विपरीत फलक पर होगी।

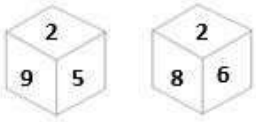

Ans
✓ 1. 3
✗ 2. 9
✗ 3. 5
✗ 4. 6

Question ID : **630680349068**
Option 1 ID : **6306801358563**
Option 2 ID : **6306801358564**
Option 3 ID : **6306801358562**
Option 4 ID : **6306801358561**
Status : **Answered**
Chosen Option : **1**

Q.17 दिए गए विकल्पों में से उस आकृति का चयन कीजिए जो निम्नलिखित श्रृंखला में प्रश्नचिह्न (?) को प्रतिस्थापित कर सकती है।

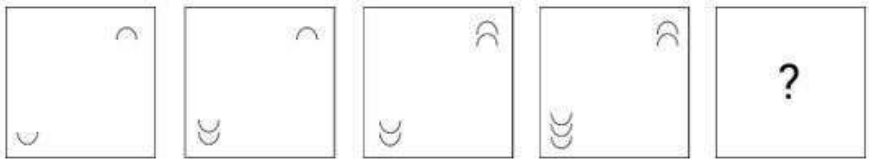

Ans

✔ 1. 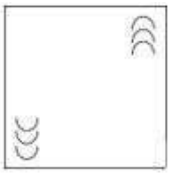

✘ 2.

✘ 3. 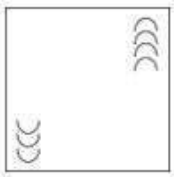

✘ 4. 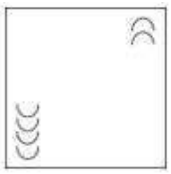

Question ID : **630680339310**
Option 1 ID : **6306801319812**
Option 2 ID : **6306801319810**
Option 3 ID : **6306801319809**
Option 4 ID : **6306801319811**
Status : **Answered**
Chosen Option : **1**

Q.18 दिए गए आरेख का ध्यानपूर्वक अध्ययन कीजिए और नीचे दिए गए प्रश्न का उत्तर दीजिए। विभिन्न वर्गों वाली संख्याएँ परिवहन के विभिन्न साधनों से यात्रा करने वाले व्यक्तियों की संख्या को दर्शाती हैं।

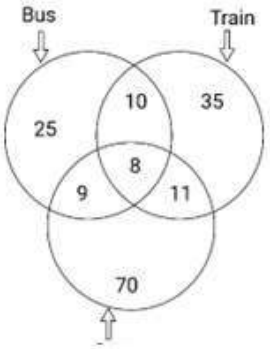

Bus = बस

Train = ट्रेन

Car = कार

कितने व्यक्ति बस और कार दोनों से यात्रा करते हैं, लेकिन ट्रेन से यात्रा नहीं करते?

Ans
✗ 1. 27
✓ 2. 9
✗ 3. 17
✗ 4. 19

Question ID : **630680180560**
Option 1 ID : **630680699751**
Option 2 ID : **630680699749**
Option 3 ID : **630680699748**
Option 4 ID : **630680699750**
Status : **Answered**
Chosen Option : **2**

Q.19 अँग्रेजी वर्णमाला-क्रम के आधार पर 'LISP' एक निश्चित तरीके से 'ORHK' से संबंधित है। उसी तरह 'WAND' का संबंध 'DZMW' से है। उसी तर्क के अनुसार 'BOTE' का संबंध निम्नलिखित में से किससे है?

Ans
✓ 1. YLGV
✗ 2. YMHV
✗ 3. YKFU
✗ 4. YKFW

Question ID : **630680416359**
Option 1 ID : **6306801624199**
Option 2 ID : **6306801624200**
Option 3 ID : **6306801624201**
Option 4 ID : **6306801624202**
Status : **Answered**
Chosen Option : **1**

Q.20 'पालतू' (Tame), 'जंगली' (Wild) से उसी प्रकार संबंधित है, जिस प्रकार 'निकटवर्ती' (Adjacent) '_____' से संबंधित है।
(शब्दों को सार्थक हिंदी शब्द माना जाना चाहिए और शब्दों को अक्षरों की संख्या/व्यंजनों/स्वरों की संख्या के आधार पर एक दूसरे से संबंधित नहीं किया जाना चाहिए।)

Ans
✗ 1. समीपवर्ती (Neighbouring)
✓ 2. सुदूरवर्ती (Distant)
✗ 3. मिलनसार (Accommodating)
✗ 4. नजदीक (Close)

Question ID : **630680416705**
Option 1 ID : **6306801625585**
Option 2 ID : **6306801625584**
Option 3 ID : **6306801625586**
Option 4 ID : **6306801625583**
Status : **Answered**
Chosen Option : **2**

Q.21 चार अक्षर-समूह दिए गए हैं, जिनमें से तीन किसी न किसी रूप में एक जैसे हैं और एक भिन्न है। उस अक्षर-समूह का चयन करें जो भिन्न हो।
नोट: अक्षर समूह में, भिन्न व्यंजनों/स्वरों की संख्या या उनकी स्थिति पर आधारित नहीं है। .

Ans
✔ 1. IAK
✘ 2. UOW
✘ 3. LFN
✘ 4. PJR

Question ID : **63068083233**
Option 1 ID : **630680322793**
Option 2 ID : **630680322795**
Option 3 ID : **630680322794**
Option 4 ID : **630680322792**
Status : **Answered**
Chosen Option : **1**

Q.22 निम्नलिखित में से कौन-सी संख्याएँ दी गई श्रृंखला में प्रश्न-चिह्न(?) का स्थान लेंगी?
88, 78, 70, 64, 60, ?, ?

Ans
✘ 1. 58, 56
✘ 2. 56, 54
✘ 3. 56, 56
✔ 4. 58, 58

Question ID : **630680411868**
Option 1 ID : **6306801606307**
Option 2 ID : **6306801606309**
Option 3 ID : **6306801606310**
Option 4 ID : **6306801606308**
Status : **Answered**
Chosen Option : **4**

Q.23 यदि '÷' और '–' को आपस में बदल दिया जाए और '×' और '+' को आपस में बदल दिया जाए, तो निम्नलिखित समीकरण में प्रश्न चिह्न (?) के स्थान पर क्या आएगा?

2 × 16 ÷ 36 + 42 − 6 = ?

Ans
✘ 1. −216
✔ 2. −234
✘ 3. −246
✘ 4. −280

Question ID : **630680327807**
Option 1 ID : **6306801275199**
Option 2 ID : **6306801275197**
Option 3 ID : **6306801275200**
Option 4 ID : **6306801275198**
Status : **Answered**
Chosen Option : **2**

Q.24 उस विकल्प का चयन करें जो पांचवीं संख्या से उसी प्रकार संबंधित हो जिस प्रकार दूसरी संख्या पहली संख्या से संबंधित है और चौथी संख्या तीसरी संख्या से संबंधित है।
45 : 56 :: 62 : 73 :: 19 : ?
नोट: संख्याओं को उनके घटक अंकों में विभक्त किए बिना पूर्ण संख्याओं पर संक्रियाएं की जानी चाहिए। उदाहरण के लिए 13 को लें- 13 पर संक्रियाएं, जैसे कि जोड़ना/घटाना/गुणा आदि 13 में की जा सकती हैं। 13 को 1 और 3 में विभक्त करना और फिर 1 और 3 पर गणितीय संक्रियाएं करने की अनुमति नहीं है।

Ans
✗ 1. 28
✓ 2. 30
✗ 3. 31
✗ 4. 27

Question ID : **630680312533**
Option 1 ID : **6306801216013**
Option 2 ID : **6306801216014**
Option 3 ID : **6306801216015**
Option 4 ID : **6306801216016**
Status : **Answered**
Chosen Option : **2**

Q.25 जब दर्पण को नीचे दर्शाए गए अनुसार MN पर रखा जाता है तो दी गई आकृति के सही दर्पण प्रतिबिंब का चयन कीजिए।

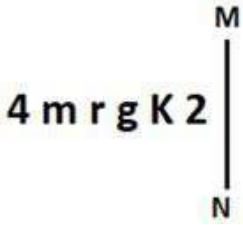

Ans
✗ 1. 
✗ 2. 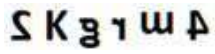
✓ 3. 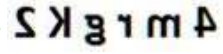
✗ 4. 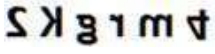

Question ID : **630680356667**
Option 1 ID : **6306801388670**
Option 2 ID : **6306801388672**
Option 3 ID : **6306801388669**
Option 4 ID : **6306801388671**
Status : **Answered**
Chosen Option : **3**

Section : **General Awareness**

Q.1 निम्नलिखित में से किस अधिनियम ने सरकार को राजनीतिक गतिविधियों को दबाने की अपार शक्तियाँ दी, और राजनीतिक कैदियों को बिना मुकदमे के दो वर्ष तक हिरासत में रखने की अनुमति दी?

Ans
✔ 1. रौलेट एक्ट, 1919
✘ 2. आपराधिक जनजाति अधिनियम, 1871
✘ 3. भारत अनुबंध अधिनियम, 1872
✘ 4. भारतीय दासता अधिनियम, 1843

Question ID : **630680511528**
Option 1 ID : **6306801999235**
Option 2 ID : **6306801999236**
Option 3 ID : **6306801999234**
Option 4 ID : **6306801999237**
Status : **Answered**
Chosen Option : **1**

Q.2 कौन-सा कोयला निम्न कोटि का, भूरा और प्रचुर आर्द्रता के साथ मृदु होता है?

Ans
✘ 1. धातुकर्म
✘ 2. बिटुमिनस
✔ 3. लिग्नाइट
✘ 4. एन्थ्रेसाइट

Question ID : **63068098916**
Option 1 ID : **630680384370**
Option 2 ID : **630680384369**
Option 3 ID : **630680384371**
Option 4 ID : **630680384368**
Status : **Answered**
Chosen Option : **3**

Q.3 1924 के पेरिस ग्रीष्मकालीन ओलंपिक में भारत का प्रतिनिधित्व करने के लिए कितने एथलीटों का चयन किया गया था?

Ans
✘ 1. 10
✔ 2. 8
✘ 3. 11
✘ 4. 12

Question ID : **630680510826**
Option 1 ID : **6306801996435**
Option 2 ID : **6306801996434**
Option 3 ID : **6306801996436**
Option 4 ID : **6306801996437**
Status : **Not Answered**
Chosen Option : **--**

Q.4 सिरका, मसालेदार सब्जियों और सॉस में मिलाए जाने वाले खट्टे कारक (souring agent) के रूप में और सीज़निंग के लिए कच्चे माल के रूप में किस अम्ल का उपयोग किया जाता है?

Ans
✔ 1. एसीटिक अम्ल
✘ 2. फॉर्मिक अम्ल
✘ 3. टार्टरिक अम्ल
✘ 4. साइट्रिक अम्ल

Question ID : **630680407427**
Option 1 ID : **6306801588648**
Option 2 ID : **6306801588647**
Option 3 ID : **6306801588649**
Option 4 ID : **6306801588646**
Status : **Answered**
Chosen Option : **1**

Q.5 पठानों के बीच एक अहिंसात्मक आंदोलन ख़ुदाई ख़िदमतग़ार की शुरुआत _____ के द्वारा की गई थी।

Ans
✘ 1. बख़्त खान
✘ 2. अल्लूरी सीताराम राजू
✘ 3. सचिन्द्र बख़्शी
✔ 4. ख़ान अब्दुल ग़फ़्फ़ार ख़ान

Question ID : **630680412314**
Option 1 ID : **6306801608080**
Option 2 ID : **6306801608081**
Option 3 ID : **6306801608082**
Option 4 ID : **6306801608079**
Status : **Answered**
Chosen Option : **4**

Q.6 अर्जुन सिंह धुर्वे को निम्नलिखित में से किस आदिवासी संगीत और नृत्य विधा के लिए तुलसी सम्मान से सम्मानित किया गया था?

Ans
✔ 1. बैगा
✘ 2. मर्दाना
✘ 3. पवारा
✘ 4. झुमटा

Question ID : **630680216241**
Option 1 ID : **630680838939**
Option 2 ID : **630680838942**
Option 3 ID : **630680838941**
Option 4 ID : **630680838940**
Status : **Not Answered**
Chosen Option : **--**

Q.7 भारत में पहली सफल कपड़ा मिल कहाँ स्थापित की गई थी?

Ans
✗ 1. जयपुर
✓ 2. मुंबई
✗ 3. सूरत
✗ 4. कलकत्ता

Question ID : **630680183652**
Option 1 ID : **630680711617**
Option 2 ID : **630680711620**
Option 3 ID : **630680711619**
Option 4 ID : **630680711618**
Status : **Answered**
Chosen Option : **2**

Q.8 मध्य प्रदेश सरकार द्वारा वर्ष 1980 में हिंदुस्तानी शास्त्रीय संगीत के प्रतिपादकों के लिए कौन-सा पुरस्कार शुरू किया गया था?

Ans
✗ 1. इक़बाल सम्मान
✗ 2. कुमार गंधर्व सम्मान
✓ 3. तानसेन सम्मान
✗ 4. किशोर कुमार सम्मान

Question ID : **630680511806**
Option 1 ID : **6306802000195**
Option 2 ID : **6306802000194**
Option 3 ID : **6306802000196**
Option 4 ID : **6306802000197**
Status : **Answered**
Chosen Option : **3**

Q.9 निम्नलिखित में से किस संवैधानिक संशोधन अधिनियम के कारण वस्तु एवं सेवा कर परिषद (Goods and Services Tax Council) का गठन हुआ?

Ans
✗ 1. 103वां संविधान संशोधन अधिनियम
✗ 2. 102वां संविधान संशोधन अधिनियम
✗ 3. 100वां संविधान संशोधन अधिनियम
✓ 4. 101वां संविधान संशोधन अधिनियम

Question ID : **630680309214**
Option 1 ID : **6306801203036**
Option 2 ID : **6306801203035**
Option 3 ID : **6306801203033**
Option 4 ID : **6306801203034**
Status : **Answered**
Chosen Option : **4**

Q.10 निम्नलिखित में से किन राजवंशों के बीच कन्नौज पर शासन करने के लिए त्रिपक्षीय संघर्ष हुआ था?

Ans
✗ 1. पल्लव, पांड्य और चोल
✓ 2. प्रतिहार, राष्ट्रकूट और पाल
✗ 3. ख़िलजी, तुग़लक और लोधी
✗ 4. सोलंकी, परमार और चंदेल

Question ID : **630680412339**
Option 1 ID : **6306801608180**
Option 2 ID : **6306801608179**
Option 3 ID : **6306801608182**
Option 4 ID : **6306801608181**
Status : **Answered**
Chosen Option : **2**

Q.11 ब्लू लाइन (Blue Line) शब्द निम्नलिखित में से किस खेल से संबंधित है?

Ans
✗ 1. फुटबॉल
✗ 2. टेबल टेनिस
✗ 3. क्रिकेट
✓ 4. आइस हॉकी

Question ID : **630680510780**
Option 1 ID : **6306801996251**
Option 2 ID : **6306801996253**
Option 3 ID : **6306801996252**
Option 4 ID : **6306801996250**
Status : **Not Answered**
Chosen Option : **--**

Q.12 संगीत नाटक अकादमी का पंजीकृत कार्यालय कहाँ है?

Ans
✓ 1. नई दिल्ली
✗ 2. चेन्नई
✗ 3. कोलकाता
✗ 4. मुंबई

Question ID : **630680300503**
Option 1 ID : **6306801168900**
Option 2 ID : **6306801168902**
Option 3 ID : **6306801168899**
Option 4 ID : **6306801168901**
Status : **Answered**
Chosen Option : **1**

Q.13 आय के चक्रीय प्रवाह के संबंध में निम्नलिखित में से कौन-सा सही नहीं है?

Ans
✗ 1. एक चक्रीय प्रवाह में क्षरण अंत:क्षेपण (injections) के बराबर होते हैं।
✗ 2. एक क्षेत्र की आय दूसरे की व्यय बन जाती है।
✓ 3. बचत के साथ-साथ सरकारी व्यय चक्रीय प्रवाह में अंत:क्षेपण (injections) हैं।
✗ 4. वास्तविक प्रवाह और मौद्रिक प्रवाह विपरीत दिशा में चक्रीय गति करते हैं।

Question ID : **630680324078**
Option 1 ID : **6306801260807**
Option 2 ID : **6306801260805**
Option 3 ID : **6306801260808**
Option 4 ID : **6306801260806**
Status : **Not Answered**
Chosen Option : **--**

Q.14 होला मोहल्ला किस धर्म/आस्था से जुड़ा त्योहार है?

Ans
✗ 1. बौद्ध धर्म
✗ 2. इस्लाम
✗ 3. जैन धर्म
✓ 4. सिख धर्म

Question ID : **630680176376**
Option 1 ID : **630680683732**
Option 2 ID : **630680683731**
Option 3 ID : **630680683733**
Option 4 ID : **630680683730**
Status : **Answered**
Chosen Option : **4**

Q.15 उजाला योजना (Ujala Yojana) किस वर्ष शुरू की गई थी?

Ans
✔ 1. 2015 में
✘ 2. 2016 में
✘ 3. 2014 में
✘ 4. 2017 में

Question ID : **630680310824**
Option 1 ID : **6306801209426**
Option 2 ID : **6306801209427**
Option 3 ID : **6306801209425**
Option 4 ID : **6306801209428**
Status : **Not Answered**
Chosen Option : **--**

Q.16 भारतीय संविधान के निम्नलिखित में से किस अनुच्छेद में उल्लेख किया गया है कि राज्य, विशेष रूप से, अपनी नीति को यह सुनिश्चित करने के लिए निर्देशित करेगा कि समुदाय के भौतिक संसाधनों का स्वामित्व और नियंत्रण इस प्रकार वितरित किया जाए कि यह सामान्य भलाई के लिए सबसे अच्छा हो?

Ans
✘ 1. अनुच्छेद 39(d)
✔ 2. अनुच्छेद 39(b)
✘ 3. अनुच्छेद 39(c)
✘ 4. अनुच्छेद 39(a)

Question ID : **630680408256**
Option 1 ID : **6306801591922**
Option 2 ID : **6306801591920**
Option 3 ID : **6306801591921**
Option 4 ID : **6306801591919**
Status : **Not Answered**
Chosen Option : **--**

Q.17 विश्व में सबसे अधिक वर्षा वाला मौसिनराम (Mawsynram), किस पहाड़ी की दक्षिणी श्रृंखलाओं में स्थित है?

Ans
✔ 1. खासी पहाड़ियाँ
✘ 2. मिज़ो पहाड़ियाँ
✘ 3. नागा पहाड़ियाँ
✘ 4. शेवरॉय पहाड़ियाँ

Question ID : **630680362632**
Option 1 ID : **6306801412283**
Option 2 ID : **6306801412282**
Option 3 ID : **6306801412281**
Option 4 ID : **6306801412284**
Status : **Answered**
Chosen Option : **1**

Q.18 निम्नलिखित में से किस शोधकर्ता ने केंद्रक के चारों ओर घनी रंजित जालीदार संरचनाओं को देखा (संकेत: आकृति)?

Ans
✗ 1. विलियम हार्वे (William Harvey)
✗ 2. लुई पाश्चर (Louis Pasteur)
✗ 3. फ्रांसिस क्रिक (Francis Crick)
✓ 4. कैमिलो गॉल्गी (Camillo Golgi)

Question ID : **630680210504**
Option 1 ID : **630680816177**
Option 2 ID : **630680816178**
Option 3 ID : **630680816176**
Option 4 ID : **630680816175**
Status : **Answered**
Chosen Option : **4**

Q.19 अभिक्रिया का वह प्रकार, जो आम तौर पर तब पाया जाता है जब अभिक्रिया के आगे बढ़ने के लिए आवश्यक सामग्री, जैसे सतह या उत्प्रेरक, अभिकारकों द्वारा संतृप्त होता है, _____कोटि की अभिक्रिया कहलाता है।

Ans
✗ 1. प्रथम
✗ 2. द्वितीय
✓ 3. शून्य
✗ 4. तृतीय

Question ID : **630680102246**
Option 1 ID : **630680397267**
Option 2 ID : **630680397268**
Option 3 ID : **630680397269**
Option 4 ID : **630680397270**
Status : **Not Answered**
Chosen Option : **--**

Q.20 राष्ट्रमंडल खेल 2022 में समग्र पदक तालिका में भारत निम्नलिखित में से किस स्थान पर रहा था?

Ans
✗ 1. 3रे
✗ 2. 2रे
✗ 3. 1ले
✓ 4. 4थे

Question ID : **630680339490**
Option 1 ID : **6306801320530**
Option 2 ID : **6306801320531**
Option 3 ID : **6306801320532**
Option 4 ID : **6306801320529**
Status : **Answered**
Chosen Option : **4**

Q.21 निम्नलिखित में से कौन-सी गैस टाइटेनियम, एल्युमीनियम, स्टेनलेस स्टील और मैग्नीशियम की वेल्डिंग में महत्वपूर्ण भूमिका निभाती है?

Ans

✔ 1. आर्गन

✘ 2. फ्लोरीन

✘ 3. क्लोरीन

✘ 4. नीयॉन

Question ID : **630680115432**
Option 1 ID : **630680447081**
Option 2 ID : **630680447080**
Option 3 ID : **630680447078**
Option 4 ID : **630680447079**
Status : **Answered**
Chosen Option : **1**

Q.22 कृषि में हरित क्रांति की उपलब्धि का जश्न मनाने के लिए सरकार ने क्या कदम उठाए?

Ans

✘ 1. लोगों को हरी सब्जियाँ वितरित की गई

✘ 2. किसानों के लिए नियमित वेतन जारी किया गया

✔ 3. एक विशेष डाक टिकट 'गेहूं क्रांति' जारी किया गया

✘ 4. सभी लोगों को निःशुल्क भोजन वितरित किया गया

Question ID : **630680410835**
Option 1 ID : **6306801602096**
Option 2 ID : **6306801602098**
Option 3 ID : **6306801602095**
Option 4 ID : **6306801602097**
Status : **Answered**
Chosen Option : **3**

Q.23 निम्नलिखित में से, भारत सरकार की कौन-सी योजना लक्ष्य समूह ('Target Group') दृष्टिकोण का एक भाग है?

Ans

✘ 1. कमान क्षेत्र विकास एवं जल प्रबंधन कार्यक्रम {Command Area Development & Water Management Programme (CADP)}

✔ 2. सीमांत कृषक विकास एजेंसी {Marginal Farmers Development Agency (MFDA)}

✘ 3. सूखा प्रवण क्षेत्र कार्यक्रम {Drought Prone Area Programme (DPAP)}

✘ 4. पहाड़ी क्षेत्र विकास कार्यक्रम {Hill Areas Development Programme (HADP)}

Question ID : **630680409645**
Option 1 ID : **6306801597410**
Option 2 ID : **6306801597412**
Option 3 ID : **6306801597409**
Option 4 ID : **6306801597411**
Status : **Not Answered**
Chosen Option : **--**

Q.24 नवंबर 2021 में, सरकार ने 15 नवंबर को 'जनजातीय गौरव दिवस' के रूप में घोषित किया। यह दिन निम्नलिखित में से किस स्वतंत्रता सेनानी की जयंती है?

Ans
✗ 1. कान्हू मुर्मु
✗ 2. अर्जुन मुंडा
✓ 3. बिरसा मुंडा
✗ 4. वीर नारायण सिंह

Question ID : **630680127550**
Option 1 ID : **630680494461**
Option 2 ID : **630680494463**
Option 3 ID : **630680494462**
Option 4 ID : **630680494460**
Status : **Answered**
Chosen Option : **3**

Q.25 शिलालेखों के अनुसार, पुष्यमित्र शुंग निम्नलिखित में से किस देवता के भक्त थे?

Ans
✗ 1. इंद्र
✗ 2. राम
✓ 3. कृष्ण
✗ 4. शिव

Question ID : **630680412520**
Option 1 ID : **6306801608903**
Option 2 ID : **6306801608906**
Option 3 ID : **6306801608905**
Option 4 ID : **6306801608904**
Status : **Answered**
Chosen Option : **4**

Section : **Quantitative Aptitude**

Q.1 निम्नलिखित में से कौन-सी संख्या 6 से विभाज्य है?

Ans
✗ 1. 62233
✗ 2. 12581
✗ 3. 128530
✓ 4. 438750

Question ID : **630680108867**
Option 1 ID : **630680422361**
Option 2 ID : **630680422360**
Option 3 ID : **630680422363**
Option 4 ID : **630680422362**
Status : **Answered**
Chosen Option : **4**

Q.2 केंद्र O वाले एक वृत्त पर बिंदु T से, बिंदु P तक एक स्पर्श रेखा TP खींची जाती है। एक छेदक रेखा TQR (बिंदु Q बिंदु T के समीप है) बिंदु T से खींची जाती है। बिंदुओं P, Q और R को स्पर्श करते हुए वृत्त के अंदर एक △PQR बनाया गया है। रेखाएँ OQ और OR खींचिए। यदि ∠PTQ = 27° है और ∠ TPQ = 55° है, तो ∠ROQ का डिग्री माप क्या है?

Ans
✗ 1. 82
✗ 2. 94
✓ 3. 86
✗ 4. 98

Question ID : **630680296082**
Option 1 ID : **6306801151996**
Option 2 ID : **6306801151997**
Option 3 ID : **6306801151998**
Option 4 ID : **6306801151999**
Status : **Not Answered**
Chosen Option : **--**

Q.3 14 cm त्रिज्या का एक कुआं 23 cm गहरा खोदा जाता है। इसमें से निकाली गई मिट्टी का आयतन ज्ञात कीजिए।

Ans
✗ 1. 15,168 cm^3
✓ 2. 14,168 cm^3
✗ 3. 14,108 cm^3
✗ 4. 14,178 cm^3

Question ID : **630680421493**
Option 1 ID : **6306801644438**
Option 2 ID : **6306801644435**
Option 3 ID : **6306801644437**
Option 4 ID : **6306801644436**
Status : **Answered**
Chosen Option : **2**

Q.4 15%, 20% और 5% की क्रमिक छूट के तुल्य एकल छूट क्या है?

Ans
✓ 1. 35.4%
✗ 2. 20%
✗ 3. 32%
✗ 4. 32.5%

Question ID : **630680217287**
Option 1 ID : **630680843084**
Option 2 ID : **630680843086**
Option 3 ID : **630680843083**
Option 4 ID : **630680843085**
Status : **Answered**
Chosen Option : **1**

Q.5 30 छात्रों वाली एक कक्षा के सभी छात्रों ने एक टेस्ट दिया। 12 छात्रों का औसत स्कोर 60 है, और बाकी छात्रों का औसत स्कोर 80 है। कक्षा का औसत स्कोर ज्ञात करें।

Ans
✔ 1. 72
✘ 2. 71
✘ 3. 73
✘ 4. 70

Question ID : **630680566254**
Option 1 ID : **6306802214004**
Option 2 ID : **6306802214005**
Option 3 ID : **6306802214006**
Option 4 ID : **6306802214007**
Status : **Answered**
Chosen Option : **1**

Q.6 यदि $a^2 + b^2 = 148$ और $ab = 54$ है, तो $\frac{a+b}{a-b}$ का मान ज्ञात कीजिए।

Ans
✘ 1. $5\sqrt{3}$
✔ 2. $\frac{8}{\sqrt{10}}$
✘ 3. $8\sqrt{7}$
✘ 4. $\frac{2}{\sqrt{10}}$

Question ID : **630680413478**
Option 1 ID : **6306801612737**
Option 2 ID : **6306801612739**
Option 3 ID : **6306801612738**
Option 4 ID : **6306801612736**
Status : **Answered**
Chosen Option : **2**

Q.7 यदि $x^2 + 1 = x$ है, तो $(x^{14} + x^8 + 1)$ का मान क्या है?

Ans
✘ 1. 1
✔ 2. 3
✘ 3. 2
✘ 4. 0

Question ID : **630680413500**
Option 1 ID : **6306801612825**
Option 2 ID : **6306801612827**
Option 3 ID : **6306801612826**
Option 4 ID : **6306801612824**
Status : **Not Answered**
Chosen Option : **--**

Q.8 अदिति अपने स्कूटर को ₹40620 में बेचकर, विक्रय मूल्य के $\frac{1}{5}$ भाग के बराबर लाभ अर्जित करती है। उसका लाभ प्रतिशत ज्ञात कीजिए।

Ans
✗ 1. 10%
✓ 2. 25%
✗ 3. 20%
✗ 4. 35%

Question ID : **630680922765**
Option 1 ID : **6306803615909**
Option 2 ID : **6306803615906**
Option 3 ID : **6306803615907**
Option 4 ID : **6306803615908**
Status : **Answered**
Chosen Option : **2**

Q.9 प्रणव ने 13% वार्षिक साधारण ब्याज की दर से ₹3,35,180 की राशि उधार ली। प्रथम वर्ष की समाप्ति पर, वह उधार ली गई मूल राशि की वापसी के लिए ₹23,060 चुकाता है। यदि प्रणव दूसरे वर्ष की समाप्ति पर सभी लंबित बकाया राशि का भुगतान करता है, जिसमें प्रथम वर्ष के दौरान अर्जित ब्याज भुगतान भी शामिल है, तो वह दूसरे वर्ष की समाप्ति पर कितना भुगतान (₹ में) करेगा?

Ans
✗ 1. 3,93,949
✗ 2. 3,88,076
✗ 3. 3,98,876
✓ 4. 3,96,269

Question ID : **630680809870**
Option 1 ID : **6306803173061**
Option 2 ID : **6306803173062**
Option 3 ID : **6306803173060**
Option 4 ID : **6306803173059**
Status : **Answered**
Chosen Option : **4**

Q.10 वर्ष 2021 में रमेश की मासिक आय ₹18,600 थी और उसका मासिक खर्च ₹12,400 था। वर्ष 2022 में उसकी आय 15 प्रतिशत और खर्च 8 प्रतिशत बढ़ गया। उसकी बचत में प्रतिशत वृद्धि की गणना करें।

Ans
✓ 1. 29%
✗ 2. 32%
✗ 3. 27%
✗ 4. 25%

Question ID : **630680395440**
Option 1 ID : **6306801541942**
Option 2 ID : **6306801541943**
Option 3 ID : **6306801541941**
Option 4 ID : **6306801541940**
Status : **Answered**
Chosen Option : **1**

Q.11 सीमा 3 चक्कर प्रति घंटे की दर से एक वृत्ताकार मैदान के चारों ओर घूमती है, जबकि प्रिया 8 चक्कर प्रति घंटे की दर से इसी मैदान के चारों ओर दौड़ती है। वे दोनों 11:54 p.m. बजे एक ही स्थान से एक ही दिशा में बढ़ना शुरू करती हैं। वे दोनों पहली बार एक दूसरे को कितने बजे पार करेंगी?

Ans
✗ 1. 11:59 p.m.
✓ 2. 12:06 a.m.
✗ 3. 12:00 a.m.
✗ 4. 12:06 p.m.

Question ID : **630680428337**
Option 1 ID : **6306801671394**
Option 2 ID : **6306801671392**
Option 3 ID : **6306801671395**
Option 4 ID : **6306801671393**
Status : **Answered**
Chosen Option : **2**

Q.12 तीन दिनों में दो प्रिंटर P1 और P2 द्वारा मुद्रित पृष्ठों की संख्या निम्नलिखित तालिका में दी गई है। तालिका का ध्यानपूर्वक अध्ययन कीजिए और नीचे दिए गए प्रश्न का उत्तर दीजिए।

दिन/प्रिंटर	P1	P2
सोमवार	200	250
मंगलवार	150	300
बुधवार	225	210

इन तीन दिनों के दौरान दोनों प्रिंटरों द्वारा मुद्रित पृष्ठों की कुल संख्या के बीच कितना अंतर है?

Ans
✓ 1. 185
✗ 2. 170
✗ 3. 175
✗ 4. 180

Question ID : **630680428188**
Option 1 ID : **6306801670799**
Option 2 ID : **6306801670796**
Option 3 ID : **6306801670797**
Option 4 ID : **6306801670798**
Status : **Answered**
Chosen Option : **1**

Q.13 'x', 'y' के घन के अनुक्रमानुपाती और 'z' के वर्ग के व्युत्क्रमानुपाती है। यदि y = 2 और z = 3 होने पर x = 1/36 है, तो y = 3 और z = 5 होने पर 800x का मान क्या होगा?

Ans
1. 9
2. $\frac{800}{9}$
3. 27
4. $\frac{9}{800}$

Question ID : **630680524233**
Option 1 ID : **6306802049086**
Option 2 ID : **6306802049083**
Option 3 ID : **6306802049085**
Option 4 ID : **6306802049084**
Status : **Answered**
Chosen Option : **3**

Q.14 एक कंपनी द्वारा तीन वर्षों की अवधि में निर्मित दो प्रकार की साइकिलों B1 और B2 की बिक्री (₹ लाख में) नीचे दी गई तालिका में दिखाई गई है।

वर्ष	B1	B2
2004	195	284
2005	230	300
2006	250	416

2004 से 2006 तक, साइकिल B1 की कुल बिक्री का और साइकिल B2 की कुल बिक्री का अनुपात क्या है?

Ans
1. 40 : 27
2. 10 : 9
3. 9 : 10
4. 27 : 40

Question ID : **630680421282**
Option 1 ID : **6306801643603**
Option 2 ID : **6306801643606**
Option 3 ID : **6306801643604**
Option 4 ID : **6306801643605**
Status : **Answered**
Chosen Option : **4**

Q.15 दिए गए दंड-आलेख का अध्ययन कीजिए और नीचे दिए गए प्रश्न का उत्तर दीजिए।
दंड-आलेख दो क्रमिक वर्षों 2000 और 2001 के दौरान एक प्रकाशन कंपनी की छह शाखाओं (B1, B2, B3, B4, B5 और B6) से पुस्तकों की बिक्री (हजार में) दर्शाता है।

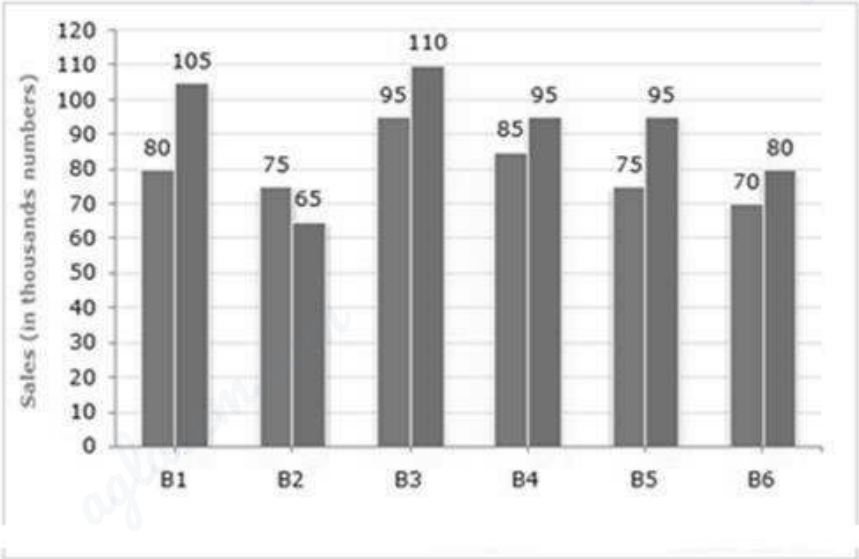

Sales (in thousands numbers) = बिक्री (हजार में)
Branches = शाखाएं
2000 में शाखाओं B1, B3 और B6 की औसत बिक्री, 2001 में शाखाओं B1, B2 और B3 की औसत बिक्री का कितने प्रतिशत है?

Ans
✗ 1. 80.25%
✗ 2. 65.25%
✗ 3. 78.5%
✓ 4. 87.5%

Question ID : **630680428211**
Option 1 ID : **6306801670890**
Option 2 ID : **6306801670888**
Option 3 ID : **6306801670889**
Option 4 ID : **6306801670891**
Status : **Answered**
Chosen Option : **4**

Q.16 एक नल एक टंकी को 10 मिनट में भर सकता है और दूसरा नल इसे 12 मिनट में खाली कर सकता है। यदि दोनों नल खुले हैं, तो टंकी भरने में लगने वाला समय (घंटों में) कितना होगा?

Ans
✓ 1. 1 घंटा
✗ 2. 1.5 घंटे
✗ 3. 2.5 घंटे
✗ 4. 2 घंटे

Question ID : **630680488432**
Option 1 ID : **6306801907767**
Option 2 ID : **6306801907768**
Option 3 ID : **6306801907770**
Option 4 ID : **6306801907769**
Status : **Answered**
Chosen Option : **1**

Q.17 यदि secθ + tanθ = x है, तो sinθ का मान ज्ञात कीजिए।

Ans

✗ 1. $\frac{x^2+1}{1-x^2}$

✓ 2. $\frac{x^2-1}{1+x^2}$

✗ 3. $\frac{1-x^2}{1+x^2}$

✗ 4. $\frac{x^2-1}{1+2x^2}$

Question ID : **630680526639**
Option 1 ID : **6306802058624**
Option 2 ID : **6306802058622**
Option 3 ID : **6306802058623**
Option 4 ID : **6306802058625**
Status : **Answered**
Chosen Option : **2**

Q.18 △PQR में, S और T क्रमशः भुजाओं PQ और PR के मध्यबिंदु हैं। भुजा QR की लंबाई 12 cm है। यदि ST, QR के समांतर हो, तो ST की लंबाई (cm में) ज्ञात कीजिए।

Ans

✗ 1. 8

✗ 2. 4

✗ 3. 10

✓ 4. 6

Question ID : **630680383486**
Option 1 ID : **6306801494841**
Option 2 ID : **6306801494839**
Option 3 ID : **6306801494842**
Option 4 ID : **6306801494840**
Status : **Answered**
Chosen Option : **4**

Q.19 समीकरण $9 \times N \text{ of } 4 \div 4 - 15 \times 4 = 12$ में N का मान क्या है?

Ans

✗ 1. 12

✗ 2. 0

✗ 3. 9

✓ 4. 8

Question ID : **630680397187**
Option 1 ID : **6306801548804**
Option 2 ID : **6306801548805**
Option 3 ID : **6306801548807**
Option 4 ID : **6306801548806**
Status : **Answered**
Chosen Option : **4**

Q.20 सिंडी ने 15 सेब और 12 संतरे खरीदे और इस खरीद के लिए ₹447 का भुगतान किया। नीचे दिए गए कथनों में से कौन-सा कथन, पिछले कथन में दी गई जानकारी से परस्पर विरोधी है, जिससे दोनों फलों की कोई संभावित कीमत नहीं हो सकती है?

Ans
✗ 1. 12 सेब और 8 संतरे खरीदे और ₹340 का भुगतान किया
✓ 2. 35 सेब और 28 संतरे खरीदे और ₹1,029 का भुगतान किया
✗ 3. 10 सेब और 13 संतरे खरीदे और ₹353 का भुगतान किया
✗ 4. 25 सेब और 20 संतरे खरीदे और ₹745 का भुगतान किया

Question ID : **630680196068**
Option 1 ID : **630680760660**
Option 2 ID : **630680760661**
Option 3 ID : **630680760662**
Option 4 ID : **630680760659**
Status : **Answered**
Chosen Option : **2**

Q.21

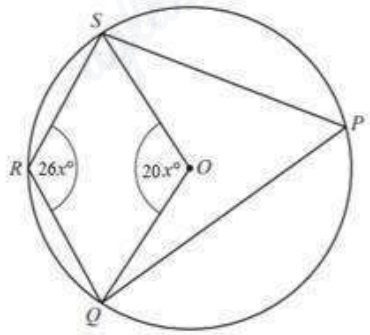

पैमाने के अनुसार नहीं है

ऊपर दर्शाए गए चित्र में चतुर्भुज PQRS के शीर्ष O केंद्र वाले वृत्त की परिधि पर स्थित हैं। यदि m∠QOS = 20x° और m∠QRS = 26x° है, तो 'x' का मान क्या है?

Ans
✗ 1. 3
✓ 2. 5
✗ 3. 4
✗ 4. 6

Question ID : **630680196682**
Option 1 ID : **630680763030**
Option 2 ID : **630680763028**
Option 3 ID : **630680763029**
Option 4 ID : **630680763027**
Status : **Answered**
Chosen Option : **2**

Q.22 $3\sin 15^\circ - 4\sin^3 15^\circ$ का मान ज्ञात कीजिए।

Ans
✔ 1. $\frac{1}{\sqrt{2}}$
✘ 2. $\sqrt{2}$
✘ 3. $\frac{1}{2}$
✘ 4. 2

Question ID : **630680397494**
Option 1 ID : **6306801549900**
Option 2 ID : **6306801549899**
Option 3 ID : **6306801549898**
Option 4 ID : **6306801549901**
Status : **Answered**
Chosen Option : **1**

Q.23 एक वृत्त की परिधि और व्यास का अनुपात 3 : 5 है। यदि परिधि 6 cm है, तो वृत्त की त्रिज्या ज्ञात कीजिए।

Ans
✘ 1. 1.8 cm
✘ 2. 10 cm
✔ 3. 5 cm
✘ 4. 15 cm

Question ID : **630680397485**
Option 1 ID : **6306801549865**
Option 2 ID : **6306801549863**
Option 3 ID : **6306801549862**
Option 4 ID : **6306801549864**
Status : **Answered**
Chosen Option : **3**

Q.24 $\left(\frac{5}{\sqrt{3}} - \text{cosec } 60^\circ\right)$ का मान कितना होगा?

Ans
✘ 1. $3\sqrt{3}$
✔ 2. $\sqrt{3}$
✘ 3. $\frac{2}{\sqrt{3}}$
✘ 4. $\frac{1}{\sqrt{3}}$

Question ID : **630680397721**
Option 1 ID : **6306801550882**
Option 2 ID : **6306801550881**
Option 3 ID : **6306801550880**
Option 4 ID : **6306801550879**
Status : **Answered**
Chosen Option : **2**

Q.25 नीचे दी गई सारणी वर्ष 2016 से 2020 के दौरान तीन कंपनियों द्वारा उत्पादित शीतल पेय की 1 लीटर की बोतलों की संख्या को दर्शाती है। दी गई जानकारी का ध्यानपूर्वक अध्ययन कीजिए और नीचे दिए गए प्रश्न का उत्तर दीजिए।

वर्ष	A (लाख में)	B (लाख में)	C (लाख में)
2016	38,000	43,000	51,000
2017	41,000	52,000	57,000
2018	53,000	65,000	63,000
2019	30,000	35,000	32,000
2020	20,000	25,000	28,000

2016 से 2018 के दौरान A और C के औसत उत्पादन (लाख में) में कितना अंतर है?

Ans
✗ 1. 7800
✓ 2. 13,000
✗ 3. 9500
✗ 4. 14,000

Question ID : **630680399114**
Option 1 ID : **6306801556415**
Option 2 ID : **6306801556414**
Option 3 ID : **6306801556417**
Option 4 ID : **6306801556416**
Status : **Answered**
Chosen Option : **2**

Section : **English Comprehension**

Q.1 Select the most appropriate synonym of the word in bold.
The choice was **judicious** as further events proved.

Ans
✗ 1. ridiculous
✗ 2. hasty
✓ 3. prudent
✗ 4. silly

Question ID : **630680319159**
Option 1 ID : **6306801241542**
Option 2 ID : **6306801241544**
Option 3 ID : **6306801241541**
Option 4 ID : **6306801241543**
Status : **Answered**
Chosen Option : **3**

Q.2 **Parts of a sentence are given below in jumbled order. Select the option that arranges the parts in the correct sequence to form a meaningful sentence.**
(P) hard work and perseverance
(Q) no matter how difficult
(O) lead to success
(R) the journey may seem

Ans
✗ 1. ORQP
✗ 2. RPOQ
✗ 3. RPQO
✓ 4. POQR

Question ID : **630680380982**
Option 1 ID : **6306801484917**
Option 2 ID : **6306801484915**
Option 3 ID : **6306801484918**
Option 4 ID : **6306801484916**
Status : **Answered**
Chosen Option : **4**

Q.3 **The following sentence has been divided into four segments. Identify the segment that contains a grammatical error.**

Please go and meet the chairperson. / She will be / away for the / few next days.

Ans
✗ 1. away for the
✗ 2. She will be
✗ 3. Please go and meet the chairperson.
✓ 4. few next days.

Question ID : **630680300630**
Option 1 ID : **6306801169345**
Option 2 ID : **6306801169344**
Option 3 ID : **6306801169343**
Option 4 ID : **6306801169346**
Status : **Answered**
Chosen Option : **4**

Q.4 **Select the option that expresses the given sentence in passive voice.**
We should clean the house regularly.

Ans
✗ 1. The house should be clean regularly by us.
✗ 2. The house should have been cleaned regularly by us.
✓ 3. The house should be cleaned regularly by us.
✗ 4. The house should be being cleaned regularly by us.

Question ID : **630680415298**
Option 1 ID : **6306801619942**
Option 2 ID : **6306801619941**
Option 3 ID : **6306801619939**
Option 4 ID : **6306801619940**
Status : **Answered**
Chosen Option : **3**

Q.5 **Select the most appropriate option to substitute the underlined segment in the given sentence.**
The line, 'Round the rugged rocks the ragged rascal ran' uses the repetition of usually initial consonant sounds in two or more neighbouring words or syllables .

Ans
✗ 1. allegory
✗ 2. simile
✓ 3. alliteration
✗ 4. epithet

Question ID : **630680170438**
Option 1 ID : **630680660348**
Option 2 ID : **630680660346**
Option 3 ID : **630680660347**
Option 4 ID : **630680660345**
Status : **Answered**
Chosen Option : **3**

Q.6 **Read the sentence carefully and select the ANTONYM of the underlined word from the given options.**
I heard his suggestion but I am quite unsure about the risks involved in it.

Ans
✗ 1. Interested
✓ 2. Certain
✗ 3. Thoughtful
✗ 4. Doubtful

Question ID : **630680517493**
Option 1 ID : **6306802022369**
Option 2 ID : **6306802022370**
Option 3 ID : **6306802022371**
Option 4 ID : **6306802022368**
Status : **Answered**
Chosen Option : **2**

Q.7 **Select the option that substitutes the INCORRECTLY spelt word in the given sentence.**
In any time of crisis, there is always one mument that stands out from all the others.

Ans
✗ 1. momont
✗ 2. mumont
✗ 3. mumunt
✓ 4. moment

Question ID : **630680375547**
Option 1 ID : **6306801463344**
Option 2 ID : **6306801463343**
Option 3 ID : **6306801463345**
Option 4 ID : **6306801463346**
Status : **Answered**
Chosen Option : **4**

Q.8 **Select the most appropriate option to substitute the underlined segment in the given sentence.**
The betrayer of the country was at last unmasked.

Ans
✗ 1. theist
✗ 2. truant
✗ 3. transgressor
✓ 4. traitor

Question ID : **630680170439**
Option 1 ID : **630680660352**
Option 2 ID : **630680660350**
Option 3 ID : **630680660349**
Option 4 ID : **630680660351**
Status : **Answered**
Chosen Option : **4**

Q.9 **Select the most appropriate option to fill in the blank.**

The mother couldn't _____ such an insult from her son in front of the others.

Ans
✓ 1. bear
✗ 2. beer
✗ 3. bier
✗ 4. bare

Question ID : **63068069103**
Option 1 ID : **630680267091**
Option 2 ID : **630680267092**
Option 3 ID : **630680267093**
Option 4 ID : **630680267090**
Status : **Answered**
Chosen Option : **1**

Q.10 **Sentences of a paragraph are given below in jumbled order. Select the option that arranges the sentences in the correct order to form a meaningful and coherent paragraph.**
A. Summative assessment is the assignment of the student's performance at the end of the academic term.
B. This new pattern ensures that besides just textbook teaching and learning, effective child-teacher interaction is encouraged.
C. The CBSE envisages two types of examinations, Formative and Summative.
D. Formative assessment is a part of the teaching-learning process and is done through conversation, quizzes, interviews, projects, assignments, etc.

Ans
✗ 1. D, A, C, B
✗ 2. B, C, A, D
✗ 3. A, B, C, D
✓ 4. C, D, A, B

Question ID : **630680168496**
Option 1 ID : **630680652597**
Option 2 ID : **630680652599**
Option 3 ID : **630680652596**
Option 4 ID : **630680652598**
Status : **Answered**
Chosen Option : **4**

Q.11 **Select the most appropriate homophone to fill in the blank.**
Ruby gave her mother a hug and offered to knead the _____.

Ans
✗ 1. flora
✗ 2. floor
✓ 3. flour
✗ 4. flavour

Question ID : **630680158492**
Option 1 ID : **630680613492**
Option 2 ID : **630680613495**
Option 3 ID : **630680613494**
Option 4 ID : **630680613493**
Status : **Answered**
Chosen Option : **3**

Q.12 **Select the most appropriate synonym for the underlined word in the given sentence.**
It was his decency that he employed him.

Ans
✗ 1. Perversion
✗ 2. Rudeness
✗ 3. Deception
✓ 4. Courtesy

Question ID : **630680167054**
Option 1 ID : **630680647079**
Option 2 ID : **630680647076**
Option 3 ID : **630680647078**
Option 4 ID : **630680647077**
Status : **Answered**
Chosen Option : **4**

Q.13 **Select the most appropriate ANTONYM of the word in the brackets to fill in the blank.**

She left the party _____ because of her parents' strict time restrictions. [late]

Ans
✓ 1. early
✗ 2. exit
✗ 3. suffer
✗ 4. small

Question ID : **630680132562**
Option 1 ID : **630680513384**
Option 2 ID : **630680513383**
Option 3 ID : **630680513382**
Option 4 ID : **630680513385**
Status : **Answered**
Chosen Option : **1**

Q.14 **Parts of the following sentence have been given as options. Select the option that contains an error.**

While I was walking to the store, my friend calls me and ask for a favour.

Ans

✗ 1. for a favour

✗ 2. While I was walking

✗ 3. to the store

✓ 4. my friend calls me and ask

Question ID : **630680514355**
Option 1 ID : **6306802010048**
Option 2 ID : **6306802010045**
Option 3 ID : **6306802010046**
Option 4 ID : **6306802010047**
Status : **Answered**
Chosen Option : **4**

Q.15 **Select the correct idiom to substitute the underlined segment in the following sentence.**
Due to her impoverished state, most of her relatives treated her with contempt.

Ans

✗ 1. Gave a wide space to her

✗ 2. Turned the corner at her

✗ 3. Came in handy

✓ 4. Turned up their nose at her

Question ID : **63068084494**
Option 1 ID : **630680327530**
Option 2 ID : **630680327529**
Option 3 ID : **630680327531**
Option 4 ID : **630680327528**
Status : **Answered**
Chosen Option : **4**

Q.16 **Select the most appropriate option to substitute the underlined word segment in the given sentence.**
I picked up my little clock and it began to dance gracefully.

Ans

✓ 1. chime prettily

✗ 2. move gradually

✗ 3. work agreeably

✗ 4. lift smoothly

Question ID : **630680168513**
Option 1 ID : **630680652665**
Option 2 ID : **630680652664**
Option 3 ID : **630680652666**
Option 4 ID : **630680652667**
Status : **Answered**
Chosen Option : **3**

Q.17 **Select the most appropriate meaning of the given idiom.**
Let the dust settle

Ans
✗ 1. Wait for the other person to make a move

✓ 2. To wait for a situation to become clear or certain

✗ 3. To make a space tidy

✗ 4. To make use of a situation

Question ID : **630680375531**
Option 1 ID : **6306801463281**
Option 2 ID : **6306801463279**
Option 3 ID : **6306801463280**
Option 4 ID : **6306801463282**
Status : **Answered**
Chosen Option : **2**

Q.18 **Select the sentence that contains a spelling error.**

Ans
✓ 1. There are many believes about ancient artefacts that some of them are patently not true.

✗ 2. It is important for scientists to acknowledge their humanity and the implications of their inventions.

✗ 3. Intriguing as it is, the house was never sold because it was thought to be haunted.

✗ 4. Fermented apple juice is touted to have many health benefits though most are anecdotal and not supported by scientific facts.

Question ID : **630680409933**
Option 1 ID : **6306801598564**
Option 2 ID : **6306801598561**
Option 3 ID : **6306801598562**
Option 4 ID : **6306801598563**
Status : **Answered**
Chosen Option : **4**

Q.19 **Select the option that expresses the given sentence in active voice.**
His father's arm was bandaged by the kind nurse.

Ans
✗ 1. The kind nurse bandages his father's arm.

✗ 2. The kind nurse had bandaged his father's arm.

✗ 3. The kind nurse has bandaged his father's arm.

✓ 4. The kind nurse bandaged his father's arm.

Question ID : **630680415283**
Option 1 ID : **6306801619881**
Option 2 ID : **6306801619880**
Option 3 ID : **6306801619882**
Option 4 ID : **6306801619879**
Status : **Answered**
Chosen Option : **4**

Q.20 **Select the option that can be used as a one-word substitute for the underlined group of words.**

The soldier struck the enemy with the <u>short sword fixed onto the end of the gun.</u>

Ans

✗ 1. Baton

✗ 2. Bigot

✓ 3. Bayonet

✗ 4. Baron

Question ID : **630680129381**
Option 1 ID : **630680501143**
Option 2 ID : **630680501144**
Option 3 ID : **630680501142**
Option 4 ID : **630680501145**
Status : **Answered**
Chosen Option : **1**

Comprehension:

In the following passage, some words have been deleted. Read the passage carefully and select the most appropriate option to fill in each blank.
The rise in global temperature (1)_____ already occurred is leading to extreme weather events that bring (2)_____ heat waves and droughts, devastating floods and increasingly powerful hurricanes and tropical storms. The combination of these factors means the impact on human health is increasing and is (3)_____ accelerate. But there is room for hope, particularly if governments take action now to (4)_____ the pledges made at Glasgow in November 2021 and to go further in resolving the climate crisis. WHO is (5)_____ governments to lead a just, equitable, and fast phase out of fossil fuels and transition to a clean energy future.

SubQuestion No : 21

Q.21 **Select the most appropriate option to fill in blank number 1.**

Ans

✓ 1. that has

✗ 2. that is

✗ 3. which had

✗ 4. which have

Question ID : **630680158847**
Option 1 ID : **630680614866**
Option 2 ID : **630680614867**
Option 3 ID : **630680614865**
Option 4 ID : **630680614864**
Status : **Answered**
Chosen Option : **1**

Comprehension:

In the following passage, some words have been deleted. Read the passage carefully and select the most appropriate option to fill in each blank.
The rise in global temperature (1)_____ already occurred is leading to extreme weather events that bring (2)_____ heat waves and droughts, devastating floods and increasingly powerful hurricanes and tropical storms. The combination of these factors means the impact on human health is increasing and is (3)_____ accelerate. But there is room for hope, particularly if governments take action now to (4)_____ the pledges made at Glasgow in November 2021 and to go further in resolving the climate crisis. WHO is (5)_____ governments to lead a just, equitable, and fast phase out of fossil fuels and transition to a clean energy future.

SubQuestion No : 22

Q.22 Select the most appropriate option to fill in blank number 2.

Ans
✗ 1. maximise
✓ 2. intense
✗ 3. minor
✗ 4. mild

Question ID : **630680158848**
Option 1 ID : **630680614871**
Option 2 ID : **630680614868**
Option 3 ID : **630680614869**
Option 4 ID : **630680614870**
Status : **Answered**
Chosen Option : **2**

Comprehension:

In the following passage, some words have been deleted. Read the passage carefully and select the most appropriate option to fill in each blank.
The rise in global temperature (1)_____ already occurred is leading to extreme weather events that bring (2)_____ heat waves and droughts, devastating floods and increasingly powerful hurricanes and tropical storms. The combination of these factors means the impact on human health is increasing and is (3)_____ accelerate. But there is room for hope, particularly if governments take action now to (4)_____ the pledges made at Glasgow in November 2021 and to go further in resolving the climate crisis. WHO is (5)_____ governments to lead a just, equitable, and fast phase out of fossil fuels and transition to a clean energy future.

SubQuestion No : 23

Q.23 Select the most appropriate option to fill in blank number 3.

Ans
✗ 1. hardly to
✗ 2. barely to
✓ 3. likely to
✗ 4. rarely to

Question ID : **630680158849**
Option 1 ID : **630680614872**
Option 2 ID : **630680614874**
Option 3 ID : **630680614875**
Option 4 ID : **630680614873**
Status : **Answered**
Chosen Option : **3**

Comprehension:

In the following passage, some words have been deleted. Read the passage carefully and select the most appropriate option to fill in each blank.
The rise in global temperature (1)_____ already occurred is leading to extreme weather events that bring (2)_____ heat waves and droughts, devastating floods and increasingly powerful hurricanes and tropical storms. The combination of these factors means the impact on human health is increasing and is (3)_____ accelerate. But there is room for hope, particularly if governments take action now to (4)_____ the pledges made at Glasgow in November 2021 and to go further in resolving the climate crisis. WHO is (5)_____ governments to lead a just, equitable, and fast phase out of fossil fuels and transition to a clean energy future.

SubQuestion No : 24

Q.24 Select the most appropriate option to fill in blank number 4.

Ans

✗ 1. watch

✗ 2. keep

✗ 3. take

✓ 4. honour

Question ID : **630680158850**
Option 1 ID : **630680614878**
Option 2 ID : **630680614877**
Option 3 ID : **630680614879**
Option 4 ID : **630680614876**
Status : **Answered**
Chosen Option : **2**

Comprehension:

In the following passage, some words have been deleted. Read the passage carefully and select the most appropriate option to fill in each blank.
The rise in global temperature (1)_____ already occurred is leading to extreme weather events that bring (2)_____ heat waves and droughts, devastating floods and increasingly powerful hurricanes and tropical storms. The combination of these factors means the impact on human health is increasing and is (3)_____ accelerate. But there is room for hope, particularly if governments take action now to (4)_____ the pledges made at Glasgow in November 2021 and to go further in resolving the climate crisis. WHO is (5)_____ governments to lead a just, equitable, and fast phase out of fossil fuels and transition to a clean energy future.

SubQuestion No : 25

Q.25 Select the most appropriate option to fill in blank number 5.

Ans

✓ 1. calling on

✗ 2. calling from

✗ 3. calling for

✗ 4. calling at

Question ID : **630680158851**
Option 1 ID : **630680614883**
Option 2 ID : **630680614882**
Option 3 ID : **630680614880**
Option 4 ID : **630680614881**
Status : **Answered**
Chosen Option : **1**