दिल्ली नगर निगम (Municipal Corporation of Delhi)
मध्यावधि परीक्षा (Mid Term Exam) 2023-24

कक्षा/Class 1 | **विषय – गणित /Subject: Mathematics**

समय -2 घंटे /Time: 2 hours | **कुल अंक / Maximum Marks: 60**

---

1. सही उत्तर पर निशान लगाएं। **(2 × 9 = 18)**

Tick the correct option.

a) लंबी वस्तु पर निशान लगाइए।
Tick the longer object.

i.
ii.



b) किस समूह में वस्तुओं की संख्या कम है?
Which group has fewer/less number of objects?



c) कौन सा हल्का है?
Tick the lighter object ?



d) किस समूह में अधिक वस्तुएँ हैं?
Which group has more objects?



e) कौन सा चित्र दर्शाता है 7+2 =?
Which picture shows 7+2 = ?

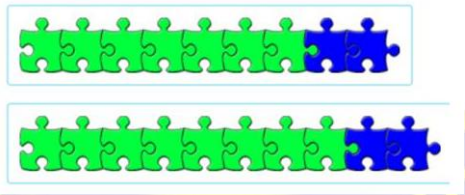

f) कौन सी वस्तु मेज के ऊपर है?
Which object is on the table?

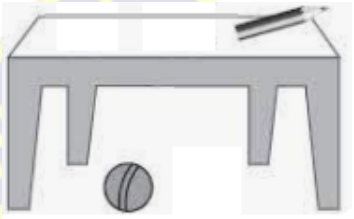

g) कौन सा तारा अलग है?
Which star is different?



h) 16 और 18 के बीच कौन सी संख्या आती है?
Which number comes between 16 and 18?

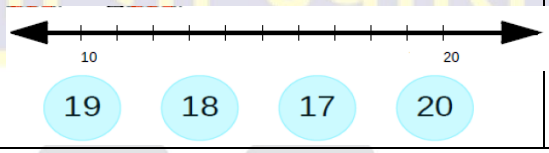

i) घटा /Subtract
कुल 7 में से 3 हटाओ
Cross out 3 from 7

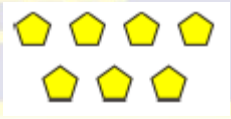

7-3 = _____

---

2. दी गई संख्याओं के पहले, बाद और बीच में आने वाली संख्या लिखिए। **(2 × 5 = 10)**

Write the numbers that comes before, after and in between the given numbers.



3. प्रत्येक वस्तु को गिनें और सही संख्या पर गोला लगाएं। **(2 × 6 = 12)**

Count each item and circle the correct number.

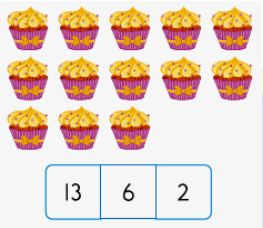

13	6	2



9	5	10



3	12	7



5	6	13



1	12	3

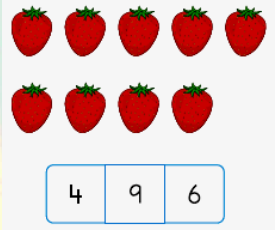

4	9	6

4. **चित्र को पूरा करने के लिए बिंदुओं को जोड़ें और रंग भरें।** **(2 × 5 = 10)**

Join the dots to complete the picture and colour it.

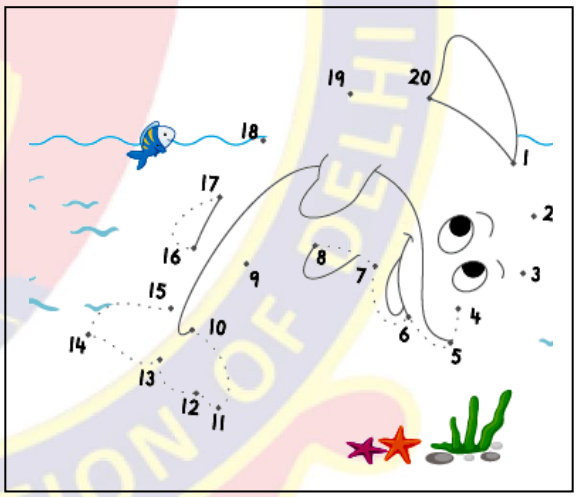

5. **डिब्बों की संख्या गिनें और जोड़ें। एक उदाहरण आपके लिए किया गया है।** **(2 × 5 = 10)**

Count and add the number of blocks. One example has been done for you.

1.  0 + 7 = 7

2.  ☐ + ☐ = ☐

3.  ☐ + ☐ = ☐

4.  ☐ + ☐ = ☐

5.  ☐ + ☐ = ☐

6.  ☐ + ☐ = ☐

तमसो मा ज्योतिर्गमय
2023-24