aglasem.com

FOR SSC CGL EXAM PREPARATION

SSC CGL 2024 Question Paper · Tier 1 Exam All Shifts (in Hindi)

EXAM	YEAR	TYPE	SUBJECT
SSC CGL	2024	Question Paper	Tier 1 Exam All Shifts (in Hindi)

DATE

19 Sep

Combined Graduate Level Examination 2024 Tier I

Roll Number	
Candidate Name	
Venue Name	
Exam Date	19/09/2024
Exam Time	9:00 AM - 10:00 AM
Subject	Combined Graduate Level Examination Tier I

Section : **General Intelligence and Reasoning**

Q.1 **BIRTHDAY - IBTRDHYA**
BLAZER - LBZARE
REMOVE - ?
पदों के पहले दो युग्मों के लिए लागू किए गए तर्क का उपयोग करते हुए, उस पद का चयन करें जो तीसरे युग्म में प्रश्न चिह्न (?) को प्रतिस्थापित कर सकता है।

Ans
✗ 1. ERMOVE
✓ 2. EROMEV
✗ 3. EVOMER
✗ 4. EROMVE

Question ID : **63068082921**
Option 1 ID : **630680321545**
Option 2 ID : **630680321547**
Option 3 ID : **630680321544**
Option 4 ID : **630680321546**
Status : **Answered**
Chosen Option : **2**

Q.2 विकल्पों में दी गई उस आकृति की पहचान कीजिए जिसे ? के स्थान पर रखने पर श्रृंखला तर्कसंगत रूप से पूर्ण हो जाएगी।

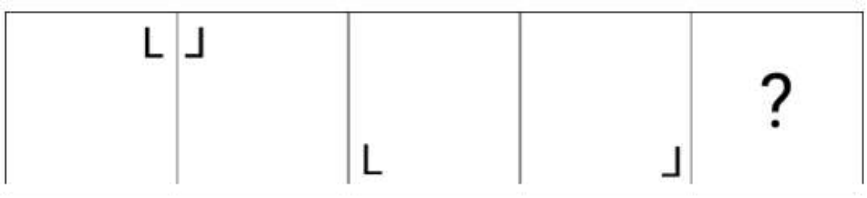

Ans

✗ 1.

✓ 2. 

✗ 3. 

✗ 4. 

Question ID : **630680524407**
Option 1 ID : **6306802049728**
Option 2 ID : **6306802049730**
Option 3 ID : **6306802049729**
Option 4 ID : **6306802049727**
Status : **Answered**
Chosen Option : **2**

Q.3 'घूमना' (Wander), 'भ्रमण' (Ramble) से उसी प्रकार संबंधित है, जिस प्रकार 'भटकना' (Stray) '_____' से संबंधित है।
(शब्दों को सार्थक हिंदी शब्द माना जाना चाहिए और शब्दों को अक्षरों की संख्या/व्यंजनों/स्वरों की संख्या के आधार पर एक दूसरे से संबंधित नहीं किया जाना चाहिए।)

Ans

✓ 1. बेतरतीब (Random)

✗ 2. यात्रा (Trek)

✗ 3. स्थिर (Steady)

✗ 4. सतत (Constant)

Question ID : **630680416710**
Option 1 ID : **6306801625605**
Option 2 ID : **6306801625606**
Option 3 ID : **6306801625604**
Option 4 ID : **6306801625603**
Status : **Answered**
Chosen Option : **2**

Q.4 एक निश्चित तर्क का अनुसरण करते हुए 17 का संबंध 21 से है। उसी तर्क का अनुसरण करते हुए, 22 का संबंध 36 से है। उसी तर्क का अनुसरण करते हुए, 29 का संबंध निम्नलिखित में से किससे है? (नोट: संख्याओं को उनके घटक अंकों में विभक्त किए बिना पूर्ण संख्याओं पर संक्रियाएं की जानी चाहिए। उदाहरण के लिए 13 को लें- 13 पर संक्रियाएं, जैसे कि जोड़ना/घटाना/गुणा आदि 13 में की जा सकती हैं। 13 को 1 और 3 में विभक्त करना और फिर 1 और 3 पर गणितीय संक्रियाएं करने की अनुमति नहीं है।)

Ans
✗ 1. 46
✗ 2. 49
✓ 3. 57
✗ 4. 58

Question ID : **630680344258**
Option 1 ID : **6306801339348**
Option 2 ID : **6306801339347**
Option 3 ID : **6306801339345**
Option 4 ID : **6306801339346**
Status : **Not Attempted and Marked For Review**
Chosen Option : **--**

Q.5 अंग्रेजी वर्णानुक्रम पर आधारित, निम्नलिखित चार अक्षर-समूहों में से तीन अक्षर-समूह एक निश्चित तरीके से समान हैं और इसलिए एक समूह बनाते हैं। वह कौन सा अक्षर-समूह है, जो उस समूह से संबंधित नहीं है?
(नोट: असंगत अक्षर-समूह, अक्षर-समूह में व्यंजनों/स्वरों की संख्या या उनकी स्थिति पर आधारित नहीं है।)

Ans
✓ 1. CHE
✗ 2. MSP
✗ 3. AGD
✗ 4. FLI

Question ID : **630680798706**
Option 1 ID : **6306803129685**
Option 2 ID : **6306803129687**
Option 3 ID : **6306803129684**
Option 4 ID : **6306803129686**
Status : **Answered**
Chosen Option : **1**

Q.6 नीचे संख्याओं के दो समुच्चय दिए गए हैं। संख्याओं के प्रत्येक समुच्चय में, पहली संख्या पर कुछ निश्चित गणितीय संक्रिया करने पर दूसरी संख्या प्राप्त होती है। इसी प्रकार, दूसरी संख्या पर कुछ निश्चित गणितीय संक्रिया करने पर तीसरी संख्या प्राप्त होती है और इसी तरह आगे भी होती है। दिए गए विकल्पों में से कौन-सा विकल्प दिए गए समुच्चयों की तरह संक्रियाओं के समान समुच्चय का अनुसरण करता है?

(नोट: संख्याओं को उनके घटक अंकों में तोड़े बिना, पूर्ण संख्याओं पर संक्रियाएँ की जानी चाहिए। उदाहरण के लिए 13 लीजिए - 13 पर की जाने वाली संक्रियाएँ जैसे कि 13 में जोड़ना/घटाना/गुणा करना आदि केवल 13 पर किया जा सकता है। 13 को 1 और 3 में तोड़ना, तथा 1 और 3 पर गणितीय संक्रिया करने की अनुमति नहीं है।)

11 – 14 – 8 – 17; 12 – 15 – 9 – 18

Ans
✓ 1. 6 – 9 – 3 – 12
✗ 2. 4 – 7 – 12 – 18
✗ 3. 5 – 8 – 3 – 10
✗ 4. 3 – 6 – 2 – 8

Question ID : **630680814078**
Option 1 ID : **6306803189532**
Option 2 ID : **6306803189530**
Option 3 ID : **6306803189531**
Option 4 ID : **6306803189529**
Status : **Answered**
Chosen Option : **1**

Q.7 एक निश्चित कूट भाषा में, 'TOUGH' को '89251' के रूप में कूटबद्ध किया जाता है और 'GHOST' को '93258' के रूप में कूटबद्ध किया जाता है। दी गई कूट भाषा में 'S' के लिए कूट क्या है?

Ans
✔ 1. 3
✘ 2. 8
✘ 3. 9
✘ 4. 1

Question ID : **630680797482**
Option 1 ID : **6306803124886**
Option 2 ID : **6306803124884**
Option 3 ID : **6306803124885**
Option 4 ID : **6306803124887**
Status : **Answered**
Chosen Option : **1**

Q.8 एक निश्चित कूट भाषा में, 'SHE' को 'EIT' लिखा जाता है और 'SAD' को 'DBT' लिखा जाता है। इसी कूट भाषा में 'SUN' को किस प्रकार लिखा जाएगा?

Ans
✘ 1. NTV
✘ 2. NTY
✘ 3. NYT
✔ 4. NVT

Question ID : **630680416249**
Option 1 ID : **6306801623760**
Option 2 ID : **6306801623759**
Option 3 ID : **6306801623761**
Option 4 ID : **6306801623762**
Status : **Answered**
Chosen Option : **4**

Q.9 जब दर्पण को MN पर रखा जाता हो तो दी गई आकृति के सही दर्पण प्रतिबिंब का चयन कीजिए।

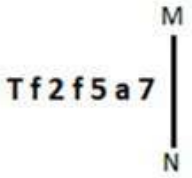

Ans
✘ 1. 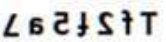
✘ 2. 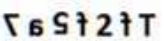
✔ 3. 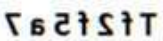
✘ 4.

Question ID : **630680325834**
Option 1 ID : **6306801267530**
Option 2 ID : **6306801267532**
Option 3 ID : **6306801267531**
Option 4 ID : **6306801267529**
Status : **Answered**
Chosen Option : **3**

Q.10 दर्पण को MN पर रखे जाने पर दी गई आकृति के सही दर्पण प्रतिबिंब का चयन कीजिए।

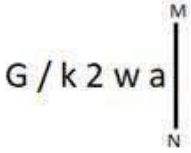

Ans

✗ 1. 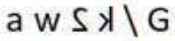

✓ 2. 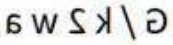

✗ 3. 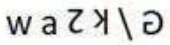

✗ 4. 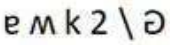

Question ID : **630680300289**
Option 1 ID : **6306801168060**
Option 2 ID : **6306801168062**
Option 3 ID : **6306801168059**
Option 4 ID : **6306801168061**
Status : **Answered**
Chosen Option : **2**

Q.11 एक पासे के विभिन्न फलकों पर छह रोमन संख्याएँ I, II, III, IV, V और VI अंकित की गई हैं। नीचे चित्र में इस पासे की दो स्थितियों को दिखाया गया है। संख्या 'VI' के विपरीत फलक पर आने वाली रोमन संख्या ज्ञात कीजिए।

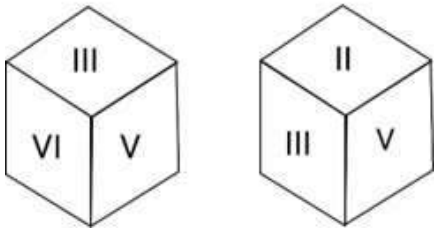

Ans

✓ 1. II

✗ 2. V

✗ 3. III

✗ 4. IV

Question ID : **630680287559**
Option 1 ID : **6306801118143**
Option 2 ID : **6306801118146**
Option 3 ID : **6306801118144**
Option 4 ID : **6306801118145**
Status : **Answered**
Chosen Option : **1**

Q.12 दी गई आकृति में कितने त्रिभुज हैं?

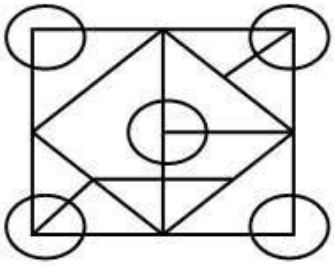

Ans
✗ 1. 16
✓ 2. 15
✗ 3. 13
✗ 4. 14

Question ID : **630680281040**
Option 1 ID : **6306801092398**
Option 2 ID : **6306801092397**
Option 3 ID : **6306801092395**
Option 4 ID : **6306801092396**
Status : **Marked For Review**
Chosen Option : **3**

Q.13 उस विकल्प का चयन करें जो पांचवीं संख्या से उसी प्रकार संबंधित हो जिस प्रकार दूसरी संख्या पहली संख्या से संबंधित है और चौथी संख्या तीसरी संख्या से संबंधित है।
14 : 30 :: 9 : 20 :: 4 : ?
नोट: संख्याओं को उनके घटक अंकों में विभक्त किए बिना पूर्ण संख्याओं पर संक्रियाएं की जानी चाहिए। उदाहरण के लिए 13 को लें- 13 पर संक्रियाएं, जैसे कि जोड़ना/घटाना/गुणा आदि 13 में की जा सकती हैं। 13 को 1 और 3 में विभक्त करना और फिर 1 और 3 पर गणितीय संक्रियाएं करने की अनुमति नहीं है।

Ans
✓ 1. 10
✗ 2. 13
✗ 3. 12
✗ 4. 11

Question ID : **630680312535**
Option 1 ID : **6306801216021**
Option 2 ID : **6306801216024**
Option 3 ID : **6306801216023**
Option 4 ID : **6306801216022**
Status : **Answered**
Chosen Option : **1**

Q.14 दिए गए कथनों और निष्कर्षों का ध्यानपूर्वक अध्ययन कीजिए। कथनों में दी गई जानकारी को सत्य मानते हुए, भले ही यह सामान्य रूप से ज्ञात तथ्यों से भिन्न प्रतीत होती हो, तय कीजिए कि दिए गए निष्कर्ष(षों) में से कौन-सा/से निष्कर्ष, कथनों का तर्कसंगत रूप से अनुसरण करता है/करते हैं।

कथन:
कुछ गरुड़, गौरैया हैं।
सभी गौरैया, तोते हैं।
कोई भी तोता, पेंगुइन नहीं है।

निष्कर्ष:
(I) कुछ तोते, गरुड़ हैं।
(II) कोई भी पेंगुइन, गौरैया नहीं है।

Ans
✔ 1. निष्कर्ष (I) और (II) दोनों अनुसरण करते हैं।
✘ 2. केवल निष्कर्ष (II) अनुसरण करता है।
✘ 3. न तो निष्कर्ष (I) और न ही निष्कर्ष (II) अनुसरण करता है।
✘ 4. केवल निष्कर्ष (I) अनुसरण करता है।

Question ID : **630680796946**
Option 1 ID : **6306803122743**
Option 2 ID : **6306803122741**
Option 3 ID : **6306803122742**
Option 4 ID : **6306803122740**
Status : **Answered**
Chosen Option : **1**

Q.15 यदि निम्नलिखित समीकरण में '+' और '–' को आपस में बदल दिया जाता है तथा '×' और '÷' को आपस में बदल दिया जाता है, तो प्रश्न चिह्न (?) के स्थान कौन-सी संख्या आएगी?
20 + 10 × 2 – 4 ÷ 5 = ?

Ans
✘ 1. 45
✘ 2. 40
✔ 3. 35
✘ 4. 30

Question ID : **630680328466**
Option 1 ID : **6306801277836**
Option 2 ID : **6306801277833**
Option 3 ID : **6306801277834**
Option 4 ID : **6306801277835**
Status : **Answered**
Chosen Option : **3**

Q.16 शब्द 'KEYBOARD' के प्रत्येक अक्षर को अंग्रेजी वर्णानुक्रम में व्यवस्थित किया गया है। इस प्रकार बने अक्षरों के समूह में दाएं से तीसरे और दाएं से दूसरे अक्षर के बीच अंग्रेजी वर्णानुक्रम में कितने अक्षर हैं?

Ans
✘ 1. तीन
✘ 2. एक
✘ 3. चार
✔ 4. दो

Question ID : **630680313408**
Option 1 ID : **6306801219499**
Option 2 ID : **6306801219497**
Option 3 ID : **6306801219500**
Option 4 ID : **6306801219498**
Status : **Answered**
Chosen Option : **4**

Q.17 एक निश्चित कूट भाषा में,

'A + B' का अर्थ है 'A, B की माता है';
'A – B' का अर्थ है 'A, B का भाई है';
'A × B' का अर्थ है 'A, B की पत्नी है' और
'A ÷ B' का अर्थ है 'A, B का पिता है'

उपरोक्त के आधार पर, यदि 'A × B ÷ C × D' है, तो A का D से क्या सम्बन्ध है?

Ans
✔ 1. सास
✘ 2. पिता का भाई
✘ 3. ससुर
✘ 4. पिता की बहन

Question ID : **630680324896**
Option 1 ID : **6306801263983**
Option 2 ID : **6306801263982**
Option 3 ID : **6306801263984**
Option 4 ID : **6306801263981**
Status : **Answered**
Chosen Option : **1**

Q.18 निम्नलिखित में से कौन-सा पद दी गई श्रृंखला में प्रश्न चिह्न (?) को प्रतिस्थापित करेगा?
AWSO, KGCY, UQMI, EAWS, ?

Ans
✘ 1. ZWTQ
✔ 2. OKGC
✘ 3. OGKH
✘ 4. WAEI

Question ID : **630680416957**
Option 1 ID : **6306801626592**
Option 2 ID : **6306801626591**
Option 3 ID : **6306801626594**
Option 4 ID : **6306801626593**
Status : **Answered**
Chosen Option : **2**

Q.19 उस विकल्प का चयन करें जो उन अक्षरों को निरूपित करता है जिन्हें नीचे दिए गए रिक्त स्थानों में बाएँ से दाएँ रखे जाने पर दी गई अक्षर श्रृंखला पूरी हो जाएगी।
B _ E N B _ C E N B B C _ N B B C E _ B _ C

Ans
✘ 1. CNEBB
✔ 2. CBENB
✘ 3. BCENB
✘ 4. BNECB

Question ID : **630680416269**
Option 1 ID : **6306801623841**
Option 2 ID : **6306801623842**
Option 3 ID : **6306801623840**
Option 4 ID : **6306801623839**
Status : **Answered**
Chosen Option : **2**

Q.20 दिए गए विकल्पों में से उस आकृति की पहचान कीजिए जिसे प्रश्न चिह्न (?) के स्थान पर रखने पर शृंखला तार्किक रूप से पूरी हो जाएगी।



Ans

✗ 1.



✓ 2.



✗ 3.



✗ 4.



Question ID : **630680296878**
Option 1 ID : **6306801155158**
Option 2 ID : **6306801155156**
Option 3 ID : **6306801155155**
Option 4 ID : **6306801155157**
Status : **Marked For Review**
Chosen Option : **2**

Q.21 दिए गए संख्या युग्मों में से एक को छोड़कर अन्य सभी में समान संक्रिया/संक्रियाओं का अनुसरण किया गया है। वह असंगत संख्या युग्म ज्ञात कीजिए।
(नोट : संख्याओं को उसके संघटक अंकों में खंडित किए बिना संक्रियाएँ पूर्णांकों पर की जानी चाहिए। उदाहरण के लिए 13- 13 पर की जाने वाली संक्रियाएं जैसे जोड़ना/घटाना/गुणा इत्यादि 13 पर ही की जानी चाहिए। 13 को 1 और 3 में खंडित करना और फिर 1 और 3 पर गणितीय संक्रियाएँ करना वर्जित है।)

Ans
✗ 1. 55 : 9
✓ 2. 24 : 4
✗ 3. 19 : 3
✗ 4. 49 : 8

Question ID : **630680412032**
Option 1 ID : **6306801606966**
Option 2 ID : **6306801606965**
Option 3 ID : **6306801606964**
Option 4 ID : **6306801606963**
Status : **Answered**
Chosen Option : **2**

Q.22 अँग्रेजी वर्णमाला-क्रम के आधार पर 'RUCK' एक निश्चित तरीके से 'TWAI' से संबंधित है। उसी तरह 'DPHM' का संबंध 'FRFK' से है। उसी तर्क के अनुसार 'KNOM' का संबंध निम्नलिखित में से किससे है?

Ans
✗ 1. IQNK
✗ 2. MQNJ
✗ 3. IPMJ
✓ 4. MPMK

Question ID : **630680416365**
Option 1 ID : **6306801624224**
Option 2 ID : **6306801624226**
Option 3 ID : **6306801624223**
Option 4 ID : **6306801624225**
Status : **Answered**
Chosen Option : **4**

Q.23 एक पासे के विभिन्न फलकों पर छ: संख्याएँ 5, 6, 7, 8, 9 और 10 लिखी गई हैं। इस पासे की दो स्थितियों को नीचे आकृति में दर्शाया गया है। '7' के विपरीत फलक पर संख्या ज्ञात कीजिए।

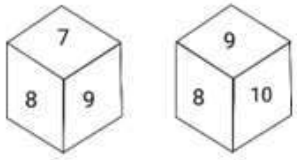

Ans
✓ 1. 10
✗ 2. 9
✗ 3. 6
✗ 4. 8

Question ID : **630680196571**
Option 1 ID : **630680762585**
Option 2 ID : **630680762584**
Option 3 ID : **630680762586**
Option 4 ID : **630680762583**
Status : **Answered**
Chosen Option : **1**

Q.24 निम्नलिखित में से कौन सी संख्या दी गई श्रृंखला में प्रश्न चिह्न (?) का स्थान लेगी?
3, 17, 83, 329, ?, 1961

Ans
✗ 1. 880
✓ 2. 983
✗ 3. 980
✗ 4. 883

Question ID : **630680411881**
Option 1 ID : **6306801606361**
Option 2 ID : **6306801606360**
Option 3 ID : **6306801606359**
Option 4 ID : **6306801606362**
Status : **Answered**
Chosen Option : **2**

Q.25 यदि '+' और '–' को आपस में बदल दिया जाए और '×' और '÷' को आपस में बदल दिया जाए, तो निम्नलिखित समीकरण में प्रश्न चिह्न (?) के स्थान पर क्या आएगा?
1205 × 5 + 35 – 197 ÷ 18 = ?

Ans
✗ 1. 3284
✗ 2. 3824
✓ 3. 3752
✗ 4. 3482

Question ID : **630680411720**
Option 1 ID : **6306801605718**
Option 2 ID : **6306801605716**
Option 3 ID : **6306801605715**
Option 4 ID : **6306801605717**
Status : **Answered**
Chosen Option : **3**

Section : **General Awareness**

Q.1 क्लास्ट्रिडियम टेटेनाई नामक विष उत्पन्न करने वाले जीवाणु से होने वाले टिटनेस का दूसरा नाम क्या है?

Ans
✗ 1. विदलित जबड़ा (Cleft jaw)
✓ 2. धनुस्तंभ (Lockjaw)
✗ 3. खंडित जबड़ा (Broken jaw)
✗ 4. स्फुटन जबड़ा (Snap jaw)

Question ID : **630680407465**
Option 1 ID : **6306801588801**
Option 2 ID : **6306801588798**
Option 3 ID : **6306801588799**
Option 4 ID : **6306801588800**
Status : **Not Attempted and Marked For Review**
Chosen Option : **--**

Q.2 उपराष्ट्रपति को पद की शपथ _____ द्वारा दिलाई जाती है।

Ans
✗ 1. प्रधानमंत्री
✓ 2. राष्ट्रपति
✗ 3. भारत के मुख्य न्यायाधीश
✗ 4. सी.ए.जी.

Question ID : **630680326511**
Option 1 ID : **6306801270132**
Option 2 ID : **6306801270129**
Option 3 ID : **6306801270130**
Option 4 ID : **6306801270131**
Status : **Answered**
Chosen Option : **2**

Q.3 श्रम एवं रोजगार मंत्रालय की एक रिपोर्ट के अनुसार, वर्ष 2021-22 में महाराष्ट्र में बेरोजगारी दर कितनी थी?

Ans
✓ 1. 3.5%
✗ 2. 4.4%
✗ 3. 4.2%
✗ 4. 3.01%

Question ID : **630680409675**
Option 1 ID : **6306801597529**
Option 2 ID : **6306801597532**
Option 3 ID : **6306801597530**
Option 4 ID : **6306801597531**
Status : **Not Answered**
Chosen Option : **--**

Q.4 1933 में असंतृप्त यौगिकों में अभिकर्मकों को मिलाने पर परॉक्साइड प्रभाव को देखने के लिए कौन-से दो कार्बनिक रसायनज्ञ जाने जाते हैं?

Ans
✗ 1. सी जॉन कैडोगन और लुइस एम कैम्पोस (C John Cadogan and Luis M Campos)
✗ 2. बी स्टीवन बैचराच और रोआल्ड हॉफमैन (B Steven Bachrach and Roald Hoffmann)
✗ 3. जस्टस वॉन लिबिग और फ्रेडरिक वोहलर (Justus von Liebig and Friedrich Wöhler)
✓ 4. मॉरिस एस खराश और फ्रैंक आर मेयो (Morris S Kharasch and Frank R Mayo)

Question ID : **630680517142**
Option 1 ID : **6306802020966**
Option 2 ID : **6306802020964**
Option 3 ID : **6306802020967**
Option 4 ID : **6306802020965**
Status : **Not Answered**
Chosen Option : **--**

Q.5 निम्नलिखित में से किस घटना के कारण रवीन्द्रनाथ टैगोर ने अपनी पीड़ा व्यक्त करते हुए ब्रिटिश सरकार को 'नाइटहुड' की उपाधि लौटा दी थी?

Ans
✗ 1. चौरी चौरा कांड
✗ 2. चरण पादुका प्रसंग
✓ 3. जलियांवाला बाग हत्याकांड
✗ 4. बंगाल का विभाजन

Question ID : **630680511525**
Option 1 ID : **6306801999222**
Option 2 ID : **6306801999225**
Option 3 ID : **6306801999224**
Option 4 ID : **6306801999223**
Status : **Answered**
Chosen Option : **3**

Q.6 1450 में पहली बार आविष्कृत पवन मापक यंत्र का क्या नाम था?

Ans
✗ 1. अधःपाती सोंड (Dropsonde)
✗ 2. सीलिंग प्रोजेक्टर (Ceiling Projector)
✓ 3. पवनवेगमापी (Anemometer)
✗ 4. संचरणलेखित्र (Transmissometer)

Question ID : **630680302919**
Option 1 ID : **6306801178341**
Option 2 ID : **6306801178339**
Option 3 ID : **6306801178340**
Option 4 ID : **6306801178338**
Status : **Answered**
Chosen Option : **3**

Q.7 स्वतंत्रता के समय भारत के औद्योगिक विकास में मुख्य बाधाएँ क्या थीं?

Ans
✓ 1. उद्योगों में पूंजी निवेश
✗ 2. उद्योगों के लिए आवश्यक रोजगार
✗ 3. औद्योगिक स्थापना हेतु भूमि
✗ 4. औद्योगिक उत्पादों के लिए बाज़ार

Question ID : **630680410792**
Option 1 ID : **6306801601927**
Option 2 ID : **6306801601928**
Option 3 ID : **6306801601929**
Option 4 ID : **6306801601930**
Status : **Answered**
Chosen Option : **1**

Q.8 निम्नलिखित में से कौन-सा संघ आर्थ्रोपोडा का उदाहरण है?

Ans
✗ 1. जोंक (Hirudinaria)
✓ 2. तितली (Butterfly)
✗ 3. घोंघा (Pila)
✗ 4. नेरीस (Nereis)

Question ID : **630680321341**
Option 1 ID : **6306801250075**
Option 2 ID : **6306801250076**
Option 3 ID : **6306801250073**
Option 4 ID : **6306801250074**
Status : **Answered**
Chosen Option : **3**

Q.9 निम्नलिखित में से किस वर्ष में दिव्यांगजन अधिकार अधिनियम पारित किया गया था?

Ans
✗ 1. 2010
✓ 2. 2016
✗ 3. 2019
✗ 4. 2002

Question ID : **630680200247**
Option 1 ID : **630680776413**
Option 2 ID : **630680776414**
Option 3 ID : **630680776415**
Option 4 ID : **630680776412**
Status : **Answered**
Chosen Option : **3**

Q.10 निम्नलिखित में से कौन 2021 में प्रथम 'प्रोफेसर सी.आर. राव शताब्दी स्वर्ण पदक' पुरस्कार प्राप्त करने वालों में से एक थे?

Ans
✗ 1. सुरजीत भल्ला
✓ 2. जगदीश भगवती
✗ 3. अमर्त्य सेन
✗ 4. रघुराम राजन

Question ID : **630680158408**
Option 1 ID : **630680613163**
Option 2 ID : **630680613161**
Option 3 ID : **630680613160**
Option 4 ID : **630680613162**
Status : **Not Answered**
Chosen Option : **--**

Q.11 तैमूरी परंपरा के अनुसार, हुमायूँ को अपने भाइयों के साथ सत्ता साझा करनी थी। हुमायूँ का दिल्ली, आगरा और मध्य भारत पर नियंत्रण था, जबकि उसके भाई कामरान का नियंत्रण निम्नलिखित में से किस क्षेत्र पर था?

Ans
✓ 1. अफगानिस्तान और पंजाब
✗ 2. गुजरात और राजस्थान
✗ 3. दक्कन
✗ 4. बंगाल और बिहार

Question ID : **630680412494**
Option 1 ID : **6306801608801**
Option 2 ID : **6306801608802**
Option 3 ID : **6306801608800**
Option 4 ID : **6306801608799**
Status : **Answered**
Chosen Option : **1**

Q.12 निम्नलिखित में से कौन-सा अनुच्छेद बताता है कि प्रधानमंत्री को राष्ट्रपति द्वारा नियुक्त किया जाना चाहिए?

Ans
✔ 1. अनुच्छेद 75
✘ 2. अनुच्छेद 66
✘ 3. अनुच्छेद 62
✘ 4. अनुच्छेद 71

Question ID : **630680413116**
Option 1 ID : **6306801611287**
Option 2 ID : **6306801611289**
Option 3 ID : **6306801611290**
Option 4 ID : **6306801611288**
Status : **Answered**
Chosen Option : **1**

Q.13 वित्तीय वर्ष 2019 तक प्राप्त जानकारी के अनुसार, भारत में निम्नलिखित में से किस राज्य का सड़क घनत्व सबसे अधिक है?

Ans
✘ 1. तमिलनाडु
✘ 2. पंजाब
✔ 3. केरल
✘ 4. हरियाणा

Question ID : **630680227940**
Option 1 ID : **630680884436**
Option 2 ID : **630680884438**
Option 3 ID : **630680884437**
Option 4 ID : **630680884435**
Status : **Not Answered**
Chosen Option : **--**

Q.14 भारत के निम्नलिखित में से किस नेता द्वारा एक स्वैच्छिक संगठन - खुदाई खिदमतगार स्थापित किया गया था?

Ans
✘ 1. हकीम अज़मल खान
✘ 2. मौलाना मुहम्मद अली
✘ 3. मुहम्मद अली जिन्ना
✔ 4. खान अब्दुल गफ्फार खान

Question ID : **630680412383**
Option 1 ID : **6306801608358**
Option 2 ID : **6306801608357**
Option 3 ID : **6306801608355**
Option 4 ID : **6306801608356**
Status : **Answered**
Chosen Option : **4**

Q.15 नवरात्रि उत्सव निम्नलिखित में से किस देवी को समर्पित है?

Ans

✗ 1. ज्वाला

✗ 2. लक्ष्मी

✓ 3. दुर्गा

✗ 4. सरस्वती

Question ID : **630680216083**
Option 1 ID : **630680838309**
Option 2 ID : **630680838307**
Option 3 ID : **630680838310**
Option 4 ID : **630680838308**
Status : **Answered**
Chosen Option : **3**

Q.16 निम्नलिखित में से कौन-सा एक मौलिक कर्तव्य नहीं है?

Ans

✗ 1. देश की सामासिक संस्कृति की गौरवशाली परंपरा को महत्त्व देना और उसका परिरक्षण करना

✓ 2. दुर्लभ और लुप्तप्राय प्रजातियों के व्यापार को निषेध बनाना

✗ 3. सार्वजनिक संपत्ति को सुरक्षित रखना और हिंसा का परित्याग करना

✗ 4. भारत की संप्रभुता, एकता और अखंडता को बनाए रखना और उसकी रक्षा करना

Question ID : **630680326506**
Option 1 ID : **6306801270110**
Option 2 ID : **6306801270112**
Option 3 ID : **6306801270111**
Option 4 ID : **6306801270109**
Status : **Answered**
Chosen Option : **2**

Q.17 विजेंदर सिंह ने कितनी बार ओलंपिक खेलों में भारत का प्रतिनिधित्व किया है?

Ans

✗ 1. 5

✓ 2. 3

✗ 3. 2

✗ 4. 4

Question ID : **630680510821**
Option 1 ID : **6306801996417**
Option 2 ID : **6306801996415**
Option 3 ID : **6306801996414**
Option 4 ID : **6306801996416**
Status : **Not Answered**
Chosen Option : **--**

Q.18 भारत ने अपना पहला व्यक्तिगत ओलंपिक पदक (individual Olympic medal) किस खेल में जीता था?

Ans

✗ 1. तैराकी

✓ 2. कुश्ती

✗ 3. निशानेबाजी

✗ 4. जूडो

Question ID : **630680510750**
Option 1 ID : **6306801996132**
Option 2 ID : **6306801996131**
Option 3 ID : **6306801996130**
Option 4 ID : **6306801996133**
Status : **Answered**
Chosen Option : **3**

Q.19 निम्नलिखित में से कौन-सी ऊर्जा की इकाई नहीं है?

Ans
✗ 1. जूल
✓ 2. न्यूटन
✗ 3. किलोवाट घंटा
✗ 4. कैलोरी

Question ID : **630680102235**
Option 1 ID : **630680397223**
Option 2 ID : **630680397226**
Option 3 ID : **630680397225**
Option 4 ID : **630680397224**
Status : **Answered**
Chosen Option : **2**

Q.20 निम्नलिखित में से किस शासन के दौरान चतुर्थ बौद्ध संगीति में बौद्ध धर्म दो विचारधाराओं - हीनयान और महायान में विभाजित हो गया?

Ans
✗ 1. पार्थियन
✗ 2. गुप्त
✗ 3. शक
✓ 4. कुषाण

Question ID : **630680412517**
Option 1 ID : **6306801608892**
Option 2 ID : **6306801608891**
Option 3 ID : **6306801608893**
Option 4 ID : **6306801608894**
Status : **Answered**
Chosen Option : **4**

Q.21 वर्धा निम्नलिखित में से किस नदी की सहायक नदी है?

Ans
✗ 1. महानदी नदी
✗ 2. नर्मदा नदी
✓ 3. गोदावरी नदी
✗ 4. तापी नदी

Question ID : **630680328133**
Option 1 ID : **6306801276502**
Option 2 ID : **6306801276501**
Option 3 ID : **6306801276504**
Option 4 ID : **6306801276503**
Status : **Answered**
Chosen Option : **3**

Q.22 पंडित ओंकार नाथ ठाकुर _____के शिष्य थे।

Ans
✗ 1. पंडित गोपाल शंकर मिश्र
✓ 2. पंडित विष्णु दिगंबर पलुस्कर
✗ 3. उस्ताद अब्दुल करीम खान
✗ 4. पंडित विष्णु नारायण भातखंडे

Question ID : **63068087835**
Option 1 ID : **630680340726**
Option 2 ID : **630680340728**
Option 3 ID : **630680340727**
Option 4 ID : **630680340725**
Status : **Not Answered**
Chosen Option : **--**

Q.23 निम्नलिखित शास्त्रीय नर्तकियों में से कौन ओडिसी से संबंधित नहीं है?

Ans
✔ 1. गीतांजलि लाल
✘ 2. किरण सहगल
✘ 3. कुमकुम मोहंती
✘ 4. मायाधर राऊत

Question ID : **630680512083**
Option 1 ID : **6306802001304**
Option 2 ID : **6306802001305**
Option 3 ID : **6306802001302**
Option 4 ID : **6306802001303**
Status : **Answered**
Chosen Option : **1**

Q.24 तरुण भट्टाचार्य, जिन्हें 2018 में संगीत नाटक अकादमी पुरस्कार से सम्मानित किया गया था, किस संगीत वाद्ययंत्र को बजाने के लिए जाने जाते हैं?

Ans
✘ 1. सितार
✔ 2. संतूर
✘ 3. तबला
✘ 4. वायलिन

Question ID : **630680511807**
Option 1 ID : **6306802000198**
Option 2 ID : **6306802000200**
Option 3 ID : **6306802000201**
Option 4 ID : **6306802000199**
Status : **Not Answered**
Chosen Option : **--**

Q.25 निम्नलिखित में से कौन-सा भारत में SHG-बैंक लिंकेज प्रोग्राम का एक घटक है?

Ans
✔ 1. बैंक SHGs के व्यक्तिगत सदस्यों को ऋण प्रदान करते हैं
✘ 2. राज्य सरकार SHGs को ऋण के लिए अनुदान प्रदान करती है
✘ 3. गैर-सरकारी संगठन SHGs को क्षमता निर्माण प्रशिक्षण प्रदान करते हैं
✘ 4. सूक्ष्म वित्त संस्थाएँ, SHGs को सीधे ऋण प्रदान करती हैं

Question ID : **630680324075**
Option 1 ID : **6306801260795**
Option 2 ID : **6306801260794**
Option 3 ID : **6306801260796**
Option 4 ID : **6306801260793**
Status : **Not Answered**
Chosen Option : **--**

Section : **Quantitative Aptitude**

Q.1 एक हीरे की कीमत उसके वजन के वर्ग के अनुक्रमानुपाती है। एक बार, यह हीरा वजन के 4 : 3 : 2 : 1 के अनुपात में चार टुकड़ों में टूट गया। जब टुकड़ों को बेचा गया, तो व्यापारी को उस हीरे के एक नग की कीमत से ₹63,000 कम मिले। हीरे की मूल कीमत ज्ञात कीजिए।

Ans
✗ 1. ₹80,000
✗ 2. ₹75,000
✗ 3. ₹86,000
✓ 4. ₹90,000

Question ID : **630680428766**
Option 1 ID : **6306801673110**
Option 2 ID : **6306801673109**
Option 3 ID : **6306801673111**
Option 4 ID : **6306801673108**
Status : **Not Attempted and Marked For Review**
Chosen Option : **--**

Q.2 एक पर्स की खरीद पर 10% एवं 20% की क्रमागत छूट दी जाती है। यदि पर्स का अंकित मूल्य ₹2,250 है, तो विक्रय मूल्य ज्ञात करें।

Ans
✓ 1. ₹1,620
✗ 2. ₹1,520
✗ 3. ₹1,290
✗ 4. ₹1,320

Question ID : **63068091864**
Option 1 ID : **630680356193**
Option 2 ID : **630680356192**
Option 3 ID : **630680356190**
Option 4 ID : **630680356191**
Status : **Answered**
Chosen Option : **1**

Q.3 पाइप X एक टंकी को 9 घंटे में भर सकता है और पाइप Y इसे 21 घंटे में भर सकता है। यदि उन्हें एकांतर घंटों में (बारी-बारी से एक-एक घंटे पर) खोला जाता है और पाइप X को पहले खोला जाता है, तो टंकी कितने घंटों में पूरी भर जाएगी?

Ans
✓ 1. $12\frac{3}{7}$
✗ 2. $11\frac{3}{7}$
✗ 3. $9\frac{3}{7}$
✗ 4. $10\frac{3}{7}$

Question ID : **630680487596**
Option 1 ID : **6306801904490**
Option 2 ID : **6306801904491**
Option 3 ID : **6306801904493**
Option 4 ID : **6306801904492**
Status : **Answered**
Chosen Option : **1**

Q.4 यदि $3\sin^2\theta+5\cos^2\theta = 4$ और θ एक न्यून कोण है, तो $\tan\theta$ का मान ज्ञात करें।

Ans
✗ 1. $\frac{1}{\sqrt{2}}$

✗ 2. $\frac{1}{\sqrt{3}}$

✓ 3. 1

✗ 4. $\frac{1}{2}$

Question ID : **630680358088**
Option 1 ID : **6306801394343**
Option 2 ID : **6306801394344**
Option 3 ID : **6306801394341**
Option 4 ID : **6306801394342**
Status : **Answered**
Chosen Option : **3**

Q.5 छठी कक्षा में पढ़ने वाले एक छात्र ने 6 विभिन्न विषयों में निम्नलिखित अंक प्राप्त किए हैं। प्रत्येक विषय के लिए पूर्णांक 100 हैं।

विषय	अंक
हिंदी	98
अंग्रेज़ी	97
गणित	93
सामाजिक विज्ञान	94
कंप्यूटर	92
विज्ञान	93

इस छात्र द्वारा प्राप्त किए गए औसत अंक ज्ञात कीजिए।

Ans
✗ 1. 96

✗ 2. 95

✓ 3. 94.5

✗ 4. 92.5

Question ID : **630680390844**
Option 1 ID : **6306801523817**
Option 2 ID : **6306801523816**
Option 3 ID : **6306801523814**
Option 4 ID : **6306801523815**
Status : **Answered**
Chosen Option : **3**

Q.6 एक विक्रेता ने ₹10 प्रति kg के हिसाब से सब्जियाँ बेचना शुरू किया, लेकिन इस दर पर खरीदार नहीं मिला। इसलिए उसने कीमत घटाकर ₹7.2 प्रति kg कर दी, लेकिन 1 kg के बजाय 900 g के दोषपूर्ण वजन का उपयोग किया। वास्तविक मूल्य में प्रतिशत परिवर्तन ज्ञात कीजिए।

Ans
✗ 1. 15%
✗ 2. 25%
✗ 3. 10%
✓ 4. 20%

Question ID : **630680428778**
Option 1 ID : **6306801673157**
Option 2 ID : **6306801673159**
Option 3 ID : **6306801673156**
Option 4 ID : **6306801673158**
Status : **Answered**
Chosen Option : **2**

Q.7 R एक वृत्त के बाहर एक बिंदु है और यह इसके केंद्र से 18 cm दूर है। बिंदु R से खींची गई छेदक रेखा वृत्त को बिंदुओं A और B पर इस प्रकार प्रतिच्छेदित करती है कि RA = 7 cm और AB = 5 cm है। वृत्त की त्रिज्या (cm में) ज्ञात कीजिए।

Ans
✗ 1. $3\sqrt{15}$
✗ 2. $5\sqrt{15}$
✗ 3. $7\sqrt{15}$
✓ 4. $4\sqrt{15}$

Question ID : **630680198934**
Option 1 ID : **630680771466**
Option 2 ID : **630680771464**
Option 3 ID : **630680771463**
Option 4 ID : **630680771465**
Status : **Not Answered**
Chosen Option : **--**

Q.8 प्रति किलोग्राम टमाटर के मूल्य में 300% की वृद्धि होती है, तो एक गृहिणी टमाटर का उपभोग 70% कम कर देती है। इस प्रकार टमाटर पर उसका व्यय कितने प्रतिशत बढ़ा या घटा है?

Ans
✗ 1. 20% घटा है
✗ 2. 30% घटा है
✓ 3. 20% बढ़ा है
✗ 4. 30% बढ़ा है

Question ID : **630680427956**
Option 1 ID : **6306801669871**
Option 2 ID : **6306801669869**
Option 3 ID : **6306801669870**
Option 4 ID : **6306801669868**
Status : **Answered**
Chosen Option : **4**

Q.9 P, Q और R एक त्रिभुज के तीन कोण हैं। यदि P − Q = 20° है और Q − R = 26° है, तो ∠P निम्नलिखित में से किसके बराबर है?

Ans
✗ 1. 92°
✗ 2. 46°
✓ 3. 82°
✗ 4. 52°

Question ID : **630680397492**
Option 1 ID : **6306801549893**
Option 2 ID : **6306801549890**
Option 3 ID : **6306801549892**
Option 4 ID : **6306801549891**
Status : **Answered**
Chosen Option : **1**

Q.10 AB, 20 cm त्रिज्या वाले एक वृत्त की 32 cm लंबी जीवा है, A और B की स्पर्श रेखाएं, बिंदु T पर प्रतिच्छेदित करती हैं। लंबाई TA ज्ञात कीजिए (दशमलव के बाद दो अंक तक पूर्णांकित)।

Ans
✗ 1. 36.50 cm
✗ 2. 19.93 cm
✓ 3. 26.67 cm
✗ 4. 21.33 cm

Question ID : **630680384356**
Option 1 ID : **6306801498311**
Option 2 ID : **6306801498310**
Option 3 ID : **6306801498313**
Option 4 ID : **6306801498312**
Status : **Answered**
Chosen Option : **3**

Q.11 रवि और कविता में से प्रत्येक के पास कुछ कंचे थे। कविता के पास रवि से 12 कंचे अधिक थे। यदि उनमें से प्रत्येक के पास एक कंचा अधिक होता, तो तब कविता के पास मौजूद कंचों की संख्या का तीन गुना, तब रवि के पास मौजूद कंचों की संख्या के चार गुने के बराबर होते। कविता के पास वास्तव में कितने कंचे थे?

Ans
✓ 1. 47
✗ 2. 51
✗ 3. 48
✗ 4. 43

Question ID : **630680325031**
Option 1 ID : **6306801264523**
Option 2 ID : **6306801264522**
Option 3 ID : **6306801264524**
Option 4 ID : **6306801264521**
Status : **Marked For Review**
Chosen Option : **1**

Q.12 $4\frac{1}{6} \div 25 \times 75 \div \frac{1}{5}$ of 125 का मान कितना है?

Ans
✗ 1. $\frac{1}{3}$
✗ 2. $\frac{1}{6}$
✗ 3. $\frac{1}{4}$
✓ 4. $\frac{1}{2}$

Question ID : **630680427963**
Option 1 ID : **6306801669897**
Option 2 ID : **6306801669899**
Option 3 ID : **6306801669898**
Option 4 ID : **6306801669896**
Status : **Answered**
Chosen Option : **4**

Q.13 एक परिवार में पति, पत्नी और एक पुत्र की संयुक्त आयु (combined age) 90 वर्ष है। पति सबसे बड़ा है। पति और पत्नी की आयु में अंतर उनके पुत्र की आयु का $\frac{1}{3}$ है। 10 वर्ष बाद पुत्र की आयु उसके पिता की आयु की आधी होगी। उसकी माता की वर्तमान आयु (वर्षों में) कितनी है?

Ans
✗ 1. 30
✓ 2. 35
✗ 3. 40
✗ 4. 45

Question ID : **630680297289**
Option 1 ID : **6306801156624**
Option 2 ID : **6306801156625**
Option 3 ID : **6306801156623**
Option 4 ID : **6306801156626**
Status : **Answered**
Chosen Option : **2**

Q.14 WXYZ एक चतुर्भुज है जिसमें XQ और ZP, रेखा WY के इस प्रकार लंबवत हैं कि XQ = ZP है। विकर्ण ZX और WY एक-दूसरे को बिंदु O पर प्रतिच्छेद करते हैं। यदि OX = 12 cm है, तो ZX का मान (cm में) ज्ञात कीजिए।

Ans
✗ 1. 12
✓ 2. 24
✗ 3. 36
✗ 4. 18

Question ID : **630680354947**
Option 1 ID : **6306801381861**
Option 2 ID : **6306801381862**
Option 3 ID : **6306801381864**
Option 4 ID : **6306801381863**
Status : **Not Answered**
Chosen Option : **--**

Q.15 अमन ने योजना A में साधारण ब्याज पर 5 वर्ष की अवधि के लिए 8% वार्षिक दर से एक धनराशि निवेश की। उसने साधारण ब्याज पर योजना A की राशि का चार गुना 5% वार्षिक दर से 7 वर्ष के लिए योजना B में निवेश किया। उसे कुल ब्याज राशि के रूप में ₹1,620 प्राप्त हुए।। उसने योजना B में कितनी राशि (₹ में) निवेश की थी?

Ans
✔ 1. 3,600
✘ 2. 3,200
✘ 3. 2,400
✘ 4. 900

Question ID : **630680392929**
Option 1 ID : **6306801532057**
Option 2 ID : **6306801532056**
Option 3 ID : **6306801532055**
Option 4 ID : **6306801532054**
Status : **Not Answered**
Chosen Option : **--**

Q.16 निम्न तालिका किसी कंपनी की दो सत्रों के दौरान बिक्री को दर्शाती है। तालिका का अध्ययन कीजिए और निम्नांकित प्रश्न का उत्तर दीजिए।

गर्मी के मौसम में बिक्री (₹ में)			सर्दी के मौसम में बिक्री (₹ में)		
मई	जून	जुलाई	नवंबर	दिसंबर	जनवरी
25,000	24,000	18,000	35,000	26,000	22,000

कुल बिक्री में से जून और जुलाई के महीनों के दौरान बिक्री का प्रतिशत भाग कितना है?

Ans
✘ 1. 24%
✘ 2. 30%
✘ 3. 33%
✔ 4. 28%

Question ID : **630680428089**
Option 1 ID : **6306801670400**
Option 2 ID : **6306801670402**
Option 3 ID : **6306801670403**
Option 4 ID : **6306801670401**
Status : **Answered**
Chosen Option : **3**

Q.17 6 छात्रों के अंक दिए गए हैं। सभी अंक 100 में से हैं।

छात्र	अंग्रेजी	हिन्दी	गणित	भौतिकी	रसायनविज्ञान	जीवविज्ञान
A	70	60	99	80	80	75
B	75	65	85	75	75	70
C	80	80	70	60	70	60
D	72	63	65	70	60	60
E	70	60	60	60	55	55
F	60	60	70	70	60	50

C द्वारा प्राप्त किया गया प्रतिशत ज्ञात करें।

Ans
✗ 1. 68%
✗ 2. 75%
✗ 3. 65%
✓ 4. 70%

Question ID : **630680428171**
Option 1 ID : **6306801670731**
Option 2 ID : **6306801670730**
Option 3 ID : **6306801670728**
Option 4 ID : **6306801670729**
Status : **Answered**
Chosen Option : **4**

Q.18 नीचे दी गई तालिका चार अलग-अलग विषयों में चार विद्यार्थियों द्वारा प्राप्त अंकों को दर्शाती है। प्रत्येक विषय के लिए पूर्णांक 175 हैं।

विद्यार्थी	विषय			
	गणित	भौतिक विज्ञान	रसायन विज्ञान	अंग्रेजी
अमित	105	98	109	86
गुंजा	112	119	99	97
अर्पित	103	121	94	100
काव्या	108	102	104	120

गुंजा द्वारा सभी चार विषयों में प्राप्त अंकों का कुल प्रतिशत क्या है?

Ans
✗ 1. 71
✗ 2. 67
✗ 3. 58
✓ 4. 61

Question ID : **630680523807**
Option 1 ID : **6306802047382**
Option 2 ID : **6306802047381**
Option 3 ID : **6306802047379**
Option 4 ID : **6306802047380**
Status : **Answered**
Chosen Option : **4**

Q.19 150 m और 250 m लंबाई की दो रेलगाड़ियाँ समानांतर लाइनों पर चलती हैं। जब वे एक ही दिशा में चलती हैं, तो वे एक-दूसरे को पार करने में 20 सेकंड का समय लेती हैं और जब वे विपरीत दिशा में चलती हैं, तो वे एक-दूसरे को पार करने में 5 सेकंड का समय लेती हैं। दोनों रेलगाड़ियों की चाल क्या है?

Ans
✗ 1. 150 km/h और 105 km/h
✗ 2. 150 km/h और 250 km/h
✗ 3. 160 km/h और 106 km/h
✓ 4. 180 km/h और 108 km/h

Question ID : **630680428336**
Option 1 ID : **6306801671390**
Option 2 ID : **6306801671391**
Option 3 ID : **6306801671389**
Option 4 ID : **6306801671388**
Status : **Answered**
Chosen Option : **4**

Q.20 ₹10 प्रति kg मूल्य वाले 15 kg गेहूँ को 5 kg दूसरे प्रकार के गेहूँ के साथ मिलाकर ₹30 प्रति kg मूल्य वाला मिश्रण प्राप्त किया जाता है। महँगे गेहूँ का मूल्य (प्रति kg) ज्ञात करें।

Ans
✗ 1. ₹70
✗ 2. ₹60
✗ 3. ₹80
✓ 4. ₹90

Question ID : **630680397734**
Option 1 ID : **6306801550951**
Option 2 ID : **6306801550950**
Option 3 ID : **6306801550952**
Option 4 ID : **6306801550953**
Status : **Answered**
Chosen Option : **2**

Q.21 यदि $\sin A + \cos A = \sqrt{3}$ है, तो $\tan A + \cot A + 2\sin A \cos A$ का मान ज्ञात कीजिए।

Ans
✗ 1. 2
✓ 2. 3
✗ 3. 1
✗ 4. 6

Question ID : **630680401751**
Option 1 ID : **6306801566775**
Option 2 ID : **6306801566776**
Option 3 ID : **6306801566774**
Option 4 ID : **6306801566777**
Status : **Not Answered**
Chosen Option : **--**

Q.22 यदि $\left(a+\frac{1}{a}\right)=7\sqrt{3}$ है, तो (a^6+a^{-6}) का मान ज्ञात कीजिए।

Ans
✗ 1. 3048542
✗ 2. 3048132
✗ 3. 3048625
✓ 4. 3048190

Question ID : **630680413473**
Option 1 ID : **6306801612717**
Option 2 ID : **6306801612719**
Option 3 ID : **6306801612716**
Option 4 ID : **6306801612718**
Status : **Not Answered**
Chosen Option : **--**

Q.23 26 cm आधार और 18 cm ऊंचाई वाले समांतर चतुर्भुज का क्षेत्रफल क्या होगा ?

Ans
✓ 1. $468\ cm^2$
✗ 2. $936\ cm^2$
✗ 3. $234\ cm^2$
✗ 4. $932\ cm^2$

Question ID : **630680101877**
Option 1 ID : **630680395866**
Option 2 ID : **630680395867**
Option 3 ID : **630680395864**
Option 4 ID : **630680395865**
Status : **Answered**
Chosen Option : **3**

Q.24 $x^3-4x^2-8x+11$ में से कौन-सी संख्या घटाई जानी चाहिए, ताकि संख्या (x + 2) से विभाज्य हो जाए?

Ans
✗ 1. 9
✗ 2. 7
✗ 3. 5
✓ 4. 3

Question ID : **630680135986**
Option 1 ID : **630680526653**
Option 2 ID : **630680526652**
Option 3 ID : **630680526650**
Option 4 ID : **630680526651**
Status : **Answered**
Chosen Option : **1**

Q.25 व्यंजक $\sin x + \operatorname{cosec} x = 2$ हो, तो $\sin^7 x + \operatorname{cosec}^7 x$ का मान ज्ञात कीजिए।

Ans
✗ 1. 1
✗ 2. 0
✗ 3. 4
✓ 4. 2

Question ID : **630680526470**
Option 1 ID : **6306802057946**
Option 2 ID : **6306802057947**
Option 3 ID : **6306802057948**
Option 4 ID : **6306802057949**
Status : **Answered**
Chosen Option : **4**

Section : **English Comprehension**

Q.1 **Select the most appropriate option to substitute the underlined segment in the given sentence.**
His house <u>is smaller than you</u> .

Ans
✓ 1. is smaller than yours
✗ 2. is small than you
✗ 3. is small as you
✗ 4. is smaller than your

Question ID : **630680172780**
Option 1 ID : **630680669521**
Option 2 ID : **630680669522**
Option 3 ID : **630680669523**
Option 4 ID : **630680669520**
Status : **Answered**
Chosen Option : **1**

Q.2 **Select the most appropriate synonym of the given word.**
Garnish

Ans
✗ 1. Tarnish
✗ 2. Blemish
✗ 3. Dwindle
✓ 4. Decorate

Question ID : **630680310018**
Option 1 ID : **6306801206220**
Option 2 ID : **6306801206219**
Option 3 ID : **6306801206217**
Option 4 ID : **6306801206218**
Status : **Answered**
Chosen Option : **4**

Q.3 **Select the option that can be used as a one-word substitute for the given phrase.**

A person who is kept captive for fulfilment of demands of money or conditions

Ans

✗ 1. Introvert

✓ 2. Hostage

✗ 3. Heretic

✗ 4. Hermit

Question ID : **630680310205**
Option 1 ID : **6306801206951**
Option 2 ID : **6306801206952**
Option 3 ID : **6306801206950**
Option 4 ID : **6306801206949**
Status : **Answered**
Chosen Option : **2**

Q.4 **Select the most appropriate meaning of the given idiom.**

Start from scratch

Ans

✗ 1. To point out something wrong

✓ 2. To start or create something from the very beginning

✗ 3. To address an issue

✗ 4. To develop something out of waste material

Question ID : **63068087180**
Option 1 ID : **630680338111**
Option 2 ID : **630680338109**
Option 3 ID : **630680338112**
Option 4 ID : **630680338110**
Status : **Answered**
Chosen Option : **2**

Q.5 **Select the INCORRECTLY spelt word in the given sentence.**

Fundamentels of every subject need to be learnt on priority basis.

Ans

✗ 1. learnt

✗ 2. priority

✗ 3. basis

✓ 4. Fundamentels

Question ID : **630680380481**
Option 1 ID : **6306801482920**
Option 2 ID : **6306801482921**
Option 3 ID : **6306801482922**
Option 4 ID : **6306801482919**
Status : **Answered**
Chosen Option : **4**

Q.6 **Parts of the following sentence have been given as options. Select the option that contains an error.**
The police told the agitators to back in, else they would lathi-charge.

Ans

✗ 1. lathi-charge

✗ 2. else they would

✗ 3. The police told

✓ 4. the agitators to back in

Question ID : **630680514359**
Option 1 ID : **6306802010064**
Option 2 ID : **6306802010063**
Option 3 ID : **6306802010061**
Option 4 ID : **6306802010062**
Status : **Answered**
Chosen Option : **2**

Q.7 **Parts of the following sentence have been given as options. Select the option that contains an error.**
We took dinner in a Chinese restaurant and were amazed to see the interior of a restaurant.

Ans

✗ 1. We took dinner

✗ 2. in a Chinese restaurant

✗ 3. and were amazed to see

✓ 4. the interior of a restaurant

Question ID : **630680514268**
Option 1 ID : **6306802009697**
Option 2 ID : **6306802009698**
Option 3 ID : **6306802009699**
Option 4 ID : **6306802009700**
Status : **Answered**
Chosen Option : **4**

Q.8 **Select the option that can be used as a one-word substitute for the given group of words.**

A person who performs magic to entertain people

Ans

✗ 1. Palmist

✓ 2. Magician

✗ 3. Alchemist

✗ 4. Angel

Question ID : **630680414782**
Option 1 ID : **6306801617873**
Option 2 ID : **6306801617871**
Option 3 ID : **6306801617874**
Option 4 ID : **6306801617872**
Status : **Answered**
Chosen Option : **2**

Q.9 **Select the most appropriate option to substitute the underlined segment in the given sentence.**
Transnational linkages, for example, sever the nation-state's integrity and corrupt state-society relations.

Ans
✔ 1. cohesion and erode
✘ 2. divergence and relativity
✘ 3. severance and revolution
✘ 4. controversy and diminution

Question ID : **630680177245**
Option 1 ID : **630680687159**
Option 2 ID : **630680687156**
Option 3 ID : **630680687158**
Option 4 ID : **630680687157**
Status : **Not Answered**
Chosen Option : **--**

Q.10 **Select the option that expresses the given sentence in passive voice.**
The cashier had finished the assigned task on time.

Ans
✔ 1. The assigned task had been finished by the cashier on time.
✘ 2. The assigned task is finished by the cashier on time.
✘ 3. The assigned task was finished by the cashier on time.
✘ 4. The assigned task has been finished by the cashier on time.

Question ID : **630680415259**
Option 1 ID : **6306801619784**
Option 2 ID : **6306801619785**
Option 3 ID : **6306801619786**
Option 4 ID : **6306801619783**
Status : **Answered**
Chosen Option : **1**

Q.11 **Sentences of a paragraph are given below in jumbled order. Arrange the sentences in the correct order to form a meaningful and coherent paragraph.**
A. However, their population is declining nowadays due to noise pollution.
B. It is one of the most common birds along with the other two species, the European starling, and the rock pigeon.
C. Their constant presence outside our homes makes it easy to overlook them.
D. House sparrows can be found in most places with and without houses (or other structures).

Ans
✔ 1. DBCA
✘ 2. DACB
✘ 3. BDCA
✘ 4. DABC

Question ID : **63068085875**
Option 1 ID : **630680332959**
Option 2 ID : **630680332957**
Option 3 ID : **630680332956**
Option 4 ID : **630680332958**
Status : **Answered**
Chosen Option : **3**

Q.12 **Select the most appropriate ANTONYM of the given word.**
Desolate

Ans
✗ 1. Melancholic
✗ 2. Frugal
✓ 3. Festive
✗ 4. Allusive

Question ID : **630680517359**
Option 1 ID : **6306802021833**
Option 2 ID : **6306802021834**
Option 3 ID : **6306802021832**
Option 4 ID : **6306802021835**
Status : **Answered**
Chosen Option : **4**

Q.13 **Select the option that expresses the given sentence in active voice.**
Data is being collected by the researcher.

Ans
✗ 1. The researcher has been collecting data.
✗ 2. The researcher will be collecting data.
✓ 3. The researcher is collecting data.
✗ 4. The researcher has collected data.

Question ID : **630680415251**
Option 1 ID : **6306801619754**
Option 2 ID : **6306801619752**
Option 3 ID : **6306801619753**
Option 4 ID : **6306801619751**
Status : **Answered**
Chosen Option : **3**

Q.14 **Select the most appropriate ANTONYM of the given word to fill in the blank.**

Capricious
Share market prices have remained _____ for weeks.

Ans
✗ 1. fickle
✓ 2. stable
✗ 3. mischievous
✗ 4. volatile

Question ID : **630680157353**
Option 1 ID : **630680608945**
Option 2 ID : **630680608947**
Option 3 ID : **630680608944**
Option 4 ID : **630680608946**
Status : **Answered**
Chosen Option : **1**

Q.15 **Out of the four sentences given, three have spelling errors. Identify the sentence that has no spelling error.**

Ans

✗ 1. A clergyman read the litturgy from the prayer-book.

✗ 2. What advice did he give to young entreprenuers?

✓ 3. She tried to manoeuvre her trolley around people.

✗ 4. The computer's software detected an anamoly caused by a virus.

Question ID : **630680409984**
Option 1 ID : **6306801598768**
Option 2 ID : **6306801598767**
Option 3 ID : **6306801598765**
Option 4 ID : **6306801598766**
Status : **Answered**
Chosen Option : **4**

Q.16 **Select the most appropriate option that has the same meaning as the italicised segment.**
His illness became *a blessing in disguise* when he married his nurse.

Ans

✗ 1. when someone finds it difficult to choose between two alternatives

✗ 2. deal with a problem if and when it becomes necessary

✗ 3. to present a counter- argument

✓ 4. an apparent misfortune that eventually has good results

Question ID : **630680205201**
Option 1 ID : **630680795663**
Option 2 ID : **630680795665**
Option 3 ID : **630680795666**
Option 4 ID : **630680795664**
Status : **Answered**
Chosen Option : **4**

Q.17 **Select the most appropriate synonym of the given word.**
Determined

Ans

✗ 1. hesitant

✗ 2. faltering

✓ 3. resolute

✗ 4. loathe

Question ID : **630680129932**
Option 1 ID : **630680503315**
Option 2 ID : **630680503316**
Option 3 ID : **630680503314**
Option 4 ID : **630680503317**
Status : **Answered**
Chosen Option : **3**

Q.18 **Select the most appropriate ANTONYM of the underlined word.**

Evenings get <u>dark</u> very early in this cold weather.

Ans

✗ 1. Shadowy

✗ 2. Dim

✓ 3. Bright

✗ 4. Gloomy

Question ID : **630680377260**
Option 1 ID : **6306801470105**
Option 2 ID : **6306801470106**
Option 3 ID : **6306801470103**
Option 4 ID : **6306801470104**
Status : **Answered**
Chosen Option : **3**

Q.19 **Select the most appropriate synonym of the given word.**
Fallacy

Ans

✗ 1. Veracity

✓ 2. Error

✗ 3. Evidence

✗ 4. Verify

Question ID : **630680177545**
Option 1 ID : **630680688343**
Option 2 ID : **630680688341**
Option 3 ID : **630680688340**
Option 4 ID : **630680688342**
Status : **Not Answered**
Chosen Option : **--**

Q.20 **Select the most appropriate order of the segments in the options that will fill in the blanks and make a coherent paragraph.**
Though Sheela loves watching horror movies,
_____/_____/_____/_____ she rented another romantic today.

Ans

✗ 1. and to her surprise she enjoyed it very much /so much so that /so she rented the latest romantic /she planned to try something different yesterday

✗ 2. so she rented the latest romantic / and to her surprise she enjoyed it very much / so much so that / she planned to try something different yesterday

✗ 3. so much so that / and to her surprise she enjoyed it very much / she planned to try something different yesterday / so she rented the latest romantic

✓ 4. she planned to try something different yesterday / so she rented the latest romantic / and to her surprise she enjoyed it very much / so much so that

Question ID : **630680146129**
Option 1 ID : **630680565406**
Option 2 ID : **630680565408**
Option 3 ID : **630680565409**
Option 4 ID : **630680565407**
Status : **Answered**
Chosen Option : **3**

Comprehension:

In the following passage, some words have been deleted. Read the passage carefully and select the most appropriate option to fill in each blank.
When Ojeya Cruz Banks moved to Ohio from New Zealand (1) _____ years ago, she was overwhelmed by the logistics of uprooting her life. But Cruz Banks, a Denison University professor and a single mom, who is also my neighbour and friend, was (2) _____ to find a house next to a public elementary school. She assumed that she would be able to walk to pick up her daughter, a needed convenience given that she didn't yet have a car.
Unfortunately, when she went to register her daughter for kindergarten, she was met with an (3) _____ surprise: The only (4) _____ option was a half-day program that would bus students to a day-care centre on the outskirts of the town for the afternoon. The district did offer a limited number of full-day slots, but those had all been claimed in a lottery earlier that spring and came with a tuition cost. "I was like, 'Cost me? What? Public school costs money here?'" she told me.
Many parents across the United States, like Cruz Banks, may assume that free, full-day kindergarten is a (5) _____ part of the country's public education system. I was one of them, until my youngest had to enter our district's lottery several months ago. When he was assigned to the half-day program, I swung between alarm and frustration.

SubQuestion No : 21

Q.21 Select the most appropriate option to fill in blank no. 1.

Ans
✗ 1. particular
✗ 2. immense
✓ 3. several
✗ 4. enormous

Question ID : **630680164098**
Option 1 ID : **630680635527**
Option 2 ID : **630680635525**
Option 3 ID : **630680635526**
Option 4 ID : **630680635524**
Status : **Answered**
Chosen Option : **3**

Comprehension:

In the following passage, some words have been deleted. Read the passage carefully and select the most appropriate option to fill in each blank.
When Ojeya Cruz Banks moved to Ohio from New Zealand (1) _____ years ago, she was overwhelmed by the logistics of uprooting her life. But Cruz Banks, a Denison University professor and a single mom, who is also my neighbour and friend, was (2) _____ to find a house next to a public elementary school. She assumed that she would be able to walk to pick up her daughter, a needed convenience given that she didn't yet have a car.
Unfortunately, when she went to register her daughter for kindergarten, she was met with an (3) _____ surprise: The only (4) _____ option was a half-day program that would bus students to a day-care centre on the outskirts of the town for the afternoon. The district did offer a limited number of full-day slots, but those had all been claimed in a lottery earlier that spring and came with a tuition cost. "I was like, 'Cost me? What? Public school costs money here?'" she told me.
Many parents across the United States, like Cruz Banks, may assume that free, full-day kindergarten is a (5) _____ part of the country's public education system. I was one of them, until my youngest had to enter our district's lottery several months ago. When he was assigned to the half-day program, I swung between alarm and frustration.

SubQuestion No : 22

Q.22 Select the most appropriate option to fill in blank no. 2.

Ans
✗ 1. distraught
✗ 2. dispassionate
✗ 3. worried
✓ 4. relieved

Question ID : **630680164099**
Option 1 ID : **630680635531**
Option 2 ID : **630680635530**
Option 3 ID : **630680635528**
Option 4 ID : **630680635529**
Status : **Answered**
Chosen Option : **3**

Comprehension:

In the following passage, some words have been deleted. Read the passage carefully and select the most appropriate option to fill in each blank.
When Ojeya Cruz Banks moved to Ohio from New Zealand (1) _____ years ago, she was overwhelmed by the logistics of uprooting her life. But Cruz Banks, a Denison University professor and a single mom, who is also my neighbour and friend, was (2) _____ to find a house next to a public elementary school. She assumed that she would be able to walk to pick up her daughter, a needed convenience given that she didn't yet have a car.
Unfortunately, when she went to register her daughter for kindergarten, she was met with an (3) _____ surprise: The only (4) _____ option was a half-day program that would bus students to a day-care centre on the outskirts of the town for the afternoon. The district did offer a limited number of full-day slots, but those had all been claimed in a lottery earlier that spring and came with a tuition cost. "I was like, 'Cost me? What? Public school costs money here?'" she told me.
Many parents across the United States, like Cruz Banks, may assume that free, full-day kindergarten is a (5) _____ part of the country's public education system. I was one of them, until my youngest had to enter our district's lottery several months ago. When he was assigned to the half-day program, I swung between alarm and frustration.

SubQuestion No : 23

Q.23 Select the most appropriate option to fill in blank no. 3.

Ans
✗ 1. amusing
✗ 2. enjoyable
✓ 3. unpleasant
✗ 4. agreeable

Question ID : **630680164100**
Option 1 ID : **630680635535**
Option 2 ID : **630680635533**
Option 3 ID : **630680635534**
Option 4 ID : **630680635532**
Status : **Answered**
Chosen Option : **1**

Comprehension:

In the following passage, some words have been deleted. Read the passage carefully and select the most appropriate option to fill in each blank.
When Ojeya Cruz Banks moved to Ohio from New Zealand (1) _____ years ago, she was overwhelmed by the logistics of uprooting her life. But Cruz Banks, a Denison University professor and a single mom, who is also my neighbour and friend, was (2) _____ to find a house next to a public elementary school. She assumed that she would be able to walk to pick up her daughter, a needed convenience given that she didn't yet have a car.
Unfortunately, when she went to register her daughter for kindergarten, she was met with an (3) _____ surprise: The only (4) _____ option was a half-day program that would bus students to a day-care centre on the outskirts of the town for the afternoon. The district did offer a limited number of full-day slots, but those had all been claimed in a lottery earlier that spring and came with a tuition cost. "I was like, 'Cost me? What? Public school costs money here?'" she told me.
Many parents across the United States, like Cruz Banks, may assume that free, full-day kindergarten is a (5) _____ part of the country's public education system. I was one of them, until my youngest had to enter our district's lottery several months ago. When he was assigned to the half-day program, I swung between alarm and frustration.

SubQuestion No : 24

Q.24 Select the most appropriate option to fill in blank no. 4.

Ans
✗ 1. futile
✓ 2. available
✗ 3. inaccessible
✗ 4. nonviable

Question ID : **630680164101**
Option 1 ID : **630680635539**
Option 2 ID : **630680635536**
Option 3 ID : **630680635537**
Option 4 ID : **630680635538**
Status : **Answered**
Chosen Option : **2**

Comprehension:

In the following passage, some words have been deleted. Read the passage carefully and select the most appropriate option to fill in each blank.
When Ojeya Cruz Banks moved to Ohio from New Zealand (1) _____ years ago, she was overwhelmed by the logistics of uprooting her life. But Cruz Banks, a Denison University professor and a single mom, who is also my neighbour and friend, was (2) _____ to find a house next to a public elementary school. She assumed that she would be able to walk to pick up her daughter, a needed convenience given that she didn't yet have a car.
Unfortunately, when she went to register her daughter for kindergarten, she was met with an (3) _____ surprise: The only (4) _____ option was a half-day program that would bus students to a day-care centre on the outskirts of the town for the afternoon. The district did offer a limited number of full-day slots, but those had all been claimed in a lottery earlier that spring and came with a tuition cost. "I was like, 'Cost me? What? Public school costs money here?'" she told me.
Many parents across the United States, like Cruz Banks, may assume that free, full-day kindergarten is a (5) _____ part of the country's public education system. I was one of them, until my youngest had to enter our district's lottery several months ago. When he was assigned to the half-day program, I swung between alarm and frustration.

SubQuestion No : 25

Q.25 Select the most appropriate option to fill in blank no. 5.

Ans

✗ 1. disapproved

✓ 2. required

✗ 3. ceaseless

✗ 4. inessential

Question ID : **630680164102**
Option 1 ID : **630680635540**
Option 2 ID : **630680635541**
Option 3 ID : **630680635543**
Option 4 ID : **630680635542**
Status : **Answered**
Chosen Option : **2**

Combined Graduate Level Examination 2024 Tier I

Roll Number	
Candidate Name	
Venue Name	
Exam Date	19/09/2024
Exam Time	12:30 PM - 1:30 PM
Subject	Combined Graduate Level Examination Tier I

Section : **General Intelligence and Reasoning**

Q.1 उन गणितीय चिह्नों के सही संयोजन का चयन करें जिन्हें नीचे दिए गए रिक्त स्थानों में क्रमिक रूप से बाएँ से दाएँ रखने पर दिया गया समीकरण संतुलित हो जाएगा।
8 _ 27 _ 9 _ 6 _ 5 = 0

Ans
✗ 1. ÷, +, −, +
✗ 2. −, +, ÷, +
✗ 3. −, ÷, +, +
✓ 4. +, ÷, −, −

Question ID : **630680411780**
Option 1 ID : **6306801605956**
Option 2 ID : **6306801605958**
Option 3 ID : **6306801605957**
Option 4 ID : **6306801605955**
Status : **Answered**
Chosen Option : **4**

Q.2 एक निश्चित कूट भाषा में, 'toys are gadgets' को 'dj sq ty' के रूप में कूटबद्ध किया जाता है और 'gadgets are machines' को 'mp ty dj' के रूप में कूटबद्ध किया जाता है। उस भाषा में 'gadgets' के लिए संभावित कूट क्या है?

Ans
✗ 1. either 'ty' or 'mp'
✓ 2. either 'ty' or 'dj'
✗ 3. dj
✗ 4. sq

Question ID : **630680137034**
Option 1 ID : **630680530737**
Option 2 ID : **630680530735**
Option 3 ID : **630680530734**
Option 4 ID : **630680530736**
Status : **Answered**
Chosen Option : **2**

Q.3 एक निश्चित कूट में,

'it is raining' को 'dy po ko' के रूप में कूटबद्ध किया जाता है,
'is raining now' को 'po jo ko' के रूप में कूटबद्ध किया जाता है और
'is now it' को 'po jo dy' के रूप में कूटबद्ध किया जाता है।

(सभी कूट केवल दो अक्षर वाले कूट हैं।)

'raining' के लिए कूट क्या है?

Ans
✔ 1. ko
✘ 2. po
✘ 3. jo
✘ 4. dy

Question ID : **630680797067**
Option 1 ID : **6306803123224**
Option 2 ID : **6306803123226**
Option 3 ID : **6306803123227**
Option 4 ID : **6306803123225**
Status : **Answered**
Chosen Option : **1**

Q.4 दिए गए विकल्पों में से उस आकृति का चयन कीजिए जो निम्नलिखित शृंखला में प्रश्न चिह्न (?) को प्रतिस्थापित कर सकती है।

		6			C			1			2	
2	=	1	M	6	P	P	M	6	C	1	=	?
P	C	M	1	=	2	=	2	C	6	M	P	

Ans

✔ 1.

		6
=	C	1
M	P	2

✘ 2.

		C
1	=	2
P	6	M

✘ 3.

		P
=	C	1
2	6	M

✘ 4.

		6
M	=	1
P	C	2

Question ID : **630680283524**
Option 1 ID : **6306801102215**
Option 2 ID : **6306801102217**
Option 3 ID : **6306801102218**
Option 4 ID : **6306801102216**
Status : **Answered**
Chosen Option : **1**

Q.5 एक निश्चित तर्क का अनुसरण करते हुए 97 का संबंध 49 से है। उसी तर्क का अनुसरण करते हुए, 115 का संबंध 58 से है।उसी तर्क का अनुसरण करते हुए, 133 का संबंध निम्नलिखित में से किससे है? (नोट: संख्याओं को उनके घटक अंकों में विभक्त किए बिना पूर्ण संख्याओं पर संक्रियाएं की जानी चाहिए। उदाहरण के लिए 13 को लें- 13 पर संक्रियाएं, जैसे कि जोड़ना/घटाना/गुणा आदि 13 में की जा सकती हैं। 13 को 1 और 3 में विभक्त करना और फिर 1 और 3 पर गणितीय संक्रियाएं करने की अनुमति नहीं है।)

Ans
✗ 1. 82
✓ 2. 67
✗ 3. 89
✗ 4. 64

Question ID : **630680344255**
Option 1 ID : **6306801339335**
Option 2 ID : **6306801339334**
Option 3 ID : **6306801339336**
Option 4 ID : **6306801339333**
Status : **Answered**
Chosen Option : **2**

Q.6 चार अक्षर समूह दिए गए हैं, जिनमें से तीन किसी न किसी रूप में एक समान हैं। उस असमान विकल्प को चुनिए।
नोट : अक्षर समूह में, असमान विकल्प व्यंजनों/स्वरों की संख्या या उनकी स्थिति पर आधारित नहीं है।

Ans
✗ 1. HGI
✗ 2. TSU
✓ 3. XYW
✗ 4. LKM

Question ID : **63068062110**
Option 1 ID : **630680239760**
Option 2 ID : **630680239759**
Option 3 ID : **630680239761**
Option 4 ID : **630680239758**
Status : **Answered**
Chosen Option : **3**

Q.7 एक पासे के विभिन्न फलकों पर छह अक्षर X, T, S, M, R और O लिखे गए हैं। इस पासे की दो स्थितियाँ नीचे चित्र में दर्शाई गई हैं। R के विपरीत वाले फलक पर आने वाला अक्षर ज्ञात कीजिए।

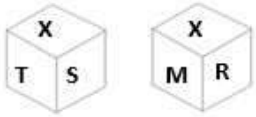

Ans
✗ 1. O
✓ 2. S
✗ 3. T
✗ 4. M

Question ID : **630680222370**
Option 1 ID : **630680863313**
Option 2 ID : **630680863311**
Option 3 ID : **630680863312**
Option 4 ID : **630680863314**
Status : **Answered**
Chosen Option : **2**

Q.8 जब दर्पण को नीचे दर्शाए गए अनुसार MN पर रखा जाता है तो दी गई आकृति के सही दर्पण प्रतिबिंब का चयन कीजिए।

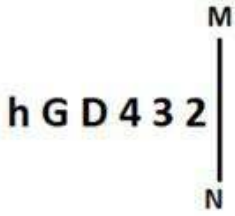

Ans
✗ 1. 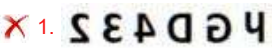
✗ 2.
✗ 3. 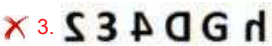
✓ 4. 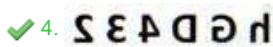

Question ID : **630680356658**
Option 1 ID : **6306801388635**
Option 2 ID : **6306801388636**
Option 3 ID : **6306801388634**
Option 4 ID : **6306801388633**
Status : **Answered**
Chosen Option : **4**

Q.9 एक निश्चित कूट भाषा में,
'A ! B' का अर्थ है कि 'A, B का पिता है',
'A & B' का अर्थ है कि 'A, B का भाई है',
'A * B' का अर्थ है कि 'A, B की पत्नी है' और
'A # B' का अर्थ है कि 'A, B की पुत्री है'।
निम्नलिखित में से किसका अर्थ यह है कि S, M की देवरानी/जेठानी है?

Ans
✓ 1. S * F & J ! I # M
✗ 2. S & F * J ! I # M
✗ 3. S & F # J ! I * M
✗ 4. S & F ! J * I # M

Question ID : **630680797546**
Option 1 ID : **6306803125141**
Option 2 ID : **6306803125140**
Option 3 ID : **6306803125143**
Option 4 ID : **6306803125142**
Status : **Answered**
Chosen Option : **1**

Q.10 निम्नलिखित में से कौन-सा पद दी गई श्रृंखला में प्रश्न चिह्न (?) को प्रतिस्थापित करेगा?
ABNI, DAQH, ?, JYWF

Ans
✓ 1. GZTG
✗ 2. TGZG
✗ 3. CAYG
✗ 4. GTZG

Question ID : **630680416958**
Option 1 ID : **6306801626595**
Option 2 ID : **6306801626597**
Option 3 ID : **6306801626598**
Option 4 ID : **6306801626596**
Status : **Answered**
Chosen Option : **1**

Q.11 उस विकल्प का चयन कीजिए जो उन अक्षरों को प्रदर्शित करता है जिन्हें नीचे दिए गए रिक्त स्थानों में बाएं से दाएं क्रमिक रूप से रखने पर अक्षर श्रृंखला पूर्ण हो जाएगी।

_ B _ _ _ A L _ _ L _ _

Ans
✗ 1. BBALLBAA
✗ 2. BLABBALL
✗ 3. LBAALLBA
✓ 4. LALBBABA

Question ID : **630680262383**
Option 1 ID : **6306801019174**
Option 2 ID : **6306801019172**
Option 3 ID : **6306801019173**
Option 4 ID : **6306801019171**
Status : **Answered**
Chosen Option : **4**

Q.12 अँग्रेजी वर्णमाला-क्रम के आधार पर 'NQRP' एक निश्चित तरीके से 'RUVT' से संबंधित है। उसी तरह 'DGLF' का संबंध 'HKPJ' से है। उसी तर्क के अनुसार 'KCUM' का संबंध निम्नलिखित में से किससे है?

Ans
✗ 1. PGZR
✗ 2. PHYR
✓ 3. OGYQ
✗ 4. OHZQ

Question ID : **630680416367**
Option 1 ID : **6306801624233**
Option 2 ID : **6306801624234**
Option 3 ID : **6306801624231**
Option 4 ID : **6306801624232**
Status : **Answered**
Chosen Option : **3**

Q.13 उस विकल्प का चयन कीजिए जिसमें संख्याएँ वही संबंध साझा करती हैं जो संबंध संख्याओं के दिए गए युग्म द्वारा साझा किया गया है।

(नोट: संख्याओं को उनके घटक अंकों में तोड़े बिना, पूर्ण संख्याओं पर संक्रियाएँ की जानी चाहिए। उदाहरण के लिए 13 को लें - 13 पर संक्रियाएं, जैसे 13 में जोड़ना/घटाना/गुणा करना आदि की जा सकती हैं। 13 को 1 और 3 में तोड़ने और फिर 1 और 3 पर गणितीय संक्रियाएँ करने की अनुमति नहीं है)

13 : 55
23 : 105

Ans
✓ 1. 31 : 145
✗ 2. 11 : 51
✗ 3. 29 : 113
✗ 4. 7 : 26

Question ID : **630680327804**
Option 1 ID : **6306801275186**
Option 2 ID : **6306801275187**
Option 3 ID : **6306801275185**
Option 4 ID : **6306801275188**
Status : **Answered**
Chosen Option : **1**

Q.14 इस प्रश्न में तीन कथन दिए गए हैं, जिसके बाद दो निष्कर्ष I. और II. दिए गए हैं। कथनों को सत्य मानते हुए, भले ही वे सामान्य रूप से ज्ञात तथ्यों से भिन्न प्रतीत होते हों, यह निर्णय लीजिए कि कौन-सा/से निष्कर्ष कथनों का तार्किक रूप से अनुसरण करता है/करते हैं।

कथन:
सभी शिक्षक, नर्तक हैं।
सभी नर्तक, इंजीनियर हैं।
कुछ इंजीनियर, सुंदर हैं।

निष्कर्ष:
I. सभी शिक्षक, सुंदर हैं।
II. कुछ नर्तक, सुंदर हैं।

Ans
✗ 1. केवल निष्कर्ष I. अनुसरण करता है।
✗ 2. केवल निष्कर्ष II. अनुसरण करता है।
✓ 3. न तो निष्कर्ष I. और न ही II. अनुसरण करता है।
✗ 4. निष्कर्ष I. और II. दोनों अनुसरण करते हैं।

Question ID : **630680416137**
Option 1 ID : **6306801623311**
Option 2 ID : **6306801623312**
Option 3 ID : **6306801623314**
Option 4 ID : **6306801623313**
Status : **Answered**
Chosen Option : **3**

Q.15 दी गई शीट को दर्शाई गई रेखाओं के अनुदिश मोड़कर एक घन का निर्माण किया जाता है। इस प्रकार बनने वाले घन में, 'Ball' के विपरीत फ़लक पर कौन-सा शब्द होगा?

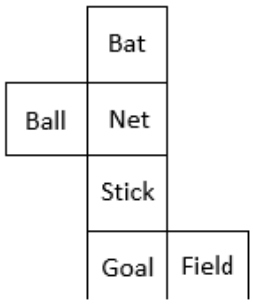

Ans
✗ 1. Bat
✓ 2. Field
✗ 3. Stick
✗ 4. Goal

Question ID : **630680318342**
Option 1 ID : **6306801238445**
Option 2 ID : **6306801238447**
Option 3 ID : **6306801238446**
Option 4 ID : **6306801238448**
Status : **Answered**
Chosen Option : **2**

Q.16 यदि '+' और '×' को आपस में बदल दिया जाए और '–' और '÷' को आपस में बदल दिया जाए, तो निम्नलिखित समीकरण में प्रश्न चिह्न (?) के स्थान पर क्या आएगा?

16 – 2 × 42 + 13 ÷ 12 = ?

Ans
✗ 1. 762
✗ 2. 560
✗ 3. 950
✓ 4. 542

Question ID : **630680327810**
Option 1 ID : **6306801275211**
Option 2 ID : **6306801275209**
Option 3 ID : **6306801275212**
Option 4 ID : **6306801275210**
Status : **Answered**
Chosen Option : **4**

Q.17 एक निश्चित कूट भाषा में, 'MAIN' को 'OHBL' लिखा जाता है और 'MAIL' को 'MHBL' लिखा जाता है। इसी कूट भाषा में 'MANY' को किस प्रकार लिखा जाएगा?

Ans
✓ 1. ZMBL
✗ 2. ZBLM
✗ 3. ZMLB
✗ 4. ZLMB

Question ID : **630680416250**
Option 1 ID : **6306801623764**
Option 2 ID : **6306801623766**
Option 3 ID : **6306801623763**
Option 4 ID : **6306801623765**
Status : **Answered**
Chosen Option : **1**

Q.18 दिए गए संख्या-युग्मों में दूसरी संख्या, पहली संख्या पर कुछ गणितीय संक्रिया/संक्रियाएँ करके प्राप्त की गई है। एक को छोड़कर सभी संख्या-युग्मों में समान संक्रिया/संक्रियाएं की गई है/हैं। वह असंगत संख्या-युग्म ज्ञात कीजिए।
(नोट: संख्याओं को उसके घटक अंकों में विभाजित किए बिना संबंध ज्ञात किया जाना चाहिए)

Ans
✗ 1. 1156 : 1225
✗ 2. 1764 : 1849
✗ 3. 1521 : 1600
✓ 4. 784 : 961

Question ID : **630680412044**
Option 1 ID : **6306801607013**
Option 2 ID : **6306801607014**
Option 3 ID : **6306801607011**
Option 4 ID : **6306801607012**
Status : **Answered**
Chosen Option : **4**

Q.19 Each vowel in the word 'ISOLATED' is changed to the following letter in the English alphabetical order and each consonant is changed to the preceding letter in the English alphabetical order. How many letters are there in the English alphabetical order between the letter which is the third from the left end and the second from the left end in the group of letters thus formed?

Ans
✗ 1. Two
✗ 2. Four
✗ 3. Three
✓ 4. One

Question ID : **630680313409**
Option 1 ID : **6306801219503**
Option 2 ID : **6306801219501**
Option 3 ID : **6306801219502**
Option 4 ID : **6306801219504**
Status : **Answered**
Chosen Option : **3**

Q.20 उस शब्द-युग्म का चयन करें, जो नीचे दिए गए शब्दों के युग्म में व्यक्त किए गए संबंध के समान संबंधों का सबसे बेहतर ढंग से प्रतिनिधित्व करता है।
(शब्दों को अर्थपूर्ण हिंदी शब्द माना जाना चाहिए और शब्द में अक्षरों की संख्या/व्यंजनों/स्वरों की संख्या के आधार पर एक दूसरे से संबंधित नहीं होना चाहिए)
New Zealand : Wellington (न्यूजीलैंड : वेलिंगटन)

Ans
✗ 1. China : Hong Kong (चीन : हांगकांग)
✓ 2. Ethiopia : Addis Ababa (इथियोपिया : अदीस अबाबा)
✗ 3. Egypt : Tunis (मिस्र : ट्यूनिस)
✗ 4. South Korea : Suwon Si (दक्षिण कोरिया : सुवन सी)

Question ID : **630680417414**
Option 1 ID : **6306801628419**
Option 2 ID : **6306801628420**
Option 3 ID : **6306801628421**
Option 4 ID : **6306801628422**
Status : **Answered**
Chosen Option : **2**

Q.21 विकल्पों में दिए गए उस चित्र की पहचान कीजिए जिसे प्रश्न चिह्न (?) के स्थान पर रखने पर श्रृंखला तार्किक रूप से पूर्ण हो जाएगी?

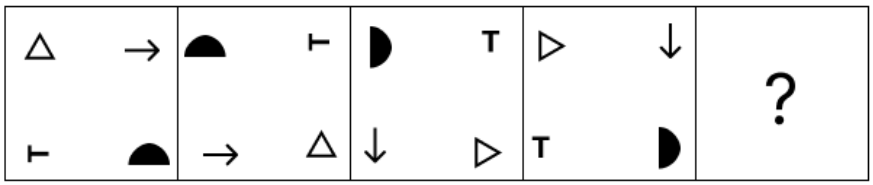

Ans

1. 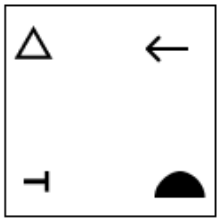

2. 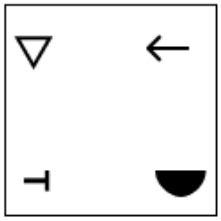

3. 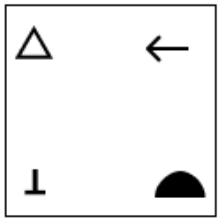

4. 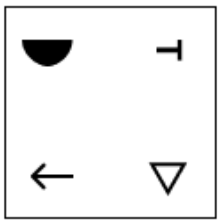

Question ID : **630680471499**
Option 1 ID : **6306801841712**
Option 2 ID : **6306801841710**
Option 3 ID : **6306801841713**
Option 4 ID : **6306801841711**
Status : **Answered**
Chosen Option : **1**

Q.22 नीचे दी गई आकृतियों में कागज के एक टुकड़े को मोड़ने का क्रम और मुड़े हुए कागज को काटने का तरीका दर्शाया गया है। कागज खुलने पर यह कैसा दिखेगा?

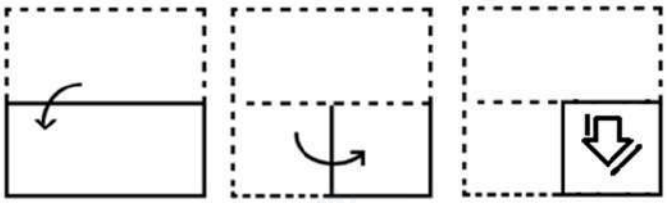

Ans

1. 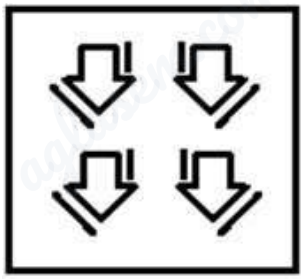

2. 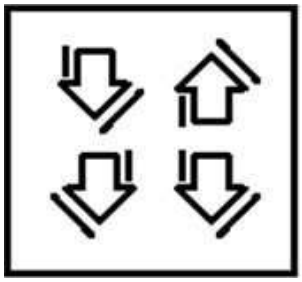

3. 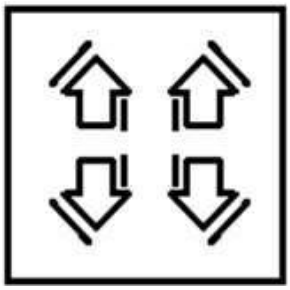

4. 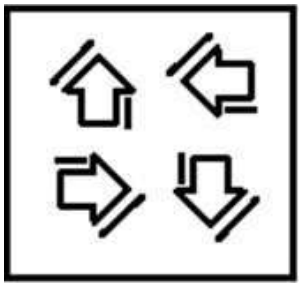

Question ID : **630680105031**
Option 1 ID : **630680408236**
Option 2 ID : **630680408237**
Option 3 ID : **630680408238**
Option 4 ID : **630680408235**
Status : **Answered**
Chosen Option : **3**

Q.23 एक निश्चित तर्क का अनुसरण करते हुए 13 का संबंध 119 से है। उसी तर्क का अनुसरण करते हुए, 9 का संबंध 31 से है। उसी तर्क का अनुसरण करते हुए, 8 का संबंध निम्नलिखित में से किससे है?
नोट: संख्याओं को उनके घटक अंकों में विभक्त किए बिना पूर्ण संख्याओं पर संक्रियाएं की जानी चाहिए। उदाहरण के लिए 13 को लें- 13 पर संक्रियाएं, जैसे कि जोड़ना/घटाना/गुणा आदि 13 में की जा सकती हैं। 13 को 1 और 3 में विभक्त करना और फिर 1 और 3 पर गणितीय संक्रियाएं करने की अनुमति नहीं है।

Ans
✗ 1. 24
✓ 2. 14
✗ 3. 27
✗ 4. 10

Question ID : **630680344259**
Option 1 ID : **6306801339350**
Option 2 ID : **6306801339351**
Option 3 ID : **6306801339352**
Option 4 ID : **6306801339349**
Status : **Answered**
Chosen Option : **2**

Q.24 दिए गए विकल्पों में से उस संख्या का चयन कीजिए, जो निम्नलिखित श्रृंखला में प्रश्न-चिह्न (?) को प्रतिस्थापित कर सकती है।
625, 382, 301, 274, 265, ?

Ans
✗ 1. 248
✓ 2. 262
✗ 3. 258
✗ 4. 260

Question ID : **630680411903**
Option 1 ID : **6306801606450**
Option 2 ID : **6306801606449**
Option 3 ID : **6306801606448**
Option 4 ID : **6306801606447**
Status : **Answered**
Chosen Option : **2**

Q.25 दी गई आकृति में कितने अर्धवृत्त हैं?

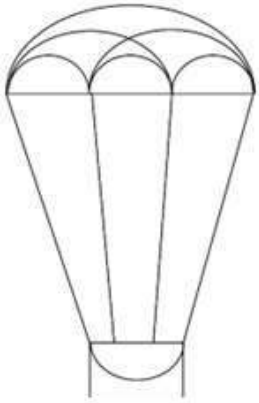

Ans
✗ 1. 6
✓ 2. 7
✗ 3. 8
✗ 4. 5

Question ID : **630680296587**
Option 1 ID : **6306801154000**
Option 2 ID : **6306801154001**
Option 3 ID : **6306801154002**
Option 4 ID : **6306801153999**
Status : **Answered**
Chosen Option : **2**

Section : **General Awareness**

Q.1 निम्नलिखित में से किस आयोग/समिति ने कुछ मौलिक कर्तव्यों के कार्यान्वयन के लिए कानूनी प्रावधानों के अस्तित्व की पहचान की?

Ans
✗ 1. वसंतराव नाइक समिति
✗ 2. सरकारिया आयोग
✗ 3. राजमन्नार आयोग
✓ 4. न्यायमूर्ति वर्मा समिति

Question ID : **630680305668**
Option 1 ID : **6306801189048**
Option 2 ID : **6306801189047**
Option 3 ID : **6306801189046**
Option 4 ID : **6306801189045**
Status : **Not Answered**
Chosen Option : **--**

Q.2 गुटनिरपेक्ष आंदोलन का पहला आधिकारिक शिखर सम्मेलन कहाँ आयोजित किया गया था?

Ans
✗ 1. मिस्र
✗ 2. भारत
✗ 3. न्यूयॉर्क
✓ 4. यूगोस्लाविया

Question ID : **630680511550**
Option 1 ID : **6306801999323**
Option 2 ID : **6306801999322**
Option 3 ID : **6306801999324**
Option 4 ID : **6306801999325**
Status : **Answered**
Chosen Option : **3**

Q.3 निम्नलिखित में से पारिस्थितिक दक्षता की सबसे अच्छी परिभाषा कौन-सी है?

Ans
✗ 1. खाद्य शृंखला में विभिन्न पोषी स्तरों पर संचित ऊर्जा की मात्रा
✗ 2. खाद्य शृंखला में विभिन्न पोषी स्तरों पर द्रव्यमान और ऊर्जा प्रवाह के बीच का अनुपात
✓ 3. खाद्य शृंखला में विभिन्न बिंदुओं पर ऊर्जा प्रवाह के बीच का अनुपात
✗ 4. खाद्य शृंखला में विभिन्न पोषी स्तरों पर उपयोग की जाने वाली ऊर्जा की मात्रा

Question ID : **630680199651**
Option 1 ID : **630680774211**
Option 2 ID : **630680774214**
Option 3 ID : **630680774212**
Option 4 ID : **630680774213**
Status : **Answered**
Chosen Option : **4**

Q.4 किस राज्य के मुख्यमंत्री ने 2022 में 'कौशल्या मातृत्व योजना' शुरू की है, जो सुरक्षित मातृत्व के लिए दूसरी लड़की को जन्म देने वाली महिलाओं को ₹5,000 की वित्तीय सहायता प्रदान करती है?

Ans
✓ 1. छत्तीसगढ़
✗ 2. उत्तर प्रदेश
✗ 3. राजस्थान
✗ 4. गुजरात

Question ID : **630680413082**
Option 1 ID : **6306801611151**
Option 2 ID : **6306801611153**
Option 3 ID : **6306801611152**
Option 4 ID : **6306801611154**
Status : **Not Answered**
Chosen Option : **--**

Q.5 निम्नलिखित में से कौन-सा संयुक्त क्षेत्र उद्योग का एक उदाहरण है?

Ans
✓ 1. ऑयल इंडिया लिमिटेड
✗ 2. भारत हैवी इलेक्ट्रिकल्स लिमिटेड
✗ 3. टाटा आयरन एंड स्टील कंपनी
✗ 4. स्टील अथॉरिटी ऑफ इंडिया लिमिटेड

Question ID : **630680327628**
Option 1 ID : **6306801274512**
Option 2 ID : **6306801274510**
Option 3 ID : **6306801274511**
Option 4 ID : **6306801274509**
Status : **Answered**
Chosen Option : **4**

Q.6 निम्नलिखित में से किस राज्य में मुख्यतः मी-डैम-मी-फी (Me-dam-me-phi) उत्सव मनाया जाता है?

Ans
✗ 1. ओडिशा
✗ 2. बिहार
✗ 3. नागालैंड
✓ 4. असम

Question ID : **630680164569**
Option 1 ID : **630680637395**
Option 2 ID : **630680637393**
Option 3 ID : **630680637394**
Option 4 ID : **630680637392**
Status : **Answered**
Chosen Option : **3**

Q.7 भारतीय संविधान के भाग XI में अनुच्छेद 245 से 255 _____ से संबंधित हैं।

Ans
✗ 1. केंद्र और राज्यों के बीच वित्तीय संबंध
✓ 2. केंद्र और राज्यों के बीच विधायी संबंध
✗ 3. अधिकरण
✗ 4. आपातकालीन प्रावधान

Question ID : **630680326536**
Option 1 ID : **6306801270230**
Option 2 ID : **6306801270229**
Option 3 ID : **6306801270231**
Option 4 ID : **6306801270232**
Status : **Answered**
Chosen Option : **2**

Q.8 निम्नलिखित में से क्या उन लोगों के लिए छोटे ऋण का प्रावधान करता है जिनकी वित्तीय सेवाओं तक कोई अन्य पहुंच नहीं होती है?

Ans
✗ 1. सूक्ष्म ऋण
✗ 2. प्रधानमंत्री आवास योजना
✗ 3. गृह ऋण
✓ 4. सूक्ष्म वित्त

Question ID : **630680127431**
Option 1 ID : **630680493985**
Option 2 ID : **630680493987**
Option 3 ID : **630680493986**
Option 4 ID : **630680493984**
Status : **Answered**
Chosen Option : **1**

Q.9 गंधर्व महाविद्यालय, जिसकी स्थापना पंडित विनय चंद्र मौद्गल्य ने की थी, _____ में स्थित है।

Ans
✗ 1. पुणे
✗ 2. कोलकाता
✗ 3. मुंबई
✓ 4. नई दिल्ली

Question ID : **630680309167**
Option 1 ID : **6306801202845**
Option 2 ID : **6306801202847**
Option 3 ID : **6306801202846**
Option 4 ID : **6306801202848**
Status : **Answered**
Chosen Option : **2**

Q.10 10वीं शताब्दी में भारत में महारानी दिद्दा उत्तर भारत के निम्नलिखित में से किस क्षेत्र की शासिका बनीं?

Ans
✗ 1. मालवा
✗ 2. दिल्ली
✗ 3. कन्नौज
✓ 4. कश्मीर

Question ID : **630680412416**
Option 1 ID : **6306801608487**
Option 2 ID : **6306801608488**
Option 3 ID : **6306801608489**
Option 4 ID : **6306801608490**
Status : **Not Answered**
Chosen Option : **--**

Q.11 मुलायम सिंह यादव, जिनका अक्टूबर 2022 में निधन हो गया, किस राज्य के मुख्यमंत्री थे?

Ans
✗ 1. मध्य प्रदेश
✗ 2. गुजरात
✗ 3. बिहार
✓ 4. उत्तर प्रदेश

Question ID : **630680413029**
Option 1 ID : **6306801610941**
Option 2 ID : **6306801610940**
Option 3 ID : **6306801610939**
Option 4 ID : **6306801610942**
Status : **Answered**
Chosen Option : **4**

Q.12 लूनी नदी किस राज्य-समूह में बहती है?

Ans
✓ 1. राजस्थान और गुजरात
✗ 2. बिहार और पश्चिम बंगाल
✗ 3. महाराष्ट्र और कर्नाटक
✗ 4. आंध्र प्रदेश और तेलंगाना

Question ID : **630680328131**
Option 1 ID : **6306801276493**
Option 2 ID : **6306801276494**
Option 3 ID : **6306801276495**
Option 4 ID : **6306801276496**
Status : **Answered**
Chosen Option : **1**

Q.13 वर्ष 2023-24 के लिए वित्त मंत्रालय का विनिवेश लक्ष्य क्या है?

Ans
✗ 1. ₹53,000 करोड़
✗ 2. ₹54,000 करोड़
✗ 3. ₹50,000 करोड़
✓ 4. ₹51,000 करोड़

Question ID : **630680413060**
Option 1 ID : **6306801611063**
Option 2 ID : **6306801611066**
Option 3 ID : **6306801611065**
Option 4 ID : **6306801611064**
Status : **Not Answered**
Chosen Option : **--**

Q.14 निम्न में से कौन-सा दस्तावेज़ भारत में सार्वजनिक एवं निजी उद्योगों की स्थापना के लिए एक रूपरेखा, नियम और विनियम प्रदान करता है?

Ans
✗ 1. केंद्रीय बजट
✓ 2. औद्योगिक नीति
✗ 3. कंपनी का वित्तीय विवरण
✗ 4. व्यापार संघ की वार्षिक रिपोर्ट

Question ID : **630680410798**
Option 1 ID : **6306801601953**
Option 2 ID : **6306801601951**
Option 3 ID : **6306801601952**
Option 4 ID : **6306801601954**
Status : **Answered**
Chosen Option : **2**

Q.15 तापमान में 10°की वृद्धि के साथ एक रासायनिक अभिक्रिया के लिए, दर स्थिरांक लगभग _____ हो जाता है।

Ans
✗ 1. आधा
✗ 2. एक-चौथाई
✗ 3. तीन गुना
✓ 4. दोगुना

Question ID : **63068052321**
Option 1 ID : **630680201386**
Option 2 ID : **630680201388**
Option 3 ID : **630680201389**
Option 4 ID : **630680201387**
Status : **Not Answered**
Chosen Option : **--**

Q.16 एग्रीकल्चरल शॉट (Agricultural shot) शब्द का इस्तेमाल निम्नलिखित में से किस खेल में किया जाता है?

Ans
✗ 1. लॉन टेनिस
✗ 2. फुटबॉल
✓ 3. क्रिकेट
✗ 4. टेबल टेनिस

Question ID : **630680510813**
Option 1 ID : **6306801996385**
Option 2 ID : **6306801996382**
Option 3 ID : **6306801996383**
Option 4 ID : **6306801996384**
Status : **Answered**
Chosen Option : **1**

Q.17 शतरंज में, निम्नलिखित में से कौन केवल अपने ठीक सामने वाले खाली खाने में ही आगे बढ़ सकता है?

Ans
✓ 1. प्यादा
✗ 2. हाथी
✗ 3. ऊँट
✗ 4. वजीर / रानी

Question ID : **630680510774**
Option 1 ID : **6306801996226**
Option 2 ID : **6306801996227**
Option 3 ID : **6306801996228**
Option 4 ID : **6306801996229**
Status : **Answered**
Chosen Option : **1**

Q.18 एक ही दिन के दौरान होने वाले उच्च वायु तापमान और निम्न वायु तापमान के बीच के अंतर को _____ तापमान कहा जाता है।

Ans
✗ 1. वार्षिक
✗ 2. आर्द्र बल्ब
✓ 3. दैनिक
✗ 4. ड्यूरियन

Question ID : **63068099315**
Option 1 ID : **630680385964**
Option 2 ID : **630680385966**
Option 3 ID : **630680385965**
Option 4 ID : **630680385967**
Status : **Answered**
Chosen Option : **3**

Q.19 कौन से भारतीय संगीतकार और सितार वादक नेशनल ऑर्केस्ट्रा ऑफ इंडिया के संस्थापक हैं/थे?

Ans
✗ 1. अय्यागारि श्यामसुंदरम
✓ 2. रवि शंकर
✗ 3. शाहिद परवेज़ खान
✗ 4. किशन महाराज

Question ID : **630680560748**
Option 1 ID : **6306802191975**
Option 2 ID : **6306802191974**
Option 3 ID : **6306802191972**
Option 4 ID : **6306802191973**
Status : **Answered**
Chosen Option : **2**

Q.20 निम्नलिखित में से किस वर्ष में वी.डी. सावरकर को अंग्रेजों द्वारा अंडमान जेल भेजा गया था?

Ans
✓ 1. 1911
✗ 2. 1910
✗ 3. 1923
✗ 4. 1922

Question ID : **630680412311**
Option 1 ID : **6306801608069**
Option 2 ID : **6306801608070**
Option 3 ID : **6306801608067**
Option 4 ID : **6306801608068**
Status : **Answered**
Chosen Option : **4**

Q.21 मेंडलीफ के अनुमान के अनुसार,एलुमिनियम का परमाणु द्रव्यमान कितना था?

Ans
✗ 1. 72
✓ 2. 68
✗ 3. 44
✗ 4. 100

Question ID : **63068094251**
Option 1 ID : **630680365701**
Option 2 ID : **630680365700**
Option 3 ID : **630680365699**
Option 4 ID : **630680365702**
Status : **Answered**
Chosen Option : **3**

Q.22 राष्ट्रीय कॅरियर सेवा और माइक्रोसॉफ्ट इंडिया द्वारा डिजिटल कौशल के माध्यम से रोजगार के लिए संयुक्त डिजिटल कौशल पहल कौन सी है?

Ans
✗ 1. विद्यादान
✓ 2. डिजीसक्षम
✗ 3. शिक्षा वाणी
✗ 4. स्वयं

Question ID : **630680183662**
Option 1 ID : **630680711659**
Option 2 ID : **630680711660**
Option 3 ID : **630680711658**
Option 4 ID : **630680711657**
Status : **Answered**
Chosen Option : **2**

Q.23 प्रायद्वीपीय भारत में, निम्नलिखित में से कौन-सा साम्राज्य उत्तरी महाराष्ट्र और विदर्भ पर शासन करने वाली स्थानीय शक्ति थी?

Ans
✓ 1. वाकाटक
✗ 2. चालुक्य
✗ 3. मौखरि
✗ 4. मैत्रक

Question ID : **630680412523**
Option 1 ID : **6306801608916**
Option 2 ID : **6306801608915**
Option 3 ID : **6306801608917**
Option 4 ID : **6306801608918**
Status : **Answered**
Chosen Option : **1**

Q.24 पंडवानी गायिका उषा बारले को 2023 में भारत सरकार द्वारा निम्नलिखित में से किस पुरस्कार से सम्मानित किया गया?

Ans
✓ 1. पद्म श्री
✗ 2. भारत रत्न
✗ 3. पद्म भूषण
✗ 4. पद्म विभूषण

Question ID : **630680415815**
Option 1 ID : **6306801622030**
Option 2 ID : **6306801622027**
Option 3 ID : **6306801622029**
Option 4 ID : **6306801622028**
Status : **Answered**
Chosen Option : **1**

Q.25 निम्नलिखित में से कौन-सा, प्रोकैरियोटिक कोशिकाओं का उदाहरण है?

Ans
✔ 1. बैक्टीरिया
✘ 2. लीशमैनिया
✘ 3. प्लाज्मोडियम
✘ 4. यीस्ट

Question ID : **630680113756**
Option 1 ID : **630680440551**
Option 2 ID : **630680440553**
Option 3 ID : **630680440550**
Option 4 ID : **630680440552**
Status : **Answered**
Chosen Option : **4**

Section : **Quantitative Aptitude**

Q.1 किसी वस्तु की कीमत लगातार दो बार बढ़ाई जाती है। अंतिम कीमत ₹2,295 है और प्रारंभिक कीमत ₹1,000 थी। दूसरी बार प्रतिशत वृद्धि, पहली बार प्रतिशत वृद्धि से दोगुनी थी। दूसरी बार कीमत में कितने प्रतिशत की वृद्धि की गई?

Ans
✘ 1. 65%
✘ 2. 25%
✘ 3. 35%
✔ 4. 70%

Question ID : **630680427978**
Option 1 ID : **6306801669958**
Option 2 ID : **6306801669956**
Option 3 ID : **6306801669957**
Option 4 ID : **6306801669959**
Status : **Answered**
Chosen Option : **4**

Q.2 PQ और RS, A और B पर प्रतिच्छेद करने वाली दो वृत्तों की उभयनिष्ठ स्पर्श रेखाएं हैं। A और B, दोनों ओर बढ़ाए जाने पर, स्पर्श रेखा PQ और RS से क्रमशः X और Y पर मिलते हैं। यदि AB = 3 cm और XY = 5 cm है, तो PQ _____ है।

Ans
✔ 1. 4 cm
✘ 2. 3 cm
✘ 3. 5 cm
✘ 4. 6 cm

Question ID : **630680285537**
Option 1 ID : **6306801110116**
Option 2 ID : **6306801110115**
Option 3 ID : **6306801110117**
Option 4 ID : **6306801110118**
Status : **Answered**
Chosen Option : **1**

Q.3 नीचे दिया गया दंड आलेख दो क्रमिक वर्षों, 2011 और 2012 के दौरान छः दुकानों S1, S2, S3, S4, S5 और S6 से बॉल पेनों की बिक्री (हजार संख्या में) को दर्शाता है।

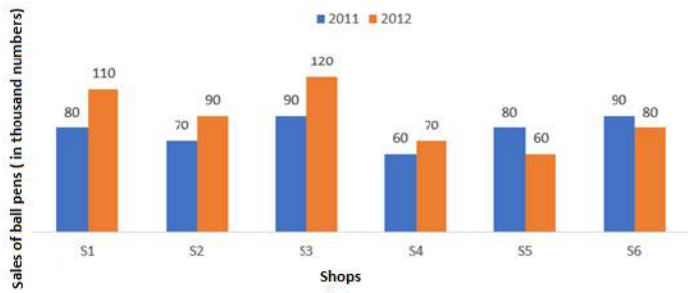

Sales of ball pens (in thousand numbers) = बॉल पेनों की बिक्री (हजार संख्या में)

Shops = दुकान

दोनों वर्षों में दुकान S2 की कुल बिक्री और दोनों वर्षों में दुकान S5 की कुल बिक्री का अनुपात क्या है?

Ans
✗ 1. 5 : 8
✓ 2. 8 : 7
✗ 3. 7 : 5
✗ 4. 3 : 7

Question ID : **630680397950**
Option 1 ID : **6306801551815**
Option 2 ID : **6306801551816**
Option 3 ID : **6306801551817**
Option 4 ID : **6306801551814**
Status : **Answered**
Chosen Option : **2**

Q.4 **एक बल्लेबाज का बीस मैचों में औसत स्कोर 15 है और पच्चीस अन्य मैचों में औसत स्कोर 24 है। सभी पैंतालीस मैचों में औसत स्कोर ज्ञात कीजिए।**

Ans
✗ 1. 19.5
✓ 2. 20
✗ 3. 22
✗ 4. 21

Question ID : **630680397312**
Option 1 ID : **6306801549304**
Option 2 ID : **6306801549305**
Option 3 ID : **6306801549307**
Option 4 ID : **6306801549306**
Status : **Answered**
Chosen Option : **2**

Q.5 व्यंजक $\frac{1-\sin(2t)}{1+\sin(2t)} \times \frac{\cos(t)+\sin(t)}{\cos(t)-\sin(t)}$ का मान _____ है।

Ans
✗ 1. $\frac{1-2\tan(t)}{1+2\tan(t)}$

✗ 2. $\frac{1+\tan(t)}{1-\tan(t)}$

✓ 3. $\frac{1-\tan(t)}{1+\tan(t)}$

✗ 4. $\frac{1+2\tan(t)}{1-2\tan(t)}$

Question ID : **630680373885**
Option 1 ID : **6306801456812**
Option 2 ID : **6306801456811**
Option 3 ID : **6306801456814**
Option 4 ID : **6306801456813**
Status : **Answered**
Chosen Option : **3**

Q.6 दो वर्षों के अंतराल पर पैदा हुए 6 बच्चों की आयु का योग 90 वर्ष है। सबसे बड़े बच्चे की आयु (वर्ष में) क्या है?

Ans
✗ 1. 14

✗ 2. 16

✗ 3. 10

✓ 4. 20

Question ID : **630680285564**
Option 1 ID : **6306801110224**
Option 2 ID : **6306801110225**
Option 3 ID : **6306801110223**
Option 4 ID : **6306801110226**
Status : **Answered**
Chosen Option : **4**

Q.7 वृत्त की त्रिज्या 10 cm है और जीवा से केंद्र की लंबवत दूरी 6 cm है। जीवा की लंबाई कितनी है?

Ans
✗ 1. 14 cm

✗ 2. 18 cm

✗ 3. 12 cm

✓ 4. 16 cm

Question ID : **630680196686**
Option 1 ID : **630680763044**
Option 2 ID : **630680763046**
Option 3 ID : **630680763043**
Option 4 ID : **630680763045**
Status : **Answered**
Chosen Option : **4**

Q.8 $(2\sin\theta + 3\cos\theta)$ का अधिकतम मान ज्ञात कीजिए।

Ans
✔ 1. $\sqrt{13}$

✘ 2. $\sqrt{17}$

✘ 3. $\sqrt{11}$

✘ 4. 9

Question ID : **630680526473**
Option 1 ID : **6306802057961**
Option 2 ID : **6306802057960**
Option 3 ID : **6306802057958**
Option 4 ID : **6306802057959**
Status : **Answered**
Chosen Option : **1**

Q.9 निम्नलिखित व्यंजक का मान ज्ञात कीजिए।
$25 \div 5 + 3 \text{ of } 2 - 4 + 6 \text{ of } 3 \div 2 - 8 + 4$

Ans
✔ 1. 12

✘ 2. 16

✘ 3. 4

✘ 4. 8

Question ID : **630680421213**
Option 1 ID : **6306801643329**
Option 2 ID : **6306801643330**
Option 3 ID : **6306801643327**
Option 4 ID : **6306801643328**
Status : **Answered**
Chosen Option : **1**

Q.10 एक स्कूल बिल्डिंग में एक ओवरहेड टैंक है। इस टैंक को भरने के लिए 50 बाल्टी पानी की आवश्यकता होती है। मान लीजिए कि बाल्टी की क्षमता इसकी वर्तमान क्षमता का दो-पाँचवां भाग कर दी जाती है। तो उसी टैंक को भरने के लिए कितनी बाल्टी पानी की आवश्यकता होगी?

Ans
✘ 1. 20

✔ 2. 125

✘ 3. 62.5

✘ 4. 60

Question ID : **6306801047987**
Option 1 ID : **6306804113993**
Option 2 ID : **6306804113990**
Option 3 ID : **6306804113992**
Option 4 ID : **6306804113991**
Status : **Answered**
Chosen Option : **1**

Q.11 दिया गया पाई चार्ट शैक्षणिक वर्ष 2022-23 में एक स्कूल की विभिन्न कक्षाओं में प्रवेश पाने वाले विद्यार्थियों की संख्या को दर्शाता है।

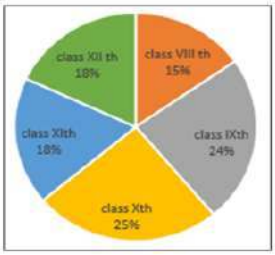

Class XII th – कक्षा 12, Class VIII th – कक्षा 8, Class IX th – कक्षा 9, Class Xth – कक्षा 10, Class XI th – कक्षा 11
यदि कक्षा 8 में 600 विद्यार्थियों को प्रवेश दिया गया तो कक्षा 12 की तुलना में कक्षा 10 में कितने विद्यार्थी अधिक थे?

Ans
✗ 1. 240
✗ 2. 295
✗ 3. 298
✓ 4. 280

Question ID : **630680428148**
Option 1 ID : **6306801670636**
Option 2 ID : **6306801670638**
Option 3 ID : **6306801670639**
Option 4 ID : **6306801670637**
Status : **Answered**
Chosen Option : **4**

Q.12 **₹275 अंकित मूल्य वाली एक वस्तु को 5% छूट पर बेचा जाता है। विक्रेता अभी भी 4.5% लाभ प्राप्त करता है। उसने इसके लिए कितना भुगतान किया था?**

Ans
✗ 1. ₹200
✗ 2. ₹125
✗ 3. ₹225
✓ 4. ₹250

Question ID : **630680239487**
Option 1 ID : **630680928900**
Option 2 ID : **630680928899**
Option 3 ID : **630680928902**
Option 4 ID : **630680928901**
Status : **Answered**
Chosen Option : **4**

Q.13 $\left[1-\sin^2 32^\circ+\frac{1}{1+\tan^2 58^\circ}\right]$ को सरल कीजिए।

Ans
✔ 1. 1
✘ 2. $\frac{1}{2}$
✘ 3. $\sqrt{3}$
✘ 4. sin32°

Question ID : **630680396998**
Option 1 ID : **6306801548050**
Option 2 ID : **6306801548051**
Option 3 ID : **6306801548048**
Option 4 ID : **6306801548049**
Status : **Answered**
Chosen Option : **1**

Q.14 एक चतुर्भुज PQRS, O केंद्र वाले वृत्त में इस प्रकार खींचा गया है कि PQ, व्यास है और $\angle PSR = 120^\circ$ है। $\angle QPR$ का मान ज्ञात कीजिए।

Ans
✔ 1. 30°
✘ 2. 50°
✘ 3. 40°
✘ 4. 60°

Question ID : **630680401713**
Option 1 ID : **6306801566626**
Option 2 ID : **6306801566628**
Option 3 ID : **6306801566627**
Option 4 ID : **6306801566629**
Status : **Answered**
Chosen Option : **1**

Q.15 एक चोर को एक पुलिसकर्मी 200 मीटर की दूरी से देखता है। जैसे ही पुलिस कर्मी पीछा करना शुरू करता है, तो चोर भी भागने लगता है। यदि चोर की चाल 9 km/h हो और पुलिसकर्मी की चाल 10 km/h हो, तो चोर पकड़े जाने से पहले कितनी दूर भागेगा?

Ans
✘ 1. 1.6 km
✔ 2. 1.8 km
✘ 3. 1.2 km
✘ 4. 1.4 km

Question ID : **630680428343**
Option 1 ID : **6306801671418**
Option 2 ID : **6306801671419**
Option 3 ID : **6306801671416**
Option 4 ID : **6306801671417**
Status : **Answered**
Chosen Option : **2**

Q.16 तीन वर्ष पहले, एक व्यक्ति की आयु उसके छोटे भाई की आयु की छह गुनी थी। आठ वर्ष बाद, व्यक्ति की आयु उसके छोटे भाई की आयु के दोगुने से तीन वर्ष कम होगी। व्यक्ति और उसके छोटे भाई की वर्तमान आयु ज्ञात करें।

Ans
✗ 1. 5 वर्ष और 15 वर्ष
✗ 2. 12 वर्ष और 4 वर्ष
✓ 3. 15 वर्ष और 5 वर्ष
✗ 4. 4 वर्ष और 12 वर्ष

Question ID : **630680285539**
Option 1 ID : **6306801110123**
Option 2 ID : **6306801110124**
Option 3 ID : **6306801110125**
Option 4 ID : **6306801110126**
Status : **Answered**
Chosen Option : **3**

Q.17 ₹1,456 की राशि, जब दस वर्षों के लिए निवेश की जाती है, तो यह परिपक्वता पर ₹2,366 हो जाती है। साधारण ब्याज की वार्षिक दर ज्ञात कीजिए जिसे निवेश की गई राशि पर भुगतान किया जाना था।

Ans
✓ 1. 6.25%
✗ 2. 5.75%
✗ 3. 6.5%
✗ 4. 6.15%

Question ID : **63068070516**
Option 1 ID : **630680272689**
Option 2 ID : **630680272687**
Option 3 ID : **630680272688**
Option 4 ID : **630680272686**
Status : **Answered**
Chosen Option : **1**

Q.18 ΔABC और ΔDEF दो त्रिभुज इस प्रकार हैं कि $\Delta ABC \cong \Delta FDE$ है। यदि $AB = 17$ cm, $\angle B = 52°$ और $\angle A = 95°$ है, तो निम्नलिखित में से कौन-सा विकल्प सत्य है?

Ans
✓ 1. DF = 17 cm, $\angle E = 33°$
✗ 2. DE = 17 cm, $\angle E = 33°$
✗ 3. DE = 17 cm, $\angle F = 33°$
✗ 4. DF = 17 cm, $\angle D = 33°$

Question ID : **630680380384**
Option 1 ID : **6306801482532**
Option 2 ID : **6306801482534**
Option 3 ID : **6306801482531**
Option 4 ID : **6306801482533**
Status : **Answered**
Chosen Option : **1**

Q.19 एक वृत्ताकार बेलन की आधार त्रिज्या 10.5 cm है। यदि इसके वक्र पृष्ठ का क्षेत्रफल 792 cm^2 है, तो बेलन का आयतन क्या है?

Ans
✗ 1. 4152 cm^3
✗ 2. 4518 cm^3
✓ 3. 4158 cm^3
✗ 4. 4185 cm^3

Question ID : **630680421535**
Option 1 ID : **6306801644603**
Option 2 ID : **6306801644604**
Option 3 ID : **6306801644605**
Option 4 ID : **6306801644606**
Status : **Answered**
Chosen Option : **3**

Q.20 दिए गए दंड आलेख का अध्ययन कीजिए और निम्नलिखित प्रश्न का उत्तर दीजिए।

नीचे दिए गए दंडआलेख में एक डिपार्टमेंटल स्टोर के वर्ष 1997 से 2000 तक के तिमाही लाभ (लाख में) को दिखाया गया है।

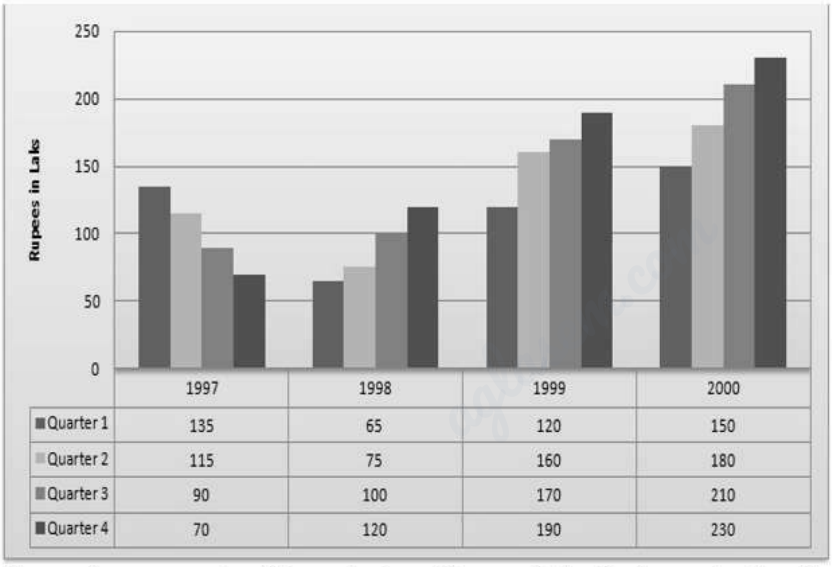

	1997	1998	1999	2000
Quarter 1	135	65	120	150
Quarter 2	115	75	160	180
Quarter 3	90	100	170	210
Quarter 4	70	120	190	230

वर्ष 1997 से 2000 तक डिपार्टमेंटल स्टोर के वार्षिक लाभ में कितने प्रतिशत की वृद्धि हुई?

Ans
✓ 1. $87\frac{33}{41}\%$
✗ 2. $83\frac{33}{41}\%$
✗ 3. $85\frac{33}{41}\%$
✗ 4. $84\frac{33}{41}\%$

Question ID : **630680428035**
Option 1 ID : **6306801670184**
Option 2 ID : **6306801670187**
Option 3 ID : **6306801670185**
Option 4 ID : **6306801670186**
Status : **Not Answered**
Chosen Option : **--**

Q.21 A और B एक काम को क्रमशः 12 दिन और 16 दिन में कर सकते हैं। यदि वे 6 दिन तक एक साथ काम करते हैं, तो कितना काम शेष रहेगा?

Ans

✗ 1. $\frac{7}{8}$

✗ 2. $\frac{1}{7}$

✗ 3. $\frac{5}{7}$

✓ 4. $\frac{1}{8}$

Question ID : **630680381423**
Option 1 ID : **6306801486631**
Option 2 ID : **6306801486633**
Option 3 ID : **6306801486632**
Option 4 ID : **6306801486634**
Status : **Answered**
Chosen Option : **4**

Q.22 दी गई संख्याओं A, B, C और D में से कौन-सी संख्या 11 से विभाज्य नहीं है?
A = 712712
B = 177210
C = 64614
D = 756148

Ans

✗ 1. B

✗ 2. C

✓ 3. D

✗ 4. A

Question ID : **630680121148**
Option 1 ID : **630680469555**
Option 2 ID : **630680469556**
Option 3 ID : **630680469557**
Option 4 ID : **630680469554**
Status : **Answered**
Chosen Option : **3**

Q.23 यदि $\left(x+\frac{1}{x}\right)$ = 7, x > 0 है। $\left(x-\frac{1}{x}\right)$ का धनात्मक मान कितना है?

Ans

✓ 1. $3\sqrt{5}$

✗ 2. $5\sqrt{4}$

✗ 3. $4\sqrt{5}$

✗ 4. $5\sqrt{5}$

Question ID : **630680413495**
Option 1 ID : **6306801612804**
Option 2 ID : **6306801612807**
Option 3 ID : **6306801612805**
Option 4 ID : **6306801612806**
Status : **Answered**
Chosen Option : **1**

Q.24 एक दुकानदार ₹44 प्रति kg की दर से चावल बेचता है, जिसका क्रय मूल्य ₹40 प्रति kg है। इससे संतुष्ट नहीं होने पर वह हर पैकेट से 200 ग्राम चावल निकालकर अपना लाभ बढ़ाने की कोशिश करता है। दुकानदार के कुल लाभ प्रतिशत की गणना करें।

Ans
✗ 1. 35%
✗ 2. 37%
✓ 3. 37.5%
✗ 4. 35.5%

Question ID : **630680429047**
Option 1 ID : **6306801674232**
Option 2 ID : **6306801674234**
Option 3 ID : **6306801674235**
Option 4 ID : **6306801674233**
Status : **Answered**
Chosen Option : **3**

Q.25 निम्नलिखित बार ग्राफ दिए गए वर्षों में एक कंपनी द्वारा की गई बिक्री (₹ करोड़ में) को दर्शाता है। ग्राफ का अध्ययन करें और प्रश्न का उत्तर दें।

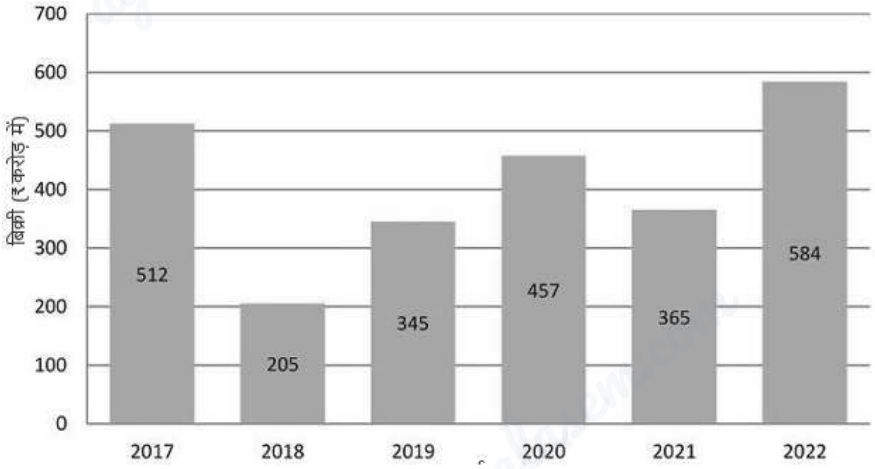

अधिकतम और न्यूनतम बिक्री का माध्य (₹ करोड़ में) कितना है?

Ans
✗ 1. 484.2
✓ 2. 394.5
✗ 3. 412.3
✗ 4. 326.7

Question ID : **630680403244**
Option 1 ID : **6306801572473**
Option 2 ID : **6306801572475**
Option 3 ID : **6306801572474**
Option 4 ID : **6306801572476**
Status : **Answered**
Chosen Option : **2**

Section : **English Comprehension**

Q.1 **Parts of a sentence are given below in jumbled order. Arrange the parts in the correct order to form a meaningful sentence.**
A. all the plants and animals of today
B. it is written that Brahma is the God of creation
C. and it is He who has made
D. in the book of Hindu mythology

Ans
✗ 1. DCBA
✓ 2. DBCA
✗ 3. DACB
✗ 4. CABD

Question ID : **630680166070**
Option 1 ID : **630680643253**
Option 2 ID : **630680643252**
Option 3 ID : **630680643255**
Option 4 ID : **630680643254**
Status : **Answered**
Chosen Option : **2**

Q.2 **Select the most appropriate synonym of the underlined word.**

It takes time to <u>adapt</u> to a new environment.

Ans
✗ 1. Apply
✓ 2. Adjust
✗ 3. Understand
✗ 4. Control

Question ID : **630680360820**
Option 1 ID : **6306801405155**
Option 2 ID : **6306801405154**
Option 3 ID : **6306801405156**
Option 4 ID : **6306801405153**
Status : **Answered**
Chosen Option : **2**

Q.3 **Select the option that can be used as a one-word substitute for the given group of words.**

One who tends to look at the dark side of things

Ans
✗ 1. Optimist
✓ 2. Pessimist
✗ 3. Dynamist
✗ 4. Polemist

Question ID : **630680129474**
Option 1 ID : **630680501515**
Option 2 ID : **630680501514**
Option 3 ID : **630680501517**
Option 4 ID : **630680501516**
Status : **Answered**
Chosen Option : **2**

Q.4 **Select the most appropriate idiom that can substitute the underlined segment in the given sentence.**
Roshan, it's time for you to give your speech to the whole school, wishing you luck to do well.

Ans
✗ 1. high five
✗ 2. down in the dumps
✗ 3. hands down
✓ 4. break a leg

Question ID : **630680375538**
Option 1 ID : **6306801463308**
Option 2 ID : **6306801463309**
Option 3 ID : **6306801463310**
Option 4 ID : **6306801463307**
Status : **Answered**
Chosen Option : **4**

Q.5 **Select the most appropriate ANTONYM of the given word.**
Inevitable

Ans
✗ 1. Confident
✓ 2. Avoidable
✗ 3. Inexorable
✗ 4. Clear

Question ID : **630680517369**
Option 1 ID : **6306802021873**
Option 2 ID : **6306802021874**
Option 3 ID : **6306802021875**
Option 4 ID : **6306802021872**
Status : **Answered**
Chosen Option : **2**

Q.6 **The following sentence has been split into four segments. Identify the segment that contains a spelling error.**
Big Data has inandated / the education industry. / It has transformed it / by leaps and bounds.

Ans
✗ 1. It has transformed it
✓ 2. Big Data has inandated
✗ 3. the education industry
✗ 4. by leaps and bounds

Question ID : **630680409962**
Option 1 ID : **6306801598679**
Option 2 ID : **6306801598677**
Option 3 ID : **6306801598678**
Option 4 ID : **6306801598680**
Status : **Answered**
Chosen Option : **2**

Q.7 **Select the most appropriate meaning of the underlined idiom/phrase.**

I had heard of <u>henpecked husbands</u> and now, I felt that I saw one.

Ans

✗ 1. Dominating husbands

✓ 2. Oppressed husband

✗ 3. Controlling husband

✗ 4. Bossy husbands

Question ID : **630680119690**
Option 1 ID : **630680463845**
Option 2 ID : **630680463843**
Option 3 ID : **630680463844**
Option 4 ID : **630680463842**
Status : **Answered**
Chosen Option : **1**

Q.8 **The following sentence has been divided into three segments. One of them may contain an error. Select the option that has the segment with the error. If you don't find any error, select 'No error' as your answer.**
Mr. Ali's shop / is further to / the hospital.

Ans

✓ 1. is further to

✗ 2. No error

✗ 3. the hospital.

✗ 4. Mr. Ali's shop

Question ID : **630680206701**
Option 1 ID : **630680801404**
Option 2 ID : **630680801406**
Option 3 ID : **630680801405**
Option 4 ID : **630680801403**
Status : **Answered**
Chosen Option : **1**

Q.9 **Select the option that can be used as a one-word substitute for the given group of words.**

The statistical study of human populations.

Ans

✗ 1. Photography

✗ 2. Astronomy

✓ 3. Demography

✗ 4. Palaeography

Question ID : **630680414694**
Option 1 ID : **6306801617521**
Option 2 ID : **6306801617519**
Option 3 ID : **6306801617522**
Option 4 ID : **6306801617520**
Status : **Answered**
Chosen Option : **3**

Q.10 **Parts of a sentence are given below in jumbled order. Arrange the parts in the correct order to form a meaningful sentence.**
(A) a lot
(B) my daily routine
(C) i have missed
(D) since my retirement
(E) at the workplace

Ans
✗ 1. BADEC
✓ 2. CBEAD
✗ 3. BEADC
✗ 4. BACED

Question ID : **630680360057**
Option 1 ID : **6306801402175**
Option 2 ID : **6306801402174**
Option 3 ID : **6306801402173**
Option 4 ID : **6306801402176**
Status : **Answered**
Chosen Option : **2**

Q.11 **Select the most appropriate option that can substitute the underlined segment in the given sentence.**
She was foolish enough to think that she <u>be completely safe</u> now.

Ans
✓ 1. is completely safe
✗ 2. were completely safe
✗ 3. have been completely safe
✗ 4. has being completely safe

Question ID : **630680159749**
Option 1 ID : **630680618459**
Option 2 ID : **630680618456**
Option 3 ID : **630680618457**
Option 4 ID : **630680618458**
Status : **Answered**
Chosen Option : **2**

Q.12 **Parts of the following sentence have been given as options. Select the option that contains an error.**
It rain a lot in this part of the country.

Ans
✓ 1. It rain
✗ 2. in this part
✗ 3. of the country
✗ 4. a lot

Question ID : **630680514368**
Option 1 ID : **6306802010097**
Option 2 ID : **6306802010099**
Option 3 ID : **6306802010100**
Option 4 ID : **6306802010098**
Status : **Answered**
Chosen Option : **1**

Q.13 **Select the option that expresses the following sentence in active voice.**
The concert tickets were bought by my friend

Ans

✗ 1. My friend buys the concert tickets.

✗ 2. My friend is buying the concert tickets.

✓ 3. My friend bought the concert tickets.

✗ 4. My friend has bought the concert tickets.

Question ID : **630680415303**
Option 1 ID : **6306801619959**
Option 2 ID : **6306801619961**
Option 3 ID : **6306801619962**
Option 4 ID : **6306801619960**
Status : **Answered**
Chosen Option : **3**

Q.14 **Select the most appropriate synonym of the underlined word in the given sentence.**
She is a very creative artist and one can see that in her paintings.

Ans

✗ 1. Pedantic

✗ 2. Likeable

✓ 3. Innovative

✗ 4. Good

Question ID : **630680129933**
Option 1 ID : **630680503319**
Option 2 ID : **630680503321**
Option 3 ID : **630680503318**
Option 4 ID : **630680503320**
Status : **Answered**
Chosen Option : **3**

Q.15 **Select the option that expresses the given sentence in passive voice.**
Inayat did not greet her.

Ans

✗ 1. She was not going to be greeted by Inayat.

✗ 2. She was not at all greeted by Inayat.

✗ 3. She was not being greeted by Inayat.

✓ 4. She was not greeted by Inayat.

Question ID : **630680206653**
Option 1 ID : **630680801213**
Option 2 ID : **630680801212**
Option 3 ID : **630680801211**
Option 4 ID : **630680801214**
Status : **Answered**
Chosen Option : **4**

Q.16 **Identify from the given options the word which is similar in meaning to the following word.**
Morbid

Ans
✔ 1. Gloomy
✘ 2. Blithe
✘ 3. Grand
✘ 4. Bet

Question ID : **630680360070**
Option 1 ID : **6306801402226**
Option 2 ID : **6306801402227**
Option 3 ID : **6306801402225**
Option 4 ID : **6306801402228**
Status : **Answered**
Chosen Option : **1**

Q.17 **Identity the most appropriate ANTONYM of the underlined word in the following sentence.**
I love the stunning view of the mountain.

Ans
✘ 1. Toxic
✔ 2. Mundane
✘ 3. Superfluous
✘ 4. Smashing

Question ID : **630680374325**
Option 1 ID : **6306801458494**
Option 2 ID : **6306801458492**
Option 3 ID : **6306801458491**
Option 4 ID : **6306801458493**
Status : **Answered**
Chosen Option : **2**

Q.18 **Select the most appropriate ANTONYM of the given word.**
Hinder

Ans
✘ 1. Praise
✘ 2. Joy
✘ 3. Block
✔ 4. Facilitate

Question ID : **630680517557**
Option 1 ID : **6306802022625**
Option 2 ID : **6306802022624**
Option 3 ID : **6306802022627**
Option 4 ID : **6306802022626**
Status : **Answered**
Chosen Option : **4**

Q.19 **Select the option that can be used as a one-word substitute for the underlined group of words.**
In industries, it is very common to observe that people show <u>undue favour to one's own relative during the hiring process</u>.

Ans
✗ 1. liberalism
✗ 2. racism
✗ 3. communism
✓ 4. nepotism

Question ID : **630680158617**
Option 1 ID : **630680613960**
Option 2 ID : **630680613961**
Option 3 ID : **630680613963**
Option 4 ID : **630680613962**
Status : **Answered**
Chosen Option : **4**

Q.20 **Select the correctly spelled sentence.**

Ans
✗ 1. The athletees achievements are impressive.
✗ 2. The athlete's achievements are imprressive.
✗ 3. The athlete's acheivements are impressive.
✓ 4. The athlete's achievements are impressive.

Question ID : **630680377274**
Option 1 ID : **6306801470161**
Option 2 ID : **6306801470160**
Option 3 ID : **6306801470159**
Option 4 ID : **6306801470162**
Status : **Answered**
Chosen Option : **4**

Comprehension:

In the following passage, some words have been deleted. Read the passage carefully and select the most appropriate option to fill in each blank.
Recently, the (1)_____ of heart-attacks in young Indians (2)_____ increased tremendously. Doctors are surprised to note that young men and women with seemingly healthy lifestyle are suffering deadly heart attacks. (3)_____ diet and exercise play a (4)_____ role in a person's overall wellbeing, mental health is also a valuable factor. The (5)_____ urban lifestyle is causing anxiety and depression in young Indians which may be a major factor behind the increased numbers.

SubQuestion No : 21

Q.21 **Select the most appropriate option to fill in blank number 1.**

Ans
✗ 1. percent
✗ 2. height
✓ 3. number
✗ 4. amount

Question ID : **630680146350**
Option 1 ID : **630680566284**
Option 2 ID : **630680566285**
Option 3 ID : **630680566282**
Option 4 ID : **630680566283**
Status : **Answered**
Chosen Option : **1**

Comprehension:

In the following passage, some words have been deleted. Read the passage carefully and select the most appropriate option to fill in each blank.
Recently, the (1)_____ of heart-attacks in young Indians (2)_____ increased tremendously. Doctors are surprised to note that young men and women with seemingly healthy lifestyle are suffering deadly heart attacks. (3)_____ diet and exercise play a (4)_____ role in a person's overall wellbeing, mental health is also a valuable factor. The (5)_____ urban lifestyle is causing anxiety and depression in young Indians which may be a major factor behind the increased numbers.

SubQuestion No : 22

Q.22 Select the most appropriate option to fill in blank number 2.

Ans

✗ 1. have

✗ 2. have been

✗ 3. had

✓ 4. has

Question ID : **630680146351**
Option 1 ID : **630680566287**
Option 2 ID : **630680566289**
Option 3 ID : **630680566288**
Option 4 ID : **630680566286**
Status : **Answered**
Chosen Option : **2**

Comprehension:

In the following passage, some words have been deleted. Read the passage carefully and select the most appropriate option to fill in each blank.
Recently, the (1)_____ of heart-attacks in young Indians (2)_____ increased tremendously. Doctors are surprised to note that young men and women with seemingly healthy lifestyle are suffering deadly heart attacks. (3)_____ diet and exercise play a (4)_____ role in a person's overall wellbeing, mental health is also a valuable factor. The (5)_____ urban lifestyle is causing anxiety and depression in young Indians which may be a major factor behind the increased numbers.

SubQuestion No : 23

Q.23 Select the most appropriate option to fill in blank number 3.

Ans

✗ 1. However

✗ 2. Since

✗ 3. In spite of

✓ 4. Although

Question ID : **630680146352**
Option 1 ID : **630680566292**
Option 2 ID : **630680566293**
Option 3 ID : **630680566290**
Option 4 ID : **630680566291**
Status : **Answered**
Chosen Option : **4**

Comprehension:

In the following passage, some words have been deleted. Read the passage carefully and select the most appropriate option to fill in each blank.
Recently, the (1)_____ of heart-attacks in young Indians (2)_____ increased tremendously. Doctors are surprised to note that young men and women with seemingly healthy lifestyle are suffering deadly heart attacks. (3)_____ diet and exercise play a (4)_____ role in a person's overall wellbeing, mental health is also a valuable factor. The (5)_____ urban lifestyle is causing anxiety and depression in young Indians which may be a major factor behind the increased numbers.

SubQuestion No : 24

Q.24 Select the most appropriate option to fill in blank number 4.

Ans

✗ 1. historic

✓ 2. monumental

✗ 3. increased

✗ 4. epic

Question ID : **630680146353**
Option 1 ID : **630680566297**
Option 2 ID : **630680566296**
Option 3 ID : **630680566294**
Option 4 ID : **630680566295**
Status : **Answered**
Chosen Option : **4**

Comprehension:

In the following passage, some words have been deleted. Read the passage carefully and select the most appropriate option to fill in each blank.
Recently, the (1)_____ of heart-attacks in young Indians (2)_____ increased tremendously. Doctors are surprised to note that young men and women with seemingly healthy lifestyle are suffering deadly heart attacks. (3)_____ diet and exercise play a (4)_____ role in a person's overall wellbeing, mental health is also a valuable factor. The (5)_____ urban lifestyle is causing anxiety and depression in young Indians which may be a major factor behind the increased numbers.

SubQuestion No : 25

Q.25 Select the most appropriate option to fill in blank number 5.

Ans

✗ 1. wilderness

✗ 2. cosmic

✓ 3. fast-paced

✗ 4. rapidly

Question ID : **630680146354**
Option 1 ID : **630680566298**
Option 2 ID : **630680566300**
Option 3 ID : **630680566301**
Option 4 ID : **630680566299**
Status : **Answered**
Chosen Option : **3**

Combined Graduate Level Examination 2024 Tier I

Roll Number	
Candidate Name	
Venue Name	
Exam Date	19/09/2024
Exam Time	4:00 PM - 5:00 PM
Subject	Combined Graduate Level Examination Tier I

Section : **General Intelligence and Reasoning**

Q.1 उस शब्द-युग्म का चयन करें जो नीचे दिए गए शब्द-युग्म में व्यक्त किए गए समान संबंध का सबसे अच्छा निरूपण करता है।

(शब्दों को अर्थपूर्ण हिंदी शब्द माना जाना चाहिए और इन्हें शब्द में अक्षरों की संख्या/व्यंजनों/स्वरों की संख्या के आधार पर एक दूसरे से संबंधित नहीं किया जाना चाहिए।)
लार्वा : कीट

Ans

✗ 1. लोमड़ी : मादा लोमड़ी

✗ 2. कुत्ता : पशु

✗ 3. चमगादड़ : चूजा

✓ 4. मृगशावक : हिरन

Question ID : **630680416658**
Option 1 ID : **6306801625397**
Option 2 ID : **6306801625398**
Option 3 ID : **6306801625395**
Option 4 ID : **6306801625396**
Status : **Not Answered**
Chosen Option : **--**

Q.2 यदि निम्नलिखित समीकरण में, '+' और '–' को आपस में बदल दिया जाए, तथा '×' और '÷' को आपस में बदल दिया जाए, तो प्रश्न-चिह्न (?) के स्थान पर क्या आएगा?
49 × 7 – 6 ÷ 8 +13 =

Ans

✗ 1. 37

✗ 2. 43

✓ 3. 42

✗ 4. 32

Question ID : **630680337364**
Option 1 ID : **6306801312180**
Option 2 ID : **6306801312179**
Option 3 ID : **6306801312178**
Option 4 ID : **6306801312177**
Status : **Answered**
Chosen Option : **3**

Q.3 उस विकल्प का चयन कीजिए जो उन अक्षरों को प्रदर्शित करता है जिन्हें नीचे दिए गए रिक्त स्थानों में बाएं से दाएं क्रमिक रूप से रखने पर अक्षर श्रृंखला पूर्ण हो जाएगी।

I _ _ I _ I _ _ I _ J _

Ans
✗ 1. I I J J J I J

✗ 2. I J I I J J I

✓ 3. J I J I J I I

✗ 4. J I I I J J I

Question ID : **630680262380**
Option 1 ID : **6306801019160**
Option 2 ID : **6306801019159**
Option 3 ID : **6306801019161**
Option 4 ID : **6306801019162**
Status : **Answered**
Chosen Option : **3**

Q.4 दिए गए आरेख का ध्यानपूर्वक अध्ययन कीजिए और नीचे दिए गए प्रश्न का उत्तर दीजिए। विभिन्न वर्गों वाली संख्याएँ उन छात्रों की संख्या दर्शाती हैं जो विशेष विषयों को पसंद करते हैं।

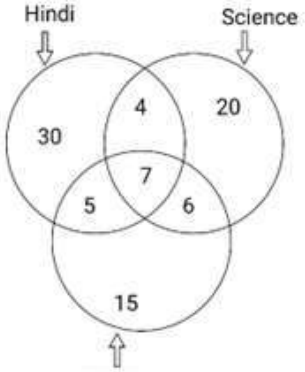

Hindi = हिंदी

Science = विज्ञान

Maths = गणित

कितने छात्र हिंदी और विज्ञान दोनों पसंद करते हैं, लेकिन गणित को पसंद नहीं करते?

Ans
✗ 1. 10

✓ 2. 4

✗ 3. 12

✗ 4. 11

Question ID : **630680180561**
Option 1 ID : **630680699755**
Option 2 ID : **630680699752**
Option 3 ID : **630680699754**
Option 4 ID : **630680699753**
Status : **Answered**
Chosen Option : **2**

Q.5 चार अक्षर-समूह दिए गए हैं जिनमें से तीन किसी न किसी रूप में एक समान हैं, और एक उनसे असंगत है।उस असंगत अक्षर-समूह का चयन कीजिए।
नोट: अक्षर समूह में, असंगत व्यंजनों/स्वरों की संख्या या उनकी स्थिति पर आधारित नहीं है। .

Ans
✗ 1. TVX
✓ 2. MOP
✗ 3. HJL
✗ 4. NPR

Question ID : **63068083311**
Option 1 ID : **630680323094**
Option 2 ID : **630680323095**
Option 3 ID : **630680323092**
Option 4 ID : **630680323093**
Status : **Answered**
Chosen Option : **2**

Q.6 एक निश्चित कूट भाषा में, 'PANTHER' को '0146283' के रूप में लिखा जाता है और 'ANOTHER' को '2864109' के रूप में लिखा जाता है। उसी भाषा में 'O' को किस प्रकार लिखा जाएगा?

Ans
✗ 1. 3
✗ 2. 8
✗ 3. 0
✓ 4. 9

Question ID : **630680339163**
Option 1 ID : **6306801319222**
Option 2 ID : **6306801319224**
Option 3 ID : **6306801319221**
Option 4 ID : **6306801319223**
Status : **Answered**
Chosen Option : **4**

Q.7 एक निश्चित कूट भाषा में,
X + Y का अर्थ है 'X, Y की बहन है',
X – Y का अर्थ है 'X, Y की पत्नी है',
X × Y का अर्थ है 'X, Y की माता है',
X ÷ Y का अर्थ है 'X, Y का पिता है'।
उपर्युक्त के आधार पर, यदि 'H × I – J ÷ K + L' है, तो H, L से किस प्रकार संबंधित है?

Ans
✗ 1. पिता की माता
✗ 2. पिता की बहन
✓ 3. माता की माता
✗ 4. माता

Question ID : **630680261888**
Option 1 ID : **6306801017209**
Option 2 ID : **6306801017210**
Option 3 ID : **6306801017207**
Option 4 ID : **6306801017208**
Status : **Answered**
Chosen Option : **3**

Q.8 एक कागज को नीचे दिखाए अनुसार मोड़ा और काटा जाता है। खोलने पर यह कैसा दिखाई देगा?

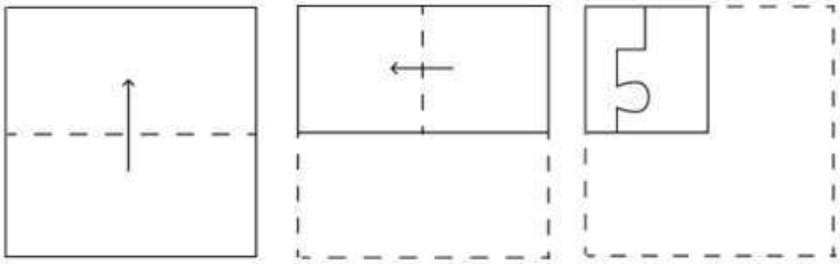

Ans

✗ 1.

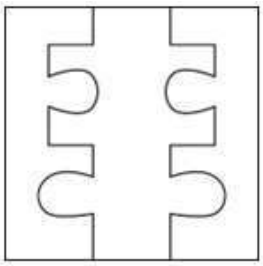

✓ 2.

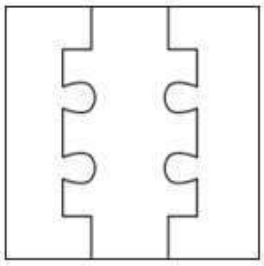

✗ 3.

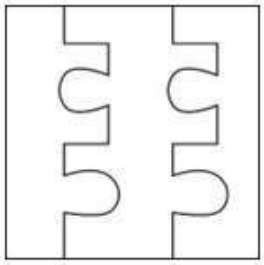

✗ 4.

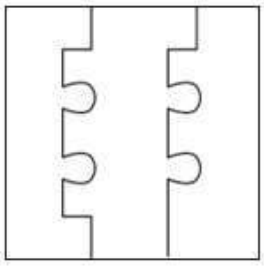

Question ID : **630680294953**
Option 1 ID : **6306801147542**
Option 2 ID : **6306801147541**
Option 3 ID : **6306801147543**
Option 4 ID : **6306801147540**
Status : **Answered**
Chosen Option : **2**

Q.9 दी गई आकृति में कितने त्रिभुज हैं?

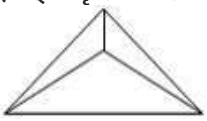

Ans
✗ 1. 5
✗ 2. 2
✗ 3. 3
✓ 4. 4

Question ID : **630680161865**
Option 1 ID : **630680626771**
Option 2 ID : **630680626768**
Option 3 ID : **630680626769**
Option 4 ID : **630680626770**
Status : **Answered**
Chosen Option : **4**

Q.10 उस विकल्प आकृति का चयन करें जिसमें दी गई आकृति (X) सन्निहित है (घुमाने की अनुमति नहीं है)।



(X)

Ans

✗ 1. 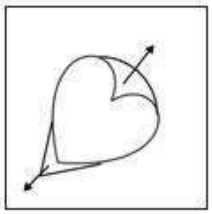

✗ 2. 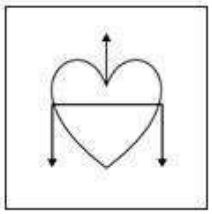

✓ 3. 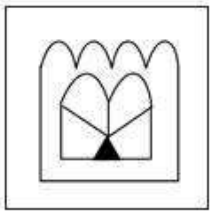

✗ 4. 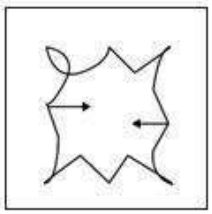

Question ID : **630680296894**
Option 1 ID : **6306801155222**
Option 2 ID : **6306801155220**
Option 3 ID : **6306801155221**
Option 4 ID : **6306801155219**
Status : **Answered**
Chosen Option : **3**

Q.11 श्रृंखला को पूरा करने के लिए दिए गए विकल्पों में से संख्या का चयन करें।
58, 70, 83, 97, ___

Ans
✓ 1. 112
✗ 2. 114
✗ 3. 113
✗ 4. 111

Question ID : **630680411905**
Option 1 ID : **6306801606456**
Option 2 ID : **6306801606458**
Option 3 ID : **6306801606457**
Option 4 ID : **6306801606455**
Status : **Answered**
Chosen Option : **1**

Q.12 निम्नलिखित चार विकल्पों में से तीन एक निश्चित तरीके से एकसमान हैं और इस प्रकार एक समूह बनाते हैं। वह कौन सा विकल्प है जो उस समूह से संबंधित नहीं है?
(ध्यान दें: संख्याओं को उनके घटक अंकों में तोड़े बिना, पूर्ण संख्याओं पर गणितीय संक्रियाएं की जानी चाहिए। उदाहरण के लिए 13 लें - 13 पर विभिन्न गणितीय संक्रियाएं जैसे 13 को जोड़ना / घटाना / गुणा करना आदि की जा सकती है। 13 को 1 और 3 में तोड़ने और फिर 1 और 3 पर गणितीय संक्रियाएँ करने की अनुमति नहीं है।)

Ans
✗ 1. 88 – 23 - 245
✓ 2. 22 – 13 - 85
✗ 3. 18 – 12 - 72
✗ 4. 56 – 31- 205

Question ID : **630680297318**
Option 1 ID : **6306801156742**
Option 2 ID : **6306801156740**
Option 3 ID : **6306801156739**
Option 4 ID : **6306801156741**
Status : **Not Answered**
Chosen Option : **--**

Q.13 उस त्रिक का चयन कीजिए, जिसमें संख्याएँ उसी प्रकार संबंधित हैं, जिस प्रकार निम्नलिखित त्रिकों की संख्याएँ संबंधित हैं।
(नोट: संख्याओं को उनके घटक अंकों में विभक्त किए बिना, पूर्ण संख्याओं पर संक्रिया किया जाना चाहिए। उदाहरण के लिए 13 :- 13 पर संक्रिया जैसे 13 में जोड़/घटाव/गुणा आदि किया जा सकता है। 13 को 1 और 3 में विभक्त कर और फिर 1 और 3 पर गणितीय संक्रियाएँ करने की अनुमति नहीं है)।
(11, 1, 10)
(13, 7, 90)

Ans
✗ 1. (1, 2, 15)
✓ 2. (4, 5, 19)
✗ 3. (3, 6, 23)
✗ 4. (2, 6, 28)

Question ID : **630680166391**
Option 1 ID : **630680644518**
Option 2 ID : **630680644516**
Option 3 ID : **630680644517**
Option 4 ID : **630680644519**
Status : **Answered**
Chosen Option : **2**

Q.14 अँग्रेजी वर्णमाला-क्रम के आधार पर 'MPQO' एक निश्चित तरीके से 'KNSQ" से संबंधित है। उसी तरह 'DGHF' का संबंध 'BEJH' से है। उसी तर्क के अनुसार 'EINW' का संबंध निम्नलिखित में से किससे है?

Ans
✗ 1. CHQY
✗ 2. BHQX
✓ 3. CGPY
✗ 4. BGPX

Question ID : **630680416364**
Option 1 ID : **6306801624221**
Option 2 ID : **6306801624219**
Option 3 ID : **6306801624222**
Option 4 ID : **6306801624220**
Status : **Answered**
Chosen Option : **3**

Q.15 उस त्रिक का चयन करें जिसमें दी गई संख्याएं एक - दूसरे से उसी प्रकार संबंधित हैं, जिस प्रकार निम्नलिखित त्रिकों की संख्याएं एक - दूसरे से संबंधित हैं।
4-5-41
2-3-13
नोट: संख्याओं को उनके घटक अंकों में विभक्त किए बिना पूर्ण संख्याओं पर संक्रियाएं की जानी चाहिए। उदाहरण के लिए 13 को लें- 13 पर संक्रियाएं, जैसे कि जोड़ना/घटाना/गुणा आदि 13 में की जा सकती हैं। 13 को 1 और 3 में विभक्त करना और फिर 1 और 3 पर गणितीय संक्रियाएं करने की अनुमति नहीं है।

Ans
✗ 1. 12-13-213
✗ 2. 10-11-211
✗ 3. 7-8-110
✓ 4. 5-6-61

Question ID : **630680132368**
Option 1 ID : **630680512636**
Option 2 ID : **630680512637**
Option 3 ID : **630680512635**
Option 4 ID : **630680512634**
Status : **Answered**
Chosen Option : **4**

Q.16 नीचे दी गई आकृतियों में कागज के एक टुकड़े को मोड़ने का क्रम और मुड़े हुए कागज को काटने का तरीका दर्शाया गया है। कागज खुलने पर यह कैसा दिखेगा?

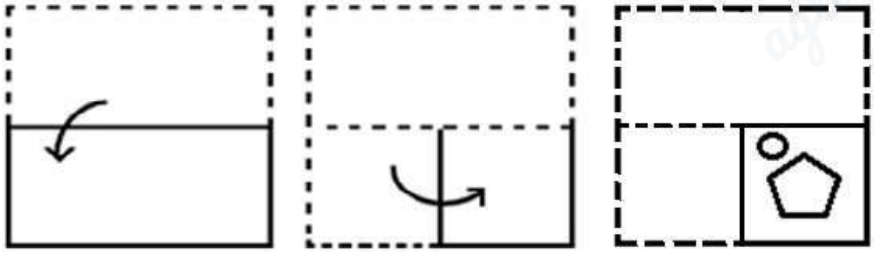

Ans

✔ 1.

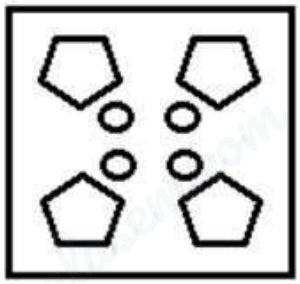

✘ 2.

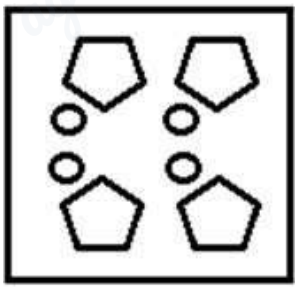

✘ 3.

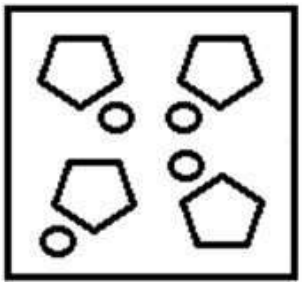

✘ 4.

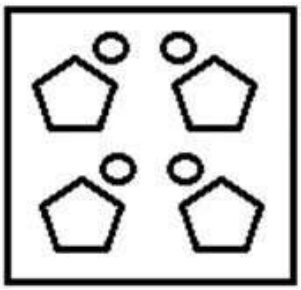

Question ID : **630680105029**
Option 1 ID : **630680408228**
Option 2 ID : **630680408227**
Option 3 ID : **630680408229**
Option 4 ID : **630680408230**
Status : **Answered**
Chosen Option : **1**

Q.17 इस प्रश्न में तीन कथन दिए गए हैं, जिसके बाद दो निष्कर्ष I. और II. दिए गए हैं। कथनों को सत्य मानते हुए, भले ही वे सामान्य रूप से ज्ञात तथ्यों से भिन्न प्रतीत होते हों, यह निर्णय लीजिए कि कौन-सा/से निष्कर्ष कथनों का तार्किक रूप से अनुसरण करता है/ करते हैं।

कथन:
कुछ शर्ट, पैंट हैं।
सभी पैंट, जैकेट हैं।
सभी जैकेट, ट्राउजर हैं।

निष्कर्ष:
I. कुछ ट्राउजर, शर्ट हैं।
II. सभी जैकेट, शर्ट हैं।

Ans
✗ 1. निष्कर्ष I. और II. दोनों अनुसरण करते हैं।

✗ 2. केवल निष्कर्ष II. अनुसरण करता है।

✓ 3. केवल निष्कर्ष I. अनुसरण करता है।

✗ 4. न तो निष्कर्ष I. और न ही II. अनुसरण करता है।

Question ID : **630680416136**
Option 1 ID : **6306801623309**
Option 2 ID : **6306801623308**
Option 3 ID : **6306801623307**
Option 4 ID : **6306801623310**
Status : **Answered**
Chosen Option : **3**

Q.18 दिए गए विकल्पों में से उस आकृति की पहचान कीजिए जिसे प्रश्न चिह्न (?) के स्थान पर रखने पर शृंखला तार्किक रूप से पूरी हो जाएगी।

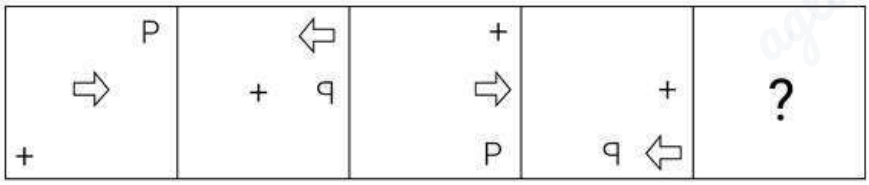

Ans

✔ 1. 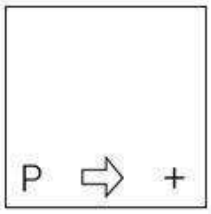

✘ 2. 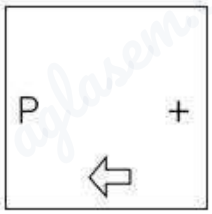

✘ 3. 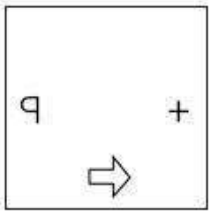

✘ 4. 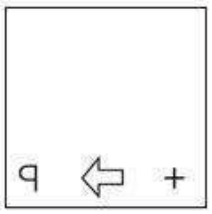

Question ID : **630680296880**
Option 1 ID : **6306801155164**
Option 2 ID : **6306801155165**
Option 3 ID : **6306801155166**
Option 4 ID : **6306801155163**
Status : **Answered**
Chosen Option : **1**

Q.19 यदि शब्द 'DRAFTING' के प्रत्येक अक्षर को अँग्रेजी वर्णमाला क्रम में व्यवस्थित किया जाए, तो कितने अक्षरों का स्थान अपरिवर्तित रहेगा?

Ans
✔ 1. कोई नहीं
✘ 2. एक
✘ 3. तीन
✘ 4. दो

Question ID : **630680327759**
Option 1 ID : **6306801275025**
Option 2 ID : **6306801275026**
Option 3 ID : **6306801275028**
Option 4 ID : **6306801275027**
Status : **Answered**
Chosen Option : **1**

Q.20 निम्नलिखित में से कौन-सा पद दी गई श्रृंखला में प्रश्न चिह्न (?) को प्रतिस्थापित करेगा?
HDLB, LBPZ, PZTX, ? , XVBT

Ans
1. TWXC
2. TXXV
3. TWWV
4. TVWC

Question ID : **630680416985**
Option 1 ID : **6306801626706**
Option 2 ID : **6306801626704**
Option 3 ID : **6306801626705**
Option 4 ID : **6306801626703**
Status : **Answered**
Chosen Option : **2**

Q.21 निम्नलिखित श्रृंखला को जारी रखने के लिए प्रश्न चिह्न (?) के स्थान पर कौन-सी आकृति आनी चाहिए?

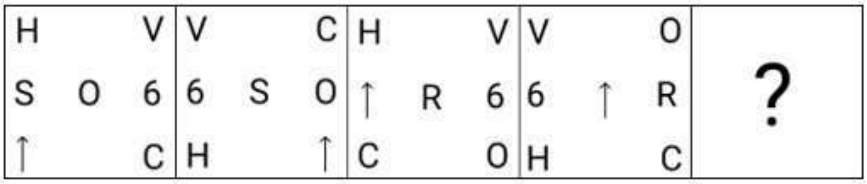

Ans

1.


2.


3.

4.
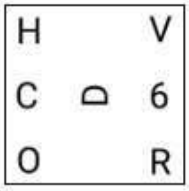

Question ID : **630680214425**
Option 1 ID : **630680831734**
Option 2 ID : **630680831733**
Option 3 ID : **630680831731**
Option 4 ID : **630680831732**
Status : **Answered**
Chosen Option : **4**

Q.22 जब दर्पण को नीचे दर्शाए गए अनुसार MN पर रखा जाता है तो दी गई आकृति के सही दर्पण प्रतिबिंब का चयन कीजिए।

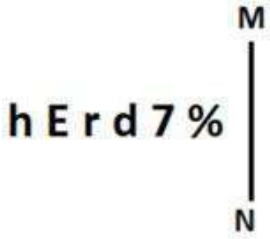

Ans
✔ 1. 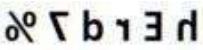
✗ 2. 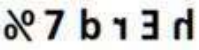
✗ 3. 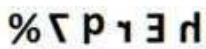
✗ 4. 

Question ID : **630680356664**
Option 1 ID : **6306801388657**
Option 2 ID : **6306801388659**
Option 3 ID : **6306801388660**
Option 4 ID : **6306801388658**
Status : **Answered**
Chosen Option : **1**

Q.23 यदि '+' और '–' को आपस में बदल दिया जाए और '×' और '÷' को आपस में बदल दिया जाए, तो निम्नलिखित समीकरण में प्रश्न चिह्न (?) के स्थान पर क्या आएगा?
69 + 2485 × 5 – 912 ÷ 2 = ?

Ans
✗ 1. 1936
✗ 2. 1639
✗ 3. 1963
✔ 4. 1396

Question ID : **630680411724**
Option 1 ID : **6306801605734**
Option 2 ID : **6306801605731**
Option 3 ID : **6306801605732**
Option 4 ID : **6306801605733**
Status : **Answered**
Chosen Option : **4**

Q.24 एक निश्चित कूट भाषा में, 'CYCLE' को '242241522' के रूप में कूटबद्ध किया जाता है और 'FINAL' को '2118132615' के रूप में कूटबद्ध किया जाता है। उसी भाषा में 'MUSIC' को किस प्रकार कूटबद्ध किया जाएगा?

Ans
✗ 1. 1421191824
✔ 2. 14681824
✗ 3. 146191824
✗ 4. 146192184

Question ID : **630680285530**
Option 1 ID : **6306801110089**
Option 2 ID : **6306801110090**
Option 3 ID : **6306801110087**
Option 4 ID : **6306801110088**
Status : **Answered**
Chosen Option : **2**

Q.25 उस विकल्प का चयन कीजिए जिसमें संख्याओं के मध्य वही संबंध है जो नीचे दिए गए युग्म की संख्याओं के मध्य है।
(ध्यान दें: संख्याओं को उनके घटक अंकों में विभाजित किए बिना, पूर्ण संख्याओं पर संक्रियाएं की जानी चाहिए। उदाहरण के लिए 13 को लें- 13 पर की जाने वाली संक्रियाएं जैसे जोड़ना/ घटाना/ गुणा करना आदि केवल 13 पर की जा सकती हैं। 13 को 1 और 3 में तोड़ना और फिर 1 और 3 पर गणितीय संक्रियाएं करने की अनुमति नहीं है।)

11 : 62
13 : 64

Ans
✗ 1. 12 : 92
✗ 2. 14 : 37
✓ 3. 16 : 67
✗ 4. 9 : 59

Question ID : **630680326560**
Option 1 ID : **6306801270326**
Option 2 ID : **6306801270325**
Option 3 ID : **6306801270327**
Option 4 ID : **6306801270328**
Status : **Not Answered**
Chosen Option : **--**

Section : **General Awareness**

Q.1 दूरसंचार विभाग द्वारा मोबाइल टावरों और ईएमएफ (EMF) उत्सर्जन अनुपालन पर जानकारी साझा करने के लिए कौन-सा वेब पोर्टल लॉन्च किया गया है?

Ans
✗ 1. पीएम-दक्ष (PM-Daksh)
✗ 2. ई-अमृत (E-Amrit)
✓ 3. तरंग संचार (Tarang Sanchar)
✗ 4. नमस्ते (Namaste)

Question ID : **630680282834**
Option 1 ID : **6306801099470**
Option 2 ID : **6306801099469**
Option 3 ID : **6306801099467**
Option 4 ID : **6306801099468**
Status : **Not Answered**
Chosen Option : **--**

Q.2 निम्नलिखित में से कौन-सा चित्रण क्लोरोप्लास्ट से संबंधित है?

a

b

c

d 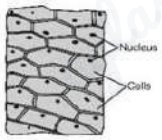

Nucleus - नाभिक

Cells - कोशिकाएं

Ans
✗ 1. b
✗ 2. d
✗ 3. a
✓ 4. c

Question ID : **630680305625**
Option 1 ID : **6306801188874**
Option 2 ID : **6306801188876**
Option 3 ID : **6306801188873**
Option 4 ID : **6306801188875**
Status : **Answered**
Chosen Option : **2**

Q.3 मात्रात्मक और पौष्टिक दोनों रूप से दूध का सबसे महत्वपूर्ण प्रोटीन घटक कौन-सा है, जो गोजातीय दूध में कुल प्रोटीन का लगभग 80% हिस्सा होता है?

Ans
✓ 1. कैसीन
✗ 2. पेप्सिन
✗ 3. एल्बुमिन
✗ 4. एक्टिन

Question ID : **630680407428**
Option 1 ID : **6306801588653**
Option 2 ID : **6306801588651**
Option 3 ID : **6306801588650**
Option 4 ID : **6306801588652**
Status : **Answered**
Chosen Option : **1**

Q.4 न्यूलैंड्स के अष्टक में लीथियम और _____ के गुण समान पाए गए।

Ans
✗ 1. बेरीलियम
✗ 2. मैग्नीशियम
✓ 3. सोडियम
✗ 4. एलुमिनियम

Question ID : **63068094250**
Option 1 ID : **630680365697**
Option 2 ID : **630680365696**
Option 3 ID : **630680365698**
Option 4 ID : **630680365695**
Status : **Answered**
Chosen Option : **1**

Q.5 1539 में, चौसा की लड़ाई हुमायूँ और _____ के बीच लड़ी गई थी।

Ans
✗ 1. सिकंदर सूरी
✓ 2. शेरशाह सूरी
✗ 3. इब्राहिम लोदी
✗ 4. राणा सांगा

Question ID : **630680412278**
Option 1 ID : **6306801607938**
Option 2 ID : **6306801607936**
Option 3 ID : **6306801607937**
Option 4 ID : **6306801607935**
Status : **Answered**
Chosen Option : **2**

Q.6 निम्नलिखित में से कौन 1947 में संगीत अकादमी (Music Academy) द्वारा संगीत कलानिधि पुरस्कार प्राप्त करने वाला सबसे कम उम्र का व्यक्ति था?

Ans
✗ 1. भीमसेन जोशी
✗ 2. अरियाकुडी रामानुज अयंगर
✓ 3. सेम्मनगुडी राधाकृष्ण श्रीनिवास अय्यर
✗ 4. मल्लिकार्जुन भीमरयप्पा मंसूर

Question ID : **630680560764**
Option 1 ID : **6306802192039**
Option 2 ID : **6306802192037**
Option 3 ID : **6306802192036**
Option 4 ID : **6306802192038**
Status : **Not Answered**
Chosen Option : **--**

Q.7 वायुमंडल की निचली परतों में धुएं या धूल के कणों पर जल की बूंदों के सघन द्रव्यमान को क्या कहा जाता है?

Ans
✗ 1. पाला
✗ 2. बर्फानी तूफान
✓ 3. धूम कोहरा
✗ 4. कुहासा

Question ID : **630680303272**
Option 1 ID : **6306801179743**
Option 2 ID : **6306801179742**
Option 3 ID : **6306801179744**
Option 4 ID : **6306801179745**
Status : **Answered**
Chosen Option : **4**

Q.8 निम्नलिखित में से कौन आमतौर पर मौर्यों के अधीन प्रांतीय प्रशासन का नेतृत्व करता था?

Ans
✗ 1. प्रशस्ति
✓ 2. कुमार
✗ 3. दंडपाल
✗ 4. समाहर्ता

Question ID : **630680412436**
Option 1 ID : **6306801608567**
Option 2 ID : **6306801608569**
Option 3 ID : **6306801608568**
Option 4 ID : **6306801608570**
Status : **Not Answered**
Chosen Option : **--**

Q.9 सरधना ईसाई मेला निम्नलिखित में से किस राज्य में आयोजित किया जाता है?

Ans
✗ 1. हरियाणा
✗ 2. मध्य प्रदेश
✗ 3. पश्चिम बंगाल
✓ 4. उत्तर प्रदेश

Question ID : **630680164577**
Option 1 ID : **630680637424**
Option 2 ID : **630680637426**
Option 3 ID : **630680637427**
Option 4 ID : **630680637425**
Status : **Not Answered**
Chosen Option : **--**

Q.10 वॉरेन हेस्टिंग्स के अधीन पारित निम्नलिखित में से किस अधिनियम को 'हाफ-लोफ सिस्टम' भी कहा जाता था?

Ans
✗ 1. भारत सरकार अधिनियम 1858
✗ 2. चार्टर अधिनियम 1813
✗ 3. विनियमन (रेग्युलेटिंग) अधिनियम 1773
✓ 4. पिट्स इंडिया अधिनियम 1784

Question ID : **630680511509**
Option 1 ID : **6306801999161**
Option 2 ID : **6306801999160**
Option 3 ID : **6306801999158**
Option 4 ID : **6306801999159**
Status : **Answered**
Chosen Option : **3**

Q.11 निम्नलिखित में से कौन-सा विश्व का सबसे बड़ा आबाद नदी द्वीप है?

Ans
✗ 1. लक्षद्वीप
✓ 2. माजुली
✗ 3. पिकॉक
✗ 4. भवानी

Question ID : **630680309099**
Option 1 ID : **6306801202573**
Option 2 ID : **6306801202574**
Option 3 ID : **6306801202575**
Option 4 ID : **6306801202576**
Status : **Not Answered**
Chosen Option : **--**

Q.12 भक्ति प्रदीप कुलकर्णी का संबंध _____ से है।

Ans
✗ 1. कबड्डी
✗ 2. क्रिकेट
✓ 3. शतरंज
✗ 4. बैडमिंटन

Question ID : **630680309517**
Option 1 ID : **6306801204224**
Option 2 ID : **6306801204222**
Option 3 ID : **6306801204221**
Option 4 ID : **6306801204223**
Status : **Not Answered**
Chosen Option : **--**

Q.13 भारत में द्वितीय हरित क्रांति का प्रमुख उद्देश्य क्या था?

Ans
✗ 1. पारंपरिक कृषि पद्धतियों को बढ़ावा देना
✗ 2. रासायनिक उर्वरकों एवं कीटनाशकों का उपयोग बढ़ाना
✓ 3. कृषि में समग्र विकास पर ध्यान केंद्रित करना
✗ 4. पश्चिमी राज्यों में खाद्य सुरक्षा सुनिश्चित करना

Question ID : **6306801048048**
Option 1 ID : **6306804114241**
Option 2 ID : **6306804114238**
Option 3 ID : **6306804114240**
Option 4 ID : **6306804114239**
Status : **Answered**
Chosen Option : **1**

Q.14 निम्नलिखित में से किस राज्य सरकार ने सार्वजनिक रूप से पेड़ लगाने को बढ़ावा देने के लिए मई 2021 में 'अंकुर' योजना शुरू की है, जिसमें लोगों को पौधे लगाने और उनकी देखभाल करने के लिए पुरस्कृत किया जाएगा?

Ans
✗ 1. पश्चिम बंगाल
✗ 2. उत्तराखंड
✓ 3. मध्य प्रदेश
✗ 4. बिहार

Question ID : **630680394944**
Option 1 ID : **6306801540044**
Option 2 ID : **6306801540045**
Option 3 ID : **6306801540046**
Option 4 ID : **6306801540047**
Status : **Not Answered**
Chosen Option : **--**

Q.15 केरल का एलेलाक्कराडी नृत्य (Elelakkaradi dance) निम्नलिखित में से किस जनजाति द्वारा किया जाता है?

Ans
✗ 1. आदियान जनजाति
✗ 2. कुरुम्बा जनजाति
✗ 3. माविलन जनजाति
✓ 4. इरुलर जनजाति

Question ID : **630680402077**
Option 1 ID : **6306801568011**
Option 2 ID : **6306801568008**
Option 3 ID : **6306801568010**
Option 4 ID : **6306801568009**
Status : **Not Answered**
Chosen Option : **--**

Q.16 निम्नलिखित में से किन वर्षों में भारत ने एशियाई खेलों की मेजबानी की?

Ans
✔ 1. 1951 और 1982
✘ 2. 1954 और 1986
✘ 3. 1954 और 1982
✘ 4. 1951 और 1986

Question ID : **630680510792**
Option 1 ID : **6306801996298**
Option 2 ID : **6306801996301**
Option 3 ID : **6306801996299**
Option 4 ID : **6306801996300**
Status : **Answered**
Chosen Option : **1**

Q.17 भारतीय संविधान के किस अनुच्छेद में उल्लेख है कि राज्य ग्रामीण क्षेत्रों में व्यक्तिगत या सहकारी आधार पर कुटीर उद्योगों को बढ़ावा देने का प्रयास करेगा?

Ans
✘ 1. अनुच्छेद 49
✘ 2. अनुच्छेद 44
✘ 3. अनुच्छेद 42
✔ 4. अनुच्छेद 43

Question ID : **630680408253**
Option 1 ID : **6306801591910**
Option 2 ID : **6306801591909**
Option 3 ID : **6306801591907**
Option 4 ID : **6306801591908**
Status : **Answered**
Chosen Option : **1**

Q.18 निम्नलिखित सूची I के खिलाड़ियों का सूची II के पुरस्कारों के साथ मिलान कीजिए।

	सूची I- खिलाड़ी		सूची II-पुरस्कार
A	देवेंद्र झाझरिया	i	पद्म श्री 2022
B	सुमित अंतिल	ii	पद्म भूषण 2022
C	नीरज चोपड़ा	iii	अर्जुन पुरस्कार 2021
D	शिखर धवन	iv	मेजर ध्यानचंद खेल रत्न पुरस्कार 2021

Ans
✘ 1. A-i, B-iii, C-ii, D-iv
✘ 2. A-iv, B-i, C-iii, D-ii
✔ 3. A-ii, B-i, C-iv, D- iii
✘ 4. A-iii, B-iv, C-i, D-ii

Question ID : **630680166705**
Option 1 ID : **630680645732**
Option 2 ID : **630680645733**
Option 3 ID : **630680645734**
Option 4 ID : **630680645735**
Status : **Not Answered**
Chosen Option : **--**

Q.19 अली अकबर खान, निम्नलिखित में से किस घराने से जुड़े थे?

Ans

✗ 1. किराना घराना

✗ 2. आगरा घराना

✓ 3. मैहर घराना

✗ 4. ग्वालियर घराना

Question ID : **630680413017**
Option 1 ID : **6306801610893**
Option 2 ID : **6306801610891**
Option 3 ID : **6306801610894**
Option 4 ID : **6306801610892**
Status : **Answered**
Chosen Option : **2**

Q.20 निम्नलिखित में से किस आंदोलन ने भारत में बड़े और छोटे किसानों के बीच क्षेत्रीय असमानताएँ पैदा कीं?

Ans

✗ 1. गुलाबी क्रांति

✗ 2. नीली क्रांति

✓ 3. हरित क्रांति

✗ 4. पीली क्रांति

Question ID : **630680134788**
Option 1 ID : **630680521970**
Option 2 ID : **630680521973**
Option 3 ID : **630680521972**
Option 4 ID : **630680521971**
Status : **Not Answered**
Chosen Option : **--**

Q.21 निम्नलिखित में से कौन-सा फिशर का विनिमय समीकरण है?

Ans

✓ 1. $MV = PT$

✗ 2. $\frac{M}{V} = \frac{T}{P}$

✗ 3. $M = S + I$

✗ 4. $MT = VP$

Question ID : **630680196517**
Option 1 ID : **630680762372**
Option 2 ID : **630680762373**
Option 3 ID : **630680762374**
Option 4 ID : **630680762371**
Status : **Not Answered**
Chosen Option : **--**

Q.22 दाहिने हाथ के अँगूठे के नियम में, अंगूठे को निम्नलिखित में से किसकी दिशा की ओर निर्देशित किया जाता है?

Ans
✗ 1. चुंबकीय क्षेत्र
✓ 2. विद्युत धारा
✗ 3. विद्युत क्षेत्र
✗ 4. चालक की गति

Question ID : **630680517176**
Option 1 ID : **6306802021101**
Option 2 ID : **6306802021100**
Option 3 ID : **6306802021102**
Option 4 ID : **6306802021103**
Status : **Answered**
Chosen Option : **3**

Q.23 युद्ध या बाहरी आक्रमण के आधार पर घोषित आपातकाल के दौरान भी भारतीय संविधान के निम्नलिखित में से कौन-से अनुच्छेद को निलंबित नहीं किया जा सकता है?

Ans
✗ 1. अनुच्छेद 15 और 17
✗ 2. अनुच्छेद 14 और 16
✓ 3. अनुच्छेद 20 और 21
✗ 4. अनुच्छेद 30 और 32

Question ID : **630680413059**
Option 1 ID : **6306801611060**
Option 2 ID : **6306801611059**
Option 3 ID : **6306801611061**
Option 4 ID : **6306801611062**
Status : **Answered**
Chosen Option : **3**

Q.24 निम्नलिखित में से कौन-सा भारतीय संविधान का सबसे विवादास्पद अनुच्छेद है, जो किसी भी राज्य में राष्ट्रपति शासन का प्रावधान करता है?

Ans
✗ 1. अनुच्छेद 352
✓ 2. अनुच्छेद 356
✗ 3. अनुच्छेद 358
✗ 4. अनुच्छेद 360

Question ID : **630680408186**
Option 1 ID : **6306801591639**
Option 2 ID : **6306801591640**
Option 3 ID : **6306801591641**
Option 4 ID : **6306801591642**
Status : **Answered**
Chosen Option : **4**

Q.25 बक्सर का युद्ध निम्नलिखित में से किस वर्ष में लड़ा गया था?

Ans
✗ 1. 1757
✓ 2. 1764
✗ 3. 1793
✗ 4. 1777

Question ID : **630680412325**
Option 1 ID : **6306801608123**
Option 2 ID : **6306801608124**
Option 3 ID : **6306801608125**
Option 4 ID : **6306801608126**
Status : **Answered**
Chosen Option : **2**

Section : **Quantitative Aptitude**

Q.1 दिया गया पाई चार्ट किसी विशेष वर्ष के दौरान विभिन्न खेलों पर देश के व्ययों (₹ लाख में) को दर्शाता है। पाई चार्ट का ध्यानपूर्वक अध्ययन कीजिए और निम्नलिखित प्रश्न का उत्तर दीजिए।

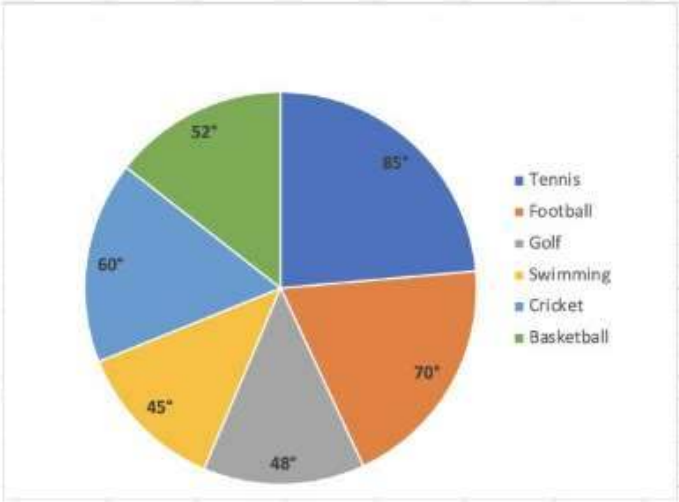

Tennis : टेनिस, Football : फुटबॉल, Golf : गोल्फ, Swimming: तैराकी, Cricket: क्रिकेट, Basketball:बास्केटबॉल

यदि क्रिकेट पर व्यय ₹ 72 लाख है तो टेनिस, गोल्फ, स्वीमिंग, और बास्केटबॉल पर औसत व्यय (₹ लाख में) कितना है?

Ans
✗ 1. 120
✗ 2. 138
✗ 3. 44
✓ 4. 69

Question ID : **630680397385**
Option 1 ID : **6306801549583**
Option 2 ID : **6306801549582**
Option 3 ID : **6306801549585**
Option 4 ID : **6306801549584**
Status : **Not Answered**
Chosen Option : **--**

Q.2 एक चतुर्भुज (kite) ABCD में, लंबा विकर्ण BD खींचा गया है। यदि ∠ABD = 54°और ∠ADB = 50°; है, तो ∠DCB की माप (डिग्री में) क्या है?

Ans
✗ 1. 100
✗ 2. 54
✓ 3. 76
✗ 4. 108

Question ID : **630680526543**
Option 1 ID : **6306802058241**
Option 2 ID : **6306802058238**
Option 3 ID : **6306802058240**
Option 4 ID : **6306802058239**
Status : **Answered**
Chosen Option : **3**

Q.3 प्रणव ने 20% वार्षिक साधारण ब्याज की दर से ₹5,98,397 की राशि उधार ली। प्रथम वर्ष की समाप्ति पर, वह उधार ली गई मूल राशि की वापसी के लिए ₹24,284 चुकाता है। यदि प्रणव दूसरे वर्ष की समाप्ति पर सभी लंबित बकाया राशि का भुगतान करता है, जिसमें प्रथम वर्ष के दौरान अर्जित ब्याज भुगतान भी शामिल है, तो वह दूसरे वर्ष की समाप्ति पर कितना भुगतान (₹ में) करेगा?

Ans
✗ 1. 8,18,513
✗ 2. 8,12,514
✗ 3. 8,17,567
✓ 4. 8,08,615

Question ID : **630680809871**
Option 1 ID : **6306803173065**
Option 2 ID : **6306803173066**
Option 3 ID : **6306803173064**
Option 4 ID : **6306803173063**
Status : **Not Answered**
Chosen Option : **--**

Q.4 30 छात्रों वाली एक कक्षा के सभी छात्रों ने एक टेस्ट दिया। 12 छात्रों का औसत स्कोर 62 है और बाकी छात्रों का औसत स्कोर 68 है। कक्षा का औसत स्कोर ज्ञात करें।

Ans
✓ 1. 65.6
✗ 2. 63.6
✗ 3. 64.6
✗ 4. 66.6

Question ID : **630680566259**
Option 1 ID : **6306802214024**
Option 2 ID : **6306802214027**
Option 3 ID : **6306802214025**
Option 4 ID : **6306802214026**
Status : **Answered**
Chosen Option : **1**

Q.5 दी गई तालिका अलग-अलग वर्षों में तीन कंपनियों A, B और C के व्यय (करोड़ ₹ में) और प्रतिशत लाभ को दर्शाती है। दिया है:

$$\text{आय} = \text{व्यय} + \text{व्यय} \times \frac{\text{लाभ}\,\%}{100}$$

वर्ष	कंपनी A		कंपनी B		कंपनी C	
	व्यय	लाभ	व्यय	लाभ	व्यय	लाभ
2002	24	50%	20	40%	40	45%
2003	30	45%	15	25%	50	55%
2004	36	40%	25	35%	60	65%
2005	40	60%	35	48%	80	75%

वर्ष 2003 में कंपनी C की आय (करोड़ ₹ में) कितनी है?

Ans
✔ 1. 77.5
✘ 2. 105
✘ 3. 75.7
✘ 4. 69.8

Question ID : **630680523701**
Option 1 ID : **6306802046957**
Option 2 ID : **6306802046956**
Option 3 ID : **6306802046955**
Option 4 ID : **6306802046958**
Status : **Answered**
Chosen Option : **1**

Q.6 ΔPQR में, यदि PT माध्यिका है, तो निम्नलिखित में से कौन सा विकल्प सही है?

Ans
✔ 1. $PQ^2 + PR^2 = 2(PT^2 + QT^2)$
✘ 2. $PQ^2 + PR^2 = 2(PT^2 - QT^2)$
✘ 3. $PQ^2 + PR^2 = PT^2 + QR^2$
✘ 4. $PQ^2 + PR^2 = PT^2 + QT^2$

Question ID : **630680198952**
Option 1 ID : **630680771538**
Option 2 ID : **630680771537**
Option 3 ID : **630680771536**
Option 4 ID : **630680771535**
Status : **Not Answered**
Chosen Option : **--**

Q.7 एक कॉलेज में लड़कों और लड़कियों का अनुपात 5 : 6 है। यदि 40 लड़के कॉलेज छोड़ देते हैं और 50 लड़कियां कॉलेज में शामिल हो जाती हैं, तो अनुपात 8 : 11 हो जाता है। कॉलेज में लड़कियों की संख्या ज्ञात कीजिए।

Ans
✗ 1. 740
✓ 2. 720
✗ 3. 860
✗ 4. 640

Question ID : **630680428772**
Option 1 ID : **6306801673134**
Option 2 ID : **6306801673133**
Option 3 ID : **6306801673135**
Option 4 ID : **6306801673132**
Status : **Answered**
Chosen Option : **2**

Q.8 यदि A एक न्यून कोण है, तो $\sqrt{\frac{1-\cos A}{1+\cos A}}+\sqrt{\frac{1+\cos A}{1-\cos A}}$ का मान ज्ञात कीजिए।

Ans
✗ 1. $2\ \cos A$
✓ 2. $2\ \operatorname{cosec} A$
✗ 3. $2\ \sin A$
✗ 4. $2\ \sec A$

Question ID : **630680398084**
Option 1 ID : **6306801552348**
Option 2 ID : **6306801552347**
Option 3 ID : **6306801552346**
Option 4 ID : **6306801552349**
Status : **Answered**
Chosen Option : **2**

Q.9 यदि $\tan\theta+\cot\theta=2$, और θ कोई न्यून कोण हो, तो θ का मान ज्ञात कीजिए।

Ans
✗ 1. 30°
✗ 2. 15°
✗ 3. 60°
✓ 4. 45°

Question ID : **630680526472**
Option 1 ID : **6306802057955**
Option 2 ID : **6306802057957**
Option 3 ID : **6306802057954**
Option 4 ID : **6306802057956**
Status : **Answered**
Chosen Option : **4**

Q.10 किसी बिंदु A से 7 इकाई त्रिज्या वाले वृत्त पर एक स्पर्श रेखा खींची जाती है। उसी बिंदु से वृत्त पर एक छेदक रेखा खींची जाती है जो वृत्त को B और C पर काटती है और बिंदु B, C की तुलना में A के निकट है। यदि बिंदु A से वृत्त की स्पर्श रेखा की लंबाई 21 इकाई है और AB की लंबाई 14 इकाई है, तो इकाई में BC की लंबाई कितनी है?

Ans
✗ 1. 16.5
✗ 2. 15.5
✓ 3. 17.5
✗ 4. 18.5

Question ID : **630680297305**
Option 1 ID : **6306801156687**
Option 2 ID : **6306801156689**
Option 3 ID : **6306801156690**
Option 4 ID : **6306801156688**
Status : **Not Answered**
Chosen Option : **--**

Q.11 निम्नलिखित में से कौन सी संख्या 8 से विभाज्य नहीं है?

Ans
✗ 1. 5544
✓ 2. 7497
✗ 3. 7344
✗ 4. 4608

Question ID : **630680135994**
Option 1 ID : **630680526684**
Option 2 ID : **630680526682**
Option 3 ID : **630680526685**
Option 4 ID : **630680526683**
Status : **Answered**
Chosen Option : **2**

Q.12 यदि $\tan\theta = \frac{5}{8}$ है, तो $\frac{(1+\cos\theta)(1-\cos\theta)}{(1+\sin\theta)(1-\sin\theta)}$ का मान ज्ञात कीजिए।

Ans
✗ 1. $\frac{64}{25}$
✓ 2. $\frac{25}{64}$
✗ 3. $\frac{2}{25}$
✗ 4. $\frac{5}{64}$

Question ID : **630680198958**
Option 1 ID : **630680771559**
Option 2 ID : **630680771562**
Option 3 ID : **630680771560**
Option 4 ID : **630680771561**
Status : **Answered**
Chosen Option : **2**

Q.13 तीन उम्मीदवारों X, Y और Z ने एक चुनाव में भाग लिया। X को Y से 30% अधिक वोट मिले, जबकि Z को Y से 25% अधिक वोट मिले। X ने Z को भी 5000 वोटों से पीछे छोड़ दिया। यदि 71% मतदाताओं ने मतदान किया और कोई अवैध वोट नहीं डाला गया, तो मतदान सूची में मतदाताओं की कुल संख्या क्या थी?

Ans
✗ 1. 4,05,000
✗ 2. 4,50,000
✓ 3. 5,00,000
✗ 4. 3,55,000

Question ID : **630680428042**
Option 1 ID : **6306801670213**
Option 2 ID : **6306801670214**
Option 3 ID : **6306801670215**
Option 4 ID : **6306801670212**
Status : **Answered**
Chosen Option : **4**

Q.14 दी गई तालिका का अध्ययन कीजिए और निम्नलिखित प्रश्न का उत्तर दीजिए।

दी गई तालिका दो राज्यों X और Z से एक लोक सेवा परीक्षा में उपस्थित होने वाले उम्मीदवारों (पुरुष और महिला दोनों) की संख्या तथा परीक्षा में उत्तीर्ण होने वाले उम्मीदवारों का प्रतिशत दर्शाती है। तालिका में कुछ मान लुप्त हैं (------ द्वारा दर्शाया गया है)। आपको प्रश्न के अनुसार इन्हें पूर्ण करना होगा।

वर्ष	राज्य X		राज्य Z	
	उपस्थित उम्मीदवारों की संख्या	उत्तीर्ण उम्मीदवारों का प्रतिशत	उपस्थित उम्मीदवारों की संख्या	उत्तीर्ण उम्मीदवारों का प्रतिशत
2008	480	70%	------	70%
2009	560	75%	------	80%
2010	--------	60%	650	50%
2011	450	89%	720	72%
2012	790	------	660	------

वर्ष 2008 से 2009 तक राज्य Z से उपस्थित होने वाले उम्मीदवारों की संख्या में 100% की वृद्धि हुई। यदि 2008 और 2009 में राज्य Z से उत्तीर्ण उम्मीदवारों की कुल संख्या 552 है, तो वर्ष 2009 में राज्य Z से उपस्थित

Ans
✗ 1. 600
✗ 2. 240
✗ 3. 360
✓ 4. 480

Question ID : **630680523744**
Option 1 ID : **6306802047130**
Option 2 ID : **6306802047127**
Option 3 ID : **6306802047129**
Option 4 ID : **6306802047128**
Status : **Not Answered**
Chosen Option : **--**

Q.15 समीकरण $ax + (a^2 + 1)y = 4$ और $4x + ay = a^2$ के लिए, निम्नलिखित में से कौन-सा कथन सत्य है?

Ans
1. यदि $a = -12$ है, तो $x = \frac{325}{28}$, $y = -\frac{25}{28}$ हल हैं।
2. यदि $a = -12$ है, तो $x = 48$, $y = 4$ हल हैं।
3. यदि $a = 6$ है, तो $x = \frac{325}{28}$, $y = -\frac{25}{28}$ हल हैं।
4. यदि $a = 6$ है, तो $x = 48$, $y = 4$ हल हैं।

Question ID : **630680183199**
Option 1 ID : **630680709866**
Option 2 ID : **630680709868**
Option 3 ID : **630680709865**
Option 4 ID : **630680709867**
Status : **Not Answered**
Chosen Option : **--**

Q.16 अनुभा अपने स्कूटर को ₹23358 में बेचकर, विक्रय मूल्य के $\frac{1}{6}$ भाग के बराबर लाभ अर्जित करती है। उसका लाभ प्रतिशत ज्ञात कीजिए।

Ans
1. 35%
2. 25%
3. 30%
4. 20%

Question ID : **630680922759**
Option 1 ID : **6306803615884**
Option 2 ID : **6306803615883**
Option 3 ID : **6306803615885**
Option 4 ID : **6306803615882**
Status : **Answered**
Chosen Option : **4**

Q.17 दो इनलेट पाइप, P1 और P2, एक टंकी को क्रमश: 20 घंटे और 30 घंटे में भर सकते हैं। उन्हें एक ही समय पर खोला गया, लेकिन टंकी के पूरा भरने से 5 घंटे पहले पाइप P1 को बंद करना पड़ा। दोनों पाइपों के द्वारा टंकी को भरने में कुल कितने घंटे लगे?

Ans
1. 12 घंटे
2. 9 घंटे
3. 10 घंटे
4. 15 घंटे

Question ID : **630680458810**
Option 1 ID : **6306801792105**
Option 2 ID : **6306801792106**
Option 3 ID : **6306801792107**
Option 4 ID : **6306801792104**
Status : **Answered**
Chosen Option : **4**

Q.18 $[15 \div 3 \times 7 - 8 \text{ of } 2 + 6]$ का मान ज्ञात करें।

Ans
✗ 1. -29
✗ 2. 39.5
✗ 3. 13
✓ 4. 25

Question ID : **630680397186**
Option 1 ID : **6306801548800**
Option 2 ID : **6306801548803**
Option 3 ID : **6306801548802**
Option 4 ID : **6306801548801**
Status : **Answered**
Chosen Option : **4**

Q.19 दी गई तालिका विभिन्न पदों (A, B, C, D, E और F) के लिए साक्षात्कार में उपस्थित अभ्यर्थियों की संख्या को दर्शाती है।

पद	उपस्थित अभ्यर्थी
A	5500
B	8200
C	8600
D	9900
E	5300
F	5100

C, D, E और F पदों के लिए उपस्थित होने वाले अभ्यर्थियों की औसत संख्या कितनी है?

Ans
✗ 1. 7600
✓ 2. 7225
✗ 3. 7500
✗ 4. 8000

Question ID : **630680428138**
Option 1 ID : **6306801670598**
Option 2 ID : **6306801670596**
Option 3 ID : **6306801670597**
Option 4 ID : **6306801670599**
Status : **Answered**
Chosen Option : **2**

Q.20 एक बंद घन का संपूर्ण पृष्ठीय क्षेत्रफल 1152 cm^2 दिया गया है। घन की प्रत्येक भुजा की लंबाई (cm में) क्या है?

Ans
✗ 1. $8\sqrt{2}$
✓ 2. $8\sqrt{3}$
✗ 3. $4\sqrt{13}$
✗ 4. $9\sqrt{2}$

Question ID : **630680421491**
Option 1 ID : **6306801644427**
Option 2 ID : **6306801644428**
Option 3 ID : **6306801644430**
Option 4 ID : **6306801644429**
Status : **Answered**
Chosen Option : **2**

Q.21 एक आयताकार मैदान की लंबाई और चौड़ाई का योग 9 cm और क्षेत्रफल 18 cm^2 है। यदि लंबाई 'a' है और चौड़ाई 'b' है, तो $(a^2 - ab + b^2)$ का मान ज्ञात कीजिए।

Ans
✗ 1. 24
✗ 2. 18
✓ 3. 27
✗ 4. 36

Question ID : **630680413548**
Option 1 ID : **6306801613017**
Option 2 ID : **6306801613016**
Option 3 ID : **6306801613018**
Option 4 ID : **6306801613019**
Status : **Answered**
Chosen Option : **3**

Q.22 एक कुकर पर ₹12,500 अंकित है। विक्रेता इस पर 6%, 6% और 4% की क्रमिक छूट प्रदान करता है। कुकर का शुद्ध विक्रय मूल्य क्या है?

Ans
✓ 1. ₹10,603.20
✗ 2. ₹10,306
✗ 3. ₹12,320.60
✗ 4. ₹12,230

Question ID : **630680217286**
Option 1 ID : **630680843080**
Option 2 ID : **630680843079**
Option 3 ID : **630680843082**
Option 4 ID : **630680843081**
Status : **Answered**
Chosen Option : **1**

Q.23 $\frac{(25)^4 + 1250 + 1 - (25)^2}{(25)^2 + 25 + 1}$ को सरल कीजिए।

Ans
✗ 1. 602
✗ 2. 603
✗ 3. 604
✓ 4. 601

Question ID : **630680413525**
Option 1 ID : **6306801612925**
Option 2 ID : **6306801612926**
Option 3 ID : **6306801612927**
Option 4 ID : **6306801612924**
Status : **Answered**
Chosen Option : **4**

Q.24 एक पुलिसकर्मी 195 मीटर की दूरी से एक चोर को देखता है। जब पुलिसकर्मी उसका पीछा करना शुरू करता है, तो चोर भी भागने लगता है। यदि चोर की चाल 22 km/h है और पुलिसकर्मी की चाल 27 km/h है, तो पकड़े जाने से पहले चोर कितनी दूरी तक (m में) भाग चुका होगा?

Ans
✗ 1. 951
✗ 2. 958
✗ 3. 825
✓ 4. 858

Question ID : **630680428653**
Option 1 ID : **6306801672658**
Option 2 ID : **6306801672657**
Option 3 ID : **6306801672656**
Option 4 ID : **6306801672659**
Status : **Answered**
Chosen Option : **4**

Q.25 यदि किसी वृत्त के त्रिज्यखंड का क्षेत्रफल 462 cm^2 है और केंद्रीय कोण (central angle) 120° है, तो इसकी त्रिज्या ____ होगी।

Ans
✗ 1. 17 cm
✗ 2. 18 cm
✓ 3. 21 cm
✗ 4. 14 cm

Question ID : **630680405655**
Option 1 ID : **6306801581773**
Option 2 ID : **6306801581772**
Option 3 ID : **6306801581771**
Option 4 ID : **6306801581770**
Status : **Answered**
Chosen Option : **3**

Section : **English Comprehension**

Q.1 Select the option that can be used as a one-word substitute for the given group of words.
An utter state of confusion

Ans
✔ 1. Chaos
✘ 2. Innuendos
✘ 3. Engross
✘ 4. Pathos

Question ID : **630680405390**
Option 1 ID : **6306801580770**
Option 2 ID : **6306801580772**
Option 3 ID : **6306801580773**
Option 4 ID : **6306801580771**
Status : **Not Answered**
Chosen Option : **--**

Q.2 Identify the INCORRECTLY spelt word in the following sentence and select its correct spelling from the given options.
The occurence of this phenomenon is quite rare.

Ans
✔ 1. occurrence
✘ 2. occerence
✘ 3. occurance
✘ 4. occurrance

Question ID : **630680409942**
Option 1 ID : **6306801598599**
Option 2 ID : **6306801598597**
Option 3 ID : **6306801598598**
Option 4 ID : **6306801598600**
Status : **Answered**
Chosen Option : **1**

Q.3 Parts of a sentence are given below in jumbled order. Select the option that arranges the parts in the correct sequence to form a meaningful sentence.
(P) society benefits from diversity
(Q) enriching cultures and
(O) by fostering understanding and empathy
(R) perspectives from around the world

Ans
✘ 1. RPOQ
✘ 2. ROQP
✘ 3. QPRO
✔ 4. POQR

Question ID : **630680380984**
Option 1 ID : **6306801484926**
Option 2 ID : **6306801484924**
Option 3 ID : **6306801484923**
Option 4 ID : **6306801484925**
Status : **Answered**
Chosen Option : **1**

Q.4 **Parts of the following sentence have been given as options. Select the option that contains an error.**
In some countries, you are not able to drink until you are 21.

Ans
✗ 1. In some countries,
✗ 2. you are not
✗ 3. until you are 21.
✓ 4. able to drink

Question ID : **630680296377**
Option 1 ID : **6306801153176**
Option 2 ID : **6306801153177**
Option 3 ID : **6306801153179**
Option 4 ID : **6306801153178**
Status : **Answered**
Chosen Option : **3**

Q.5 **Select the INCORRECTLY spelt word.**

Ans
✗ 1. Occurrence
✓ 2. Beggining
✗ 3. Cemetery
✗ 4. Interrupt

Question ID : **630680380997**
Option 1 ID : **6306801484976**
Option 2 ID : **6306801484977**
Option 3 ID : **6306801484975**
Option 4 ID : **6306801484978**
Status : **Answered**
Chosen Option : **2**

Q.6 **Select the option that can be used as a one-word substitute for the given group of words.**

The study of ancient things such as art, graves, ruins etc.

Ans
✓ 1. Archaeology
✗ 2. Meteorology
✗ 3. Geology
✗ 4. Astrology

Question ID : **630680129473**
Option 1 ID : **630680501510**
Option 2 ID : **630680501512**
Option 3 ID : **630680501513**
Option 4 ID : **630680501511**
Status : **Answered**
Chosen Option : **1**

Q.7 **Select the most appropriate option that can substitute the underlined segment in the given sentence.**

No sooner did Mr. Piyahri Mishra finish his chemistry lecture <u>that the students began to leave</u>.

Ans

✗ 1. so the students began to leave.

✓ 2. than the students began to leave.

✗ 3. then the students began to leave.

✗ 4. and the students began to leave.

Question ID : **630680153520**
Option 1 ID : **630680594010**
Option 2 ID : **630680594011**
Option 3 ID : **630680594008**
Option 4 ID : **630680594009**
Status : **Answered**
Chosen Option : **2**

Q.8 **Select the most appropriate synonym of the given word.**
Miraculous

Ans

✗ 1. Average

✗ 2. Draining

✗ 3. Expected

✓ 4. Incredible

Question ID : **630680158622**
Option 1 ID : **630680613981**
Option 2 ID : **630680613982**
Option 3 ID : **630680613983**
Option 4 ID : **630680613980**
Status : **Not Answered**
Chosen Option : **--**

Q.9 **Select the most appropriate option to substitute the underlined segment in the given sentence.**

After reflecting on the matter regarding his boss's selfish attitude, Raju decided to <u>force himself to perform an unpleasant action in a difficult situation in order to resolve the matter.</u>

Ans

✗ 1. ignore the bullet

✗ 2. shoot the bullet

✗ 3. dodge the bullet

✓ 4. bite the bullet

Question ID : **630680316366**
Option 1 ID : **6306801231091**
Option 2 ID : **6306801231092**
Option 3 ID : **6306801231090**
Option 4 ID : **6306801231089**
Status : **Answered**
Chosen Option : **4**

Q.10 **Select the most appropriate synonym of the given word.**

Magnificent

Ans

✗ 1. Sacred

✓ 2. Splendid

✗ 3. Slow

✗ 4. Scared

Question ID : **630680130679**
Option 1 ID : **630680506012**
Option 2 ID : **630680506011**
Option 3 ID : **630680506013**
Option 4 ID : **630680506010**
Status : **Answered**
Chosen Option : **2**

Q.11 **Select the most appropriate synonym of the given word.**
Beseech

Ans

✗ 1. Bequeath

✗ 2. Pamper

✓ 3. Implore

✗ 4. Impart

Question ID : **630680295955**
Option 1 ID : **6306801151534**
Option 2 ID : **6306801151535**
Option 3 ID : **6306801151533**
Option 4 ID : **6306801151532**
Status : **Answered**
Chosen Option : **3**

Q.12 **Select the term which means the same as the given group of words.**
A continuing unpleasant situation, created when one problem causes another problem that then makes the first problem worse

Ans

✓ 1. Vicious cycle

✗ 2. Enclosed cycle

✗ 3. Repetitive cycle

✗ 4. Round cycle

Question ID : **630680374334**
Option 1 ID : **6306801458527**
Option 2 ID : **6306801458529**
Option 3 ID : **6306801458530**
Option 4 ID : **6306801458528**
Status : **Not Answered**
Chosen Option : **--**

Q.13 **Select the option that expresses the given sentence in passive voice.**
The school will hire new teachers.

Ans
✗ 1. New teachers are hired by the school.
✗ 2. The school will be hiring new teachers.
✗ 3. New teachers will join the school.
✓ 4. New teachers will be hired by the school.

Question ID : **630680415220**
Option 1 ID : **6306801619629**
Option 2 ID : **6306801619628**
Option 3 ID : **6306801619630**
Option 4 ID : **6306801619627**
Status : **Answered**
Chosen Option : **4**

Q.14 **Select the most appropriate ANTONYM of the given word.**
Absolve

Ans
✗ 1. Commend
✓ 2. Accuse
✗ 3. Excuse
✗ 4. Appeal

Question ID : **630680377992**
Option 1 ID : **6306801473028**
Option 2 ID : **6306801473027**
Option 3 ID : **6306801473030**
Option 4 ID : **6306801473029**
Status : **Answered**
Chosen Option : **2**

Q.15 **Select the option that can be used as a one-word substitute for the given group of words.**

A person who has supreme power or authority

Ans
✗ 1. Diversity
✗ 2. Secular
✓ 3. Sovereign
✗ 4. Foreign

Question ID : **630680414780**
Option 1 ID : **6306801617865**
Option 2 ID : **6306801617863**
Option 3 ID : **6306801617864**
Option 4 ID : **6306801617866**
Status : **Answered**
Chosen Option : **3**

Q.16 **Select the option that corrects the error in the given sentence.**
She sings good.

Ans
✔ 1. well
✘ 2. goodly
✘ 3. better
✘ 4. best

Question ID : **630680514391**
Option 1 ID : **6306802010190**
Option 2 ID : **6306802010189**
Option 3 ID : **6306802010191**
Option 4 ID : **6306802010192**
Status : **Answered**
Chosen Option : **1**

Q.17 **Select the option that expresses the given sentence in passive voice.**

Meenakshi could have sent a reply.

Ans
✘ 1. A reply could have be sent by Meenakshi.
✔ 2. A reply could have been sent by Meenakshi.
✘ 3. A reply could have been send by Meenakshi.
✘ 4. A reply could have sent by Meenakshi.

Question ID : **630680374746**
Option 1 ID : **6306801460153**
Option 2 ID : **6306801460154**
Option 3 ID : **6306801460152**
Option 4 ID : **6306801460151**
Status : **Answered**
Chosen Option : **2**

Q.18 **Select the most appropriate ANTONYM of the given word.**

Appreciate

Ans
✘ 1. Depict
✘ 2. Esteem
✔ 3. Depreciate
✘ 4. Acknowledge

Question ID : **630680380477**
Option 1 ID : **6306801482906**
Option 2 ID : **6306801482904**
Option 3 ID : **6306801482905**
Option 4 ID : **6306801482903**
Status : **Answered**
Chosen Option : **3**

Q.19 **Select the most appropriate option to fill in the blank.**
The US _____ building was built in the year 1800.

Ans
✗ 1. capital
✗ 2. captain
✓ 3. capitol
✗ 4. cannibal

Question ID : **630680170364**
Option 1 ID : **630680660049**
Option 2 ID : **630680660051**
Option 3 ID : **630680660050**
Option 4 ID : **630680660052**
Status : **Answered**
Chosen Option : **1**

Q.20 **Select the option that can be used as a one-word substitute for the given group of words.**
Lack of interest, enthusiasm or concern

Ans
✗ 1. Antipathy
✓ 2. Apathy
✗ 3. Empathy
✗ 4. Sympathy

Question ID : **630680414760**
Option 1 ID : **6306801617783**
Option 2 ID : **6306801617785**
Option 3 ID : **6306801617786**
Option 4 ID : **6306801617784**
Status : **Answered**
Chosen Option : **1**

Comprehension:

In the following passage, some words have been deleted. Read the passage carefully and select the most appropriate option to fill in each blank.
Augmented reality and virtual reality are two types of reality technologies that either augment or replace a real-world environment with a (1)_____ one. In augmented reality, a virtual environment coexists (2)_____ the actual world, to be instructive and offer more data about the real world that a user can access without having to search. When a handset is pointed at a piece of malfunctioning (3)_____, for example, industrial AR apps might provide rapid troubleshooting information. Virtual reality is a (4)_____ environmental simulation that completely replaces the user's surroundings with a totally virtual world. For example, VR may provide a user with a box containing a cartoon (5)_____ of Mike Tyson in a virtual boxing ring.

SubQuestion No : 21

Q.21 **Select the most appropriate option to fill in blank number 1.**

Ans
✗ 1. suffocated
✗ 2. revealed
✓ 3. simulated
✗ 4. catered

Question ID : **630680177223**
Option 1 ID : **630680687075**
Option 2 ID : **630680687072**
Option 3 ID : **630680687073**
Option 4 ID : **630680687074**
Status : **Answered**
Chosen Option : **3**

Comprehension:

In the following passage, some words have been deleted. Read the passage carefully and select the most appropriate option to fill in each blank.
Augmented reality and virtual reality are two types of reality technologies that either augment or replace a real-world environment with a (1)_____ one. In augmented reality, a virtual environment coexists (2)_____ the actual world, to be instructive and offer more data about the real world that a user can access without having to search. When a handset is pointed at a piece of malfunctioning (3)_____, for example, industrial AR apps might provide rapid troubleshooting information. Virtual reality is a (4)_____ environmental simulation that completely replaces the user's surroundings with a totally virtual world. For example, VR may provide a user with a box containing a cartoon (5)_____ of Mike Tyson in a virtual boxing ring.

SubQuestion No : 22

Q.22 Select the most appropriate option to fill in blank number 2.

Ans

✔ 1. with

✘ 2. along

✘ 3. beyond

✘ 4. behind

Question ID : **630680177224**
Option 1 ID : **630680687076**
Option 2 ID : **630680687079**
Option 3 ID : **630680687077**
Option 4 ID : **630680687078**
Status : **Answered**
Chosen Option : **1**

Comprehension:

In the following passage, some words have been deleted. Read the passage carefully and select the most appropriate option to fill in each blank.
Augmented reality and virtual reality are two types of reality technologies that either augment or replace a real-world environment with a (1)_____ one. In augmented reality, a virtual environment coexists (2)_____ the actual world, to be instructive and offer more data about the real world that a user can access without having to search. When a handset is pointed at a piece of malfunctioning (3)_____, for example, industrial AR apps might provide rapid troubleshooting information. Virtual reality is a (4)_____ environmental simulation that completely replaces the user's surroundings with a totally virtual world. For example, VR may provide a user with a box containing a cartoon (5)_____ of Mike Tyson in a virtual boxing ring.

SubQuestion No : 23

Q.23 Select the most appropriate option to fill in blank number 3.

Ans

✘ 1. arsenal

✘ 2. baggage

✘ 3. outfit

✔ 4. equipment

Question ID : **630680177225**
Option 1 ID : **630680687081**
Option 2 ID : **630680687083**
Option 3 ID : **630680687080**
Option 4 ID : **630680687082**
Status : **Answered**
Chosen Option : **4**

Comprehension:

In the following passage, some words have been deleted. Read the passage carefully and select the most appropriate option to fill in each blank.
Augmented reality and virtual reality are two types of reality technologies that either augment or replace a real-world environment with a (1)_____ one. In augmented reality, a virtual environment coexists (2)_____ the actual world, to be instructive and offer more data about the real world that a user can access without having to search. When a handset is pointed at a piece of malfunctioning (3)_____, for example, industrial AR apps might provide rapid troubleshooting information. Virtual reality is a (4)_____ environmental simulation that completely replaces the user's surroundings with a totally virtual world. For example, VR may provide a user with a box containing a cartoon (5)_____ of Mike Tyson in a virtual boxing ring.

SubQuestion No : 24

Q.24 Select the most appropriate option to fill in blank number 4.

Ans

✗ 1. conclusive

✓ 2. comprehensive

✗ 3. reprehensive

✗ 4. transgressive

Question ID : **630680177226**
Option 1 ID : **630680687085**
Option 2 ID : **630680687087**
Option 3 ID : **630680687086**
Option 4 ID : **630680687084**
Status : **Answered**
Chosen Option : **2**

Comprehension:

In the following passage, some words have been deleted. Read the passage carefully and select the most appropriate option to fill in each blank.
Augmented reality and virtual reality are two types of reality technologies that either augment or replace a real-world environment with a (1)_____ one. In augmented reality, a virtual environment coexists (2)_____ the actual world, to be instructive and offer more data about the real world that a user can access without having to search. When a handset is pointed at a piece of malfunctioning (3)_____, for example, industrial AR apps might provide rapid troubleshooting information. Virtual reality is a (4)_____ environmental simulation that completely replaces the user's surroundings with a totally virtual world. For example, VR may provide a user with a box containing a cartoon (5)_____ of Mike Tyson in a virtual boxing ring.

SubQuestion No : 25

Q.25 Select the most appropriate option to fill in blank number 5.

Ans

✗ 1. glossary

✗ 2. resistance

✓ 3. rendition

✗ 4. network

Question ID : **630680177227**
Option 1 ID : **630680687091**
Option 2 ID : **630680687089**
Option 3 ID : **630680687088**
Option 4 ID : **630680687090**
Status : **Not Answered**
Chosen Option : **--**