Career Aglasem

Constable (GD) in CAPFs, NIA, SSF and Rifleman (GD) in Assam Rifles Examination, 2018

Roll No. :	[redacted]
Registration No.	
Name :	
Exam Venue :	
Exam Time :	4:00 PM - 5:30 PM
Exam Date :	02/03/2019

Section : **General Section**

Q.1 उस विकल्प का चयन करें जो सही रूप में रिक्त स्थान की पूर्ति करते हुए श्रृंखला को पूरा करें।

1330, 728, 342, 124, _____

Ans
✗ 1. 48
✗ 2. 24
✓ 3. 26
✗ 4. 35

Question ID : **9895808278**
Chosen Option : **3**

Q.2 उस विकल्प का चयन करें जो चौथे पद से उसी तरह संबंधित है जिस प्रकार पहला पद दूसरे पद से संबंधित है।

मित्र : शत्रु : : ? : नफरत

Ans
✗ 1. दया
✗ 2. क्रोध
✓ 3. प्यार
✗ 4. सहानुभूति

Question ID : **9895808268**
Chosen Option : **4**

Q.3 किसी निश्चित कूट में 'READY' को '$#2•©' के रूप में लिखते हैं और 'ENJOY' को '#64@%' के रूप में लिखते हैं। उसी कूट में 'NEAR' को कैसे लिखा जाएगा?

Ans
✓ 1. 6#2$
✗ 2. 6$2#
✗ 3. #62$
✗ 4. #2@#

Question ID : **9895808270**
Chosen Option : **1**

Q.4 P, M, D, A, F, H, R और B एक वृत्त के चारों ओर केन्द्र की ओर मुख किये बैठे हैं। R, A के दाएँ से चौथे स्थान पर है, जो P के दाएँ से तीसरे स्थान पर है। M, H के बाएँ से दूसरे स्थान पर है, जो P के बाएँ से दूसरे स्थान पर है। D, B के दाएँ से तीसरे स्थान पर है।

H के बाएँ से तीसरे स्थान पर कौन है?

Ans
✗ 1. M
✗ 2. B
✓ 3. A
✗ 4. F

Question ID : **9895808272**
Chosen Option : **2**

Q.5 नीचे दिए गए कथनों के बाद दो निष्कर्ष I और II दिए गए हैं। यह मानते हुए कि कथनों में दी गई जानकारी सत्य है, भले ही वह सर्वज्ञात तथ्यों से भिन्न प्रतीत होती हो और यह निर्णय करें कि कौन सा/से निष्कर्ष तार्किक और निश्चित रूप से कथन में दी गई जानकारी का अनुसरण करता है/करते हैं।

कथन:

कुछ लौकी, गोभी हैं।
सभी शिमला मिर्च, गोभी हैं।
कुछ गोभी, खीरा हैं।

निष्कर्ष:

I. कुछ लौकी, शिमला मिर्च हैं।
II. कुछ खीरा, गोभी हैं।

Ans
✗ 1. न तो निष्कर्ष I और न ही II अनुसरण करता है।
✗ 2. या तो निष्कर्ष I या II अनुसरण करता है।
✓ 3. केवल निष्कर्ष II अनुसरण करता है।
✗ 4. केवल निष्कर्ष I अनुसरण करता है।

Question ID : **9895808275**
Chosen Option : **4**

Q.6 उस विकल्प का चयन करें जो सही रूप में रिक्त स्थान की पूर्ति करते हुए श्रृंखला को पूरा करें।

8, 9, 13, 22, 38, _____

Ans
✓ 1. 63
✗ 2. 55
✗ 3. 50
✗ 4. 71

Question ID : **9895808277**
Chosen Option : **1**

Q.7 उस विकल्प का चयन करें जो तीसरे पद से उसी तरह संबंधित है जिस प्रकार दूसरा पद पहले पद से संबंधित है।

QPRS : TUWV : : JIKL : ?

Ans
✗ 1. MNOP
✓ 2. MNPO
✗ 3. NMPO
✗ 4. NMOF

Question ID : **9895808269**
Chosen Option : **2**

Q.8 यदि A को 1 के रूप में कूट बद्ध किया जाता है, CAT को 24 के रूप में कूट बद्ध किया जाता है, तो MAINS को किस रूप में कूट बद्ध किया जाएगा?

Ans
✗ 1. 52
✗ 2. 50
✓ 3. 56
✗ 4. 57

Question ID : **9895808271**
Chosen Option : **3**

Q.9 दिए गए विकल्पों में से लुप्त संख्या ज्ञात करें।



Ans
✗ 1. 7
✗ 2. 8
✓ 3. 9
✗ 4. 3

Question ID : **9895808281**
Chosen Option : **3**

Q.10 चार विकल्प दिए गए हैं, जिनमें से तीन किसी तरह से समान हैं, जबकि एक अलग है। असंगत का चयन करें।

Ans
✗ 1. (15, 45)
✗ 2. (27, 57)
✗ 3. (14, 44)
✓ 4. (28, 63)

Question ID : **9895808280**
Chosen Option : **1**

Q.11 चार अक्षर दिए गए हैं, जिनमें से तीन किसी तरह से समान हैं, जबकि एक अक्षर अलग है। असंगत अक्षर का चयन करें।

Ans
✓ 1. I
✗ 2. Y
✗ 3. Q
✗ 4. J

Question ID : **9895808265**
Chosen Option : **4**

Q.12 चार शब्द दिए गए हैं, जिनमें से तीन किसी तरह से समान हैं, जबकि एक अलग है। असंगत शब्द का चयन करें।

Ans
✓ 1. बकरी
✗ 2. शावक

Career Aglasem

✗ 3. बिलौटा

✗ 4. पिल्ला

Question ID : **9895808266**
Chosen Option : **2**

Q.13 उस विकल्प का चयन करें जो सही रूप में रिक्त स्थान की पूर्ति करते हुए श्रृंखला को पूरा करे।

AP, DQ, HR, MS, ST, ZU, _____

Ans

✗ 1. HW

✓ 2. HV

✗ 3. GV

✗ 4. FS

Question ID : **9895808264**
Chosen Option : **2**

Q.14 कागज का एक टुकड़ा नीचे दर्शाया गया है। दी गई उत्तर आकृतियों में से यह इंगित करें कि मोड़े जाने पर यह कैसा दिखाई देगा?

प्रश्न आकृति:



Ans

✗ 1. 

✓ 2. 

✗ 3. 

✗ 4. 

Question ID : **9895808287**
Chosen Option : **2**

Q.15 उस विकल्प का चयन करें जो दर्पण के दाएँ ओर रखे जाने पर दी गई आकृति की दर्पण छवि से सर्वाधिक मेल खाता है।

प्रश्न आकृति:



Ans

✓ 1. 

✗ 2. 

Career Aglasem

✗ 3. 

✗ 4. 

Question ID : **9895808286**
Chosen Option : **1**

Q.16 उस विकल्प का चयन करें जो तीसरे पद से उसी तरह संबंधित है जिस प्रकार दूसरा पद पहले पद से संबंधित है।

पानी : महासागर : : वायु : ?

Ans
✔ 1. वातावरण

✗ 2. निर्वात

✗ 3. पृथ्वी

✗ 4. समुद्र

Question ID : **9895808267**
Chosen Option : **2**

Q.17 नीचे दिए गए कथनों के बाद तीन निष्कर्ष I, II और III दिए गए हैं। यह मानते हुए कि कथनों में दी गई जानकारी सत्य है, भले ही वह सर्वज्ञात तथ्यों से भिन्न प्रतीत होती हो और यह निर्णय करें कि कौन सा/से निष्कर्ष तार्किक और निश्चित रूप से कथन में दी गई जानकारी का अनुसरण करता है/करते हैं।

कथन:
I. सभी गौरैया, तोते हैं।
II. सभी तोते, पक्षी हैं।

निष्कर्ष:
I. कोई भी गौरैया, पक्षी नहीं है।
II. कोई भी पक्षी, गौरैया नहीं है।
III. कुछ पक्षियाँ गौरैया हैं।

Ans
✗ 1. केवल निष्कर्ष I अनुसरण करता है।

✔ 2. केवल निष्कर्ष III अनुसरण करता है।

✗ 3. सभी निष्कर्ष अनुसरण करते हैं।

✗ 4. केवल निष्कर्ष II अनुसरण करता है।

Question ID : **9895808276**
Chosen Option : **1**

Q.18 निम्नलिखित में से कौन सी उत्तर आकृति दी गई आकृति को पूरा करेगी?

प्रश्न आकृति:



Ans

✔ 1. 

✘ 2. 

✘ 3. 

✘ 4. 

Question ID : **9895808284**
Chosen Option : **1**

Q.19 सौरभ लम्बा है संदीप से और अमित लम्बा है सौरभ से सुभाष लम्बा है अमित से सत्तू सभी से लम्बा है। यदि वे अपनी लम्बाई के अनुसार खड़े होते है, तो ठीक मध्य में कौन होगा?

Ans

✘ 1. सौरभ

✔ 2. अमित

✘ 3. सुभाष

✘ 4. संदीप

Question ID : **9895808274**
Chosen Option : **2**

Q.20 उस विकल्प का चयन करें जो चौथे पद से उसी तरह संबंधित है जिस प्रकार पहला पद दूसरे पद से संबंधित है।

4 : 52 : : ? : 1560

Ans

✘ 1. 128

✘ 2. 122

✘ 3. 118

✔ 4. 120

Question ID : **9895808279**
Chosen Option : **3**

Q.21 यदि K का अर्थ x है, H का अर्थ + है, M का अर्थ + है और N का – अर्थ है, तो निम्न का मान क्या होगा?

13 K 7 H 22.75 M 27 N 13

Ans

✘ 1. 17

✘ 2. 19

✔ 3. 18

✘ 4. 22

Question ID : **9895808282**
Chosen Option : **2**

Q.22 वेन आरेख का चयन करें जो दिए गए तीन वर्गों के बीच के संबंध को सर्वोत्तम दर्शाता है।

इंजीनियर, पुरुष, विवाहित

Ans

1. 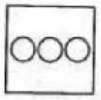

2. 

3. 

4. 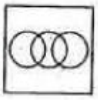

Question ID : **9895808288**
Chosen Option : **2**

Q.23 निम्नलिखित आकृतियों मे से उन दो आकृतियों को ज्ञात कीजिए, जो अपनी स्थिति पर नही हो एवं उनकी स्थिति को आपस में बदलने की आवश्यकता हो।

प्रश्न आकृति



Ans
1. C,D
2. D,F
3. B,F
4. D,E

Question ID : **9895808283**
Chosen Option : **3**

Q.24 A, B, C, D, E, F, G और H केंद्र की ओर मुख किये हुए एक गोल मेज के चारो ओर बैठे है। D, H के दाएं से चौथे स्थान पर तथा B के बाए से दूसरे स्थान पर है। F, B के दाएँ से चौथे स्थान पर है। C, E के दाएं से चौथे स्थान पर है जो कि B या D के बिलकुल दाएँ नही है। A, D का बिलकुल पडोसी नही है।

G के दाएँ ओर से गिने जाने पर B का स्थान G के सम्बन्ध में क्या है?

Ans
1. दाएँ से दूसरा
2. दाएँ से पाचवाँ
3. दाएँ से चौथा
4. दाएँ से तीसरा

Question ID : **9895808273**
Chosen Option : **3**

Q.25 उस विकल्प आकृति का चयन करें, जिसमें दी गई आकृति छिपी हुई / अंतर्निहित है।

प्रश्न आकृति:



Ans

Career Aglasem

✔ 1. 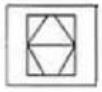

✘ 2. 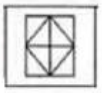

✘ 3. 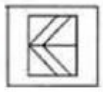

✘ 4. 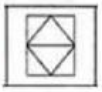

Question ID : **9895808285**
Chosen Option : **1**

Q.26 _____ स्रोत वे होते हैं जिनकी मात्रा ज्ञात है।

Ans
✘ 1. वास्तविक
✘ 2. संभाव्य
✘ 3. गैर नवीकरणीय
✔ 4. मूल

Question ID : **9895807347**
Chosen Option : **4**

Q.27 निम्नलिखित में से कौन सा खिलाड़ी सबसे अधिक वर्षों तक विश्व का नंबर एक टेनिस खिलाड़ी था?

Ans
✘ 1. इवान लेंडल
✔ 2. रोजर फ़ेडरर
✘ 3. जिमी कनेक्टर्स
✘ 4. पीट सम्प्रास

Question ID : **9895807332**
Chosen Option : **2**

Q.28 अमेरिका और यूरोपीय संघ ने गन्ना और दलहन के एमएसपी की शिकायत किस संगठन से की?

Ans
✘ 1. अंतर्राष्ट्रीय मुद्रा कोष
✔ 2. विश्व व्यापार संगठन
✘ 3. संयुक्त राष्ट्र
✘ 4. विश्व बैंक

Question ID : **9895807338**
Chosen Option : **2**

Q.29 2016 में पहला एआईबीए (AIBA) लीजेंड्स अवार्ड किस भारतीय खिलाड़ी को मिला?

Ans
✔ 1. एम.सी. मैरीकॉम

✗ 2. सानिया मिर्जा

✗ 3. सचिन तेंडुलकर

✗ 4. पी.वी. सिंधु

Question ID : **9895807335**
Chosen Option : **4**

Q.30 भारत का राष्ट्रीय प्रतीक कब अपनाया गया था?

Ans
✗ 1. 15 अगस्त 1947 को

✗ 2. 26 जनवरी, 1947 को

✗ 3. 26 अगस्त, 1950 को

✔ 4. 26 जनवरी, 1950 को

Question ID : **9895807341**
Chosen Option : **4**

Q.31 33वें सूरज कुंड मेला 2019 के लिए थीम राज्य _____ है।

Ans
✗ 1. गुजरात

✗ 2. बिहार

✗ 3. केरल

✔ 4. महाराष्ट्र

Question ID : **9895807328**
Chosen Option : **2**

Q.32 घनी वनस्पति, भारी वर्षा और त्वरित पुनरुद्भवन वाले क्षेत्रों में किस प्रकार की खेती की जाती है?

Ans
✔ 1. स्थानान्तरी

✗ 2. बागबानी

✗ 3. निर्वाह

✗ 4. भ्रमणशील

Question ID : **9895807348**
Chosen Option : **1**

Q.33 सुभाष चंद्र बोस ने किस वर्ष स्वतंत्र भारत की अनंतिम सरकार के गठन की घोषणा की थी?

Ans
✗ 1. 1942

✔ 2. 1943

✗ 3. 1941

✗ 4. 1945

Question ID : **9895807352**
Chosen Option : **4**

Q.34 नट (तनी रस्सी) पर चलने वाला व्यक्ति भौतिकी के किस नियम का पालन करता है?

Career Aglasem

Ans
✗ 1. हुक का नियम
✗ 2. कूलम्ब का नियम
✗ 3. स्टीफन का नियम
✓ 4. न्यूटन के गति के नियम

Question ID : **9895807342**
Chosen Option : **4**

Q.35 भारत में दहेज निषेध अधिनियम कब पारित किया गया था?

Ans
✗ 1. 1945
✗ 2. 1966
✗ 3. 1950
✓ 4. 1961

Question ID : **9895807340**
Chosen Option : **4**

Q.36 पश्चिम बंगाल में गरिया का युद्ध कब लड़ा गया था?

Ans
✗ 1. 1711
✓ 2. 1740
✗ 3. 1723
✗ 4. 1754

Question ID : **9895807351**
Chosen Option : **3**

Q.37 स्टॉकहोम वाटर पुरस्कार जीतने वाले किस भारतीय को भारत का वाटरमैन कहा जाता है?

Ans
✗ 1. वेदरत्नम् अप्पाकुट्टी
✓ 2. डॉ. राजेंद्र सिंह
✗ 3. रजनीकांत अरोले
✗ 4. डॉ. वर्गीज कुरियन

Question ID : **9895807333**
Chosen Option : **1**

Q.38 किस रासायनिक यौगिक के कारण मिर्च का स्वाद तीखा / मसालेदार होता है?

Ans
✗ 1. एलीसिन
✗ 2. सेरियम सल्फेट
✓ 3. कैप्सेइसिन
✗ 4. सेरियम हाइड्रॉक्साइड

Question ID : **9895807343**
Chosen Option : **3**

Career Aglasem

Q.39 'नवलखा पैलेस' भारत के किस राज्य में स्थित एक धरोहर स्थल है?

Ans
✔ 1. बिहार
✗ 2. मध्य प्रदेश
✗ 3. पश्चिम बंगाल
✗ 4. उत्तर प्रदेश

Question ID : **9895807330**
Chosen Option : **1**

Q.40 दिए गए विकल्पों में से वृक्षीय (आर्बरियल) जानवर की पहचान करें।

Ans
✗ 1. गैंडा (राइनो)
✗ 2. जलहस्ती
✔ 3. बंदर
✗ 4. जिराफ़

Question ID : **9895807344**
Chosen Option : **4**

Q.41 सरकार का संघीय रूप किस देश के संविधान के आधार पर अपनाया गया था?

Ans
✔ 1. संयुक्त राज्य अमरीका
✗ 2. यूनाइटेड किंगडम
✗ 3. आयरलैंड
✗ 4. रूस

Question ID : **9895807339**
Chosen Option : **1**

Q.42 1987 में विश्व जूनियर शतरंज चैंपियनशिप जीतने वाले पहले भारतीय और पहले एशियाई भी कौन थे?

Ans
✔ 1. विश्वनाथन आनंद
✗ 2. आर्यन चोपड़ा
✗ 3. निहाल सरीन
✗ 4. एम.एस. तेजकुमार

Question ID : **9895807331**
Chosen Option : **4**

Q.43 राष्ट्रीय ग्रामीण स्वास्थ्य मिशन कब शुरू किया गया?

Ans
✗ 1. 2010
✔ 2. 2005
✗ 3. 2002
✗ 4. 2007

Question ID : **9895807346**
Chosen Option : **4**

Q.44 पुस्तक 'लाइफ डिवाइन' के लेखक कौन है?

Ans
✗ 1. ईश्वरचंद्र विद्या सागर
✓ 2. श्री अरबिंदो
✗ 3. विवेकानंद
✗ 4. राम मोहन राय

Question ID : **9895807334**
Chosen Option : **1**

Q.45 _____ अंततोगत्वा देश की विकास दर को तय करता है।

Ans
✓ 1. जनसंख्या की गुणवत्ता
✗ 2. जनसंख्या की जीवन प्रत्याशा
✗ 3. जनसंख्या की साक्षरता
✗ 4. जनसंख्या की मात्रा

Question ID : **9895807336**
Chosen Option : **3**

Q.46 2018 में किस संगीत उस्ताद को पद्म विभूषण से सम्मानित किया गया?

Ans
✓ 1. इलैयाराजा
✗ 2. ए. आर. रहमान
✗ 3. हरिप्रसाद चौरसिया
✗ 4. शिवकुमार शर्मा

Question ID : **9895807329**
Chosen Option : **1**

Q.47 आप जमीन से समुद्र की ओर खासकर रात में बहने वाली हवा को क्या कहते हैं?

Ans
✗ 1. पानी की हवा
✗ 2. सागरीय हवा
✗ 3. ज्वार की हवा
✓ 4. भूमि की हवा

Question ID : **9895807345**
Chosen Option : **2**

Q.48 भारत के किस वर्तमान राज्य में आदि शंकराचार्य का जन्म हुआ था?

Ans
✓ 1. केरल
✗ 2. कर्नाटक

✗ 3. तमिलनाडु

✗ 4. महाराष्ट्र

Question ID : **9895807350**
Chosen Option : **2**

Q.49 बजट घाटा कब होता है?

Ans
✓ 1. सरकार के उपलब्ध राजस्व से अधिक खर्च पर

✗ 2. सरकार के उपलब्ध राजस्व के बराबर खर्च पर

✗ 3. सरकार के उपलब्ध राजस्व से कम खर्च पर

✗ 4. सरकार के उपलब्ध राजस्व के निर्धारित न्यूनतम के खर्च पर

Question ID : **9895807337**
Chosen Option : **4**

Q.50 निम्नलिखित में से किस देश में 2017 की स्थिति अनुसार सबसे अधिक आयु वाले लोग हैं?

Ans
✗ 1. इटली

✓ 2. जापान

✗ 3. पुर्तगाल

✗ 4. जर्मनी

Question ID : **9895807349**
Chosen Option : **1**

Q.51 4 cm ऊँचाई वाले एक बेलन को बनाने के लिए 11 cm × 4 cm के एक आयताकार कागज को मोड़ दिया जाता है और बिना ओवरलैप किए टेप किया जाता है। तो बने हुए बेलन का आयतन है:

Ans
✗ 1. 385 cm^3

✗ 2. 3.85 cm^3

✓ 3. 38.5 cm^3

✗ 4. 0.385 cm^3

Question ID : **9895807672**
Chosen Option : **1**

Q.52 दो संख्याओं का अनुपात 3 : 5 है। यदि प्रत्येक संख्या में 10 की कमी होती है, तो अनुपात 5 : 9 हो जाता है। संख्याएं ज्ञात करें।

Ans
✗ 1. 30, 50

✓ 2. 60, 100

✗ 3. 21, 35

✗ 4. 90, 150

Question ID : **9895807664**
Chosen Option : **1**

Q.53

Career Aglasem

तीन उम्मीदवारों ने एक चुनाव लड़ा और उन्हें क्रमशः 1148, 7624 और 11628 वोट मिले। जीतने वाले उम्मीदवार को कुल मतों का कितना प्रतिशत मिला?

Ans
1. 90% ✗
2. 60% ✗
3. 65% ✗
4. 57% ✓

Question ID : **9895807660**
Chosen Option : **3**

Q.54 M को ₹20 देने से A के पास उतनी राशि होगी जितनी M के पास पहले थी। यदि A और M के पास ₹220 की राशि है, तो M की पहली राशि के साथ A की राशि का अनुपात क्या है?

Ans
1. 7 : 6 ✗
2. 2 : 1 ✗
3. 6 : 5 ✓
4. 5 : 6 ✗

Question ID : **9895807663**
Chosen Option : **3**

Q.55 अहमद ₹5,200 में एक पुराना स्कूटर खरीदता है और इसकी मरम्मत पर ₹800 खर्च करता है। यदि वह स्कूटर ₹6,600 में बेचता है, तो उसका लाभ प्रतिशत है:

Ans
1. 8% ✗
2. 12% ✗
3. 9% ✗
4. 10% ✓

Question ID : **9895807661**
Chosen Option : **4**

Q.56 सैम ने अपने मित्र से 6% प्रति वर्ष की साधारण ब्याज दर पर कुछ पैसे उधार लिए। उसने अपने मित्र को ₹18,200 लौटा दिए। यदि सैम ने ₹14,000 उधार लिए, तो उसने कितने समय बाद पैसे वापस किए?

Ans
1. 3.5 वर्ष ✗
2. 5 वर्ष ✓
3. 2.5 वर्ष ✗
4. 8 वर्ष ✗

Question ID : **9895807666**
Chosen Option : **2**

Q.57

नीचे दिए गए बार ग्राफ का अध्ययन करें, जो वर्षों में तीन अलग-अलग कंपनियों X, Y और Z द्वारा कागज (लाख टन में) के उत्पादन के आंकड़े दर्शाता है और प्रश्न का उत्तर दें।

वर्षों के दौरान तीन कंपनियों X, Y और Z द्वारा कागज का उत्पादन (लाख टन में)।

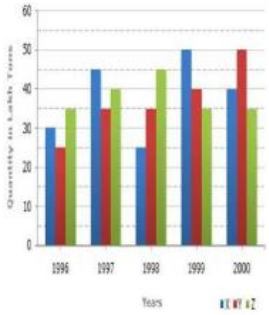

पाँच वर्षों में औसत उत्पादन किस कंपनी के लिए न्यूनतम था?

Ans
✔ 1. Y
✗ 2. X और Z दोनों
✗ 3. Z
✗ 4. X

Question ID : **9895807676**
Chosen Option : **4**

Q.58 50 सेब का विक्रय मूल्य 45 सेब के लागत मूल्य के बराबर है। प्राप्त लाभ या हानि ज्ञात करें।

Ans
✗ 1. 12% हानि
✗ 2. 10% लाभ
✔ 3. 10% हानि
✗ 4. 12% लाभ

Question ID : **9895807662**
Chosen Option : **3**

Q.59 नीचे दिए गए बार ग्राफ का अध्ययन करें, जो वर्षों में तीन अलग-अलग कंपनियों X, Y और Z द्वारा कागज (लाख टन में) के उत्पादन के आंकड़े दर्शाता है और प्रश्न का उत्तर दें।

वर्षों के दौरान तीन कंपनियों X, Y और Z द्वारा कागज का उत्पादन (लाख टन में)।

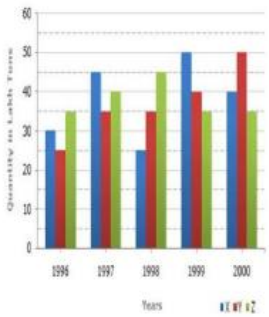

1997-1999 में कंपनी Y के औसत उत्पादन के उसी अवधि में कंपनी Z के औसत उत्पादन का अनुपात क्या है?

Ans
✗ 1. 11 : 13
✔ 2. 11 : 12
✗ 3. 12 : 15
✗ 4. 12 : 11

Question ID : **9895807675**
Chosen Option : **2**

Q.60 एक त्रिभुज की भुजाएँ 5 cm, 12 cm और 13 cm हैं। एक आयत बनाया गया है, जिसका क्षेत्रफल त्रिभुज के क्षेत्रफल के बराबर है और चौड़ाई 5 cm है। फिर आयत का परिमाप है:

Ans
1. 30 cm ✗
2. 22 cm ✓
3. 33 cm ✗
4. 11 cm ✗

Question ID : **9895807673**
Chosen Option : **3**

Q.61 एक निश्चित अवधि के लिए ₹1,800 पर 10% की दर से चक्रवृद्धि ब्याज ₹378 है। तो वर्षों में समय की अवधि है:

Ans
1. 3 वर्ष ✗
2. 2 वर्ष ✓
3. 3½ वर्ष ✗
4. 2½ वर्ष ✗

Question ID : **9895807667**
Chosen Option : **2**

Q.62 सरलीकृत करें:

87 - 6 of (28 - 13) + 4 × 9

Ans
1. 33 ✓
2. 43 ✗
3. 30 ✗
4. 23 ✗

Question ID : **9895807654**
Chosen Option : **1**

Q.63 एक पेड़ से 4.2 km की दूरी पर एक बंदूक से फायर किया जाता है। यदि ध्वनि 13s के बाद सुनाई देती है, तो ध्वनि की गति है:

Ans
1. 320 m/s ✗
2. 321.1 m/s ✗
3. 322.07 m/s ✗
4. 323.07 m/s ✓

Question ID : **9895807671**
Chosen Option : **4**

Q.64 एक छात्र के अंकों को गलती से 62 के बजाय 87 दर्ज किया गया था। इसके कारण कक्षा के औसत अंक आधे (1/2) बढ़ गए। कक्षा में छात्रों की संख्या है:

Ans
1. 50 ✓
2. 25 ✗
3. 45 ✗

✗ 4. 40

Question ID : **9895807657**
Chosen Option : **1**

Q.65 A, B और C का औसत वजन 45kg है। यदि A और C का औसत वजन 42 kg है और B और C का औसत 38 kg है, तो C का वजन है:

Ans
✗ 1. 40 kg
✗ 2. 30 kg
✓ 3. 25 kg
✗ 4. 35 kg

Question ID : **9895807656**
Chosen Option : **3**

Q.66 सरलीकृत करें:

$$7+5-\left(\frac{3}{2}\times\frac{1}{4}\right) \text{ of } \frac{2}{7}+\frac{7}{2}\times\frac{3}{14}$$

Ans
✗ 1. $\frac{173}{4}$
✓ 2. $\frac{177}{14}$
✗ 3. $\frac{177}{28}$
✗ 4. $\frac{175}{4}$

Question ID : **9895807655**
Chosen Option : **3**

Q.67 100 वस्तुओं का माध्य 30 पाया गया। यदि गणना के समय, दो वस्तुओं को 23 और 11 के बजाय 32 और 12 के रूप में गलत तरीके से लिया गया, तो सही माध्य है:

Ans
✗ 1. 30.5
✓ 2. 29.9
✗ 3. 32
✗ 4. 29

Question ID : **9895807659**
Chosen Option : **1**

Q.68

aglasem.com

नीचे दिए गए बार ग्राफ का अध्ययन करें, जो वर्षों में तीन अलग-अलग कंपनियों X, Y और Z द्वारा कागज (लाख टन में) के उत्पादन के आंकड़े दर्शाता है और प्रश्न का उत्तर दें।

वर्षों के दौरान तीन कंपनियों X, Y और Z द्वारा कागज का उत्पादन (लाख टन में)।

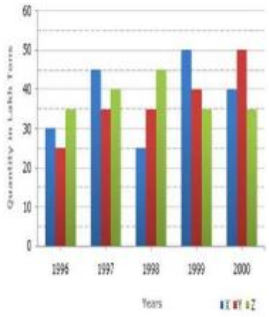

वर्ष 1996 से 1997 तक कंपनी X के उत्पादन में प्रतिशत वृद्धि क्या है?

Ans
✗ 1. 60%
✗ 2. 70%
✓ 3. 50%
✗ 4. 80%

Question ID : **9895807677**
Chosen Option : **2**

Q.69 सबसे छोटी संख्या, जिसे 5, 6, 7 और 8 से विभाजित करने पर शेषफल 4 रह जाता है, लेकिन जब 4 से विभाजित की जाती है तो कोई शेषफल नहीं बचता है:

Ans
✗ 1. 1684
✗ 2. 846
✗ 3. 840
✓ 4. 844

Question ID : **9895807653**
Chosen Option : **4**

Q.70 A, B और C मिलकर 4 दिनों में एक कार्य कर सकते हैं। यदि A और B कार्य को 5 दिनों में कर सकते हैं, B और C 10 दिनों में कर सकते हैं, तो कार्य करने के लिए A और C द्वारा लिए गए दिनों को ज्ञात करें।

Ans
✗ 1. 6 दिन
✗ 2. 4 दिन
✓ 3. 5 दिन
✗ 4. 8 दिन

Question ID : **9895807668**
Chosen Option : **3**

Q.71 यदि जीत और जय की वर्तमान आयु का अनुपात 6: 7 है और 5 वर्ष के बाद अनुपात 7 : 8 होगा, तो जय की वर्तमान आयु क्या है?

Ans
✗ 1. 56
✓ 2. 35
✗ 3. 48
✗ 4. 64

Question ID : **9895807665**
Chosen Option : **2**

Q.72 क्रमशः 200 m और 300 m की लंबाई वाली दो ट्रेनें समानांतर पटरियों पर विपरीत दिशाओं में चल रही हैं। यदि उनकी गति 40 km/h और 50 km/h हैं, तो ट्रेनों को एक-दूसरे को पार करने में लगने वाला समय है:

Ans
1. 50 s ✗
2. 20 s ✓
3. 40 s ✗
4. 30 s ✗

Question ID : **9895807670**
Chosen Option : **2**

Q.73 A और B क्रमशः 10 दिनों और 15 दिनों में एक कार्य कर सकते हैं। यदि वे एकांतर दिनों में इस पर कार्य करते हैं, पहले A शुरू करता है। तो कार्य कितने दिनों में पूरा होगा?

Ans
1. 12 दिन ✓
2. 15 दिन ✗
3. 6 दिन ✗
4. 10 दिन ✗

Question ID : **9895807669**
Chosen Option : **3**

Q.74 ₹6,000 अंकित मूल्य के पतलून के एक दर्जन जोड़े पर 10% की छूट है। ₹2,700 में कितने जोड़े पतलून खरीदे जा सकते हैं?

Ans
1. 3 ✗
2. 4 ✗
3. 7 ✗
4. 6 ✓

Question ID : **9895807658**
Chosen Option : **2**

Q.75 एक समबाहु त्रिभुज के परिमाप का संख्यात्मक मान त्रिभुज के क्षेत्रफल का $\sqrt{3}$ गुना है। तो समबाहु त्रिभुज की प्रत्येक भुजा की लंबाई है:

Ans
1. 3 cm ✗
2. 5 cm ✗
3. 4 cm ✓
4. 6 cm ✗

Question ID : **9895807674**
Chosen Option : **4**

Section : **English Language**

Q.1 Select the synonym of the given word.

ABRUPTLY

Ans
1. Easily ✗
2. Suddenly ✗
3. Leisurely ✗

Career Aglasem

✔ 4. Slowly

Question ID : **9895807997**
Chosen Option : --

Q.2 Select the most appropriate option to substitute the underlined segment in the given sentence. If there is no need to substitute it, select No improvement.

The players were informed that, in the game, anyone who cross the line would be disqualified.

Ans
✔ 1. anyone who will crosses the line
✘ 2. anyone who crosses the line
✘ 3. anyone that cross the line
✘ 4. No improvement

Question ID : **9895807987**
Chosen Option : --

Q.3 Select the word which means the same as the group of words given.

A solution or remedy for all difficulties or diseases.

Ans
✘ 1. Panacea
✔ 2. Medicine
✘ 3. Diagnosis
✘ 4. Treatment

Question ID : **9895808003**
Chosen Option : --

Q.4 Select the most appropriate word to fill in the blank.

Japanese monkeys have been spotted _____ baths in man - made hot springs during winter.

Ans
✔ 1. taking
✘ 2. assembling
✘ 3. soothing
✘ 4. making

Question ID : **9895808008**
Chosen Option : --

Q.5 Select the antonym of the given word.

CAJOLE

Ans
✘ 1. Rejoice
✘ 2. Repulse
✔ 3. Response
✘ 4. Request

Question ID : **9895808000**
Chosen Option : --

Q.6

Career Aglasem

Select the antonym of the given word.

ADAMANT

Ans
1. Gullible
2. Innocent
3. Firm
4. Agreeable

Question ID : **9895807999**
Chosen Option : --

Q.7 From the given options, identify the segment in the sentence which contains the grammatical error.

The pancreas plays an important role in digestion and regulating blood sugar in living bodies.

Ans
1. an important role
2. The pancreas plays
3. in digestion and regulating
4. in living bodies

Question ID : **9895807985**
Chosen Option : --

Q.8 Select the synonym of the given word.

PLEA

Ans
1. Right
2. Appeal
3. Duty
4. Claim

Question ID : **9895807998**
Chosen Option : --

Q.9 Select the most appropriate option to fill in the blank.

Most often I wish I _____ his luck.

Ans
1. has
2. had
3. would had
4. have

Question ID : **9895807990**
Chosen Option : --

Q.10 Select the most appropriate word to fill in the blank.

Ecology is the study of the _____ between plants, animals, people and their environment, and the balances between these relationships.

Ans
1. influences
2. effects
3. contacts

Career Aglasem

✗ 4. connections

Question ID : **9895808007**
Chosen Option : --

Q.11 Select the option that means the same as the given idiom.

To cry over spilled milk

Ans
✗ 1. To regret about that which cannot be rectified
✗ 2. To cry for that which cannot be made possible
✓ 3. To cry for trivial matters
✗ 4. To cry for milk products

Question ID : **9895808001**
Chosen Option : --

Q.12 Select the correctly spelt word.

Ans
✗ 1. Synchroneze
✗ 2. Snychronize
✗ 3. Synchornize
✓ 4. Synchronize

Question ID : **9895808006**
Chosen Option : --

Comprehension:

In the following passage some words have been deleted. Fill in the blanks with the help of the alternatives given.

Integration in the group means mutual ties (1) _____ its members. The quality of ties may differ from group to group. Integration has two (2) _____ - one is the process of integration and the other is the unified conditions. As a process, integration always goes (3) _____ in the society. Social system keeps changing and the units keep (4) _____ themselves accordingly. Sometimes change in a single unit also changes the whole system. Integration is the balance between the whole and its units. When this balance is (5) _____, disintegration begins in the system.

SubQuestion No : 13

Q.13 Select the most appropriate option that will fill in the blank number 1.

Ans
✗ 1. together
✗ 2. both
✗ 3. between
✓ 4. among

Question ID : **9895807992**
Chosen Option : --

Comprehension:

Career Aglasem

In the following passage some words have been deleted. Fill in the blanks with the help of the alternatives given.

Integration in the group means mutual ties (1) _____ its members. The quality of ties may differ from group to group. Integration has two (2) _____ - one is the process of integration and the other is the unified conditions. As a process, integration always goes (3) _____ in the society. Social system keeps changing and the units keep (4) _____ themselves accordingly. Sometimes change in a single unit also changes the whole system. Integration is the balance between the whole and its units. When this balance is (5) _____, disintegration begins in the system.

SubQuestion No : 14

Q.14 Select the most appropriate option that will fill in the blank number 2.

Ans
✔ 1. agencies
✘ 2. methods
✘ 3. measures
✘ 4. aspects

Question ID : **9895807993**
Chosen Option : --

Comprehension:

In the following passage some words have been deleted. Fill in the blanks with the help of the alternatives given.

Integration in the group means mutual ties (1) _____ its members. The quality of ties may differ from group to group. Integration has two (2) _____ - one is the process of integration and the other is the unified conditions. As a process, integration always goes (3) _____ in the society. Social system keeps changing and the units keep (4) _____ themselves accordingly. Sometimes change in a single unit also changes the whole system. Integration is the balance between the whole and its units. When this balance is (5) _____, disintegration begins in the system.

SubQuestion No : 15

Q.15 Select the most appropriate option that will fill in the blank number 3.

Ans
✘ 1. on
✘ 2. under
✔ 3. off
✘ 4. in

Question ID : **9895807994**
Chosen Option : --

Comprehension:

Career Aglasem

In the following passage some words have been deleted. Fill in the blanks with the help of the alternatives given.

Integration in the group means mutual ties (1) _____ its members. The quality of ties may differ from group to group. Integration has two (2) _____ - one is the process of integration and the other is the unified conditions. As a process, integration always goes (3) _____ in the society. Social system keeps changing and the units keep (4) _____ themselves accordingly. Sometimes change in a single unit also changes the whole system. Integration is the balance between the whole and its units. When this balance is (5) _____, disintegration begins in the system.

SubQuestion No : 16

Q.16 Select the most appropriate option that will fill in the blank number 4.

Ans
✗ 1. adjusting
✗ 2. admiring
✓ 3. administering
✗ 4. admitting

Question ID : **9895807995**
Chosen Option : --

Comprehension:

In the following passage some words have been deleted. Fill in the blanks with the help of the alternatives given.

Integration in the group means mutual ties (1) _____ its members. The quality of ties may differ from group to group. Integration has two (2) _____ - one is the process of integration and the other is the unified conditions. As a process, integration always goes (3) _____ in the society. Social system keeps changing and the units keep (4) _____ themselves accordingly. Sometimes change in a single unit also changes the whole system. Integration is the balance between the whole and its units. When this balance is (5) _____, disintegration begins in the system.

SubQuestion No : 17

Q.17 Select the most appropriate option that will fill in the blank number 5.

Ans
✗ 1. disrupting
✗ 2. disrupted
✓ 3. disrupts
✗ 4. disrupt

Question ID : **9895807996**
Chosen Option : --

Q.18 Select the word which means the same as the group of words given.

The arrangement of events or dates in the order of their occurrence.

Ans
✗ 1. Customisation

✔ 2. Cataloguing

✘ 3. Classification

✘ 4. Chronology

Question ID : **9895808004**
Chosen Option : --

Q.19 From the given options, identify the segment in the sentence which contains the grammatical error.

Unable to pay the debts, the whole family is forced to spent several days in a jail.

Ans

✘ 1. days in a jail

✘ 2. is forced to spent

✘ 3. the whole family

✔ 4. Unable to pay the debts

Question ID : **9895807983**
Chosen Option : --

Q.20 From the given options, identify the segment in the sentence which contains the grammatical error.

Technology plays a vital role at the modern life and influences the course of human civilisation unceasingly.

Ans

✘ 1. influences the course of

✘ 2. at the modern life and

✘ 3. human civilisation unceasingly

✔ 4. Technology plays a vital role

Question ID : **9895807984**
Chosen Option : --

Q.21 Select the most appropriate option to substitute the underlined segment in the given sentence. If there is no need to substitute it, select No improvement.

It is the adversity that makes you stronger, kinder and most generous than before in life.

Ans

✔ 1. most generous than before for life.

✘ 2. more generous than before in life.

✘ 3. No improvement

✘ 4. the most generous than before in life.

Question ID : **9895807988**
Chosen Option : --

Q.22 Select the most appropriate option to substitute the underlined segment in the given sentence. If there is no need to substitute it, select No improvement.

Access to mobile phones and an Internet enables job - seekers to search for jobs anywhere in India and abroad.

Ans

✘ 1. internet enable job - seekers

✘ 2. No improvement

✘ 3. internet enables job - seekers

✔ 4. the Internet enables job - seekers

Question ID : **9895807986**
Chosen Option : --

Q.23 Select the most appropriate option to fill in the blank.

It is wonderful that anxiety is a good example of a condition that works _____ or against us.

Ans
1. about ✗
2. for ✓
3. of ✗
4. around ✗

Question ID : **9895807989**
Chosen Option : --

Q.24 Select the correctly spelt word.

Ans
1. Magnificaent ✗
2. Magnficent ✗
3. Magnificent ✗
4. Magneficent ✓

Question ID : **9895808005**
Chosen Option : --

Q.25 Select the option that means the same as the given idiom.

A leopard can't change its spots.

Ans
1. A leopard's without spots cannot be found easily in a jungle ✗
2. ✓
A leopard can be found easily because of its spots in a jungle
3. It is impossible for one to change one's character ✗
4. It is possible to change someone's character ✗

Question ID : **9895808002**
Chosen Option : --

Section : **Hindi Language**

Q.1 दिए गए वाक्य में रेखांकित खंड को प्रतिस्थापित करने के लिए उपयुक्त विकल्प का चयन करें।

हमारे देहात बहुत उपेक्षित रहे हैं, उन्हें विकसित करने की आवश्यकता है।

Ans
1. महानगर ✗
2. शहर ✗
3. नगर ✗
4. गाँव ✓

Question ID : **9895806765**
Chosen Option : **2**

Q.2 दिए गए वाक्य में रेखांकित खंड को प्रतिस्थापित करने के लिए उपयुक्त विकल्प का चयन करें।

कोयल का कंठ मधुरतम है।

Ans
1. कोकिला ✓

Career Aglasem

✗ 2. पक्षी
✗ 3. सुग्गा
✗ 4. खग

Question ID : **9895806766**
Chosen Option : **2**

Q.3 रिक्त स्थान को भरने के लिए उपयुक्त शब्द का चयन करें।

पेड़ पर _____ खिल रहे हैं।

Ans
✓ 1. फूल
✗ 2. टहनी
✗ 3. पत्ते
✗ 4. फल

Question ID : **9895806767**
Chosen Option : **2**

Q.4 रिक्त स्थान को भरने के लिए उपयुक्त शब्द का चयन करें।

ईमानदारी से मेहनत करो, चाहे लाभ हो _____ हानि।

Ans
✗ 1. बल्कि
✗ 2. ताकि
✓ 3. या
✗ 4. इसलिए

Question ID : **9895806768**
Chosen Option : **3**

Q.5 दिये गये वाक्यांश के लिए एक शब्द दीजिये।

जो करने योग्य हो

Ans
✗ 1. अकर्मठ
✓ 2. करणीय
✗ 3. अकरणीय
✗ 4. कर्मठ

Question ID : **9895806783**
Chosen Option : **4**

Q.6 रिक्त स्थान को भरने के लिए उपयुक्त शब्द का चयन करें।

_____ मित्र जीवन के लिए एक वरदान होता है।

Career Aglasem

Ans
1. सच्चा
2. बुरा
3. कच्चा
4. बदमाश

Question ID : **9895806770**
Chosen Option : **1**

Q.7 निम्नलिखित में से उस विकल्प का चयन करें जो 'साँप सूंघ जाना' मुहावरे का अर्थ व्यक्त करता है।

Ans
1. निश्चेष्ट हो जाना
2. दुखी हो जाना
3. प्रसन्न हो जाना
4. साँप को सूँघ कर जाना

Question ID : **9895806781**
Chosen Option : **1**

Q.8 दिए गए वाक्य का वह भाग ज्ञात करें जिसमें कोई त्रुटि है।

मनुष्य का जीवन इतनी विशाल है कि उसके आचरण से कोई न कोई प्रभावित हो ही जाता है।

Ans
1. मनुष्य का जीवन
2. इतनी विशाल है कि
3. उसके आचरण से
4. कोई न कोई प्रभावित हो ही जाता है।

Question ID : **9895806762**
Chosen Option : **3**

Q.9 दिए गए शब्द का विलोम चुनें।

हास्य

Ans
1. रुदन
2. विनोद
3. मनोरंजन
4. मनोरम

Question ID : **9895806778**
Chosen Option : **1**

Q.10 दिये गये वाक्यांश के लिए एक शब्द दीजिये।

दोपहर के बाद का समय

Ans
1. रात्रि
2. अपराह्न

Career Aglasem

✗ 3. पूर्वाह्न

✗ 4. मध्याह्न

Question ID : **9895806784**
Chosen Option : **4**

Q.11 दिए गए शब्द के पर्यायवाची शब्द का चयन करें।

आश्वासन

Ans ✔ 1. दिलासा

✗ 2. अविश्वास

✗ 3. अंदाजा

✗ 4. अविश्वसनीय

Question ID : **9895806780**
Chosen Option : **1**

Comprehension:

निम्नलिखित गद्यांश के रिक्त स्थानों की पूर्ति गद्यांश के नीचे दिए गए प्रश्नों के अनुसार कीजिए-

डॉ.कलाम _____ (1) इच्छाशक्ति वाले वैज्ञानिक थे। वे भारत को विकसित देश बनाने का _____ (2) सजोये हुए थे। उनका मानना था कि भारतवासियों को _____ (3) दृष्टि से सोचना चाहिए। हमें सपने देखने चाहिए। सपनों को विचारों में _____ (4)चाहिए। विचारों को कार्यवाही के माध्यम से _____ (5) में बदलना चाहिए।

SubQuestion No : 12

Q.12 गद्यांश में संकेतित रिक्त स्थान (1) के लिए उपयुक्त शब्द होगा।

Ans ✔ 1. दृढ़

✗ 2. नम्र

✗ 3. कम

✗ 4. कठोर

Question ID : **9895806772**
Chosen Option : **2**

Comprehension:

Career Aglasem

निम्नलिखित गद्यांश के रिक्त स्थानों की पूर्ति गद्यांश के नीचे दिए गए प्रश्नों के अनुसार कीजिए-

डॉ.कलाम _____ (1) इच्छाशक्ति वाले वैज्ञानिक थे। वे भारत को विकसित देश बनाने का _____ (2) सजोये हुए थे। उनका मानना था कि भारतवासियों को _____ (3) दृष्टि से सोचना चाहिए। हमें सपने देखने चाहिए। सपनों को विचारों में _____ (4)चाहिए। विचारों को कार्यवाही के माध्यम से _____ (5) में बदलना चाहिए।

SubQuestion No : 13

Q.13 गद्यांश में संकेतित रिक्त स्थान (2) के लिए उपयुक्त शब्द होगा।

Ans
✗ 1. अपना
✗ 2. आशंका
✗ 3. हकीकत
✓ 4. सपना

Question ID : **9895806773**
Chosen Option : **4**

Comprehension:

निम्नलिखित गद्यांश के रिक्त स्थानों की पूर्ति गद्यांश के नीचे दिए गए प्रश्नों के अनुसार कीजिए-

डॉ.कलाम _____ (1) इच्छाशक्ति वाले वैज्ञानिक थे। वे भारत को विकसित देश बनाने का _____ (2) सजोये हुए थे। उनका मानना था कि भारतवासियों को _____ (3) दृष्टि से सोचना चाहिए। हमें सपने देखने चाहिए। सपनों को विचारों में _____ (4)चाहिए। विचारों को कार्यवाही के माध्यम से _____ (5) में बदलना चाहिए।

SubQuestion No : 14

Q.14 गद्यांश में संकेतित रिक्त स्थान (3) के लिए उपयुक्त शब्द होगा।

Ans
✓ 1. व्यापक
✗ 2. क्षीण
✗ 3. संकुचित
✗ 4. संकीर्ण

Question ID : **9895806774**
Chosen Option : **1**

Comprehension:

Career Aglasem

निम्नलिखित गद्यांश के रिक्त स्थानों की पूर्ति गद्यांश के नीचे दिए गए प्रश्नों के अनुसार कीजिए-

डॉ.कलाम _____ (1) इच्छाशक्ति वाले वैज्ञानिक थे। वे भारत को विकसित देश बनाने का _____ (2) सजोये हुए थे। उनका मानना था कि भारतवासियों को _____ (3) दृष्टि से सोचना चाहिए। हमें सपने देखने चाहिए। सपनों को विचारों में _____ (4)चाहिए। विचारों को कार्यवाही के माध्यम से _____ (5) में बदलना चाहिए।

SubQuestion No : 15

Q.15 गद्यांश में संकेतित रिक्त स्थान (4) के लिए उपयुक्त शब्द होगा।

Ans
✗ 1. करना
✓ 2. बदलना
✗ 3. देना
✗ 4. उठाना

Question ID : **9895806775**
Chosen Option : **2**

Comprehension:

निम्नलिखित गद्यांश के रिक्त स्थानों की पूर्ति गद्यांश के नीचे दिए गए प्रश्नों के अनुसार कीजिए-

डॉ.कलाम _____ (1) इच्छाशक्ति वाले वैज्ञानिक थे। वे भारत को विकसित देश बनाने का _____ (2) सजोये हुए थे। उनका मानना था कि भारतवासियों को _____ (3) दृष्टि से सोचना चाहिए। हमें सपने देखने चाहिए। सपनों को विचारों में _____ (4)चाहिए। विचारों को कार्यवाही के माध्यम से _____ (5) में बदलना चाहिए।

SubQuestion No : 16

Q.16 गद्यांश में संकेतित रिक्त स्थान (5) के लिए उपयुक्त शब्द होगा।

Ans
✗ 1. कल्पना
✗ 2. आशा
✓ 3. हकीकत
✗ 4. सपना

Question ID : **9895806776**
Chosen Option : **3**

Q.17 दिए गए वाक्य में रेखांकित खंड को प्रतिस्थापित करने के लिए उपयुक्त विकल्प का चयन करें।

<u>रावण</u> लंका का राजा था।

Ans
✓ 1. दशानन

Career Aglasem

✗ 2. चतुरानन

✗ 3. सम्राट

✗ 4. पंचानन

Question ID : **9895806764**
Chosen Option : **1**

Q.18 सही वर्तनी वाले शब्द का चयन करें।

Ans
✗ 1. वीणापानी

✓ 2. वीणापाणि

✗ 3. विणापाणि

✗ 4. विणापनि

Question ID : **9895806786**
Chosen Option : **1**

Q.19 दिए गए वाक्य का वह भाग ज्ञात करें जिसमें कोई त्रुटि है।

देश के सामने शिक्षा और स्वास्थ्य संबंधी अनेकों समस्याएँ हैं।

Ans
✗ 1. समस्याएँ हैं।

✓ 2. अनेकों

✗ 3. शिक्षा और स्वास्थ्य संबंधी

✗ 4. देश के सामने

Question ID : **9895806761**
Chosen Option : **2**

Q.20 दिए गए शब्द के पर्यायवाची शब्द का चयन करें।

धनवान

Ans
✗ 1. यथेष्ट

✓ 2. सम्पन्न

✗ 3. महत्

✗ 4. संपूर्ण

Question ID : **9895806779**
Chosen Option : **2**

Q.21 दिए गए वाक्य का वह भाग ज्ञात करें जिसमें कोई त्रुटि है।

संस्कृति तब तक अंधी रहती है, जब तक राष्ट्र की अपनी वाणी नहीं होता।

Ans
✗ 1. अंधी रहती है,

✗ 2. संस्कृति तब तक

✗ 3. जब तक राष्ट्र की

✓ 4. अपनी वाणी नहीं होता।

Question ID : **9895806763**
Chosen Option : **4**

Q.22 सही वर्तनी वाले शब्द का चयन करें।

Ans
✗ 1. महातमा

✗ 2. माहत्मा

✗ 3. महत्मा

✓ 4. महात्मा

Question ID : **9895806785**
Chosen Option : **4**

Q.23 रिक्त स्थान को भरने के लिए उपयुक्त शब्द का चयन करें।

पुलिस विभाग को चाहिए कि वह _____ जनता को परेशान न करें।

Ans
✗ 1. अपराधी

✗ 2. दोषी

✓ 3. निर्दोष

✗ 4. निर्दय

Question ID : **9895806769**
Chosen Option : **4**

Q.24 दिए गए शब्द का विलोम चुनें।

संक्षेप

Ans
✗ 1. विक्षेप

✓ 2. विस्तार

✗ 3. लघु

✗ 4. कम

Question ID : **9895806777**
Chosen Option : **1**

Q.25 निम्नलिखित में से उस विकल्प का चयन करें जो 'सिर पर पाँव रखकर भागना' मुहावरे का अर्थ व्यक्त करता है।

Ans
✗ 1. धीरे-धीरे चलना

✗ 2. पाँव सिर के ऊपर रखकर भागना

✓ 3. बहुत तेज भागना

✗ 4. बहुत तेज कूदना

Question ID : **9895806782**

Chosen Option : **1**

Career Aglasem

aglasem.com