Career Aglasem

Constable (GD) in CAPFs, NIA, SSF and Rifleman (GD) in Assam Rifles Examination, 2018

Roll No. :	[redacted]
Registration No.	
Name :	
Exam Venue :	
Exam Time :	9:00 AM - 10:30 AM
Exam Date :	02/03/2019

Section : **General Section**

Q.1 उस विकल्प का चयन करें जो तीसरे पद से उसी प्रकार संबंधित है जिस प्रकार दूसरा पद पहले पद से संबंधित है।

थर्मामीटर : तापमान : : लैक्टोमीटर : ?

Ans
✔ 1. दूध
✘ 2. शहद
✘ 3. वर्षा
✘ 4. हवा

Question ID : **9895808217**
Chosen Option : **1**

Q.2 उस विकल्प का चयन करें जो तीसरे पद से उसी प्रकार संबंधित है जिस प्रकार दूसरा पद पहले पद से संबंधित है।

CC : GD : : LE : ?

Ans
✘ 1. PD
✘ 2. EE
✘ 3. RF
✔ 4. PF

Question ID : **9895808219**
Chosen Option : **4**

Q.3 नीचे दिए गए कथनों के बाद दो निष्कर्ष I और II दिए गए हैं। यह मानते हुए कि कथनों में दी गई जानकारी सत्य है, भले ही वह सर्वज्ञात तथ्यों से भिन्न प्रतीत होती हो और यह निर्णय करें कि कौन सा/से निष्कर्ष तार्किक रूप से और निश्चित रूप से कथन में दी गई जानकारी का अनुसरण करता है/करते हैं।

कथन:

I. अधिकांश कवि लड़के हैं।

II. कुछ लड़के चित्रकार हैं।

निष्कर्ष:

I. कुछ चित्रकार लड़के हैं।

II. कुछ कवि चित्रकार हैं।

Ans
✘ 1. केवल निष्कर्ष II अनुसरण करता है।
✘ 2. या तो निष्कर्ष I या II अनुसरण करता है।
✘ 3. निष्कर्ष I और II दोनों अनुसरण करते हैं।

✔ 4. केवल निष्कर्ष I अनुसरण करता है।

Question ID : **9895808225**
Chosen Option : **--**

Q.4 आठ मित्र A, B, C, D, E, F, H और G समूह चर्चा के लिए एक गोलाकार मेज के चारों ओर आमने - सामने बैठे हैं। A, F के सामने और E के दाएँ से दूसरा है। B और D आमने - सामने बैठे हैं। G, C और A. के बीच में है। H, E के बाएं ओर है। E के सामने कौन बैठा है?

Ans
✘ 1. B
✔ 2. C
✘ 3. D
✘ 4. F

Question ID : **9895808223**
Chosen Option : **4**

Q.5 उस विकल्प का चयन करें जो तीसरे पद से उसी प्रकार संबंधित है जिस प्रकार दूसरा पद पहले पद से संबंधित है।

2 : 12 : : 5 : ?

Ans
✘ 1. 10
✘ 2. 20
✔ 3. 30
✘ 4. 15

Question ID : **9895808229**
Chosen Option : **3**

Q.6 असंगत का चयन करें।

Ans
✔ 1. EFRS
✘ 2. CODQ
✘ 3. ANBO
✘ 4. GTHU

Question ID : **9895808215**
Chosen Option : **4**

Q.7 विकल्पों में से उस आकृति की पहचान करें जिसमें दी गई आकृति अंतर्निहित है। (घुमाने की अनुमति नहीं है)



Ans
✘ 1. 
✘ 2. 

aglasem.com

✔ 3. 

✘ 4. 

Question ID : **9895808235**
Chosen Option : **3**

Q.8 केवल एक रनवे है जो बारी - बारी से सात उड़ानों द्वारा उपयोग किया जाएगा। P और Q रनवे का उपयोग न तो पहले करेंगे और न ही अंत में। S, R के बाद इसका दूसरा उपयोग करेगा। M, O के पहले इसका दूसरा उपयोग करेगा। N, O के बाद और R के पहले इसका उपयोग करेगा। Q, R के ठीक पहले उपयोग करेगा। M से ठीक बाद रनवे का उपयोग कौन करेगा?

Ans
✔ 1. P
✘ 2. N
✘ 3. O
✘ 4. Q

Question ID : **9895808224**
Chosen Option : **2**

Q.9 उस विकल्प का चयन करें जो प्रश्न चिह्न के स्थान पर आएगा और दिए गए पैटर्न को पूरा करेगा।

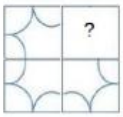

Ans
✘ 1. 

✘ 2. 

✔ 3. 

✘ 4. 

Question ID : **9895808234**
Chosen Option : **3**

Q.10

Career Aglasem

दिए गए विकल्पों में से लुप्त संख्या ज्ञात करें।

4	15	35
13	21	42
9	6	?

Ans
1. 15 ✗
2. 11 ✗
3. 7 ✓
4. 12 ✗

Question ID : **9895808231**
Chosen Option : **4**

Q.11 दी गई श्रृंखला में अगली संख्या ज्ञात करें।

6, 12, 21, 32, ?

Ans
1. 53 ✗
2. 41 ✗
3. 49 ✗
4. 47 ✓

Question ID : **9895808228**
Chosen Option : **2**

Q.12 चार संख्याएँ दी गई हैं जिनमें से तीन संख्याएँ किसी न किसी रूप में समान हैं, जबकि एक संख्या भिन्न है। असंगत संख्या चुनिए।

Ans
1. 676 ✗
2. 571 ✓
3. 361 ✗
4. 484 ✗

Question ID : **9895808230**
Chosen Option : **4**

Q.13 उस विकल्प का चयन करें जो तीसरे पद से उसी प्रकार संबंधित है जिस प्रकार दूसरा पद पहले पद से संबंधित है।

मछली : प्लवक : : मेंढक : ?

Ans
1. अपतृण ✗
2. कीट ✓
3. जड़ी-बूटी ✗
4. सूखी घास ✗

Question ID : **9895808218**
Chosen Option : **1**

Q.14 चार शब्द दिए गए हैं, जिनमें से तीन किसी तरह से समान हैं, जबकि एक अलग है। असंगत शब्द का चयन करें।

Ans
1. हड़बड़ी ✗
2. मंदगति ✓
3. तीव्र गति ✗
4. दौड़ा-दौड़ी ✗

Question ID : **9895808216**
Chosen Option : **4**

Q.15 यदि एक निश्चित कूट में HOUSE को 68 के रूप में लिखा जाता है, तो उसी कूट में CASTLE को कैसे लिखा जाएगा?

Ans
1. 60 ✓
2. 59 ✗
3. 84 ✗
4. 72 ✗

Question ID : **9895808221**
Chosen Option : **1**

Q.16 यदि एक निश्चित कूट भाषा में APRON को BRUSR के रूप में लिखा जाता है, तो उसी कूट में STOVE को कैसे लिखा जाएगा?

Ans
1. VRTJZ ✗
2. TVRZJ ✗
3. TRVJZ ✗
4. TVRZI ✓

Question ID : **9895808220**
Chosen Option : **--**

Q.17 उस विकल्प का चयन करें जो दर्पण के दायीं ओर रखे जाने पर दिए गए शब्द की दर्पण छवि से सर्वाधिक मेल खाता है।

INTROVERT

Ans
1. TЯƎVOЯTNI ✓
2. TƎЯOVЯTNI ✗
3. IИTЯOVƎЯT ✗
4. IИTЯVOЯƎT ✗

Question ID : **9895808236**
Chosen Option : **--**

Q.18 यदि '+' का अर्थ 'जोड़' है, '÷' का अर्थ 'घटाव' है, '−' का अर्थ 'गुणा' है और '×' का अर्थ 'विभाजन' है तो निम्नलिखित समीकरण का मान क्या होगा?

48 × 6 − 5 ÷ 8 + 1 = ?

Ans
1. 49 ✗
2. 53 ✗
3. 56 ✗
4. 47 ✓

Question ID : **9895808232**
Chosen Option : **--**

Career Aglasem

Q.19 एक पैटर्न के साथ एक चौकोर पारदर्शी कागज पत्रक दिया गया है। जब पारदर्शी कागज पत्रक को बिंदुकित रेखा पर मोड़ा जाता है तो पैटर्न कैसे दिखाई देगा?



Ans

✗ 1. 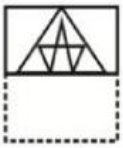

✗ 2. 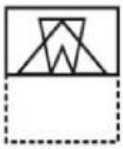

✓ 3. 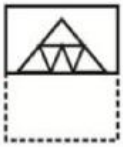

✗ 4. 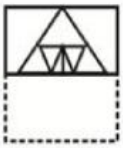

Question ID : **9895808237**
Chosen Option : **1**

Q.20 कौन सा विकल्प प्रश्न चिह्न के स्थान पर आएगा और दी गई आकृति श्रृंखला को पूरा करेगा?

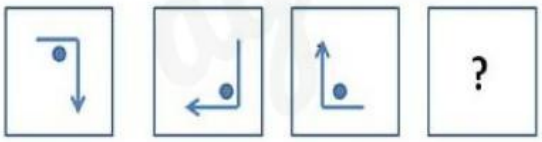

Ans

✓ 1. 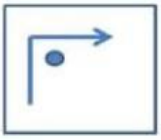

✗ 2. 

✗ 3. 

Career Aglasem

✗ 4. 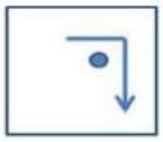

Question ID : **9895808233**
Chosen Option : **2**

Q.21 कक्षा की बेंच पर कुछ छात्र बैठे हैं। आनंद बाएं ओर से 7 वें स्थान पर बैठा हैं। बिनॉय दाएं ओर से 5वें स्थान पर बैठा हैं। आनंद और बिनॉय के बीच में पांच छात्र बैठे हैं। कुल मिलाकर, कक्षा में बेंच की छह पंक्तियाँ हैं, जिनमें से सभी पर समान संख्या में छात्र बैठे हैं। कक्षा में छात्रों की कुल संख्या कितनी है?

Ans
✓ 1. 102
✗ 2. 114
✗ 3. 122
✗ 4. 99

Question ID : **9895808222**
Chosen Option : **2**

Q.22 वेन आरेख का चयन करें जो तीन दिए गए वर्गों के बीच के संबंध को सर्वोत्तम दर्शाता है।

कलम, मेज, लेखनसामग्री

Ans
✗ 1. 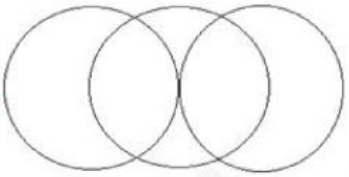
✓ 2. 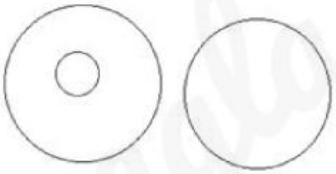
✗ 3. 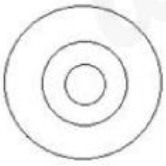
✗ 4. 

Question ID : **9895808238**
Chosen Option : **3**

Q.23 दी गई श्रृंखला में अगली संख्या ज्ञात करें।

37, 45, 53, 61, ?

Ans
✗ 1. 65

Career Aglasem

✔ 2. 69
✘ 3. 62
✘ 4. 72

Question ID : **9895808227**
Chosen Option : **2**

Q.24 दी गई श्रृंखला में आगे अक्षरों की कौन सी जोड़ी होनी चाहिए?

AB, DE, GH, JK, ?

Ans
✘ 1. PQ
✘ 2. RT
✔ 3. MN
✘ 4. UW

Question ID : **9895808214**
Chosen Option : **3**

Q.25 नीचे दिए गए कथनों के बाद दो निष्कर्ष I और II दिए गए हैं। यह मानते हुए कि कथनों में दी गई जानकारी सत्य है, भले ही वह सर्वज्ञात तथ्यों से भिन्न प्रतीत होती हो और यह निर्णय करें कि कौन सा/से निष्कर्ष तार्किक रूप से और निश्चित रूप से कथन में दी गई जानकारी का अनुसरण करता है/करते हैं।

कथन:

I. सभी पेंसिल गलियाँ हैं।

II. सभी गलियाँ कुटियाँ हैं।

निष्कर्ष:

I. सभी कुटियाँ पेंसिल हैं।

II. कुछ कुटिया पेंसिल हैं।

Ans
✘ 1. केवल निष्कर्ष I अनुसरण करता है।
✘ 2. या तो निष्कर्ष I या II अनुसरण करता है।
✘ 3. निष्कर्ष I और II दोनों अनुसरण करते हैं।
✔ 4. केवल निष्कर्ष II अनुसरण करता है।

Question ID : **9895808226**
Chosen Option : **--**

Q.26 पारंपरिक तापदीप्त बल्ब में फिलामेंट किस धातु का बना होता है?

Ans
✘ 1. तांबा
✘ 2. लोहा
✘ 3. प्लैटिनम
✔ 4. टंगस्टन

Question ID : **9895807292**
Chosen Option : **4**

Q.27 एक गैण्डे के सींग और मानव बाल में मौजूद संरचनात्मक प्रोटीन का नाम क्या है?

Ans
✘ 1. एमिनो एसिड

✔ 2. केरातिन

✗ 3. मेलेनिन

✗ 4. ग्लाइकोलाइटिक

Question ID : **9895807294**
Chosen Option : **1**

Q.28 कन्या भ्रूण हत्या की प्रथा को रोकने के लिए भारत सरकार ने गर्भधारण-पूर्व और प्रसव पूर्व निदान तकनीक (PNDT) अधिनियम कब पारित किया?

Ans ✔ 1. 1994

✗ 2. 1992

✗ 3. 1991

✗ 4. 1996

Question ID : **9895807290**
Chosen Option : **2**

Q.29 92 साल तक अलग रहने के बाद रेल बजट को किस साल केंद्रीय बजट में शामिल किया गया?

Ans ✗ 1. 2015-16

✗ 2. 2018-19

✔ 3. 2017-18

✗ 4. 2014-15

Question ID : **9895807287**
Chosen Option : **4**

Q.30 सामुदायिक बाजार को निम्नलिखित में से किस संगठन द्वारा विनियमित किया जाता है?

Ans ✗ 1. BSE (बॉम्बे स्टॉक एक्सचेंज)

✗ 2. RBI (भारतीय रिजर्व बैंक)

✗ 3. NSE (नेशनल स्टॉक एक्सचेंज)

✔ 4. SEBI (भारतीय प्रतिभूति और विनिमय बोर्ड)

Question ID : **9895807288**
Chosen Option : **3**

Q.31 लोकप्रिय नृत्य 'बिदेसिया' किस भारतीय राज्य से संबंधित है?

Ans ✗ 1. झारखंड

✗ 2. पश्चिम बंगाल

✔ 3. बिहार

✗ 4. ओडिशा

Question ID : **9895807278**
Chosen Option : **1**

Q.32 किस खिलाड़ी ने टेस्ट क्रिकेट में सर्वाधिक प्लेयर ऑफ़ द मैच पुरस्कार जीते हैं?

Career Aglasem

Ans
✗ 1. शेन वार्न
✗ 2. मुथैया मुरलीधरन
✓ 3. जैक्स कैलिस
✗ 4. सचिन तेंडुलकर

Question ID : **9895807283**
Chosen Option : **2**

Q.33 सिंधु घाटी चार बड़ी प्राचीन शहरी सभ्यताओं का गृह था। निम्नलिखित में से कौन सा उनमें से एक नहीं है?

Ans
✗ 1. दक्षिण एशिया
✓ 2. रूस
✗ 3. मेसोपोटामिया
✗ 4. मिस्र

Question ID : **9895807302**
Chosen Option : **--**

Q.34 असम में पारंपरिक घरों को स्टिल्ट पर क्यों बनाया जाता है?

Ans
✗ 1. अस्वाथ्यकर परिस्थितियों का खतरा
✓ 2. बाढ़ और वन्यजीवों का खतरा
✗ 3. भारी सूखे का खतरा
✗ 4. संदूषण का खतरा

Question ID : **9895807298**
Chosen Option : **--**

Q.35 मार्शल आर्ट 'डम्बे' किस महाद्वीप से संबंधित है?

Ans
✗ 1. अमेरिका
✓ 2. अफ्रीका
✗ 3. यूरोप
✗ 4. ऑस्ट्रेलिया

Question ID : **9895807282**
Chosen Option : **--**

Q.36 भगवान महावीर की शिक्षाओं के संकलन को क्या कहा जाता है?

Ans
✓ 1. अगम सूत्र
✗ 2. श्रुति सूत्र
✗ 3. पिबी सूत्र
✗ 4. अवेस्ता सूत्र

Question ID : **9895807300**
Chosen Option : **2**

Q.37 इथेनॉलका उत्पादन किस प्रक्रिया द्वारा किया जाता है?

Ans
✔ 1. किण्वन
✘ 2. लवणीकरण
✘ 3. संयोजन
✘ 4. अनुमापन

Question ID : **9895807293**
Chosen Option : **1**

Q.38 _____ के कारण खसरा की बीमारी होती है।

Ans
✘ 1. कवक
✔ 2. वायरस
✘ 3. अमीबा
✘ 4. बैक्टीरिया

Question ID : **9895807296**
Chosen Option : **4**

Q.39 भारत में 'एकल नागरिकता' की अवधारणा को निम्नलिखित में से किस राष्ट्र के संविधान के आधार पर अपनाया गया?

Ans
✘ 1. आयरलैंड
✘ 2. रूस
✘ 3. संयुक्त राज्य अमेरिका
✔ 4. यूनाइटेड किंगडम

Question ID : **9895807289**
Chosen Option : **3**

Q.40 भारत के किस राज्य में भगोरिया हाट उत्सव मनाया जाता है?

Ans
✘ 1. उत्तर प्रदेश
✘ 2. बिहार
✔ 3. मध्य प्रदेश
✘ 4. राजस्थान

Question ID : **9895807279**
Chosen Option : **4**

Q.41 पश्चिमी घाट की पश्चिमी ढलानें पूर्वी ढलानों की तुलना में घने जंगलों से ढकी क्यों हैं?

Ans
✘ 1. कम वर्षा होती है
✔ 2. अधिक वर्षा होती है
✘ 3. कम प्रकाश पड़ता है

✗ 4. अधिक प्रकाश पड़ता है

Question ID : **9895807297**
Chosen Option : **--**

Q.42 _____ वह दर है जिस पर वाणिज्यिक बैंक निधियों की कमी के मामले में भारतीय रिज़र्व बैंक (RBI) से उधार लेते हैं।

Ans
✗ 1. रिवर्स रेपो दर
✗ 2. बाजार दर
✗ 3. विनिमय दर
✓ 4. रेपो दर

Question ID : **9895807286**
Chosen Option : **2**

Q.43 'ट्रेन टू पाकिस्तान' निम्नलिखित में से किस लेखक द्वारा लिखी गई पुस्तक है?

Ans
✓ 1. खुशवंत सिंह
✗ 2. रस्किन बॉन्ड
✗ 3. मोहसिन हामिद
✗ 4. सआदत हसन मंटो

Question ID : **9895807284**
Chosen Option : **3**

Q.44 भारत और पाकिस्तान द्वारा सर्वोच्च नागरिक सम्मान (भारत रत्न और निशान-ए-पाकिस्तान) पाने वाले एकमात्र भारतीय नेता कौन हैं?

Ans
✗ 1. सरदार वल्लभभाई पटेल
✗ 2. महात्मा गांधी
✗ 3. जवाहर लाल नेहरू
✓ 4. मोरारजी देसाई

Question ID : **9895807285**
Chosen Option : **4**

Q.45 निम्नलिखित में से कौन से देश में दुनिया का सबसे बड़ा कृषि भूमि क्षेत्र है?

Ans
✓ 1. संयुक्त राज्य अमेरिका
✗ 2. रूस
✗ 3. भारत
✗ 4. चीन

Question ID : **9895807299**
Chosen Option : **3**

Q.46 किस तरह की जलवायु चाय के बागान के लिए सबसे उपयुक्त है?

Ans
✗ 1. शुष्क और धूल भरा

✗ 2. बहुत ठंडा मौसम

✗ 3. शुष्क और वातिक

✓ 4. गर्म और नम

Question ID : **9895807295**
Chosen Option : **2**

Q.47 असम के आहोम सामाज्य और मुगलों के बीच हुई सरायघाट की लड़ाई किस वर्ष हुई थी?

Ans
✗ 1. 1635

✗ 2. 1652

✗ 3. 1642

✓ 4. 1671

Question ID : **9895807301**
Chosen Option : **--**

Q.48 राजबाड़ी के अखंड खंडहर किस भारतीय राज्य में स्थित हैं?

Ans
✗ 1. मेघालय

✓ 2. नागालैंड

✗ 3. असम

✗ 4. मिजोरम

Question ID : **9895807280**
Chosen Option : **--**

Q.49 मार्शल आर्ट 'थांग टा' किस भारतीय राज्य से संबंधित है?

Ans
✗ 1. ओडिशा

✓ 2. मणिपुर

✗ 3. असम

✗ 4. सिक्किम

Question ID : **9895807281**
Chosen Option : **2**

Q.50 जब भारतीय संविधान को अपनाया गया, तब इसमें कितनी अनुसूचियां थीं?

Ans
✗ 1. 10

✓ 2. 8

✗ 3. 12

✗ 4. 6

Question ID : **9895807291**
Chosen Option : **2**

Q.51 जब जया ने गोले के आयतन से गोले के पृष्ठीय क्षेत्रफल को विभाजित किया, तो उसे 2/3 cm उत्तर मिला। गोले की त्रिज्या क्या है?

Ans

1. 4.5 cm
2. 4.6 cm
3. 5.4 cm
4. 3.5 cm

Question ID : **9895807623**
Chosen Option : **4**

Q.52 ₹840 में 17 गेंदों को बेचने पर, 5 गेंदों के क्रय मूल्य के बराबर नुकसान होता है एक गेंद का क्रय मूल्य (₹ में) है:

Ans
1. ₹70
2. ₹60
3. ₹50
4. ₹55

Question ID : **9895807612**
Chosen Option : **3**

Q.53 निम्नलिखित रेखीय ग्राफ का अध्ययन करें और प्रश्न का उत्तर दें।

वर्षों में तीन कंपनियों से निर्यात (₹ करोड में)

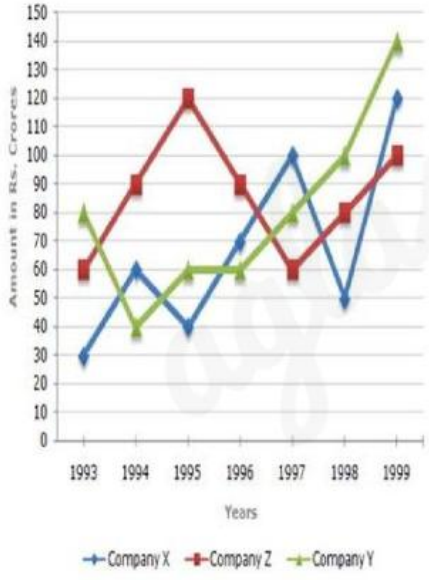

किस वर्ष में कंपनी Y और Z के निर्यात के बीच का अंतर अधिकतम था?

Ans
1. 1997
2. 1996
3. 1994
4. 1995

Question ID : **9895807626**
Chosen Option : **2**

Q.54

निम्नलिखित रेखीय ग्राफ का अध्ययन करें और प्रश्न का उत्तर दें।

वर्षों में तीन कंपनियों से निर्यात (₹ करोड में)

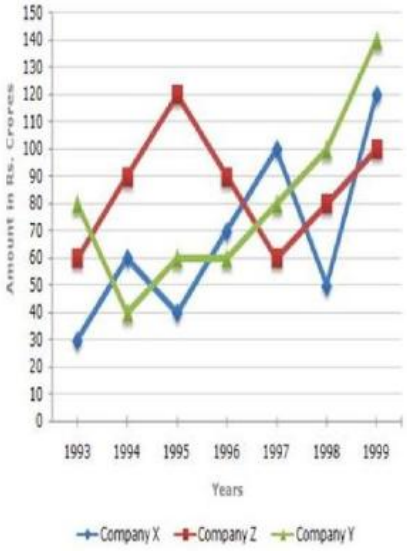

निम्नलिखित में से किस वर्ष में, तीनों कंपनियों का निर्यात सबसे अधिक था?

Ans
✗ 1. 1995
✗ 2. 1998
✗ 3. 1996
✓ 4. 1999

Question ID : **9895807625**
Chosen Option : **3**

Q.55 P,Q और R प्रकार की प्रत्येक वस्तु की कीमत क्रमशः ₹200, ₹300 और ₹400 है। सुरेश ₹2,000 में 1: 2: 3 के अनुपात में प्रत्येक प्रकार की वस्तु खरीदता है। उसने Q प्रकार की कितनी वस्तुएं खरीदी?

Ans
✗ 1. 4
✓ 2. 2
✗ 3. 3
✗ 4. 5

Question ID : **9895807614**
Chosen Option : **3**

Q.56 यदि 50,56 और 44 छात्रों के तीन बैचों के औसत अंक क्रमशः 55,52,40 हैं, तो सभी छात्रों के औसत अंक होंगे:

Ans
✗ 1. 49.84
✗ 2. 49
✓ 3. 49.48
✗ 4. 50.48

Question ID : **9895807606**
Chosen Option : **--**

Q.57 सैम ने ₹480 प्रति दर्जन की दर से 20 दर्जन खिलौने खरीदे। उसने उनमें से प्रत्येक को ₹42 की दर से बेचा। उसका लाभ प्रतिशत कितना था?

Ans
✔ 1. 5%
✘ 2. 5.5%
✘ 3. 6%
✘ 4. 4%

Question ID : **9895807611**
Chosen Option : **1**

Q.58 दो संख्याएँ 2 : 3 के अनुपात में हैं, यदि पहली से 50 घटाया जाए और दूसरे में 50 जोड़ा जाए, तो अनुपात 1 : 4 हो जाता है। मूल संख्याओं का योग ज्ञात कीजिए।

Ans
✔ 1. 250
✘ 2. 400
✘ 3. 300
✘ 4. 100

Question ID : **9895807615**
Chosen Option : **1**

Q.59 25 अवलोकनों का माध्य 36 है। इन अवलोकनों में से, यदि पहले 13 अवलोकनों का माध्य 32 है और अंतिम 13 अवलोकनों का माध्य 40 है, तो 13वाँ अवलोकन है:

Ans
✘ 1. 40
✔ 2. 36
✘ 3. 38
✘ 4. 23

Question ID : **9895807609**
Chosen Option : **--**

Q.60 वह सबसे छोटी संख्या, जिसे 3857 में जोड़ा जाना चाहिए ताकि योग 5, 6, 4 और 3 से पूर्ण विभाज्य हो:

Ans
✔ 1. 43
✘ 2. 33
✘ 3. 3
✘ 4. 17

Question ID : **9895807603**
Chosen Option : **3**

Q.61 राजू और विनोद एक नियतकार्य (असाइनमेंट) पर काम कर रहे हैं। राजू को कंप्यूटर पर 32 पेज टाइप करने में 8h लगते हैं, जबकि विनोद को 44 पेज टाइप करने में 6h लगते हैं। 102 पेजों का असाइनमेंट दो अलग-अलग कंप्यूटरों पर टाइप करने के लिए उन्हें एक साथ काम करने में कितना समय लगेगा?

Ans
✘ 1. 14 h
✘ 2. 10 h
✔ 3. 9 h
✘ 4. 12 h

Question ID : **9895807619**
Chosen Option : **1**

Q.6

Career Aglasem

2 A, B और C का औसत वजन 55 kg है। यदि A और B का औसत वजन 52 kg है और B और C का औसत वजन 48 kg है, तो B का वजन है:

Ans
✗ 1. 50 kg
✗ 2. 30 kg
✓ 3. 35 kg
✗ 4. 32 kg

Question ID : **9895807607**
Chosen Option : **2**

Q.63 प्रति वर्ष चक्रवृद्धि ब्याज की किस दर से ₹1,800 की राशि दो वर्षों में ₹2178 हो जाएगी?

Ans
✗ 1. 12%
✓ 2. 10%
✗ 3. 13%
✗ 4. 11%

Question ID : **9895807617**
Chosen Option : **--**

Q.64 अपनी वास्तविक गति के $3/8^{th}$ पर यात्रा करने वाली एक कार 2 h.10min में 65 km की दूरी तय करती है। कार की वास्तविक गति ज्ञात कीजिए।

Ans
✗ 1. 40 km/h
✓ 2. 80 km/h
✗ 3. 120 km/h
✗ 4. 160 km/h

Question ID : **9895807620**
Chosen Option : **2**

Q.65 निम्नलिखित रेखीय ग्राफ का अध्ययन करें और प्रश्न का उत्तर दें।

वर्षों में तीन कंपनियों से निर्यात (₹ करोड में)

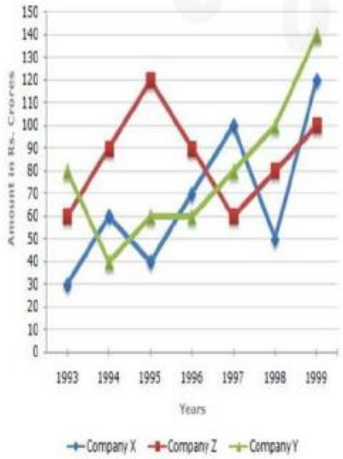

तीनों कंपनियों के 1994 में औसत निर्यात और 1995 में औसत र्यात के बीच क्या अंतर था?

Ans
✗ 1. ₹30 करोड़
✓ 2. ₹10 करोड़

✗ 3. ₹20 करोड़

✗ 4. ₹5 करोड़

Question ID : **9895807627**
Chosen Option : **3**

Q.66 सरलीकृत करें:

8.4 - [5 + 0.3 of (3.3 - 2.6 × 1.07)]

Ans
✗ 1. 3.6244

✓ 2. 3.2446

✗ 3. 3.2464

✗ 4. 3.6442

Question ID : **9895807605**
Chosen Option : **--**

Q.67 एक व्यक्ति 10 km/h की गति से कल्याण से मुंबई जाता है और 15km/h की गति से कल्याण वापस लौटता है। पूरी यात्रा में उसकी औसत गति क्या है?

Ans
✗ 1. 15 km/h

✗ 2. 42 km/h

✓ 3. 12 km/h

✗ 4. 56 km/h

Question ID : **9895807621**
Chosen Option : **--**

Q.68 ₹2,000 पर 20% छूट और 10% एवं 10% की 2 क्रमिक छूटों में अंतर होगा:

Ans
✗ 1. ₹30

✗ 2. ₹40

✓ 3. ₹20

✗ 4. ₹0

Question ID : **9895807608**
Chosen Option : **--**

Q.69 सरलीकृत करें:

25 - 48 ÷ 6 + 12 × 2

Ans
✗ 1. 43

✗ 2. 51

✓ 3. 41

✗ 4. 45

Question ID : **9895807604**
Chosen Option : **--**

Q.70 पिता और उसके पुत्र की वर्तमान आयु का अनुपात 4 : 1 है । 5 वर्ष पहले, उनकी आयु 7 : 1 के अनुपात में थी। पुत्र की वर्तमान आयु है:

Ans
✗ 1. 8 वर्ष
✗ 2. 5 वर्ष
✗ 3. 3 वर्ष
✓ 4. 10 वर्ष

Question ID : **9895807613**
Chosen Option : --

Q.71 एक कस्बे की आबादी एक दशक में 1,85,000 से बढ़कर 2,77,500 हो गई। प्रति वर्ष जनसंख्या की औसत प्रतिशत वृद्धि कितनी है?

Ans
✗ 1. 4.37%
✓ 2. 5%
✗ 3. 8.75%
✗ 4. 6%

Question ID : **9895807610**
Chosen Option : --

Q.72 A ने B को 2 वर्षों के लिए ₹6,500 और C को 4 वर्षों के लिए ₹8,000 समान ब्याज दर से साधारण ब्याज पर दिए और उन दोनों से ब्याज के रूप में कुल ₹4,500 प्राप्त किए। प्रति वर्ष ब्याज दर है:

Ans
✓ 1. 10%
✗ 2. 7%
✗ 3. 8%
✗ 4. 5%

Question ID : **9895807616**
Chosen Option : --

Q.73 एक आयताकार बॉक्स की मूल चौड़ाई 20 cm है। बॉक्स को इस तरह से बनाया गया था कि इसकी लंबाई 15% बढ़ गई लेकिन चौड़ाई 5% कम हो गई। इसके कारण इसके क्षेत्रफल में 74 cm^2 की वृद्धि हुई। बॉक्स की लंबाई क्या है?

Ans
✗ 1. 20 cm
✗ 2. 30 cm
✓ 3. 40 cm
✗ 4. 60 cm

Question ID : **9895807624**
Chosen Option : --

Q.74 A उतने ही समय में एक निश्चित कार्य कर सकता है जितने समय में B और C मिलकर कर सकते हैं। यदि A और B एक साथ इसे 8 दिनों में कर सकते हैं और C अकेले 40 दिनों में कर सकता है, तो B अकेले इसे कितने दिन में कर सकता है?

Ans
✓ 1. 20 दिन
✗ 2. 30 दिन
✗ 3. 15 दिन
✗ 4. 25 दिन

Question ID : **9895807618**
Chosen Option : **2**

Q.7

Career Aglasem

5 कागज का प्रभार ₹55 प्रति किलोग्राम है। अगर एक किलोग्राम कागज $192m^2$ क्षेत्रफल को कवर करता है तो 8 मीटर कोर वाले एक घन को कवर करने में कितना खर्च (₹ में) होगा?

Ans
✗ 1. ₹192
✗ 2. ₹165
✗ 3. ₹55
✓ 4. ₹110

Question ID : **9895807622**
Chosen Option : --

Section : **English Language**

Q.1 Select the word which means the same as the group of words given.

A place in a large institution for the care of those who are ill.

Ans
✗ 1. Camp
✗ 2. Shelter
✓ 3. Clinic
✗ 4. Infirmary

Question ID : **9895807951**
Chosen Option : --

Comprehension:

In the following passage some words have been deleted.
Fill in the blanks with the help of the alternatives given.

Man is a 'social animal'. Hence, showing a (1) _____ behaviour is equivalent to showing an animal behaviour. Psychologists (2) _____ that though violent behaviour is inherent but it can be managed. Providing a healthy and cordial home environment to kids help them to build strong family values and reduce the (3) _____ to react violently. Rehabilitation homes and support programs are available for those (4) _____ need professional help. Meditation and practicing yoga also helps to (5) _____ negative attitude towards self and others.

SubQuestion No : 2

Q.2 Select the most appropriate option that will fill in the blank number 1.

Ans
✗ 1. submissive
✗ 2. ambitious
✓ 3. helpful
✗ 4. vicious

Question ID : **9895807940**
Chosen Option : --

Comprehension:

In the following passage some words have been deleted. Fill in the blanks with the help of the alternatives given.

Man is a 'social animal'. Hence, showing a (1) _____ behaviour is equivalent to showing an animal behaviour. Psychologists (2) _____ that though violent behaviour is inherent but it can be managed. Providing a healthy and cordial home environment to kids help them to build strong family values and reduce the (3) _____ to react violently. Rehabilitation homes and support programs are available for those (4) _____ need professional help. Meditation and practicing yoga also helps to (5) _____ negative attitude towards self and others.

SubQuestion No : 3

Q.3 Select the most appropriate option that will fill in the blank number 2.

Ans
✔ 1. speak
✗ 2. says
✗ 3. say
✗ 4. saying

Question ID : **9895807941**
Chosen Option : --

Comprehension:

aglasem.com

Career Aglasem

In the following passage some words have been deleted. Fill in the blanks with the help of the alternatives given.

Man is a 'social animal'. Hence, showing a (1) _____ behaviour is equivalent to showing an animal behaviour. Psychologists (2) _____ that though violent behaviour is inherent but it can be managed. Providing a healthy and cordial home environment to kids help them to build strong family values and reduce the (3) _____ to react violently. Rehabilitation homes and support programs are available for those (4) _____ need professional help. Meditation and practicing yoga also helps to (5) _____ negative attitude towards self and others.

SubQuestion No : 4

Q.4 Select the most appropriate option that will fill in the blank number 3.

Ans
1. preference ✗
2. choice ✗
3. aim ✗
4. tendency ✓

Question ID : **9895807942**
Chosen Option : **--**

Comprehension:

In the following passage some words have been deleted. Fill in the blanks with the help of the alternatives given.

Man is a 'social animal'. Hence, showing a (1) _____ behaviour is equivalent to showing an animal behaviour. Psychologists (2) _____ that though violent behaviour is inherent but it can be managed. Providing a healthy and cordial home environment to kids help them to build strong family values and reduce the (3) _____ to react violently. Rehabilitation homes and support programs are available for those (4) _____ need professional help. Meditation and practicing yoga also helps to (5) _____ negative attitude towards self and others.

SubQuestion No : 5

Q.5

Career Aglasem

Select the most appropriate option that will fill in the blank number 4.

Ans
1. whom
2. when
3. who
4. whose

Question ID : **9895807943**
Chosen Option : --

Comprehension:

In the following passage some words have been deleted. Fill in the blanks with the help of the alternatives given.

Man is a 'social animal'. Hence, showing a (1) _____ behaviour is equivalent to showing an animal behaviour. Psychologists (2) _____ that though violent behaviour is inherent but it can be managed. Providing a healthy and cordial home environment to kids help them to build strong family values and reduce the (3) _____ to react violently. Rehabilitation homes and support programs are available for those (4) _____ need professional help. Meditation and practicing yoga also helps to (5) _____ negative attitude towards self and others.

SubQuestion No : 6

Q.6 Select the most appropriate option that will fill in the blank number 5.

Ans
1. rectify
2. deal
3. unsettle
4. increase

Question ID : **9895807944**
Chosen Option : --

Q.7 Select the most appropriate option to substitute the underlined segment in the given sentence. If there is no need to substitute it, select No improvement.
He is felt extremely unhappy yesterday because of the inordinate delay of the messenger.

Ans
1. He have been feeling extremely unhappy yesterday
2. He was feeling extremely unhappy yesterday
3. He has feeling extremely unhappy yesterday
4. No improvement

Question ID : **9895807935**

Chosen Option : --

Q.8 From the given options, identify the segment in the sentence which contains the grammatical error.

With the help of skill- based education offer in colleges, many students will become eligible for various jobs.

Ans
1. many students will become ✗
2. eligible for various jobs ✗
3. With the help of ✓
4. skill- based education offer in ✗

Question ID : **9895807933**
Chosen Option : --

Q.9 Select the synonym of the given word.

ELAPSED

Ans
1. Ceased ✗
2. Prolonged ✓
3. Persuaded ✗
4. Connected ✗

Question ID : **9895807946**
Chosen Option : --

Q.10 Select the correctly spelt word.

Ans
1. Knowlege ✗
2. Knoledge ✓
3. Knowledg ✗
4. Knowledge ✗

Question ID : **9895807954**
Chosen Option : --

Q.11 Select the correctly spelt word.

Ans
1. Infrastracture ✗
2. Infrastructur ✗
3. Infrastructure ✓
4. Imfrastructure ✗

Question ID : **9895807953**
Chosen Option : --

Q.12 Select the option that means the same as the given idiom.

To turn over a new leaf

Ans
1. To turn over the page of a book ✗
2. To make new things happen ✗

✗ 3. To change one's behavior for better

✓ 4. To be always careful about one's behaviour

Question ID : **9895807950**
Chosen Option : --

Q.13 Select the most appropriate option to substitute the underlined segment in the given sentence. If there is no need to substitute it, select No improvement.

The newly- launched mobile phone application has been a great support for people in remote areas of the country.

Ans

✓ 1. applications has been a great support

✗ 2. applications will been a great support

✗ 3. No improvement

✗ 4. application have been a great support

Question ID : **9895807936**
Chosen Option : --

Q.14 Select the most appropriate option to substitute the underlined segment in the given sentence. If there is no need to substitute it, select No improvement.

The convict was informed that the judge will heard the case tomorrow.

Ans

✗ 1. judge hears a case

✓ 2. judge will hear the case

✗ 3. No improvement

✗ 4. judge will hearing a case

Question ID : **9895807934**
Chosen Option : --

Q.15 Select the option that means the same as the given idiom.

To bury the hatchet

Ans

✗ 1. To make peace

✗ 2. To make someone happy

✗ 3. To bury an axe

✓ 4. To bury old utensils

Question ID : **9895807949**
Chosen Option : --

Q.16 Select the synonym of the given word.

BOUNTIFUL

Ans

✗ 1. Generous

✓ 2. Pretty

✗ 3. Religious

✗ 4. Spiritual

Question ID : **9895807945**
Chosen Option : --

Q.17 Select the antonym of the given word.

ASSAULT

Ans
1. Strike ✗
2. Defend ✗
3. Agree ✗
4. Offend ✓

Question ID : **9895807948**
Chosen Option : --

Q.18 Select the word which means the same as the group of words given.

A close fitting cover for the blade of a knife or sword.

Ans
1. Sheath ✗
2. Mask ✗
3. Pouch ✗
4. Packet ✓

Question ID : **9895807952**
Chosen Option : --

Q.19 Select the most appropriate option to fill in the blank.

Researchers say that about 33 % of people with diabetes may _____ a skin disorder in their lifetime.

Ans
1. has been ✗
2. have ✗
3. have been ✗
4. has ✓

Question ID : **9895807938**
Chosen Option : --

Q.20 From the given options, identify the segment in the sentence which contains the grammatical error.

It makes us realise how unsuitable our education system are because it cannot help us deal with life's most basic issues.

Ans
1. It makes us realise ✓
2. education system are ✗
3. it cannot help us ✗
4. life's most basic issues ✗

Question ID : **9895807931**
Chosen Option : --

Q.21 Select the most appropriate word to fill in the blank.

The complexity of the current environment includes many challenges in general, but air pollution in _____.

Ans
1. common ✗

2. particular
3. public
4. overall

Question ID : **9895807955**
Chosen Option : --

Q.22 Select the most appropriate word to fill in the blank.

If you have a _____ for photography, you do not have to wait for your big break.

Ans
1. passion
2. claim
3. demand
4. response

Question ID : **9895807956**
Chosen Option : --

Q.23 Select the antonym of the given word.

INDOLENT

Ans
1. Lively
2. Sluggish
3. Inert
4. Lifeless

Question ID : **9895807947**
Chosen Option : --

Q.24 Select the most appropriate option to fill in the blank.

A toddler's brain _____ pretty much fully developed by the age of three.

Ans
1. were
2. was
3. is
4. are

Question ID : **9895807937**
Chosen Option : --

Q.25 From the given options, identify the segment in the sentence which contains the grammatical error.

Computers everywhere use random numbers as keys to locked or unlock encrypted information.

Ans
1. use random numbers as
2. keys to locked or unlock
3. encrypted information
4. Computers everywhere

Question ID : **9895807932**
Chosen Option : **--**

Section : **Hindi Language**

Q.1 रिक्त स्थान को भरने के लिए उपयुक्त शब्द का चयन करें।

वह चला गया था _____ रास्ते से लौट आया।

Ans
✗ 1. यदि
✗ 2. तो
✗ 3. वह
✓ 4. परंतु

Question ID : **9895806717**
Chosen Option : **4**

Q.2 दिए गए वाक्य का वह भाग ज्ञात करें जिसमें कोई त्रुटि है।

शिरीष के विशाल वृक्ष बड़ी छायादार होते हैं।

Ans
✓ 1. बड़ी छायादार
✗ 2. होते हैं।
✗ 3. शिरीष के
✗ 4. विशाल वृक्ष

Question ID : **9895806711**
Chosen Option : **1**

Q.3 रिक्त स्थान को भरने के लिए उपयुक्त शब्द का चयन करें।

अनाज _____ में उगता है।

Ans
✗ 1. जहाजों
✗ 2. सड़कों
✓ 3. खेतों
✗ 4. मैदोनों

Question ID : **9895806715**
Chosen Option : **3**

Q.4 रिक्त स्थान को भरने के लिए सबसे उपयुक्त शब्द का चयन करें।

बोतल में पानी _____ भरा है।

Ans
✔ 1. आधा
✗ 2. के बदले
✗ 3. को साथ
✗ 4. के बारे में

Question ID : **9895806716**
Chosen Option : **1**

Q.5 दिए गए शब्द का विलोम चुनें।

कृत्रिम

Ans
✗ 1. कृति
✗ 2. कृमि
✗ 3. बनावटी
✔ 4. प्राकृतिक

Question ID : **9895806725**
Chosen Option : **3**

Q.6 सही वर्तनी वाले शब्द का चयन करें।

Ans
✗ 1. बीछौना
✔ 2. बिछौना
✗ 3. विछौना
✗ 4. बिछोना

Question ID : **9895806734**
Chosen Option : **3**

Q.7 दिए गए शब्द के पर्यायवाची शब्द का चयन करें।

ग्रह

Ans
✔ 1. नक्षत्र
✗ 2. घर
✗ 3. आग्रह
✗ 4. कर्म

Question ID : **9895806728**
Chosen Option : **1**

Q.8 दिये गये वाक्यांश के लिए एक शब्द दीजिये।

राजनीति से संबंधित

Ans
✔ 1. राजनैतिक

Career Aglasem

✗ 2. सैद्धांतिक

✗ 3. नैतिक

✗ 4. अनैतिक

Question ID : **9895806732**
Chosen Option : **1**

Q.9 निम्नलिखित में से उस विकल्प का चयन करें जो 'रूह काँपना' मुहावरे का अर्थ व्यक्त करता है।

Ans

✗ 1. बहुत सर्दी लगना

✓ 2. बहुत डरना

✗ 3. बहुत काँपना

✗ 4. बहुत निडर

Question ID : **9895806729**
Chosen Option : **2**

Q.10 दिए गए वाक्य का वह भाग ज्ञात करें जिसमें कोई त्रुटि है।

पक्षियों की दुनिया कितना स्वच्छंद होती है।

Ans

✓ 1. कितना स्वच्छंद

✗ 2. पक्षियों की

✗ 3. होती है।

✗ 4. दुनिया

Question ID : **9895806709**
Chosen Option : **4**

Q.11 सही वर्तनी वाले शब्द का चयन करें।

Ans

✓ 1. क्षुधा

✗ 2. क्षूधा

✗ 3. क्षुदा

✗ 4. क्षूदा

Question ID : **9895806733**
Chosen Option : **1**

Q.12 दिए गए वाक्य में रेखांकित खंड को प्रतिस्थापित करने के लिए उपयुक्त विकल्प का चयन करें।

सब <u>आदमी समान</u> नहीं होते।

Ans

✗ 1. लोक

✗ 2. हर मानव

✗ 3. प्रत्येक व्यक्ति

Career Aglasem

✔ 4. मनुष्य बराबर

Question ID : **9895806713**
Chosen Option : **2**

Q.13 दिए गए शब्द के पर्यायवाची शब्द का चयन करें।

आवाज़

Ans
✔ 1. ध्वनि
✘ 2. अनादर
✘ 3. नगाड़ा
✘ 4. नंदिनी

Question ID : **9895806727**
Chosen Option : **1**

Q.14 दिए गए वाक्य में रेखांकित खंड को प्रतिस्थापित करने के लिए उपयुक्त विकल्प का चयन करें।

मोहन अपने काम में <u>प्रवीण</u> है।

Ans
✔ 1. दक्ष
✘ 2. शातिर
✘ 3. पूर्ण
✘ 4. चालाक

Question ID : **9895806712**
Chosen Option : **1**

Q.15 निम्नलिखित में से उस विकल्प का चयन करें जो 'लोहे के चने चबाना' मुहावरे का अर्थ व्यक्त करता है।

Ans
✘ 1. सरल कार्य करना
✘ 2. लोहे से निर्मित चने खाना
✔ 3. बहुत कठिन कार्य करना
✘ 4. अच्छा कार्य करना

Question ID : **9895806730**
Chosen Option : **3**

Q.16 दिए गए वाक्य का वह भाग ज्ञात करें जिसमें कोई त्रुटि है।

आकर्षण का केंद्र यह माण्डवगढ़ शाही महलों की खण्डहर है।

Ans
✔ 1. शाही महलों की
✘ 2. यह माण्डवगढ़
✘ 3. आकर्षण का केंद्र
✘ 4. खण्डहर है।

Question ID : **9895806710**
Chosen Option : **--**

Q.17 दिए गए शब्द का विलोम चुनें।

सत्कार

Ans
✔ 1. तिरस्कार
✘ 2. पुरस्कार
✘ 3. सम्मान
✘ 4. बेकार

Question ID : **9895806726**
Chosen Option : **1**

Q.18 दिये गये वाक्यांश के लिए एक शब्द दीजिये।

जिसकी आयु कम हो

Ans
✘ 1. दीर्घायु
✘ 2. चिरंजीवी
✔ 3. अल्पायु
✘ 4. शतायु

Question ID : **9895806731**
Chosen Option : **3**

Q.19 दिए गए वाक्य में रेखांकित खंड को प्रतिस्थापित करने के लिए उपयुक्त विकल्प का चयन करें।

हमारा ईश्वर में विश्वास है।

Ans
✘ 1. शंकर
✘ 2. विष्णु
✘ 3. कृष्ण
✔ 4. भगवान

Question ID : **9895806714**
Chosen Option : **4**

Comprehension:

aglasem.com

Career Aglasem

निम्नलिखित गद्यांश के रिक्त स्थानों की पूर्ति गद्यांश के नीचे दिए गए प्रश्नों के अनुसार कीजिए-

हमारा सौभाग्य है कि समय-समय पर हमारे देश में ऐसे अनेक ऋषि, महर्षि, विद्वान, संत और महात्मा पैदा हुए जिन्होंने विघटन, विरोध और _____ (1) की वृत्ति के खतरे को पहचाना और उन्हें समाप्त करने में अपनी पूर्ण _____ (2) लगा दी। कबीर और गांधी इसी प्रकार के व्यक्ति थे। उन्होंने एकता और सहिष्णुता की जो धारा बहायी, वह अभी तक _____ (3) नहीं हुई। आज भी हमारे देश में सौभाग्य से ऐसे नेता, विचारक और समाजसेवी _____ (4) हैं जो इस खतरे के विरुद्ध अपनी आवाज बुलंद करते रहते हैं और समय आने पर अपने _____ (5) की बाजी लगाने के लिए तैयार हो जाते हैं।

SubQuestion No : 20

Q.20 गद्यांश में संकेतित रिक्त स्थान (1) के लिए उपयुक्त शब्द होगा।

Ans
✗ 1. चुनाव
✓ 2. अलगाव
✗ 3. असंतुष्ट
✗ 4. लगाव

Question ID : **9895806720**
Chosen Option : **4**

Comprehension:

निम्नलिखित गद्यांश के रिक्त स्थानों की पूर्ति गद्यांश के नीचे दिए गए प्रश्नों के अनुसार कीजिए-

हमारा सौभाग्य है कि समय-समय पर हमारे देश में ऐसे अनेक ऋषि, महर्षि, विद्वान, संत और महात्मा पैदा हुए जिन्होंने विघटन, विरोध और _____ (1) की वृत्ति के खतरे को पहचाना और उन्हें समाप्त करने में अपनी पूर्ण _____ (2) लगा दी। कबीर और गांधी इसी प्रकार के व्यक्ति थे। उन्होंने एकता और सहिष्णुता की जो धारा बहायी, वह अभी तक _____ (3) नहीं हुई। आज भी हमारे देश में सौभाग्य से ऐसे नेता, विचारक और समाजसेवी _____ (4) हैं जो इस खतरे के विरुद्ध अपनी आवाज बुलंद करते रहते हैं और समय आने पर अपने _____ (5) की बाजी लगाने के लिए तैयार हो जाते हैं।

SubQuestion No : 21

Q.21

Career Aglasem

गद्यांश में संकेतित रिक्त स्थान (2) के लिए उपयुक्त शब्द होगा।

Ans
1. इच्छा
2. शक्ति
3. महत्वकांक्षा
4. स्वतंत्रता

Question ID : **9895806721**
Chosen Option : **2**

Comprehension:

निम्नलिखित गद्यांश के रिक्त स्थानों की पूर्ति गद्यांश के नीचे दिए गए प्रश्नों के अनुसार कीजिए-

हमारा सौभाग्य है कि समय-समय पर हमारे देश में ऐसे अनेक ऋषि, महर्षि, विद्वान, संत और महात्मा पैदा हुए जिन्होंने विघटन, विरोध और _____ (1) की वृत्ति के खतरे को पहचाना और उन्हें समाप्त करने में अपनी पूर्ण _____ (2) लगा दी। कबीर और गांधी इसी प्रकार के व्यक्ति थे। उन्होंने एकता और सहिष्णुता की जो धारा बहायी, वह अभी तक _____ (3) नहीं हुई। आज भी हमारे देश में सौभाग्य से ऐसे नेता, विचारक और समाजसेवी _____ (4) हैं जो इस खतरे के विरुद्ध अपनी आवाज बुलंद करते रहते हैं और समय आने पर अपने _____ (5) की बाजी लगाने के लिए तैयार हो जाते हैं।

SubQuestion No : 22

Q.22 गद्यांश में संकेतित रिक्त स्थान (3) के लिए उपयुक्त शब्द होगा।

Ans
1. बड़ी
2. दीर्घ
3. अधिक
4. क्षीण

Question ID : **9895806722**
Chosen Option : **4**

Comprehension:

Career Aglasem

निम्नलिखित गद्यांश के रिक्त स्थानों की पूर्ति गद्यांश के नीचे दिए गए प्रश्नों के अनुसार कीजिए-

हमारा सौभाग्य है कि समय-समय पर हमारे देश में ऐसे अनेक ऋषि, महर्षि, विद्वान, संत और महात्मा पैदा हुए जिन्होंने विघटन, विरोध और _____ (1) की वृत्ति के खतरे को पहचाना और उन्हें समाप्त करने में अपनी पूर्ण _____ (2) लगा दी। कबीर और गांधी इसी प्रकार के व्यक्ति थे। उन्होंने एकता और सहिष्णुता की जो धारा बहायी, वह अभी तक _____ (3) नहीं हुई। आज भी हमारे देश में सौभाग्य से ऐसे नेता, विचारक और समाजसेवी _____ (4) हैं जो इस खतरे के विरुद्ध अपनी आवाज बुलंद करते रहते हैं और समय आने पर अपने _____ (5) की बाजी लगाने के लिए तैयार हो जाते हैं।

SubQuestion No : 23

Q.23 गद्यांश में संकेतित रिक्त स्थान (4) के लिए उपयुक्त शब्द होगा।

Ans
✗ 1. वर्तमान
✓ 2. मौजूद
✗ 3. विलीन
✗ 4. लुप्त

Question ID : **9895806723**
Chosen Option : **1**

Comprehension:

निम्नलिखित गद्यांश के रिक्त स्थानों की पूर्ति गद्यांश के नीचे दिए गए प्रश्नों के अनुसार कीजिए-

हमारा सौभाग्य है कि समय-समय पर हमारे देश में ऐसे अनेक ऋषि, महर्षि, विद्वान, संत और महात्मा पैदा हुए जिन्होंने विघटन, विरोध और _____ (1) की वृत्ति के खतरे को पहचाना और उन्हें समाप्त करने में अपनी पूर्ण _____ (2) लगा दी। कबीर और गांधी इसी प्रकार के व्यक्ति थे। उन्होंने एकता और सहिष्णुता की जो धारा बहायी, वह अभी तक _____ (3) नहीं हुई। आज भी हमारे देश में सौभाग्य से ऐसे नेता, विचारक और समाजसेवी _____ (4) हैं जो इस खतरे के विरुद्ध अपनी आवाज बुलंद करते रहते हैं और समय आने पर अपने _____ (5) की बाजी लगाने के लिए तैयार हो जाते हैं।

SubQuestion No : 24

Q.24

Career Aglasem

गद्यांश में संकेतित रिक्त स्थान (5) के लिए उपयुक्त शब्द होगा।

Ans
1. इच्छा
2. प्राण
3. दिल
4. मन

Question ID : **9895806724**
Chosen Option : **4**

Q.25 रिक्त स्थान को भरने के लिए उपयुक्त शब्द का चयन करें।

रीमा ने _____ से फल काटे।

Ans
1. कुल्हाड़ी
2. तलवार
3. कैंची
4. चाकू

Question ID : **9895806718**
Chosen Option : **1**

aglasem.com