Constable (GD) in CAPFs, NIA, SSF and Rifleman (GD) in Assam Rifles Examination, 2018

Roll No. :	[redacted]
Registration No.	
Name :	
Exam Venue :	
Exam Time :	9:00 AM - 10:30 AM
Exam Date :	06/03/2019

Section : **General Section**

Q.1 निम्नलिखित में से कौन सी उत्तर आकृति, दी गई आकृति को पूरा करेगी?

प्रश्न आकृति

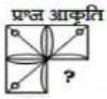

Ans

✔ 1. 

✘ 2. 

✘ 3. 

✘ 4. 

Question ID : **9895808610**
Chosen Option : **1**

Q.2 दिए गए विकल्पों में से संबंधित शब्द युगल का चयन करें।

सेल्सियस : तापमान : : _____ : _____

Ans

✘ 1. मीटर : पानी

✔ 2. किलोमीटर : दूरी

✘ 3. बल्ब : विद्युत प्रवाह

✘ 4. बैंक नोट : कार्यालय

Question ID : **9895808594**
Chosen Option : **1**

Q.3 चार भाई P, Q, R और S होटल जाते हैं। वे चार कमरे 301, 302, 303 और 304 बुक करते हैं। P और R के कमरों की संख्या का योग 603 है और R और S के कमरों की संख्या का योग 604 है। P, Q और R के कमरों की संख्या का योग क्या होगा?

Ans

✔ 1. 907

✘ 2. 904

Career Aglasem

Career Aglasem

3. 903

4. 905

Question ID : **9895808600**
Chosen Option : **1**

Q.4 नीचे दिए गए प्रश्न आकृति के अनुसार एक कागज़ को मोड़कर काटा जाता है। इस कागज़ को खोलने पर दी गयी उत्तर आकृतियों में से कौन सी आकृति दिखाई देगी?

प्रश्न आकृति:

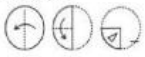

Ans

1. 

2. 

3. 

4. 

Question ID : **9895808613**
Chosen Option : **2**

Q.5 दिए गए समीकरण को संतुलित करने के लिए '•' चिन्हों का स्थान लेने के लिए गणितीय चिन्हों के सही संयोजन का चयन करें।

530 • 2 • 3 • 5 • 800

Ans

1. ÷ — — =
2. + + × =
3. ÷ + — =
4. ÷ × + =

Question ID : **9895808608**
Chosen Option : **4**

Q.6 एक निश्चित कूट में, TIM को RGK के रूप में कूटबद्ध किया जाता है। उसी प्रकार से PAINE को कैसे कूटबद्ध किया जाता है?

Ans

1. NGYLC
2. NYGCL
3. NGYCL
4. NYGLC

Question ID : **9895808596**
Chosen Option : **1**

Q.7 उस विकल्प का चयन करें जो सही रूप में रिक्त स्थान की पूर्ति करते हुए श्रृंखला को पूरा करें।

2, 7, 5, 10, 8, 13, _____

Ans
✗ 1. 9
✗ 2. 15
✗ 3. 38
✓ 4. 11

Question ID : **9895808603**
Chosen Option : **2**

Q.8 वह विकल्प चुनें जो दी गई आकृति श्रृंखला को पूरा करता है।

प्रश्न आकृति

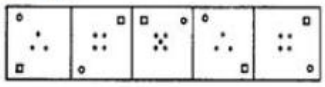

Ans
✗ 1. 
✗ 2. 
✗ 3. 
✓ 4. 

Question ID : **9895808609**
Chosen Option : **1**

Q.9 नीचे दिए गए कथनों के बाद दो निष्कर्ष I और II दिए गए हैं । यह मानते हुए कि कथनों में दी गई जानकारी सत्य है, भले ही वह सर्वज्ञात तथ्यों से भिन्न प्रतीत होती हो और यह निर्णय करें कि कौन सा/से निष्कर्ष तार्किक और निश्चित रूप से कथन में दी गई जानकारी का अनुसरण करता है/करते हैं।

कथन:

कुछ शर्ट, मोजे हैं।
कोई मोजा, लाल नहीं है।

निष्कर्ष:

I. कुछ मोजे, शर्ट हैं।
II. कोई शर्ट, लाल नहीं है।

Ans
✗ 1. या निष्कर्ष I या II अनुसरण करता है
✗ 2. न निष्कर्ष I न II अनुसरण करता है
✗ 3. केवल निष्कर्ष II अनुसरण करता है
✓ 4. केवल निष्कर्ष I अनुसरण करता है

Question ID : **9895808602**
Chosen Option : **1**

Q.10 उस विकल्प का चयन करें जो तीसरे पद से उसी तरह संबंधित है जिस प्रकार दूसरा पद पहले पद से संबंधित है।

10 : 30 : : 68 : ?

Career Aglasem

Ans
✗ 1. 112
✓ 2. 130
✗ 3. 100
✗ 4. 120

Question ID : **9895808605**
Chosen Option : **1**

Q.11 चार लड़के A, B, C, D और चार लड़कियां P, Q, R, S मैरी-गो-राउंड का खेल इस प्रकार खेल रहे हैं कि उनका मुख केंद्र की ओर है और वे एक वृत्त में हैं। कोई भी दो लड़कियाँ या दो लड़के एक दूसरे के समीप नहीं हैं। A, R के समीप बांयी ओर हैं, जो कि Q के विपरीत है। P और Q के मध्य केवल C है। P, S के विपरीत है जो कि B के समीप दांयी ओर है।

यदि R और S के मध्य केवल B है तो, B के विपरीत कौन है?

Ans
✗ 1. D
✓ 2. C
✗ 3. Q
✗ 4. A

Question ID : **9895808599**
Chosen Option : **4**

Q.12 दिए गए विकल्पों में से लुप्त संख्या ज्ञात करें।

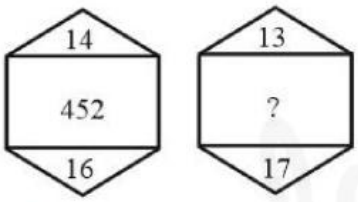

Ans
✗ 1. 440
✗ 2. 456
✓ 3. 458
✗ 4. 400

Question ID : **9895808607**
Chosen Option : **2**

Q.13 चार अक्षर समूह दिए गए हैं, जिनमें से तीन किसी तरह से समान हैं, जबकि एक अलग है। असंगत अक्षर समूह का चयन करें।

Ans
✗ 1. STaY
✗ 2. TRaY
✗ 3. CLaY
✓ 4. AWaY

Question ID : **9895808591**
Chosen Option : **3**

Q.14

Career Aglasem

नीचे दिए गए कथनों के बाद निष्कर्ष I, II, III और IV दिए गए हैं। यह मानते हुए कि कथनों में दी गई जानकारी सत्य है, भले ही वह सर्वज्ञात तथ्यों से भिन्न प्रतीत होती हो और यह निर्णय करें कि कौन सा/से निष्कर्ष तार्किक और निश्चित रूप से कथन में दी गई जानकारी का अनुसरण करता है/करते हैं।

कथन:

सभी आँख की पुतली, कॉर्निया हैं

कुछ कॉर्निया, लैंस हैं

सभी लैंस, रेटिना हैं

निष्कर्ष:

I. कुछ रेटिना, कॉर्निया हैं
II. कुछ रेटिना, आँख की पुतली हैं
III. कुछ लैंस, आँख की पुतली हैं
IV. कुछ कॉर्निया, रेटिना हैं

Ans
✔ 1. केवल I और IV अनुसरण करते हैं।

✘ 2. कोई भी अनुसरण नहीं करता है।

✘ 3. केवल III और IV अनुसरण करते हैं।

✘ 4. केवल I और II अनुसरण करते हैं।

Question ID : **9895808601**
Chosen Option : **1**

Q.15 निम्नलिखित आरेख का अध्ययन करें और दिए गए प्रश्नों का उत्तर दें।

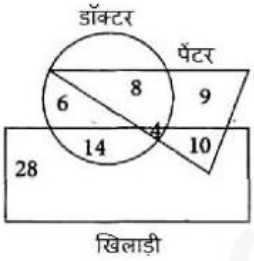

कितने चित्रकार न तो डॉक्टर हैं और न ही खिलाड़ी?

Ans
✘ 1. 8

✔ 2. 9

✘ 3. 6

✘ 4. 10

Question ID : **9895808614**
Chosen Option : **2**

Q.16 A, M, P, D, Q, R, W और B एक वृत्त के चारों ओर केंद्र की ओर मुख किये बैठे हैं। D, A के बांए से चौथे स्थान पर बैठा है, जो M के दांए से तीसरे स्थान पर है। P, Q के बांए से तीसरे स्थान पर बैठा है जो M के बांए से तीसरे स्थान पर है। R, W के दांए से तीसरे स्थान पर बैठा है, जो B के दांए से दूसरे स्थान पर है।

निम्न में से किस जोड़े में दूसरा व्यक्ति पहले व्यक्ति के तुरंत दांए बैठा है?

Ans
✘ 1. QB

✘ 2. RM

Career Aglasem

Career Aglasem

✗ 3. MD

✓ 4. AB

Question ID : **9895808598**
Chosen Option : **1**

Q.17 उस विकल्प का चयन करें जो सही रूप में रिक्त स्थान की पूर्ति करते हुए श्रृंखला को पूरा करें।

0.3, 0.8, 2.3, 4.8, _____

Ans
✗ 1. 6.5

✓ 2. 8.3

✗ 3. 7.5

✗ 4. 7.3

Question ID : **9895808604**
Chosen Option : **1**

Q.18 उस विकल्प का चयन करें जो सही रूप में रिक्त स्थान की पूर्ति करते हुए श्रृंखला को पूरा करें।

AB, BA, ABC, CBA, ABCD, _____

Ans
✗ 1. ACBD

✗ 2. CABD

✓ 3. DCBA

✗ 4. BACD

Question ID : **9895808590**
Chosen Option : **3**

Q.19 चार शब्द दिए गए हैं, जिनमें से तीन किसी तरह से समान हैं, जबकि एक अलग है। असंगत शब्द का चयन करें।

Ans
✗ 1. कुरान

✗ 2. बाइबिल

✗ 3. भगवद गीता

✓ 4. यहूदी

Question ID : **9895808592**
Chosen Option : **4**

Q.20 चार विकल्प दिए गए हैं, जिनमें से तीन किसी तरह से समान हैं, जबकि एक अलग है। असंगत विकल्प का चयन करें।

Ans
✗ 1. 2348

✗ 2. 6388

✓ 3. 1238

✗ 4. 3568

Question ID : **9895808606**

Chosen Option : **2**

Q.21 उस विकल्प आकृति का चयन करें, जिसमें प्रश्न आकृति छिपी हुई/ अंतर्निहित है।

प्रश्न आकृति

Ans

1. 
2. 
3. 
4. 

Question ID : **9895808611**
Chosen Option : **2**

Q.22 उस विकल्प का चयन करें जो दर्पण के दायीं ओर रखे जाने पर दी गई आकृति की दर्पण छवि से सर्वाधिक मेल खाता है।

प्रश्न आकृति:



Ans

1. 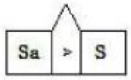
2. 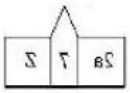
3. 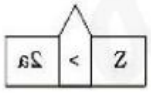
4. 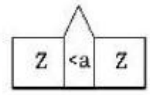

Question ID : **9895808612**
Chosen Option : **2**

Q.23 उस विकल्प का चयन करें जो तीसरे पद से उसी तरह संबंधित है जिस प्रकार दूसरा पद पहले पद से संबंधित है।

ROSEBERRY: SEBERRYRO: : BEAUTIFUL : ?

Ans

1. TIFULBEAU
2. EAUTIFULB
3. UTIFULBEA
4. AUTIFULBE

Question ID : **9895808595**
Chosen Option : **4**

Career Aglasem

Q.24 यदि PT को 8-10 के रूप में लिखा जाता है तो NLR को किस रुपे में लिखा जाएगा?

Ans
✗ 1. 7-6-8
✗ 2. 7-6-12
✗ 3. 8-6-11
✓ 4. 7-6-9

Question ID : **9895808597**
Chosen Option : **2**

Q.25 दिए गए विकल्पों में से संबंधित शब्द युगल का चयन करें।

दांत : काटना : : _____ : _____

Ans
✗ 1. भोजन : गंध
✗ 2. ट्यूबलाइट : गर्मी
✓ 3. पैर : चलना
✗ 4. झाड़ू : उड़ना

Question ID : **9895808593**
Chosen Option : **1**

Q.26 किस राजनैतिक पार्टी का चुनाव चिह्न 'हाथी' है?

Ans
✗ 1. राष्ट्रीय जनता दल
✗ 2. राष्ट्रीय कांग्रेस पार्टी
✗ 3. भारतीय कम्युनिस्ट पार्टी
✓ 4. बहुजन समाज पार्टी

Question ID : **9895807516**
Chosen Option : **4**

Q.27 काकोरी षड्यंत्र केस के लिए किन स्वतंत्रता सेनानियों को फांसी दी गई थी?

Ans
✗ 1. खुदीराम बोस और चंद्रशेखर आज़ाद
✓ 2. राम प्रसाद बिस्मिल और अशफाकउल्ला खान
✗ 3. चितरंजन दास और वासुदेव बलवंत फड़के
✗ 4. कृष्णजी गोपाल कर्वे और बाघा जतिन

Question ID : **9895807526**
Chosen Option : **3**

Q.28 भारत के संविधान में व्यापार की स्वतंत्रता की अवधारणा किस देश के संविधान से ली गई है?

Ans
✗ 1. संयुक्त राज्य अमेरिका

Career Aglasem

Career Aglasem

✗ 2. यूनाइटेड किंगडम

✔ 3. ऑस्ट्रेलिया

✗ 4. आयरलैंड

Question ID : **9895807514**
Chosen Option : **1**

Q.29 1997 में मिस वर्ल्ड का खिताब किसने जीता?

Ans
✗ 1. तारा ऐन फोन्सेका

✔ 2. डायना हेडन

✗ 3. जीनत अमान

✗ 4. रीता फारिया

Question ID : **9895807510**
Chosen Option : **2**

Q.30 भारत ने फाइनल में किस देश की टीम को हराकर अंडर 19 क्रिकेट विश्व कप, 2018 जीता?

Ans
✗ 1. दक्षिण अफ्रीका

✗ 2. इंग्लैंड

✗ 3. पाकिस्तान

✔ 4. ऑस्ट्रेलिया

Question ID : **9895807507**
Chosen Option : **1**

Q.31 भांगड़ा नृत्य किस राज्य में लोकप्रिय है?

Ans
✗ 1. महाराष्ट्र

✔ 2. पंजाब

✗ 3. पुदुचेरी

✗ 4. राजस्थान

Question ID : **9895807505**
Chosen Option : **2**

Q.32 आवर्त सारणी के 5 वें पीरियड और IIA समूह में किस तत्व को रखा गया है?

Ans
✗ 1. लेड (क्रमांक 82वें पर)

✔ 2. स्ट्रोंटियम (क्रमांक 38वें पर)

✗ 3. बेरियम (क्रमांक 56वें पर)

✗ 4. टेल्यूरियम (क्रमांक 52वें पर)

Question ID : **9895807519**
Chosen Option : **1**

Q.33 किस मिश्र धातु में निकेल, तांबा और जस्ता होते हैं?

Ans
✗ 1. टांका (सोल्डर)
✓ 2. जर्मन सिल्वर
✗ 3. रोज मेटल
✗ 4. बेल मेटल

Question ID : **9895807520**
Chosen Option : **1**

Q.34 मंगल ग्रह के वातावरण में अधिक मात्रा _____ की है।

Ans
✓ 1. कार्बन डाइऑक्साइड
✗ 2. ऑक्सीजन
✗ 3. हाइड्रोजन
✗ 4. अमोनिया

Question ID : **9895807524**
Chosen Option : **3**

Q.35 भारत में नवंबर 2018 के अंत में म्यूचुअल फ़ंड का आस्ति आधार _____ था।

Ans
✗ 1. ₹ 31 लाख करोड़
✗ 2. ₹ 47 लाख करोड़
✓ 3. ₹ 24 लाख करोड़
✗ 4. ₹ 19 लाख करोड़

Question ID : **9895807511**
Chosen Option : **1**

Q.36 _____ कंधे की त्रिकोणीय मांसपेशियां हैं।

Ans
✓ 1. अंसच्छद पेशी (डेल्टॉइडस)
✗ 2. सार्टोरियस
✗ 3. चर्वणिका
✗ 4. स्नायुजाल

Question ID : **9895807521**
Chosen Option : **1**

Q.37 केंद्रीय बजट 2018 में _____ को ₹ 5,750 करोड़ आवंटित किए गए।

Ans
✗ 1. उज्ज्वला योजना
✗ 2. सौभाग्य योजना
✗ 3. ऑपरेशन ग्रीन
✓ 4. राष्ट्रीय आजीविका मिशन

Career Aglasem

Question ID : **9895807512**
Chosen Option : **1**

Q.38 2018-19 में मध्यम स्टेपल किस्म के कपास का न्यूनतम समर्थन मूल्य कितना निर्धारित किया गया है?

Ans
✗ 1. ₹ 1,950 प्रति क्विंटल
✓ 2. ₹ 5,150 प्रति क्विंटल
✗ 3. ₹ 2,430 प्रति क्विंटल
✗ 4. ₹ 2,897 प्रति क्विंटल

Question ID : **9895807513**
Chosen Option : **2**

Q.39 कर्नाटक के राष्ट्रकूट वंश का पहला और सबसे महत्वपूर्ण राजा कौन था, जिसने बादामी के चालुक्यों को हराया था?

Ans
✗ 1. उत्तम
✗ 2. बिन्दुसार
✗ 3. हरिहर I
✓ 4. दंतिदुर्ग

Question ID : **9895807525**
Chosen Option : **2**

Q.40 छत्तीसगढ़ में कौन सा आदिवासी त्योहार आदिवासियों की देवी केशरपाल केशरपालिन को समर्पित है?

Ans
✓ 1. मदाई
✗ 2. सरहुल
✗ 3. पुली काली
✗ 4. मिंजर

Question ID : **9895807504**
Chosen Option : **2**

Q.41 2018 एशियाई खेलों में किस भारतीय ने 50 kg महिला फ्रीस्टाइल कुश्ती में स्वर्ण पदक जीता?

Ans
✓ 1. विनेश फोगट
✗ 2. बबिता कुमारी
✗ 3. साक्षी मलिक
✗ 4. कविता देवी

Question ID : **9895807506**
Chosen Option : **2**

Q.42 जोजी ला दर्रा किस पर्वत श्रृंखला में स्थित है?

Ans
✗ 1. लद्दाख पर्वतमाला
✗ 2. धौलाधार पर्वतमाला

Career Aglasem

Career Aglasem

✔ 3. जांस्कर पर्वतमाला

✘ 4. पूर्वी काराकोरम पर्वतमाला

Question ID : **9895807523**
Chosen Option : **1**

Q.43 अशोक के शिलालेखों में किस लिपि के सबसे अच्छे उदाहरण मिलते हैं?

Ans
✔ 1. ब्राह्मी

✘ 2. कदंब

✘ 3. शारदा

✘ 4. ग्रंथ

Question ID : **9895807503**
Chosen Option : **3**

Q.44 उपसर्ग '_____' 10^{15} के गुणक के बराबर है।

Ans
✘ 1. exa

✘ 2. atto

✘ 3. femto

✔ 4. peta

Question ID : **9895807518**
Chosen Option : **1**

Q.45 मुगल सेना के खिलाफ लड़ते हुए सिंहगढ़ किले के सफल बचाव में किस मराठा योद्धा की मृत्यु हुई थी?

Ans
✘ 1. चिमाजी अप्पा

✘ 2. बाजी पसालकर

✘ 3. बाजी प्रभु देशपांडे

✔ 4. तानाजी मालुसरे

Question ID : **9895807527**
Chosen Option : **3**

Q.46 संविधान के किस संशोधन से बोडो, डोगरी, संथाली और मैथिली को मान्यता प्राप्त भाषाओं की सूची में जोड़ा गया?

Ans
✘ 1. 73 वां संविधान संशोधन अधिनियम 2003

✘ 2. 103 वां संविधान संशोधन अधिनियम, 2018

✔ 3. 92 वां संविधान संशोधन अधिनियम 2003

✘ 4. 101 वां संविधान संशोधन अधिनियम, 2016

Question ID : **9895807515**
Chosen Option : **1**

Q.47 एक साधारण पेंडुलम 'T' की अवधि और उसकी लंबाई 'L' के बीच का संबंध _____ है। ('g' गुरुत्वाकर्षण के कारण त्वरण है)

Ans
✘ 1. $T=2\pi\ \sqrt{(g/L)}$

Career Aglasem

✔ 2. $T=2\pi\ \sqrt{(L/g)}$

✘ 3. $T=4\pi\ \sqrt{(L/g)}$

✘ 4. $T=4\pi\ \sqrt{(g/L)}$

Question ID : **9895807517**
Chosen Option : **2**

Q.48 _____ को छोड़कर निम्न सभी भाई- बहनों को दादा साहब फालके पुरस्कार मिला।

Ans
✔ 1. महेश भट्ट और विक्रम भट्ट

✘ 2. लता मंगेशकर और आशा भोसले

✘ 3. राज कपूर और शशि कपूर

✘ 4. बी आर चोपड़ा और यश चोपड़ा

Question ID : **9895807508**
Chosen Option : **4**

Q.49 'ब्योमकेश बख्शी स्टोरीज' के लेखक कौन हैं?

Ans
✘ 1. सत्यजीत रे

✘ 2. डेविड डेविडर

✘ 3. ऋत्विक घाटक

✔ 4. शरादिंदु बंदोपाध्याय

Question ID : **9895807509**
Chosen Option : **4**

Q.50 निम्नलिखित में से कौन सी नदी कृष्णा की सहायक नदी नहीं है?

Ans
✘ 1. वेन्ना

✘ 2. भीमा

✘ 3. कोयना

✔ 4. बेतवा

Question ID : **9895807522**
Chosen Option : **4**

Q.51 यदि $\frac{a}{b} = \frac{2}{3}$, तो $(5a^3 - 2a^2b) : (3ab^2 - b^3)$ का मान क्या है?

Ans
✘ 1. 32 : 29

✔ 2. 16 : 27

✘ 3. 27 : 16

✘ 4. 34 : 19

Question ID : **9895807840**
Chosen Option : **4**

Q.52 एक पाइप 20 मिनट में एक टंकी को भर सकता है जब की यह टंकी पूरी तरह भरी हो तब एक रिसाव से 28 मिनट में पूरी तरह से खाली हो जाती है। जब दोनों एक साथ खोल दिए जाए तो टंकी को भरने में कितना समय लगेगा?

Ans
✗ 1. 60 मिनट
✓ 2. 70 मिनट
✗ 3. 48 मिनट
✗ 4. 80 मिनट

Question ID : **9895807843**
Chosen Option : **3**

Q.53 एक व्यक्ति को 20 मीटर कपड़ा बेचने पर 4 मीटर कपड़े के बिक्री मूल्य के बराबर लाभ प्राप्त होता है। लाभ प्रतिशत कितना है?

Ans
✓ 1. 25%
✗ 2. 22%
✗ 3. 15%
✗ 4. 20%

Question ID : **9895807837**
Chosen Option : **4**

Q.54 ₹ 10000 रुपये की राशि को एक भाग को 8% और शेष को 10% प्रति वर्ष की दर से उधार दिया जाता है। यदि औसतन वार्षिक ब्याज 9.2% है, तो दोनों भाग कितने हैं?

Ans
✓ 1. ₹ 4000 और ₹ 6000
✗ 2. ₹ 5500 और ₹ 4500
✗ 3. ₹ 5000 और ₹ 5000
✗ 4. ₹ 4500 और ₹ 5500

Question ID : **9895807841**
Chosen Option : **1**

Q.55 $\frac{1}{3}+\frac{6}{7}\div\frac{6}{3}+\frac{8}{9}-\frac{2}{3}\times\frac{4}{3}$ का मान क्या है?

Ans
✗ 1. $\frac{17}{21}$
✗ 2. $\frac{9}{21}$
✓ 3. $\frac{16}{21}$
✗ 4. $\frac{15}{21}$

Career Aglasem

Question ID : **9895807829**
Chosen Option : **2**

Q.56 जॉन एक निश्चित दूरी का $\frac{2}{3}$ वां भाग बाइक से यात्रा करता है और शेष 6 किमी पैदल चलता है। पूरी यात्रा में वह कितने किमी की दूरी तय करता है?

Ans
1. 28 km
2. 18 km
3. 26 km
4. 14 km

Question ID : **9895807846**
Chosen Option : **2**

Q.57 विराट कोहली का 9 पारियों में एक निश्चित बैटिंग औसत है। दसवीं पारी में उन्होंने 106 रन बनाये जिससे उनका औसत 6 रन बढ़ गया। उनका नया बैटिंग औसत क्या हैं?:

Ans
1. 52
2. 46
3. 56
4. 48

Question ID : **9895807831**
Chosen Option : **2**

Q.58 3, 7 और 15 का चतुर्थानुपाती क्या है?

Ans
1. 35
2. 45
3. 25
4. 30

Question ID : **9895807839**
Chosen Option : **3**

Q.59 $\frac{10}{21}, \frac{20}{63}, \frac{55}{56}$ का लघुत्तम समापवर्त्य क्या है?

Ans
1. $\frac{5}{7}$
2. $\frac{5}{504}$
3. $\frac{220}{504}$
4. $\frac{220}{7}$

Question ID : **9895807828**
Chosen Option : **1**

Career Aglasem

Q.60 एक पासा दो बार फेंका जाता है। पहले फेंक पर एक संयुक्त संख्या और दूसरे फेंक पर अभाज्य संख्या प्राप्त करने की प्रायिकता क्या होगी?

Ans
✔ 1. $\frac{1}{6}$

✘ 2. $\frac{1}{2}$

✘ 3. $\frac{1}{4}$

✘ 4. $\frac{1}{9}$

Question ID : **9895807834**
Chosen Option : **4**

Q.61 निम्नलिखित प्रश्नों का उत्तर देने के लिए तालिका का ध्यान पूर्वक अध्ययन करें।

100 में से तीन विषयों में तीन छात्रों A, B एवं C द्वारा प्राप्त अंक

छात्र	विषय		
	गणित	विज्ञान	अंग्रेजी
A	88	86	66
B	65	74	78
C	72	68	84

परीक्षा में A और C के कुल अंको का अंतर कितना है?

Ans
✘ 1. 22

✘ 2. 15

✘ 3. 13

✔ 4. 16

Question ID : **9895807852**
Chosen Option : **3**

Q.62 भोपाल से वाराणसी तक जाने की ट्रेन की चाल 100 किमी प्रति घंटे है जबकि वाराणसी से भोपाल लौटते समय, उसकी चाल 80 किमी प्रति घंटे है। पूरी यात्रा के दौरान औसत गति कितनी है?
(दशमलव के दो स्थानों तक)

Ans
✘ 1. 86.53 kmph

✘ 2. 90.52 kmph

✔ 3. 88.89 kmph

✘ 4. 78.56 kmph

Question ID : **9895807832**
Chosen Option : **3**

Q.63 निम्नलिखित प्रश्नों में प्रश्नवाचक चिन्ह (?) के स्थान पर क्या आना चाहिए?
$(140+80\times2-24)\div(80+20\times3-40)=?$

Ans
✘ 1. 0.276

Career Aglasem
aglasem.com

Career Aglasem

✗ 2. -27.6

✗ 3. 276

✓ 4. 2.76

Question ID : **9895807830**
Chosen Option : **1**

Q.64 राम कुछ वस्तुएँ 70 की दर पर ₹ 890 में खरीद कर 60 की दर पर ₹ 890 में बेच देता है। उसका प्रतिशत लाभ क्या है?

Ans

✗ 1. $17\frac{1}{3}\%$

✗ 2. 20%

✗ 3. 25%

✓ 4. $16\frac{2}{3}\%$

Question ID : **9895807836**
Chosen Option : **2**

Q.65 एक किराना व्यापारी को ₹ 45 प्रति किग्रा. के बाजरे को ₹ 32 प्रति किग्रा. के बाजरे में किस अनुपात में मिलाना चाहिए ताकि मिश्रण को ₹ 48 प्रति किग्रा की दर से बेचने पर उसे 20% का लाभ प्राप्त हो सके?

Ans

✓ 1. 8 : 5

✗ 2. 4 : 1

✗ 3. 9 : 5

✗ 4. 7 : 5

Question ID : **9895807838**
Chosen Option : **3**

Q.66 एक बाइक की अंकित कीमत ₹ 33,600 है। खुदरा विक्रेता ने होली के अवसर पर 16% की छूट की घोषणा की। बाइक के लिए ग्राहक को कितनी राशि देनी होगी?

Ans

✗ 1. ₹ 5976

✓ 2. ₹ 28224

✗ 3. ₹ 20224

✗ 4. ₹ 5376

Question ID : **9895807833**
Chosen Option : **2**

Q.67 यदि आयत की लंबाई 4 : 5 के अनुपात में बढ़ जाती है और इसकी चौड़ाई 3 : 2 के अनुपात में कम हो जाती है, तो इसका क्षेत्रफल _____ के अनुपात में घट जाएगा।

Ans

✗ 1. 10 : 3

✗ 2. 4 : 3

✓ 3. 6 : 5

✗ 4. 2 : 1

Question ID : **9895807849**
Chosen Option : **3**

Q.68 एक ट्रेन 18 सेकंड में प्लेटफॉर्म को और 8 सेकंड में एक आदमी को पार करती है, जो प्लेटफॉर्म पर खड़ा है। यदि ट्रेन की लंबाई 100 मीटर है, तो प्लेटफॉर्म की लंबाई कितनी होगी?

Ans
✗ 1. 140 m
✗ 2. 130 m
✗ 3. 150 m
✓ 4. 125 m

Question ID : **9895807845**
Chosen Option : **2**

Q.69 एक व्यक्ति 50 मीटर लंबाई और 1 मीटर चौड़ाई का रेशमी कपड़ा ₹ 250 प्रति sq m की दर से खरीदता है और और 40 मीटर लंबाई और 2 मीटर चौड़ाई का सूती कपड़ा ₹ 200 प्रति वर्ग मीटर की दर से खरीदता है। दोनों कपड़ों की कीमतों में अंतर क्या है?

Ans
✗ 1. ₹ 3950
✗ 2. ₹ 3200
✓ 3. ₹ 3500
✗ 4. ₹ 4100

Question ID : **9895807847**
Chosen Option : **3**

Q.70 10 प्रतिशत की चक्रवृद्धि ब्याज दर पर 2 वर्ष के लिए ₹ 5000 की एक राशि निवेश की गई और ब्याज वार्षिकी संयोजित होता है। अर्जित ब्याज (₹ में) कितना है?

Ans
✓ 1. 1050
✗ 2. 500
✗ 3. 2100
✗ 4. 1000

Question ID : **9895807842**
Chosen Option : **1**

Q.71 एक विशेष प्रयोग में शामिल चूहों में से साठ प्रतिशत मादा थी। यदि प्रयोग के दौरान कुछ चूहें मर जाते है और मरने वाले चूहों में से 30% नर थे। पुरुष चूहों के मृत्यु दर तथा मादा चूहों के मृत्यु दर के बीच का अनुपात क्या था?

Ans
✗ 1. 6 : 7
✗ 2. 3 : 4
✗ 3. 9 : 16
✓ 4. 9 : 14

Question ID : **9895807835**
Chosen Option : **1**

Q.72

Career Aglasem

निम्नलिखित प्रश्नों का उत्तर देने के लिए तालिका का ध्यान पूर्वक अध्ययन करें।

100 में से तीन विषयों में तीन छात्रों A, B एवं C द्वारा प्राप्त अंक			
छात्र	विषय		
	गणित	विज्ञान	अंग्रेजी
A	88	86	66
B	65	74	78
C	72	68	84

सभी विषयों को मिलाकर 'A' द्वारा कुल प्राप्तांक कितना हैं?

Ans
✔ 1. 240
✘ 2. 242
✘ 3. 260
✘ 4. 228

Question ID : **9895807851**
Chosen Option : **4**

Q.73 यदि कोई आदमी घास- मैदान (लॉन) की घास को T मिनट में काटता है, तो वह 30 मिनट में घास का मैदान का कितना हिस्सा काट सकता है?

Ans
✘ 1. 30-T
✘ 2. T/30
✘ 3. T-30
✔ 4. 30/T

Question ID : **9895807844**
Chosen Option : **2**

Q.74 निम्नलिखित प्रश्नों का उत्तर देने के लिए तालिका का ध्यान पूर्वक अध्ययन करें।

100 में से तीन विषयों में तीन छात्रों A, B एवं C द्वारा प्राप्त अंक			
छात्र	विषय		
	गणित	विज्ञान	अंग्रेजी
A	88	86	66
B	65	74	78
C	72	68	84

सभी छात्रों के द्वारा गणित में प्राप्त अंको का औसत क्या है?

Ans
✘ 1. 87
✘ 2. 79
✔ 3. 75
✘ 4. 81

Question ID : **9895807850**
Chosen Option : **2**

Career Aglasem

Career Aglasem

Q.75 एक घनाभ का आधार क्षेत्रफल 34 cm सेमी है और ऊंचाई 3.5 सेमी है। घनाभ का आयतन कितना है?

Ans
1. 97 सेमी^{3}
2. 108 सेमी^{3}
3. ✔ 119 सेमी^{3}
4. 125 सेमी^{3}

Question ID : **9895807848**
Chosen Option : **3**

Section : **English Language**

Q.1 Identify the segment in the sentence which contains the grammatical error from the given options.

The thin wire that giving off light is called the filament.

Ans
1. the filament
2. giving off
3. light is called
4. ✔ The thin wire

Question ID : **9895808716**
Chosen Option : **--**

Q.2 Select the word which means the same as the group of words given.

A person who is recovering after an illness or medical treatment

Ans
1. Altruist
2. ✔ Healthy
3. Athlete
4. Convalescent

Question ID : **9895808736**
Chosen Option : **--**

Comprehension:

In the following passage some words have been deleted. Fill in the blanks with the help of the alternatives given. Select the most appropriate option for each number.

Those of us who live in (1) _____ covered with forests and surrounded (2) _____ hills may find it difficult to (3) _____ what a desert is really like. The (4) _____ belief is that it is (5) _____ endless stretch of sand where no rain falls and, therefore, no vegetation grows.

SubQuestion No : 3

Q.3 Select the most appropriate option that will fill in the blank number 1.

Ans
1. ✔ quarters

Career Aglasem

2. regions

3. territory

4. cities

Question ID : **9895808724**
Chosen Option : --

Comprehension:

In the following passage some words have been deleted. Fill in the blanks with the help of the alternatives given. Select the most appropriate option for each number.

Those of us who live in (1) _____ covered with forests and surrounded (2) _____ hills may find it difficult to (3) _____ what a desert is really like. The (4) _____ belief is that it is (5) _____ endless stretch of sand where no rain falls and, therefore, no vegetation grows.

SubQuestion No : 4

Q.4 Select the most appropriate option that will fill in the blank number 2.

Ans
1. for

2. from

3. by

4. with

Question ID : **9895808725**
Chosen Option : --

Comprehension:

In the following passage some words have been deleted. Fill in the blanks with the help of the alternatives given. Select the most appropriate option for each number.

Those of us who live in (1) _____ covered with forests and surrounded (2) _____ hills may find it difficult to (3) _____ what a desert is really like. The (4) _____ belief is that it is (5) _____ endless stretch of sand where no rain falls and, therefore, no vegetation grows.

SubQuestion No : 5

Q.5 Select the most appropriate option that will fill in the blank number 3.

Ans
1. look

2. feel

3. calculate

4. imagine

Question ID : **9895808726**
Chosen Option : --

Comprehension:

Career Aglasem

In the following passage some words have been deleted. Fill in the blanks with the help of the alternatives given. Select the most appropriate option for each number.

Those of us who live in (1) _____ covered with forests and surrounded (2) _____ hills may find it difficult to (3) _____ what a desert is really like. The (4) _____ belief is that it is (5) _____ endless stretch of sand where no rain falls and, therefore, no vegetation grows.

SubQuestion No : 6

Q.6 Select the most appropriate option that will fill in the blank number 4.

Ans
✗ 1. noted
✓ 2. fake
✗ 3. popular
✗ 4. attractive

Question ID : **9895808727**
Chosen Option : **--**

Comprehension:

In the following passage some words have been deleted. Fill in the blanks with the help of the alternatives given. Select the most appropriate option for each number.

Those of us who live in (1) _____ covered with forests and surrounded (2) _____ hills may find it difficult to (3) _____ what a desert is really like. The (4) _____ belief is that it is (5) _____ endless stretch of sand where no rain falls and, therefore, no vegetation grows.

SubQuestion No : 7

Q.7 Select the most appropriate option that will fill in the blank number 5.

Ans
✗ 1. the
✗ 2. no article needed
✗ 3. an
✓ 4. a

Question ID : **9895808728**
Chosen Option : **--**

Q.8 Identify the segment in the sentence which contains the grammatical error from the given options.

Seeds of mustard plants give us oil and the leave are used as a vegetable.

Ans
✗ 1. give us oil
✗ 2. leave are used
✓ 3. Seeds of
✗ 4. as a vegetable

Question ID : **9895808715**

Chosen Option : --

Q.9 Select the most appropriate option to substitute the underlined segment in the given sentence. If there is no need to substitute it, select No substitution required.

Tea leaves is separate from the liquid with a strainer, while preparing tea.

Ans
1. are separated from
2. No substitution required
3. were separating to
4. was separate to

Question ID : **9895808720**
Chosen Option : --

Q.10 Select the most appropriate word to fill in the blank.

The _____ of the minister's statement cannot be verified by people who have no access to official records.

Ans
1. ambiguity
2. validity
3. approval
4. rejection

Question ID : **9895808740**
Chosen Option : --

Q.11 Select the synonym of the given word.

LUCID

Ans
1. Unclear
2. Ambiguous
3. Confusing
4. Clear

Question ID : **9895808729**
Chosen Option : --

Q.12 Select the meaning of the given idiom.

Cool as Cucumber

Ans
1. to be clever
2. to be calm
3. to be aggressive
4. to be smart

Question ID : **9895808733**
Chosen Option : --

Q.13 Identify the segment in the sentence which contains the grammatical error from the given options.

The jute plant is normal harvested when it is at flowering stage.

Ans
1. is normal

Career Aglasem

Career Aglasem

✗ 2. flowering

✓ 3. The jute plant

✗ 4. when it is

Question ID : **9895808717**
Chosen Option : --

Q.14 Select the most appropriate option to substitute the underlined segment in the given sentence. If there is no need to substitute it, select No substitution required.

The two sisters look quite different in each other.

Ans
✓ 1. different as each other

✗ 2. different with one another

✗ 3. No substitution required

✗ 4. different from each other

Question ID : **9895808719**
Chosen Option : --

Q.15 Select the wrongly spelt word.

Ans
✓ 1. Completely

✗ 2. Concious

✗ 3. Committee

✗ 4. Corruption

Question ID : **9895808738**
Chosen Option : --

Q.16 Select the meaning of the given idiom.

Bring to one's knees

Ans
✗ 1. to request to bend

✓ 2. to force to submit

✗ 3. to support someone

✗ 4. to trouble someone

Question ID : **9895808734**
Chosen Option : --

Q.17 Select the most appropriate word to fill in the blank.

Among the _____ kinds, the most common ant is black or red.

Ans
✗ 1. separate

✓ 2. much

✗ 3. lots of

✗ 4. various

Question ID : **9895808721**
Chosen Option : --

Career Aglasem

Q.18 Select the antonym of the given word.

RELUCTANT

Ans
1. Opposed ✗
2. Unwilling ✓
3. Willing ✗
4. Unenthusiastic ✗

Question ID : **9895808732**
Chosen Option : --

Q.19 Select the most appropriate option to substitute the underlined segment in the given sentence. If there is no need to substitute it, select No substitution required.

Our meals usually have at least one item make of some kinds of grain.

Ans
1. makes of kind ✗
2. made of some kind ✓
3. making of any kinds ✗
4. No substitution required ✗

Question ID : **9895808718**
Chosen Option : --

Q.20 Select the word which means the same as the group of words given.

Someone who wishes to destroy the existing government and laws

Ans
1. Anarchist ✗
2. Patriot ✗
3. Hermit ✓
4. Pacifist ✗

Question ID : **9895808735**
Chosen Option : --

Q.21 Select the synonym of the given word.

MADNESS

Ans
1. Stability ✗
2. Wisdom ✗
3. Insanity ✓
4. Balance ✗

Question ID : **9895808730**
Chosen Option : --

Q.22 Select the most appropriate word to fill in the blank.

I was astounded at his _____ knowledge about the continent of Africa.

Ans
1. Massive ✓
2. Vast ✗

Career Aglasem

✗ 3. Colossal
✗ 4. Grave

Question ID : **9895808739**
Chosen Option : **--**

Q.23 Select the antonym of the given word.

LAMENT

Ans
✗ 1. Grieve
✗ 2. Mourn
✔ 3. Rejoice
✗ 4. Regret

Question ID : **9895808731**
Chosen Option : **--**

Q.24 Select the wrongly spelt word.

Ans
✗ 1. Secretary
✔ 2. Sergeant
✗ 3. Surely
✗ 4. Scenary

Question ID : **9895808737**
Chosen Option : **--**

Q.25 Select the most appropriate word to fill in the blank.

This seems to be a _____ rifle.

Ans
✗ 1. soldier'
✗ 2. soldier
✔ 3. soldier's
✗ 4. soldiers

Question ID : **9895808722**
Chosen Option : **--**

Section : **Hindi Language**

Q.1 'अठखेलियाँ सूझना' मुहावरे का अर्थ है-

Ans
✗ 1. मजाक उड़ाना
✗ 2. व्यंग्य करना
✗ 3. ईर्ष्या करना
✔ 4. दिल्लगी करना

Question ID : **9895806963**
Chosen Option : **1**

Q.2 सही वर्तनी वाले शब्द का चयन करें।

Ans
✔ 1. दिवस
✗ 2. दीवस
✗ 3. दिवश
✗ 4. दीवास

Question ID : **9895806968**
Chosen Option : **1**

Q.3 दिए गए वाक्य में रेखांकित खंड को प्रतिस्थापित करने के लिए उपयुक्त विकल्प का चयन करें।

उसकी शिकायत पूर्णतया सही थी।

Ans
✗ 1. प्रतिशब्द
✔ 2. अक्षरश:
✗ 3. लगभग
✗ 4. अधिकतम

Question ID : **9895806947**
Chosen Option : **3**

Comprehension:

निम्नलिखित गद्यांश के रिक्त स्थानों की पूर्ति गद्यांश के नीचे दिए गए प्रश्नों के अनुसार कीजिए-

किताबें हमारी सबसे अच्छी _____ (1) हैं। किताबें आत्मा और मन के लिए भोजन हैं। पुस्तकें हमारे दुखों में हमें _____ (2) दे सकती हैं और जीवन की चिंताओं को भूलने में मदद कर सकती हैं। ये जीवन में _____ (3) का रहस्य सिखाती हैं। ये जीवन के अंधेरे में _____ (4) दिखाती हैं। ये हमें सिखाती हैं कि बुराई पर अच्छाई की _____ (5) होती है।

SubQuestion No : 4

Q.4 गद्यांश में संकेतित रिक्त स्थान (1) के लिए उपयुक्त शब्द होगा।

Ans
✗ 1. सहकर्मी
✔ 2. दोस्त
✗ 3. दुश्मन
✗ 4. सहपाठी

Question ID : **9895806954**
Chosen Option : **1**

Comprehension:

Career Aglasem

Career Aglasem

निम्नलिखित गद्यांश के रिक्त स्थानों की पूर्ति गद्यांश के नीचे दिए गए प्रश्नों के अनुसार कीजिए-

किताबें हमारी सबसे अच्छी _____ (1) हैं। किताबें आत्मा और मन के लिए भोजन हैं। पुस्तकें हमारे दुखों में हमें _____ (2) दे सकती हैं और जीवन की चिंताओं को भूलने में मदद कर सकती हैं। ये जीवन में _____ (3) का रहस्य सिखाती हैं। ये जीवन के अंधेरे में _____ (4) दिखाती हैं। ये हमें सिखाती हैं कि बुराई पर अच्छाई की _____ (5) होती है।

SubQuestion No : 5

Q.5 गद्यांश में संकेतित रिक्त स्थान (2) के लिए उपयुक्त शब्द होगा।

Ans
✗ 1. वेदना
✗ 2. अशांति
✗ 3. तकलीफ
✓ 4. सांत्वना

Question ID : **9895806955**
Chosen Option : **1**

Comprehension:

निम्नलिखित गद्यांश के रिक्त स्थानों की पूर्ति गद्यांश के नीचे दिए गए प्रश्नों के अनुसार कीजिए-

किताबें हमारी सबसे अच्छी _____ (1) हैं। किताबें आत्मा और मन के लिए भोजन हैं। पुस्तकें हमारे दुखों में हमें _____ (2) दे सकती हैं और जीवन की चिंताओं को भूलने में मदद कर सकती हैं। ये जीवन में _____ (3) का रहस्य सिखाती हैं। ये जीवन के अंधेरे में _____ (4) दिखाती हैं। ये हमें सिखाती हैं कि बुराई पर अच्छाई की _____ (5) होती है।

SubQuestion No : 6

Q.6 गद्यांश में संकेतित रिक्त स्थान (3) के लिए उपयुक्त शब्द होगा।

Ans
✗ 1. दरिद्रता
✗ 2. निष्फलता
✓ 3. सफलता
✗ 4. विफलता

Question ID : **9895806956**
Chosen Option : **3**

Comprehension:

Career Aglasem

निम्नलिखित गद्यांश के रिक्त स्थानों की पूर्ति गद्यांश के नीचे दिए गए प्रश्नों के अनुसार कीजिए-

किताबें हमारी सबसे अच्छी _____ (1) हैं। किताबें आत्मा और मन के लिए भोजन हैं। पुस्तकें हमारे दुखों में हमें _____ (2) दे सकती हैं और जीवन की चिंताओं को भूलने में मदद कर सकती हैं। ये जीवन में _____ (3) का रहस्य सिखाती हैं। ये जीवन के अंधेरे में _____ (4) दिखाती हैं। ये हमें सिखाती हैं कि बुराई पर अच्छाई की _____ (5) होती है।

SubQuestion No : 7

Q.7 गद्यांश में संकेतित रिक्त स्थान (4) के लिए उपयुक्त शब्द होगा।

Ans
✔ 1. रोशनी
✘ 2. आशंका
✘ 3. भ्रम
✘ 4. भय

Question ID : **9895806957**
Chosen Option : **1**

Comprehension:

निम्नलिखित गद्यांश के रिक्त स्थानों की पूर्ति गद्यांश के नीचे दिए गए प्रश्नों के अनुसार कीजिए-

किताबें हमारी सबसे अच्छी _____ (1) हैं। किताबें आत्मा और मन के लिए भोजन हैं। पुस्तकें हमारे दुखों में हमें _____ (2) दे सकती हैं और जीवन की चिंताओं को भूलने में मदद कर सकती हैं। ये जीवन में _____ (3) का रहस्य सिखाती हैं। ये जीवन के अंधेरे में _____ (4) दिखाती हैं। ये हमें सिखाती हैं कि बुराई पर अच्छाई की _____ (5) होती है।

SubQuestion No : 8

Q.8 गद्यांश में संकेतित रिक्त स्थान (5) के लिए उपयुक्त शब्द होगा।

Ans
✘ 1. विजेता
✘ 2. पराजय
✘ 3. अजय
✔ 4. विजय

Question ID : **9895806958**
Chosen Option : **3**

Q.9 रिक्त स्थान को भरने के लिए उपयुक्त शब्द का चयन करें।

लगता है आज _____ होगी।

Ans
✘ 1. सूर्य

Career Aglasem

✗ 2. बादल

✗ 3. दिन

✓ 4. वर्षा

Question ID : **9895806952**
Chosen Option : **4**

Q.10 दिए गए वाक्य में रेखांकित खंड को प्रतिस्थापित करने के लिए उपयुक्त विकल्प का चयन करें।

जीवन में उन्नति चाहते हो तो परिश्रम करो।

Ans
✗ 1. उच्चता

✗ 2. अग्रगण्य

✗ 3. अग्रसर

✓ 4. विकास

Question ID : **9895806946**
Chosen Option : **1**

Q.11 दिए गए वाक्य का वह भाग ज्ञात करें जिसमें कोई त्रुटि है।

कक्षा के सभी छात्र गुरू जी की आदर करते हैं।

Ans
✗ 1. सभी छात्र

✗ 2. कक्षा के

✗ 3. करते हैं।

✓ 4. गुरू जी की आदर

Question ID : **9895806943**
Chosen Option : **4**

Q.12 'डकार जाना' मुहावरे का अर्थ है-

Ans
✗ 1. हानि उठाना

✗ 2. कठिन काम

✓ 3. हड़प लेना

✗ 4. खुलेआम कहना

Question ID : **9895806964**
Chosen Option : **3**

Q.13 'शाश्वत' का विलोम शब्द है-

Ans
✗ 1. चिरंतन

✗ 2. अस्थायी

✓ 3. क्षणिक

✗ 4. स्वस्थ

Question ID : **9895806959**
Chosen Option : **4**

Q.14 दिये गये वाक्यांश के लिए एक शब्द दीजिये।

तीव्र बुद्धि वाला

Ans
1. अल्पबुद्धि
2. दुर्बुद्धि
3. कुशाग्रबुद्धि
4. मंदबुद्धि

Question ID : **9895806966**
Chosen Option : **3**

Q.15 दिये गये वाक्यांश के लिए एक शब्द दीजिये।

रास्ता दिखाने वाला

Ans
1. मार्गदर्शक
2. राहपथिक
3. दूरदर्शी
4. समदर्शी

Question ID : **9895806965**
Chosen Option : **1**

Q.16 दिए गए शब्द के पर्यायवाची शब्द का चयन करें।

खग

Ans
1. पक्षी
2. पशु
3. तोता
4. कबूतर

Question ID : **9895806961**
Chosen Option : **1**

Q.17 दिए गए वाक्य का वह भाग ज्ञात करें जिसमें कोई त्रुटि है।

यदि आप अपनी और अपनी परिवार की भलाई चाहते हो तो यहाँ से चले जाओ।

Ans
1. भलाई चाहते हो
2. यदि आप अपनी
3. तो यहाँ से चले जाओ।
4. और अपनी परिवार की

Question ID : **9895806945**
Chosen Option : **3**

Career Aglasem

Q.18 दिए गए वाक्य का वह भाग ज्ञात करें जिसमें कोई त्रुटि है।

श्याम की खराब स्थिति को देखकर मुझे दुःख और क्षोभ हुए।

Ans
1. श्याम की
2. खराब स्थिति को देखकर
3. और क्षोभ हुए।
4. मुझे दुःख

Question ID : **9895806944**
Chosen Option : **4**

Q.19 दिए गए वाक्य में रेखांकित खंड को प्रतिस्थापित करने के लिए उपयुक्त विकल्प का चयन करें।

जिसने मन रूपी <u>मतवाले</u> हाथी को वश में कर लिया वही सच्चा शूरवीर है।

Ans
1. उद्विग्न
2. मदमस्त
3. व्याकुल
4. आकुल

Question ID : **9895806948**
Chosen Option : **1**

Q.20 रिक्त स्थान को भरने के लिए उपयुक्त शब्द का चयन करें।

एक विद्वान ने परीक्षा की _____ आग से की है।

Ans
1. तुलना
2. अपेक्षा
3. तुल्य
4. उपेक्षा

Question ID : **9895806950**
Chosen Option : **1**

Q.21 दिए गए शब्द का विलोम चुनें।

मांसाहारी

Ans
1. शाकाहारी
2. निरंकारी
3. निराहार
4. बलिहारी

Question ID : **9895806960**
Chosen Option : **1**

Career Aglasem

Q.2 2 दिए गए शब्द के पर्यायवाची शब्द का चयन करें।

विपत्ति

Ans
1. मुसीबत
2. कष्ट
3. जटिल
4. जटा

Question ID : **9895806962**
Chosen Option : **1**

Q.2 3 सही वर्तनी वाले शब्द का चयन करें।

Ans
1. शाक्षर
2. साक्षार
3. साक्षर
4. सक्षर

Question ID : **9895806967**
Chosen Option : **3**

Q.2 4 रिक्त स्थान को भरने के लिए उपयुक्त शब्द का चयन करें।

मैं पौधे _____ रहा हूँ।

Ans
1. लगा
2. भगा
3. जगा
4. खा

Question ID : **9895806951**
Chosen Option : **1**

Q.2 5 रिक्त स्थान को भरने के लिए उपयुक्त शब्द का चयन करें।

आजकल चोरों _____ गिरोह सक्रिय है।

Ans
1. पर
2. से
3. का
4. को

Question ID : **9895806949**
Chosen Option : **3**

Career Aglasem